CADERNO DE QUESTÕES

CONCURSO PÚBLICO
Prefeitura Municipal de Santarém - PA

Edital 001/2023

IVIN
Instituto Vicente Nelson

Engenheiro Ambiental

LEIA ATENTAMENTE AS INSTRUÇÕES SEGUINTES:

01. Este CADERNO contém 50 (cinquenta) questões Objetivas.
02. Quando autorizado, examine se a prova está completa, se há falhas ou imperfeições gráficas que possam causar dúvidas.
03. A prova terá duração de 4 (quatro) horas.
04. Cada questão apresenta 5 (cinco) alternativas, onde apenas UMA é correta.
05. Será ELIMINADO o candidato que estiver portando anotações, impressos, aparelhos eletrônicos etc.
06. Não se comunique, em hipótese alguma, com outros candidatos.
07. O candidato só poderá retirar-se da sala após 1 (uma) hora do início da prova. A saída antecipada poderá ocasionar sua eliminação.
08. O Caderno só poderá ser levado restando 30 (trinta) minutos para o encerramento das aplicações.
09. A interpretação das questões é parte integrante da prova, não sendo permitidas perguntas ao fiscal.
10. Questões que o candidato julgar nula não deverão ser debatidas em sala de aplicação, devendo o candidato argumentar através da Área do Candidato (recurso).
11. Confira seus dados no Cartão-Resposta.
12. Não realize nenhum tipo de preenchimento no cartão, exceto as respostas.
13. Ao terminar a prova, acene para chamar o aplicador e entregue o cartão-resposta devidamente preenchido e assinado.
14. O Cartão-Resposta só será substituído em caso de falha de impressão. O mesmo não poderá ser dobrado, amassado, rasgado ou danificado.
15. O uso do banheiro só será autorizado durante a prova, ao terminá-la, o candidato deverá deixar imediatamente o local de aplicação.

BOA PROVA!

Marcação CORRETA do Cartão Resposta: (A) ● (C) (D) (E)

Nº DE INSCRIÇÃO

IVIN
Instituto Vicente Nelson

Folha de **RASCUNHO** para anotação do gabarito

01	02	03	04	05	06	07	08	09	10	11	12	13	14	15	16	17	18	19	20	21	22	23	24	25

26	27	28	29	30	31	32	33	34	35	36	37	38	39	40	41	42	43	44	45	46	47	48	49	50

ATENÇÃO: Esta parte somente deverá ser **destacada pelo fiscal da sala**, após o término da prova.

COP28 desiste de eliminar combustíveis fósseis e propõe transição

1 Nesta quarta-feira (13), os quase 200 países que participam da 28ª sessão da Conferência das Partes (COP28) da Convenção-Quadro das Nações Unidas sobre a Mudança do Clima (Unfccc) anunciaram a aprovação do texto final do encontro. No documento, é proposta a "transição energética" para a redução do uso de combustíveis fósseis, mas a palavra "eliminação" foi descartada.

2 Dessa forma, o texto da COP28 apela à "transição dos combustíveis fósseis nos sistemas energéticos, de forma justa, ordenada e equitativa, acelerando a ação nesta década crítica, com o objetivo de alcançar a neutralidade de carbono em 2050, de acordo com recomendações científicas".

3 Com isso, a expectativa é limitar o aumento da temperatura a 1,5 °C acima dos níveis pré-industriais, como propõe o Acordo de Paris.

4 Durante a fase de negociações em Dubai, nos Emirados Árabes, um dos debates mais intensos envolveu a possibilidade do texto final da COP28 ter como objetivo a "eliminação progressiva" dos combustíveis fósseis, sendo que estes são os principais responsáveis pelas alterações climáticas do planeta devido à geração dos gases de efeito estufa. Entre eles, estão o petróleo e o carvão mineral.

5 Para os ambientalistas, a conclusão da COP28 pode ter sido aquém das expectativas por esperarem medidas mais enérgicas. Por outro lado, este continua a ser um acordo histórico, já que é a primeira vez em que a maioria dos países concorda com a importância de promover a transição energética, reduzindo a dependência dos combustíveis fósseis.

6 Nas redes sociais, o secretário-geral da Organização das Nações Unidas (ONU), António Guterres, comemorou o acordo histórico viabilizado pela COP28.

7 "Pela primeira vez, há um reconhecimento da necessidade de abandonar os combustíveis fósseis — depois de muitos anos em que a discussão dessa questão esteve impedida", afirmou.

8 "A ciência nos diz que é impossível limitar o aquecimento global a 1,5 °C sem eliminar gradualmente todos os combustíveis fósseis dentro de um prazo compatível com esse limite. O fato foi reconhecido por uma coligação crescente e diversificada de países", acrescentou Guterres.

9 "Quer você goste ou não, a eliminação dos combustíveis fósseis é inevitável. Esperamos que não seja tarde demais", completou o secretário-geral da ONU.

10 Vale lembrar que o Brasil sediará a COP30, em 2025. O encontro deve ocorrer em Belém, no Pará. A expectativa é que diferentes ações para mitigar o aquecimento do planeta já tenham sido adotadas em prol da transição energética.

Extraído de: https://canaltech.com.br/meio-ambiente/cop28-desiste-de-eliminar-combustiveis-fosseis-e-propoe-transicao-273049/ Fonte: The Guardian e Agência Brasil (RTP)

01. Considerando o assunto exposto pelo texto, analise as assertivas a seguir:
I. O texto se refere a uma conferência ocorrida em Dubai que discutiu as mudanças climáticas no planeta.
II. Para o secretário-geral da ONU, o encontro ficou aquém das expectativas por este esperar medidas mais enérgicas.
III. O texto final da COP28 não colocou como objetivo a "eliminação progressiva" dos combustíveis fósseis.
Quais estão corretas?
A) Apenas I.
B) Apenas II.
C) Apenas I e II.
D) Apenas I e III.
E) Apenas II e III.

02. Sobre o texto só é verdadeiro o que se afirma em:
A) Todos os países concordaram com a importância de reduzir a dependência dos combustíveis fósseis.
B) Na conferência todos concordaram que a matriz energética do planeta deve mudar imediatamente.
C) Os combustíveis fósseis são os principais responsáveis pelas alterações climáticas do planeta.
D) O petróleo e o carvão mineral são os responsáveis exclusivos pelo efeito estufa e o aquecimento global.
E) Não houve na conferência um reconhecimento da necessidade de abandonar os combustíveis fósseis.

03. O que torna o acordo viabilizado pela COP28 como histórico é o fato de:
A) A discussão sobre o uso de combustíveis fósseis não ocorrer na plenária final.
B) Todos os países concordarem em extinguir gradativamente os combustíveis fósseis.
C) A matriz energética do mundo finalmente irá mudar de fóssil-animal para fóton-elétrica.
D) Os ambientalistas terem assegurado os avanços esperados pela ciência em relação ao clima.
E) Pela primeira vez, houve um reconhecimento da necessidade de abandonar os combustíveis fósseis.

04. Atente para o seguinte trecho "*Com isso, a **expectativa** é limitar o aumento da temperatura a 1,5 °C...*" (3° parágrafo).
Considerando a palavra destacada, analise as assertivas a seguir, assinalando V, se verdadeiras, ou F, se falsas:

( ) As letras "ct" formam na grafia da palavra um morfema lexical.
( ) Trata-se de um verbo transitivo indireto numa forma nominal: o particípio.
( ) Um sinônimo possível para a palavra em negrito seria "expectação".

A ordem correta de preenchimento dos parênteses, de cima para baixo, é:
A) V – F – V.
B) V – F – F.
C) V – V – F.
D) F – V – F.
E) F – F – V.

05. Sobre a passagem "*A ciência nos diz que é impossível **limitar** o aquecimento global a 1,5 °C...* (8°parágrafo), assinale a opção que apresenta a palavra que não poderia substituir corretamente o vocábulo em destaque por provocar alterações significativas:
A) Ensanchar.
B) Demarcar.
C) Circunscrever.
D) Restringir.
E) Confinar.

06. Assinale a opção que indica o correto recurso estilístico presente no trecho a seguir: "Quer você goste ou não, a eliminação dos combustíveis fósseis é inevitável. Esperamos que não seja tarde **demais**" (9°parágrafo).
A) Gradação.
B) Pleonasmo.
C) Hipérbole.
D) Prosopopeia.
E) Metonímia.

07. No trecho "*A ciência **nos** diz que é impossível limitar o aquecimento global...*" (9°parágrafo), o pronome oblíquo foi empregado no modo de próclise. Considerando as regras de colocação pronominal, assinale a opção na qual a próclise tenha sido empregada incorretamente:
A) Jamais me peça para eliminar os combustíveis fósseis.
B) Este é o local onde te mostraremos o documento assinado na COP28.
C) Me entregou a carta assinada por todos os participantes da COP28.
D) O ambientalista disse que talvez se mude de ideia sobre os combustíveis fósseis.
E) Os países da OPEP nunca nos ajudaram.

08. Assinale a opção que indica a correta função sintática do termo sublinhado na oração a seguir: "***O encontro** deve ocorrer em Belém, no Pará.*" (10° parágrafo)
A) Aposto.
B) Objeto direto.
C) Objeto indireto.
D) Sujeito.
E) Predicativo do sujeito.

09. A opção que contém um trecho do texto em discurso direto é:
A) *"O fato foi reconhecido por uma coligação crescente e diversificada de países."*
B) *Para os ambientalistas, a conclusão da COP28 pode ter sido aquém das expectativas...*
C) *Nas redes sociais, o secretário-geral da Organização das Nações Unidas (ONU), António Guterres, comemorou o acordo.*
D) *...estes são os principais responsáveis pelas alterações climáticas do planeta devido à geração dos gases de efeito estufa.*
E) *Vale lembrar que o Brasil sediará a COP30.*

10. Tendo em vista as relações que regem o período composto, assinale a opção que indica a função sintática exercida pela oração sublinhada no trecho a seguir: "*Esperamos* ***que não seja tarde demais***". (9°parágrafo)
A) Vocativo.
B) Objeto indireto.
C) Sujeito.
D) Complemento nominal.
E) Objeto direto.

11. Considerando o emprego dos pronomes, analise as assertivas sobre o trecho a seguir:

"[...] *sendo que estes são os principais responsáveis pelas alterações climáticas do planeta devido à geração dos gases de efeito estufa*". (4°parágrafo)

I. Identificam-se três pronomes oblíquos no trecho.
II. Um dos pronomes presentes no trecho exerce a função de complemento nominal.
III. Não se identificam pronomes interrogativos no trecho.

Qual(is) está(ão) correta(s)?
A) Apenas I.
B) Apenas III.
C) Apenas I e II.
D) Apenas I e III.
E) Apenas II e III.

12. Considerando o emprego do acento indicativo de crase, assinale a opção que preenche, correta e respectivamente, as lacunas da seguinte frase:

___ proporção que não se diminui o uso de combustíveis fósseis, mais teremos que buscar___ pressas outra solução viável.

A) às – as.
B) as – às.
C) à – às.
D) a – a.
E) às – às.

13. O emprego da mesóclise só foi realizado corretamente na opção:
A) Os cientistas jamais dar-lhe-iam falsas esperanças sobre as mudanças climáticas.
B) Nunca lamentar-se-ia dos combustíveis fósseis terem ganhado a guerra.
C) Rapidamente mudar-se-á de ideia sobre a nova matriz energética do planeta.
D) Contar-lhe-emos toda a verdade sobre a COP28.
E) Quem procurar-nos-á para saber sobre a COP28?

14. Sobre o trecho "[...] *o objetivo de alcançar a* ***neutralidade*** *de carbono em 2050*" (2° parágrafo), o processo de formação do vocábulo destacado foi:
A) Composição por justaposição.
B) Derivação regressiva.
C) Derivação imprópria.
D) Hibridismo.
E) Derivação sufixal.

15. No trecho "*No documento, é proposta a "transição* ***energética***". (1º parágrafo), o termo em destaque foi acentuado pela mesma razão formal que:
A) Climáticas.
B) Combustíveis.
C) Fósseis.
D) Países.
E) Responsáveis.

Informática Básica

Questões De 16 a 25

16. "O modo de suspensão é um modo utilizado para economia de energia em um laptop. Tecnicamente, o computador permanece ligado, mas todas as ações dele são interrompidas e todos os documentos e aplicativos abertos são armazenados na memória, possibilitado ao usuário retomar as operações normalmente quando desejar de forma rápida." A ativação/configuração deste recurso pode ser realizada a partir do caminho:

A) Botão do Windows – Configurações – Personalização – Energia e Suspensão.
B) Botão do Windows – Configurações – Aplicativos – Energia e Suspensão.
C) Botão do Windows – Configurações – Sistemas – Energia e Suspensão.
D) Botão do Windows – Configurações – Atualização e Segurança – Energia e Suspensão.
E) Botão do Windows – Configurações – Privacidade – Energia e Suspensão.

17. Um usuário estando com o Explorador de Arquivos do Windows 10, selecionou um determinado arquivo contido em uma pasta armazenado no HD de uma máquina (o arquivo não encontra-se aberto no momento dessa ação) e pressionou as teclas "Shift + Delete". Após a realização dessa ação, o referido arquivo:

A) Terá seu nome deletado, possibilitando renomear o mesmo.
B) Será enviado para a lixeira.
C) Será excluído permanentemente, sem ser enviado para a lixeira.
D) Irá receber o nome Delete.
E) Será deletado e enviado para o Google Drive.

18. Um usuário comprou uma impressora, e para que ela funcione corretamente fez um download do driver de instalação no site do fabricante dessa impressora. Desta maneira, esse software de instalação da impressora é um software que pode ser classificado como um:

A) Software Aplicativo.
B) Software Utilitário.
C) Software de Sistemas Operacional.
D) Software Básico.
E) Software de código fonte.

19. Plataforma de produtividade com energia na nuvem da Microsoft onde por meio de uma assinatura é possível ter acesso aos aplicativos de produtividade mais recentes, como Microsoft Teams, Word, Excel, PowerPoint, Outlook, OneDrive:

A) Microsoft Office
B) Microsoft Access
C) Microsoft Chrome
D) Microsoft Media Player
E) Microsoft 365

20. Ao utilizar o Microsoft Excel 2019 como ilustrado na imagem a seguir, estando selecionada a célula A2, um usuário pressiona o botão . Após a realização dessa ação, o resultado obtido será:

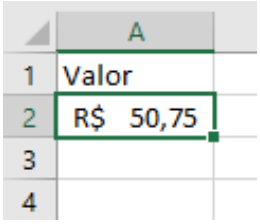

A) 50,75
B) R$ 50,7
C) R$ 50,750
D) 50,750
E) 50,7%

21. Os recursos apresentados na imagem são aplicativos disponíveis em qual dos navegadores listados a seguir:

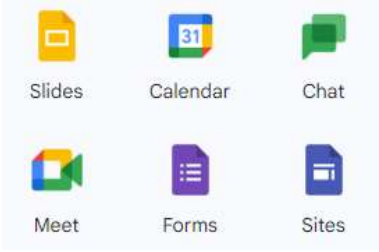

A) Internet Explorer
B) Opera
C) Microsoft Edge
D) Google Chrome
E) Firefox

22. Baseado na imagem apresentada do Microsoft Excel 2019, qual será o resultado obtido da fórmula "=SOMA(A1;B1;C1)" digitada na célula D1:

	A	B	C	D
1	10	R$ 19,00	20	
2	10	R$ 82,00	30	
3	15	R$ 25,00	40	
4	18	R$ 6,00	50	
5				

A) R$ 35,00
B) 35
C) 49
D) R$ 49,00
E) 50

23. Os comandos de teclado que permitem por meio do mesmo ativar as funções de alinhamento a Esquerda, Centralizado, Direita e Justificado (na mesma ordem apresentada) no Microsoft Word 2019 são:

A) CTRL+Q / CTRL+E / CTRL+G / CTRL+J
B) CTRL+E / CTRL+J / CTRL+G / CTRL+Q
C) CTRL+Q / CTRL+E / CTRL+J / CTRL+C
D) CTRL+C / CTRL+E / CTRL+G / CTRL+V
E) CTRL+E / CTRL+I / CTRL+G / CTRL+J

24. Os itens exibidos na imagem abaixo fazem parte de qual guia no Microsoft Word 2019?

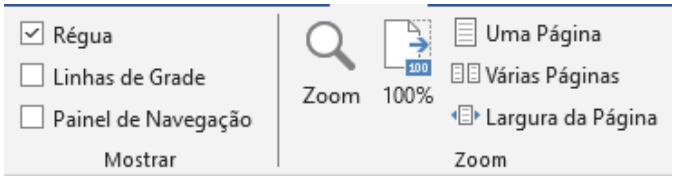

A) Layout
B) Desenhar
C) Exibir
D) Inserir
E) Revisão

25. No Explorador de Arquivos do Windows 10, um usuário deseja selecionar todo conteúdo existente em uma pasta, para isso ele deve fazer uso do comando:
A) CTRL+T
B) ALT+T
C) CTRL+A
D) ALT+A
E) CTRL+U

Conhecimentos Específicos

Questões De 26 a 50

26. Presentes na natureza, os elementos químicos nutrientes são denominados como macronutrientes, micronutrientes e construtores sendo essenciais no processo metabólico dos seres vivos. De acordo com a informação, assinale a alternativa que apresenta exemplos de micronutrientes:
A) Magnésio, Nitrogênio, Cobalto, Enxofre e Fósforo.
B) Manganês, Enxofre, Cálcio, Fósforo e Ferro.
C) Nitrogênio, Cobre, Magnésio, Cloro e Zinco.
D) Cálcio, Magnésio, Enxofre, Cloro e Fósforo.
E) Zinco, Cobre, Manganês, Ferro e Cobalto.

27. Nos ciclos biogeoquímicos, as micorrizas arbusculares mantém uma relação de mutualismo simbiótico com as raízes das plantas desempenhando um papel significativo na amonização além de auxiliar no ecossistema solo-vegetal. Acerca do assunto, assinale a alternativa que apresenta uma espécie de micorriza arbuscular:
A) *Rhizopogon nigrescens.*
B) *Amanita* sp.
C) *Acaulospora scrobiculata.*
D) *Scleroderma citrinum*.
E) *Boletus* sp.

28. Acerca de uma situação de acidente envolvendo transporte rodoviário de produtos perigosos, dependendo das características das substâncias, podem provocar diferentes impactos, ocorrendo danos e prejuízos ao meio ambiente e saúde pública, entre outros problemas. Neste momento se faz necessário o conhecimento da classificação dos riscos dos produtos perigosos. De acordo com a classificação da ONU dos riscos dos produtos perigosos, assinale a alternativa incorreta:

A) Pertencentes à Classe 5 e denominadas Substâncias Oxidantes e Peróxidos Orgânicos, são definidas como substâncias capazes de provocar morte, lesões graves ou danos à saúde humana, se ingeridas ou inaladas, ou se entrarem em contato com a pele.

B) Qualquer material ou substância que contenha radionuclídeos, cuja concentração de atividade e atividade total na expedição, exceda os valores especificados, são denominados como Material Radioativo e pertence à Classe 7.

C) Classificadas como Substâncias Corrosivas e pertencentes à Classe 8, caracterizam pela ação química que provoca severos danos quando em contato com tecidos vivos ou, em caso de vazamento, danificam ou mesmo destroem outras cargas ou o próprio veículo.

D) Substâncias e Artigos Perigosos Diversos pertence à Classe 9 são denominados como aqueles que apresentam, durante o transporte, um risco não abrangido por nenhuma das outras classes.

E) Classificado como Explosivos e pertencente à Classe 1, incluem as substância e artigos com risco de projeção, mas sem risco de explosão em massa.

29. Sobre a logística reversa, analise as assertivas abaixo, julgue-as e assinale a alternativa correta:

I. A logística reversa possibilita a redução de resíduos sólidos, em virtude da operacionalização do retorno deles as organizações para serem reaproveitados, evitando serem jogados de forma indiscriminada em lixões e aterros sanitários contribuindo para o aumento de resíduos nesses locais.

II. Para que a prática da logística reversa seja eficiente, é necessária a participação de toda a sociedade no que tange a responsabilidade sobre os resíduos gerados por suas ações.

III. A logística reversa é definida como um ato administrativo empregado para o desenvolvimento econômico e social que objetiva ações destinadas ao retorno dos resíduos sólidos ao setor empresarial para que eles sejam reaproveitados em novos ciclos produtivos ou tenham destinação final ambientalmente adequada.

IV. Para a garantia da correta destinação de resíduos, como por exemplo, pilhas e baterias se fazem necessário o conhecimento das etapas a serem adotadas em um sistema de logística reversa como coleta, armazenagem, transporte, classificação, descaracterização e processamento, facilitando o aproveitado de metais e não metais presente em suas composições a partir de tecnologias específicas.

A) Apenas I e II estão corretas.
B) Apenas II e III estão corretas.
C) Apenas II e IV estão corretas.
D) Apenas I, II e III estão corretas.
E) Apenas I, III e IV estão corretas.

30. De acordo com a Organização Meteorológica Mundial, este gênero de nuvem é caracterizado por uma camada baixa, extensa e cinzenta de nuvens, de aspecto geralmente sombrio, que não permite observar o disco solar e cuja porção inferior é difusa devido à chuva que cai continuamente. Quase sempre provoca redução da visibilidade devido à chuva. Assinale a alternativa que denomina o gênero da nuvem descrita:

A) Cirrostrato (Cs).
B) Nimbostrato (Ns).
C) Estratocúmulo (Sc).
D) Altostrato (As).
E) Altocúmulo (Ac).

31. Acerca da quantificação das precipitações, analise as assertivas, julgue-as e em seguida assinale a alternativa correta:

I. Geralmente a quantidade de precipitação é representada pelo termo da espessura da camada d'água produzida sobre uma superfície horizontal, plana e impermeável.

II. A intensidade da precipitação é expressa pela quantidade de água caída por unidade de tempo e expressa em mm por hora.

III. Uma precipitação de 20 mm equivale à queda de 20 litros de água por metro cúbico de projeção da área.

A) Apenas I está correta.
B) Apenas II está correta.
C) Apenas III está correta.
D) Apenas I e II estão corretas.
E) Apenas II e III estão corretas.

32. Na literatura são elencadas diversas definições sobre rochas, entre elas: Rochas são agregados consolidados de minerais, formados por diversos processos da dinâmica terrestre, entre eles, a composição química da rocha e teor de sílica, (ANDRADE et al. 2009). Sobre a classificação das rochas baseadas nos parâmetros empregados na avaliação de teores de sílica presente no estado de cristalização da estrutura cristalina das rochas, assinale a alternativa que não corresponde a uma das categorias de classificação:

A) Holocristalina.
B) Holoialina.
C) Criptocristalina.
D) Hipercristalina.
E) Hipocristalina.

33. As rochas sedimentares são provenientes da consolidação de sedimentos e podem ser classificadas em clásticas e químicas conforme a origem dos sedimentos que as constituem. Sobre o assunto, são exemplos de rochas sedimentares, exceto:

A) Argilito.
B) Quartzito.
C) Conglomerado.
D) Arenito.
E) Calcário.

34. Em conformidade com as classes de solos encontradas no Brasil de acordo com o Sistema Brasileiro de Classificação de Solos, assinale a alternativa que caracteriza a classe Espodossolos:

A) São solos minerais não hidromórficos providos de horizonte subsuperficial diagnóstico textural (Bt) imediatamente abaixo de qualquer tipo de horizonte A, normalmente está associados às áreas de relevos ondulados a forte ondulados.

B) São solos com presença de horizontes de constituição orgânica (H ou O), altos teores de matéria orgânica, podem ter seu potencial de uso afetado por drenagem excessiva ou mal conduzida.

C) São solos providos de horizonte diagnóstico B incipiente, podem ser distróficos ou eutróficos, possuem baixa a alta atividade da argila e normalmente apresentam baixa permeabilidade.

D) São solos constituídos por material mineral, não hidromórfico, são velhos com horizonte B com estrutura desenvolvida com superfícies brilhantes no horizonte B.

E) São solos com alto teor de areia, que apresentam horizonte diagnóstico B em sequência a horizonte E (álbico ou não) ou horizonte A, são indicados para áreas de conservação ambiental.

35. De acordo com os órgãos ambientais oficiais, os sistemas hídricos são ordenados de acordo com o uso dos mananciais e o tipo de corpo d'água, sendo assim, as águas salobras são caracterizadas por apresentar:

A) Salinidade superior a 30 %.
B) Salinidade inferior a 50 %.
C) Salinidade igual ou inferior a 0,5 % e 30 %.
D) Salinidade igual ou superior a 0,5 % e 30 %.
E) Salinidade igual ou inferior a 0,5 % e 50 %.

36. O Bioma Amazônia é considerado o maior do Brasil, sendo responsável por abrigar uma infinidade de espécies vegetais e animais. Assinale a alternativa que constitui a vegetação deste bioma:

A) Floresta Ombrófila Densa.
B) Floresta Ombrófila Mista.
C) Floresta Estacional Caducidófila.
D) Floresta Estacional Semidecidual.
E) Floresta Estacional Decidual.

37. Sobre a licença de operação, analise e julgue as proposições abaixo e assinale a alternativa correta:
I. É concedida após a verificação, pelo órgão ambiental, do efetivo cumprimento das condicionantes estabelecidas nas licenças prévia e de instalação.
II. Inclui as medidas de controle ambiental que servirão de limite para o funcionamento do empreendimento ou atividade.
III. Estabelece medidas de controle ambiental, com vistas a garantir que a fase de implantação do empreendimento obedecerá aos padrões de qualidade ambiental estabelecidos em lei ou regulamentos.
A) Todas estão corretas.
B) Somente II está correta
C) Somente I e III estão corretas.
D) Somente II e III estão corretas.
E) Somente I e II estão corretas.

38. Este documento deverá ser apresentado de forma objetiva e adequada a sua compreensão. As informações devem ser traduzidas em linguagem acessível, ilustradas por mapas, cartas, quadros, gráficos e demais técnicas de comunicação visual, de modo que se possam entender as vantagens e desvantagens do projeto, bem como todas as consequências ambientais de sua implementação. De acordo com informações, o documento denomina-se:
A) Relatório Ambiental Rural.
B) Relatório de Impacto Ambiental.
C) Relatório Ambiental Preliminar.
D) Estudos de Impacto Ambiental.
E) Cadastro Ambiental Rural.

39. Trata-se da medição dos impactos da ação humana sobre a natureza, verificando a quantidade de área bioprodutiva necessária para preencher a demanda das pessoas por recursos naturais e para a absorção do carbono. O texto se refere ao conceito ambiental:
A) Pegada ecológica.
B) A degradação ambiental.
C) A interferência ecológica.
D) A sucessão ecológica.
E) A resiliência ambiental.

40. Nos lixões, resíduos de todos os tipos, são depositados e misturados, entre eles: os domiciliares, urbanos, industriais e hospitalares e sem qualquer controle de geração ou acesso. São tipos de lixos, exceto:
A) Rejeito.
B) Seco.
C) Perigoso.
D) Aglomerado.
E) Úmido.

41. Sobre nichos, analise as proposições, julgue-as em verdadeiro (V) ou falso (F) e assinale a alternativa que contém a sequência do correto julgamento:
( ) Denomina-se nicho ecológico o ambiente onde vivem e desenvolvem organismos, sendo representado pelo conjunto de fatores bióticos e abióticos.
( ) O nicho fundamental é caracterizado pelo conjunto de condições que garante a existência de uma espécie em particular.
( ) Denomina-se nicho efetivo a expressão do conjunto de condições em que um organismo pode viver na presença de outros organismos.
A) V – V – F.
B) V – F – V.
C) F – V – V.
D) F – F – V.
E) F – V – F.

42. Ao que tange sobre a gestão ambiental (ISO 14001), a organização deverá prezar pelo procedimento que trata das não conformidades reais e potenciais e sua ação na prática de ações corretivas e preventivas. Desta forma, na execução dos procedimentos são empregados requisitos, exceto:
A) Registrar os resultados da(s) ação(ões) corretiva(s) e preventiva(s) executada(s).
B) Prevenir a utilização intencional de documentos obsoletos e utilizar identificação adequada nestes, se forem retidos para quaisquer fins.
C) Identificar e corrigir a(s) não conformidade(s) e executar ações para mitigar seus impactos ambientais.
D) Analisar a eficácia da (s) ação(ões) corretiva(s) e preventiva(s) executada(s).
E) Avaliar a necessidade de ação(ões) para prevenir não conformidades e implementar ações apropriadas para evitar sua ocorrência.

43. De acordo com a Lei Federal nº 12.651/2012, área urbana consolidada é aquela que atende os seguintes critérios, exceto:
A) Apresentar uso predominantemente urbano, caracterizado pela existência de edificações residenciais, comerciais, industriais, institucionais, mistas ou direcionadas à prestação de serviços.
B) Dispor de equipamentos de infraestrutura urbana implantados para esgotamento sanitário.
C) Dispor de sistema viário implantado.
D) Estar incluída no perímetro urbano ou em zona urbana pelo plano diretor ou por lei municipal específica.
E) Conter a erosão do solo e mitigar riscos de enchentes e deslizamentos de terra e de rocha.

44. Conforme disposto na Lei Federal nº 12.651/2012, em que, mediante anuência do órgão ambiental competente, o proprietário rural renuncia voluntariamente, em caráter temporário ou permanente, total ou parcialmente, a direito de uso, exploração ou supressão de recursos naturais existentes na propriedade, trata-se da:
A) Reserva Legal.
B) Área de Proteção Ambiental.
C) Área de Preservação Permanente.
D) Servidão ambiental.
E) Unidades de Conservação.

45. Sobre as fontes energéticas renováveis, analise atentamente as afirmações sobre biomassa, julgue-as e assinale a alternativa correta:
I. A biomassa empregada como fonte de energia renovável provém de fontes naturais como madeira, plantas, resíduos agrícolas e animais, e não podem ser reciclados.
II. A biomassa tem custos reduzidos quando comparado com outras fontes de energia, como o petróleo e o gás natural.
III. Uma das vantagens da produção de energia através da biomassa, é que mesmo utilizada de inadequada não gera gases de efeito estufa e outros poluentes no meio ambiente.
IV. A biomassa apresenta baixa eficiência de conversão de energia quando colacionado com outras fontes de energia, como por exemplo, a energia nuclear.
A) Apenas I e III estão corretas.
B) Apenas II e IV estão corretas.
C) Apenas II e III estão corretas.
D) Apenas I, III e IV estão corretas.
E) Apenas II, III e IV estão corretas.

46. Oséias é servidor de determinado órgão público do Município de Santarém-PA e cometeu conduta considerada falta grave. Sabendo que o fato cometido por Oséias é passível de suspensão e foi cometido em janeiro de 2022, à luz do Regime Jurídico Único dos Servidores Públicos Municipais de Santarém (Lei Municipal nº 14.899/94), é correto dizer que a aplicação da penalidade sobre a conduta de Oséias prescreverá em:
A) Julho de 2022.
B) Janeiro de 2023.
C) Janeiro de 2024.
D) Janeiro de 2027.
E) Janeiro de 2032.

47. Acerca das regras do direito de petição previstas no Regime Jurídico Único dos Servidores Públicos Municipais de Santarém (Lei Municipal nº 14.899/94), assinale a alternativa correta:
A) O recurso deve ser interposto no prazo máximo de dez dias.
B) O indeferimento do pedido de reconsideração é suscetível a impugnação por meio de recurso.
C) Quando cabíveis, o prazo para a interposição do pedido de reconsideração é de dez dias e do recurso é de quarenta e cinco dias.
D) O recurso tem efeito suspensivo, mas não poderá fazer retroagir seus efeitos.
E) Prescreve em dez anos o direito de petição.

48. São exemplos de hipóteses autorizadas pelo Regime Jurídico Único dos Servidores Públicos Municipais de Santarém (Lei Municipal nº 14.899/94) de admissão de pessoal temporário, exceto:
A) O combate da epidemia de Covid-19.
B) O esforço municipal para atualização dos cadastros de imóveis, a ser realizado por meio de cadastramento.
C) A ausência de professor da rede pública municipal de ensino, em razão de inexistência de docentes disponíveis para substitui-lo.
D) Uma palestra para servidores municipais por um profissional de notória especialização.
E) A necessidade de suprir a falta permanente de pessoal para realizar o atendimento em unidade básica de saúde.

49. Acerca da responsabilização do servidor público, à luz do Regime Jurídico Único dos Servidores Públicos Municipais de Santarém (Lei Municipal nº 14.899/94), assinale a alternativa correta:

A) O servidor que for responsabilizado por adquirir materiais em desacordo com as disposições legais e regulamentares deverá arcar com o custo de tais materiais, vedado, em qualquer caso, o desconto da remuneração do servidor pela Administração.

B) O servidor que for condenado a indenizar à Fazenda Pública por ato considerado doloso deverá repor ao erário a importância do prejuízo causado, o qual deverá ser pago parcelado no período de até um ano.

C) Nos casos em que a lei autoriza o desconto em folha da importância da indenização devida por servidor, ele não poderá ser superior a 10% do valor do vencimento ou remuneração.

D) O servidor que for condenado a indenizar à Fazenda Pública por ato considerado culposo deverá repor ao erário, de uma só vez, a importância do prejuízo causado.

E) A omissão no desempenho de cargo ou função não é hipótese prevista para a configuração de responsabilidade administrativa.

50. Rogério é servidor público municipal de Santarém-PA. Em setembro de 2023, Rogério foi deslocado de uma referência para outra dentro de uma mesma classe, com base no critério de antiguidade. De acordo com o Plano de Cargos, Carreiras e Vencimentos da Administração Pública de Santarém-PA (Lei nº 16.060/98), assinale a alternativa correta:

A) Rogério foi beneficiado com uma promoção horizontal.

B) Rogério foi promovido por antiguidade, em virtude de não ser aceita, pela modalidade de promoção recebida por Rogério, a promoção por merecimento.

C) Rogério foi beneficiado com uma promoção transversal.

D) Para o tipo de promoção recebida por Rogério, é necessário um interstício de três anos entre cada deslocamento funcional.

E) Pode-se dizer que Rogério foi promovido porque passou por avaliação de desempenho, apurada mediante indicadores práticos de desempenho, a qual constitui requisito indispensável para o tipo de promoção recebida por Rogério.