Autarquia Educacional do Vale do São Francisco – AEVSF
Faculdade de Petrolina – FACAPE
Prefeitura Municipal de Sobradinho – Estado da Bahia

CONCURSO PÚBLICO PARA PREENCHIMENTO DE CARGOS EFETIVOS

AUXILIAR DE SAÚDE BUCAL

CADERNO DE PROVA 26

Data de aplicação: **18/02/2024**

1. Ao receber este Caderno, aguarde a autorização do Fiscal de Sala e em seguida confira se ele contém 30 (trinta) questões objetivas numeradas sequencialmente de 1 a 30, cada uma com 5 (cinco) alternativas indicadas pelas letras 'A' a 'E', das quais, somente uma corresponderá à resposta certa para a questão.

2. **ATENÇÃO!** A Folha de Respostas será entregue oportunamente pelos Fiscais de Sala. Ao recebê-lo, assine-o.

3. Na Folha de Respostas marque a letra correspondente à resposta correta para a questão conforme o seu julgamento, utilizando **caneta esferográfica de tinta azul ou preta**, conforme exemplo abaixo:

ATENÇÃO! *A marcação de mais de uma alternativa anula a questão, mesmo que uma das respostas esteja correta.*

4. O tempo total para a resolução da prova e preenchimento da Folha de Respostas é de 3 (três) horas. Ao terminar as provas, entregue ao Fiscal de Sala a Folha de Respostas, e assine a Lista de Presença.

5. As provas, os gabaritos, os resultados e as demais informações referentes ao Concurso Público, serão divulgados no site oficial da FACAPE: *www.facape.br*, conforme previsto no Edital N° 01/2023.

6. O candidato só poderá sair da Sala com o Caderno de Prova após 2 (duas) horas e 30 (trinta) minutos do início da aplicação da prova.

Boa prova!

LÍNGUA PORTUGUESA – NM100

QUESTÃO 01

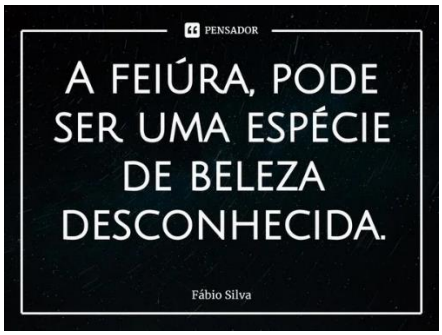

https://www.pensador.com

Na frase, acima, ocorre um desvio linguístico referente à:

A) grafia de uma palavra.
B) regência nominal.
C) concordância verbal.
D) regência verbal.
E) acentuação gráfica.

QUESTÃO 02

https://aloalobahia.com

Na campanha publicitária, está explícito no texto verbal e não verbal que predomina uma função da linguagem que:

A) utiliza, através de linguagem conotativa, uma combinação de palavras para esclarecer a importância do meio ambiente.
B) apela, através da conscientização das pessoas, pela preservação da vida marinha.
C) transmite emoções e sentimentos sobre a preservação do polvo.
D) valoriza o caráter informativo da linguagem, visto que foi baseada em fatos reais.
E) usa uma mensagem implícita como uma forma sutil de incentivar o comportamento das pessoas em relação à preservação dos mares.

QUESTÃO 03

"Em tempos em que quase ninguém se olha nos olhos, em que a maioria das pessoas pouco se interessa pelo que não lhe diz respeito, só mesmo agradecendo àqueles que percebem nossas descrenças, indecisões, suspeitas, tudo o que nos paralisa, e gastam um pouco da sua energia conosco, insistindo."

Martha Medeiros

"Faça o que for necessário para ser feliz. Mas não se esqueça de que a felicidade é um sentimento simples, você pode encontrá-la e deixá-la ir embora por não perceber sua simplicidade.".

Martha Medeiros

Sobre os aspectos linguísticos dos textos, acima, assinale a alternativa INCORRETA.

A) Na frase "Em tempos em que quase ninguém se olha nos olhos..." a palavra "ninguém" está acentuada porque é oxítona, possui mais de uma sílaba e termina com o ditongo nasal "em".
B) Na passagem "...àqueles que percebem nossas descrenças, indecisões, suspeitas...", o emprego do "que" inicia uma oração com valor semântico de restrição.
C) Em "...tudo o que nos paralisa...", o vocábulo "paralisa" deveria estar grafado com "z" e não com "s".

D) A passagem "Mas não se esqueça de que a felicidade é um sentimento simples..." contradiz a expectativa da oração anterior.
E) As formas verbais "encontrá-la" e "deixá-la" retomam a palavra "felicidade".

QUESTÃO 04

"O reservatório de Sobradinho tem cerca de 320 km de extensão, com uma superfície de espelho d'água de 4.214 km2 e uma capacidade de armazenamento de 34,1 bilhões de metros cúbicos em sua cota nominal de 392,50 m, constituindo-se no maior lago artificial do mundo, garantindo assim, através de uma depleção de até 12 m, juntamente com o reservatório de Três Marias/CEMIG, uma vazão regularizada de 2.060 m3/s nos períodos de estiagem, permitindo a operação de todas as usinas da CHESF situadas ao longo do Rio São Francisco."

https://www.chesf.com.br

Sobre o texto, pode-se afirmar que:

A) a palavra "reservatório", no contexto, é vazia de significação.
B) no trecho "...com uma superfície de espelho d'água de 4.214 km2 e uma capacidade <u>de armazenamento</u> de 34,1 bilhões de metros cúbicos em sua cota nominal...", a palavra sublinhada completa a significação do termo "capacidade". Esse processo é denominado regência verbal.
C) as palavras "através" e "situadas" têm valor subordinativo de causa.
D) na passagem "...constituindo-se no maior lago artificial do mundo...", o adjetivo "artificial" é um determinante do substantivo "lago", portanto ocorre o processo de construção denominado concordância nominal.
E) o autor empregou a expressão "períodos de estiagem" com o propósito de demonstrar para o leitor a dificuldade de manter o funcionamento da usina.

QUESTÃO 05

Na campanha da Secretaria Municipal da Assistência Social de Sobradinho "É Tempo de Cuidar! Aqueça Seus Corações Com Amor e Empatia", predomina a seguinte função da linguagem:

A) referencial.
B) metalinguística.
C) fática.
D) conativa.
E) emotiva.

QUESTÃO 06

Todas as alternativas abaixo estão corretas quanto à concordância verbal, EXCETO:

A) A gratidão é horizontal, lado a lado. Nunca foi, não é, nem será alguma coisa de baixo para cima ou de cima para baixo.
B) Preencha a ausência da presença com a lembrança dos momentos compartilhados nas horas alegres, e confie no reencontro feliz.
C) Há um quê de nobreza, de olho no olho, de igualdade e reconhecimento da alma, do espírito e do pensamento daquele a quem devemos ou de quem somos alvos de gratidão.
D) O dicionário responde a todas as curiosidades e tem caminhos para todas as filosofias. Vemos as famílias de palavras, longas, acomodadas na sua semelhança, e de repente, os vizinhos tão diversos! Nem sempre elegantes, nem sempre decentes, mas obedecendo à lei das letras.

E) O sol da manhã estimula a produção de Serotonina, que acalmam e equilibram os sentimentos. O resultado desta combinação é um a aparência mais saudável e bonita.

QUESTÃO 07

"Esquenta-me com a tua .....de mim, compreende-me porque eu não estou me compreendendo. Estou somente amando a barata. E é um amor infernal."

Clarice Lispector

Assinale a alternativa que preenche CORRETAMENTE a lacuna do trecho transcrito acima.

A) advinhação
B) advinhassão
C) adivinhação
D) adevinhação
E) adivinhassão

QUESTÃO 08

https://ndmais.com.br

Nessa charge, o autor faz uso da figura de linguagem conhecida como:

A) hipérbole.
B) pleonasmo.
C) eufemismo.
D) prosopopeia.
E) aliteração.

QUESTÃO 09

"O município foi idealizado inicialmente para servir de acampamento aos trabalhadores, para que eles pudessem construir a barragem. Porém, após a construção, muitas famílias decidiram adotar o lugar como moradia e assim fixaram habitação na cidade em uma das suas vilas. Depois foram povoados os municípios de São Joaquim, São Francisco, Santana e depois o município de Sobradinho."

https://www.guiadoturismobrasil.com

Na oração "...<u>para que</u> eles pudessem construir a barragem.", o coesivo sublinhado traduz valor semântico de:

A) finalidade.
B) condição.
C) adversidade.
D) conclusão.
E) causa.

QUESTÃO 10

Assinale a alternativa em que a frase foi construída na voz passiva.

A) "O lago de Sobradinho é o segundo maior lago artificial do mundo e o primeiro da América Latina...".
B) "Devemos manter a nossa certeza de que depois dos dias ruins, os bons virão novamente.".
C) "Os resultados são obtidos através da exploração de oportunidades, não pela solução de problemas.".
D) "Se você quer construir um negócio, construa primeiro as pessoas.".
E) "O acusado foi denunciado pela prática de um crime de estelionato...".

MATEMÁTICA – NM200

QUESTÃO 11

Quatro amigos realizaram o sonho de ganhar um grande prêmio em uma loteria. Para isso, eles reuniram a quantia necessária para fazer a aposta da seguinte forma: um deles contribuiu com R$ 30,00, dois deles contribuíram com R$ 50,00 cada um, e o quarto amigo contribuiu com R$ 70,00. Combinaram que o prêmio seria dividido entre eles, em partes diretamente proporcionais à quantia que cada um contribuiu. Se o grande prêmio que eles ganharam foi R$ 24.800.000,00, então o apostador que ganhará a maior quantia receberá:

A) R$ R$ 3.720.000,00
B) R$ R$ 4.680.000,00
C) R$ R$ 6.200.000,00
D) R$ R$ 6.720.000,00
E) R$ R$ 8.680.000,00

QUESTÃO 12

Observe o sistema de equações a seguir que possui “x” e “y” como as soluções:

$$\begin{cases} 3x - y = 13 \\ 2x + y = 12 \end{cases}$$

Assim, o valor de x + y será igual a:

A) 2
B) 3
C) 5
D) 6
E) 7

QUESTÃO 13

Sabe–se que uma equação do 2º grau $\mathbf{x^2 + x - 30 = 0}$, possui duas raízes reais e distintas. A maior dessas raízes é igual a:

A) 5
B) –6
C) –4
D) 3
E) 1

QUESTÃO 14

A capitalização simples de juros se diferencia da capitalização composta pelo fato de que os juros simples são proporcionais ao tempo de aplicação, de acordo com a taxa empregada. Nesse caso, em uma operação a juros simples tem–se o capital de R$ 1.400,00 produzindo juros durante 5 meses, a uma taxa mensal de 2,5%. O valor do montante ao final desse período será:

A) R$ 1.175,00
B) R$ 1.180,00
C) R$ 1.575,00
D) R$ 1.720,00
E) R$ 1.725,00

QUESTÃO 15

O senhor João instalou um reservatório de água em sua residência. De acordo com as informações contidas na descrição do reservatório, o seu volume é de 2,00 m^3. Se em determinado dia esse reservatório estava completamente cheio e foram consumidos 0,65 m^3 de água sem haver reposição, então a quantidade de litros de água que ainda restam no reservatório é:

A) 6.500
B) 2.650
C) 1.650
D) 1.350
E) 135

INFORMÁTICA BÁSICA – NM500

QUESTÃO 16

Em relação ao Windows 10, um dos recursos é o Explorador de Arquivos. Qual das afirmações abaixo NÃO diz respeito ao recurso:

A) Exibir arquivos ocultos.
B) Pode exibir espaço de disco total e livre.
C) Localizar arquivos na memória RAM.
D) Pode exibir informações sobre o computador como memória instalada e velocidade do processador.
E) Pode ser acessado através de teclas de atalho.

QUESTÃO 17

Sobre Mala Direta no Microsoft Office, julgue as afirmações abaixo e em seguida marque a alternativa CORRETA.

I. Para a criação de mala direta é preciso de um documento modelo (carta, e-mail, etiqueta, por exemplo) e uma fonte de dados, onde esta última pode ser criada no próprio Microsoft Word ou Microsoft Excel.
II. Depois que você tiver uma fonte de dados conectada ao seu documento, adicionar campos de mesclagem é uma maneira de personalizar um documento com as informações da fonte de dados. Os campos de mesclagem vêm dos títulos de coluna na fonte de dados.
III. Mala direta é um recurso do Microsoft Office que permite criação de documentos personalizados a partir de uma fonte de dados criando uma carta modelo no Microsoft Word ou Excel.

A) Apenas a afirmação II é verdadeira.
B) São verdadeiras as afirmações I e II.
C) Somente a afirmação I é falsa.
D) Todas as afirmações são falsas.
E) Todas as afirmações são verdadeiras.

QUESTÃO 18

Sobre alguns botões do Microsoft Word e Excel no Microsoft Office, conforme imagens abaixo, julgue as afirmações e em seguida marque a alternativa CORRETA.

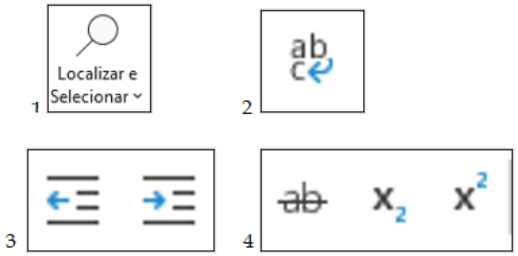

I. O botão (1), no Microsoft Excel, permite acionar ações como Localizar, Substituir, Localizar fórmula, gráficos e outros.
II. O botão (2), no Microsoft Word, permite fazer a quebra de texto dentro de uma tabela, organizando melhor esteticamente.
III. Os botões da imagem (3), no Microsoft Excel, são os botões de diminuir e aumentar recuo, possibilitando ajuste do texto deslocando-o na vertical.
IV. Os botões (4), no Microsoft Word, são, respectivamente: Riscado, Subescrito e Sobreescrito. Com eles podemos fazer uma marcação tachada no texto, colocar o texto mais abaixo e colocar o texto mais acima.

A) As afirmações I e II são verdadeiras.
B) São verdadeiras as afirmações III e IV.
C) Apenas a afirmação II é falsa.
D) São falsas as afirmações I, II e IV.
E) Todas são falsas.

QUESTÃO 19

Em navegadores web existe uma funcionalidade capaz de memorizar informações mais detalhadas sobre você, como seus interesses e hábitos de navegação na web. Significa que um site pode te fornecer conteúdo mais direcionado geralmente na forma de anúncios.

O texto acima refere-se a:

A) protocolos.
B) links.
C) html.
D) cookies.
E) memória RAM.

QUESTÃO 20

Sabemos que a compactação de arquivos hoje é um meio bastante utilizado para unir vários arquivos em um só, e também reduzi-lo para que seja mais fácil de transferir e realizar backup. Um arquivo compactado pode ser reconhecido através de sua extensão.
Qual das extensões abaixo trata-se de um tipo de arquivo compactado?

A) .doc
B) .zip
C) .pdf
D) .xml
E) .xls

CONHECIMENTOS ESPECÍFICOS – NM306

QUESTÃO 21

Assinale a alternativa abaixo que corresponde aos números dos fórceps indicados para realização da exodontia dos elementos 26 e 11 respectivamente:

A) 69 e 16
B) 69 e 01
C) 18r e 01
D) 17 e 18l
E) 18l e 01

QUESTÃO 22

A odontologia exige processos de biossegurança importantes para prevenção, controle e eliminação de riscos inerentes à profissão.
Assinale a alternativa CORRETA sobre a biossegurança:

A) quando um instrumental cair no chão e ainda sendo necessário para o procedimento, a auxiliar pode pegar com a mão enluvada e lavar em água corrente, descontaminar com álcool 70°, retornando o mesmo para a bancada de atendimento.
B) utilizar epi's como jaleco, gorro descartável e máscara, luvas látex, durante todo atendimento com o dentista, sendo dispensável no ambiente de trabalho os epi´s e os óculos quando não estiver em atendimento com o paciente.
C) fazem parte das precauções básicas a prevenção de acidentes do trabalho: higienização de mãos, epi – equipamento de proteção individual, imunização, condutas pós-exposição com material biológico.
D) a lavagem dos instrumentais pode ser realizada, utilizando os seguintes epi's: luvas látex, gorro e jaleco.
E) não se faz necessário o uso de luvas para limpeza dos equipamentos.

QUESTÃO 23

Na área da central de esterilização, deve- se ter separadamente alguns ambientes.
Assinale abaixo a alternativa que corresponde a sequência CORRETA.

A) pré-lavagem, lavagem, secagem / inspeção visual, barreira / embalagem, esterilização / monitoração da esterilização e acondicionamento.
B) pré-lavagem, secagem, monitoração da esterilização e acondicionamento.
C) lavagem, secagem e esterilização/ monitoração de esterilização.
D) lavagem, secagem, esterilização e acondicionamento.
E) lavagem e esterilização.

QUESTÃO 24

Analise a imagem abaixo:

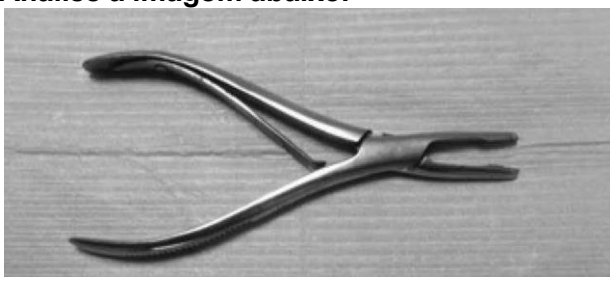

A prática cirúrgica é rotina no atendimento da unidade de saúde bucal. este instrumental é utilizado em qual situação?

A) Sutura dos tecidos moles.
B) Limpeza do alvéolo.
C) Nivelamento ósseo.
D) Extração de resto radicular.
E) Sutura do alvéolo.

QUESTÃO 25

Com relação à remoção do tecido cariado quais os instrumentos mais indicados?

A) Broca de alta rotação.
B) Cureta e broca de baixa rotação.
C) Adistringentes e papacárie.
D) Cureta de kelly.
E) Cureta de grace.

QUESTÃO 26

Durante a profilaxia do paciente em ambiente odontológico, se monta a bandeja clínica e materiais para a melhor ergonomia do profissional dentista. assinale a alternativa que contém algum material NÃO utilizado neste procedimento.

A) escova de robson, copo dappen, pasta profilática, evidenciador de placa, taça de borracha, jato de bicarbonato e clorexidina enxaguante bucal.
B) escova de robson, pedra pomes, resina composta, clorexidina enxaguatório bucal.
C) escova de robson, pasta profilática, copo dappen e clorexidina enxaguatório bucal.
D) escova de robson, pasta profilática e jato de bicarbonato de sódio.
E) evidenciador de placa, taça de borracha e pasta profilática.

QUESTÃO 27

Existe normas do Conselho Federal de Odontologia que regem as competências dos profissionais que atuam nesta área.
NÃO compete ao auxiliar de saúde bucal a realização de:

A) preparar o paciente para o atendimento.
B) exercer atividade de forma autônoma.
C) processar filme radiográfico.
D) higienização e descontaminação da sala e equipamentos periféricos.
E) limpeza dos equipamentos e ambiente de trabalho.

QUESTÃO 28

O procedimento restaurador visa recuperar as estruturas perdidas do elemento dentário, devolvendo funções como estética, mastigação, dimensão vertical.
durante o procedimento restaurador com resina composta qual sequência deve ser observada?

A) Preparo cavitário, ataque ácido, adesivo, incrementos de resina composta, acabamento e polimento.
B) Preparo cavitário, proteção do complexo dentina polpa, adesivo e fotopolimerização, incrementos de resina composta e polimento.
C) Preparo cavitário, proteção do complexo dentina polpa, ataque ácido, adesivo e fotopolimerização, incrementos de resina composta e fotopolimerização, acabamento e polimento.
D) Ataque ácido, adesivo, incrementos de resina composta e polimento.
E) Ataque ácido, adesivo e resina flow, polimento.

QUESTÃO 29

Ergonomia (ergon- trabalho e nomos- regras ou leis), “ é o estudo do homem em relação ao seu ambiente de trabalho”

(kilpatrick,1971.)

Assinale abaixo a letra que não corresponde aos objetivos a serem alcançados com a ergonomia na odontologia.

A) Simplicidade do trabalho.
B) Prevenção de fadiga.
C) Menor gasto de tempo.
D) Menor produtividade.
E) Menor esforço.

QUESTÃO 30

O processo saúde/doença em sua expressão normativa de vida é considerado como um fenômeno individual. já em sua expressão coletiva-epidemiológica, adquire significado no conjunto de representações sociais e nas reivindicações políticas, estando estruturada em uma totalidade social.
Sobre as medidas preventivas na saúde pública podemos excluir a seguinte alternativa que NÃO faz parte na prevenção odontológica.

A) água tratada com flúor.
B) ações de orientação a população quanto ao consumo de alimentos açucarados e pegajosos.
C) ação de orientação à higiene oral doméstica.
D) terapia antibiótica pós cirúrgica.
E) terapia expectante e fluorterapia.