CARGO: PROFESSOR DE DANÇA - BALLET

PERÍODO MANHÃ

CONCURSO PÚBLICO Nº 002/2023 PREFEITURA MUNICIPAL DE FAZENDA RIO GRANDE

Atenção: Confira seu cargo e leia todas as instruções constantes no seu Caderno de Questões e Folha de Respostas.

1. Seu caderno deve conter 60 (sessenta) questões, com 04 (quatro) alternativas, assim dispostas:

Disciplina	**Composição**
Língua Portuguesa	1 a 10
Matemática/Raciocínio Lógico	11 a 20
Informática Básica	21 a 30
Conhecimentos Gerais e Atualidades	31 a 40
Conhecimentos Específicos	41 a 60

2. A Prova terá duração de 3h e 30min (três horas e trinta minutos), incluindo preenchimento da Folha de Respostas.
3. Após sua identificação, você deverá permanecer dentro da sala, sendo permitida a saída somente acompanhado de um fiscal e após 30min (trinta minutos) do início da prova.
4. Para uso do sanitário e/ou beber água, você deverá solicitar ao Fiscal de Sala e somente levantar após autorização.
5. O candidato só poderá sair da sala em definitivo após 1h (uma hora) do início da prova.
6. Ao deixar a sala definitivamente, não poderá utilizar o sanitário dos candidatos que ainda estão realizando prova, e só poderá levar o Caderno de Questões restando 1h (uma hora) para o final da prova.
7. Enquanto estiver realizando a Prova é proibido utilizar materiais de consulta, livros, apostilas, calculadoras, régua, quaisquer equipamentos eletrônicos, chapéus, bonés, e/ou similares, conforme constante no edital de abertura. Caso o fiscal constate alguma irregularidade irá anotar em Ata da Sala, para devidas providências da Comissão Organizadora.
8. Sobre sua carteira deverá permanecer somente documento oficial original com foto, caneta de tinta azul ou preta de corpo transparente, Caderno de Questões e Folha de Respostas.
9. Você poderá utilizar seu Caderno de Questões para rascunho.
10. Você receberá do Fiscal de Sala a Folha de Respostas definitiva. Confira seus dados e em caso de erro, chame o fiscal. Após conferir, **assine no campo destinado à assinatura do candidato**. Em hipótese alguma ela será substituída caso o candidato dobre, amasse, rasgue ou molhe. Cuidado, pois esse será o único documento válido para correção.
11. Caso algum equipamento eletrônico emita som, mesmo que desligado e lacrado no plástico de pertences, o candidato portador do equipamento será automaticamente eliminado do concurso.
12. Transcreva suas respostas para Folha de Respostas com caneta de tinta azul ou preta de corpo transparente. **Atenção:** verifique na Folha de Respostas a forma correta de preenchimento.
13. Questões com mais de uma alternativa assinalada, rasurada, em branco ou preenchidas de forma diferente das instruções serão anuladas.
14. Após terminar sua Prova avise o Fiscal, pois ele autorizará a entrega da sua Folha de Respostas e Caderno de Questões, se for o caso.
15. Caso algum candidato seja flagrado na tentativa de fraude, esse será automaticamente eliminado do Concurso, ainda sujeito a processo civil ou criminal.
16. Qualquer questionamento ou dúvidas devem ser feitos em voz alta ao fiscal.
17. Os 03 (três) últimos candidatos deverão sair juntos da sala, após a conferência e lacre do material da sala.
18. Aguarde a autorização do Fiscal para iniciar sua Prova.

PREFEITURA DE FAZENDA RIO GRANDE

INSTITUTO UniFil

----------DESTAQUE AQUI----------

01	02	03	04	05	06	07	08	09	10	11	12	13	14	15	16	17	18	19	20
21	**22**	**23**	**24**	**25**	**26**	**27**	**28**	**29**	**30**	**31**	**32**	**33**	**34**	**35**	**36**	**37**	**38**	**39**	**40**
41	**42**	**43**	**44**	**45**	**46**	**47**	**48**	**49**	**50**	**51**	**52**	**53**	**54**	**55**	**56**	**57**	**58**	**59**	**60**

Língua Portuguesa

Leia o texto para responder as questões.

Por que a moeda brasileira se chama real?

"Real", no sentido de realeza, era a moeda adotada por Portugal e suas colônias desde a época das Grandes Navegações – o plural era "réis", de onde vem a expressão "conto de réis", que equivale a um milhão de réis. No Brasil, o Real português vigorou dos tempos coloniais até 1942, no auge do Estado Novo de Getúlio Vargas.

Àquela altura, a inflação já tinha comido tanto o valor do velho real que a unidade básica da economia era o "mil reais" – "miréis" na fonética daqueles tempos. Getúlio, então, instituiu uma nova unidade monetária, o cruzeiro – este um nome 100% nacional, referindo-se ao Cruzeiro do Sul, a constelação mais distinta do nosso hemisfério. E cada cruzeiro valia mil reais.

A partir dali, porém, a inflação só fez acelerar. Nos 25 anos entre 1942 e 1967, tivemos inflação de pelo menos 2 dígitos em 23. O "mil cruzeiros" já era a nova unidade monetária. A Ditadura Militar, então, mandou cortar três zeros. Surgia o Cruzeiro novo.

Mas faltou combinar com as nossas equipes econômicas. A Ditadura seguiu imprimindo dinheiro para encher o país de obras. O Banco do Brasil, para você ter uma ideia, tinha o poder de fabricar moeda. Se o governo precisasse de dinheiro para fazer uma hidrelétrica, ou para pagar o espumante das festas, pedia para o Banco do Brasil imprimir notas, pagava tudo, e beleza. O que podia dar errado?

Tudo, claro. Quando você enche a praça de dinheiro, o próprio dinheiro vira carne de vaca. Perde valor. A essa perda de valor, você sabe, damos o nome de "inflação".

E a inflação saiu dos dois dígitos. Foi para três – mais de 100% ao ano. Hora de mudar a moeda de novo.

Em 1986, o governo Sarney aposentava o cruzeiro e inaugurava o "cruzado". Como estamos falando de nome de moeda aqui, vale um adendo. "Cruzado" era a moeda de prata que Portugal usava na época das Grandes Navegações. Nisso, a equipe de Sarney encarregada de dar nome à nova moeda matava dois coelhos. Usava um nome com estofo histórico e que, ao mesmo tempo, não soava alienígena, já que lembrava a denominação da moeda anterior.

E aí... Bom, os desmandos financeiros do Estado seguiam de vento em popa. Em 1987 a inflação chegou perto de 500%. Em 1988, passou de 1.000%. Em 1989, roçou os 2.000%.

Hora de trocar de moeda de novo. Chegava o cruzado novo. Em 1990, Fernando Collor assumiu e determinou que o cruzado novo voltasse a se chamar "cruzeiro" – por questões estéticas e para deixar seu glorioso confisco à poupança mais didático. Os cruzeiros circulariam livremente; os "cruzados novos" ficariam retidos. Só uma baboseira linguística para fazer com que o pior plano econômico da história do país parecesse menos patético do que era de fato.

Por essas e outras, Collor acabou saindo. Deixou no lugar o vice Itamar Franco e uma inflação que, em 1993, chegaria ao seu maior valor histórico: 2.477%.

Itamar, que entendia tanto de economia quanto de penteado, propôs a seu ministro da Fazenda, Fernando Henrique Cardoso, "prender o Abílio Diniz e congelar os preços" – Abílio, então dono da rede de supermercados Pão de Açúcar deveria ser preso, na cabeça do então presidente, para deixar de aumentar preços – como se quem criasse inflação fosse quem comercializa produtos, e não quem imprime moeda.

Em 1994, enfim, a equipe de FHC lançou o Plano Real. Não foi um simples corte de zeros. Houve um trabalho que envolveu saneamento das contas públicas, com cortes violentos de gastos (de modo a controlar a própria emissão de moeda), e, mais tarde – a partir de 1999 –, com a adoção do regime de "metas de inflação". Grosso modo, esse regime diz que, se a inflação subir além de um patamar aceitável, deve-se aumentar os juros básicos da economia. Juros altos freiam o consumo e os financiamentos bancários. Isso esfria a economia. Passa a circular menos moeda, e o valor do dinheiro se mantém. É por isso que, desde a década de 1990, o risco de hiperinflação caiu a zero.

Por que o "real" ganhou esse nome? Por que ele matava dois coelhos também. Tem fundo histórico, já que é o nome da moeda anterior ao cruzeiro, e remete à ideia de uma moeda com "valor real".

Disponível em https://www.instagram.com/p/CopyL_dgJIj/

1. De acordo com o texto, é possível afirmar que

a) imprimir moeda pouco influencia na economia e na inflação.
b) inflação é um bom fator para a economia, já que refaz a moeda.
c) o plano econômico do país precisa ser pensado e estudado com cautela e responsabilidade.
d) Itamar Franco criou o plano real e Fernando Henrique Cardoso deu continuidade.

2. Analise: "Em 1987 a inflação chegou perto de 500%." E assinale a alternativa correta.

a) Após "1987", poderia inserir uma vírgula.
b) A vírgula é proibida após "1987".
c) O ponto final, após "%" é incorreto.
d) Inflação é sinônimo de infração.

3. Pela visão do texto, o que é possível inferir sobre Itamar?

a) Ele era um grande entendedor de economia.
b) Fernando Henrique era um grande amigo seu.
c) Ele se equivocou ao pedir para prender Abílio Diniz.
d) Abílio Diniz era seu aliado político.

4. "Matar dois coelhos" é uma expressão

a) denotativa.
b) conotativa.
c) real.
d) literal.

5. "A inflação só fez acelerar" é uma expressão que utiliza qual figura de linguagem?

a) Hipérbole.
b) Personificação.
c) Ironia.
d) Metáfora.

6. Assinale a alternativa cujo trecho a seguir foi reescrito de maneira que não altere seu sentido.
"Mas faltou combinar com as nossas equipes econômicas."

a) "Dessa forma, faltou combinar com as nossas equipes econômicas."
b) "Dito isso, faltou combinar com as nossas equipes econômicas."
c) "Sendo assim faltou combinar com as nossas equipes econômicas."
d) "No entanto faltou combinar com as nossas equipes econômicas."

7. Analise: "A Ditadura seguiu imprimindo dinheiro para encher o país de obras." E assinale o tipo de sujeito presente nesta oração.

a) Sujeito simples.
b) Sujeito composto.
c) Sujeito oculto.
d) Sujeito indeterminado.

8. Assinale a alternativa cujo trecho a seguir foi reescrito de maneira que não altere seu sentido.
"Houve um trabalho que envolveu saneamento das contas públicas, com cortes violentos de gastos (de modo a controlar a própria emissão de moeda), e, mais tarde – a partir de 1999 –, com a adoção do regime de 'metas de inflação'".

a) "Ouve um trabalho que envolveu saneamento das contas públicas, com cortes violentos de gastos (de modo a controlar a própria emissão de moeda), e, mais tarde – a partir de 1999 –, com a adoção do regime de 'metas de inflação'".
b) "Obteve-se um trabalho que envolveu saneamento das contas públicas, com cortes violentos de gastos (de modo a controlar a própria emissão de moeda), e, mais tarde – a partir de 1999 –, com a adoção do regime de 'metas de inflação'".
c) "Teve um trabalho que envolveu saneamento das contas públicas, com cortes violentos de gastos (de modo a controlar a própria emissão de moeda), e, mais tarde – a partir de 1999 –, com a adoção do regime de 'metas de inflação'".
d) "Tomou-se um trabalho que envolveu saneamento das contas públicas, com cortes violentos de gastos (de modo a controlar a própria emissão de moeda), e, mais tarde – a partir de 1999 –, com a adoção do regime de 'metas de inflação'".

9. Analise: "Por essas e outras, Collor acabou saindo." E assinale a alternativa correta.

a) "Essas e outras" retoma o quão importante foi a reestruturação econômica de Collor.
b) "Essas e outras" retoma como Collor entendia bem de economia.
c) "Essas e outras" retoma momentos patéticos da presidência de Collor.
d) "Essas e outras" retoma as mudanças benéficas que Collor trouxe para a economia.

10. Assinale a alternativa que apresenta um verbo conjugado no Pretérito Imperfeito do Indicativo.

a) "Deixou no lugar o vice Itamar Franco e uma inflação que, em 1993, chegaria ao seu maior valor histórico: 2.477%."
b) "Tem fundo histórico, já que é o nome da moeda anterior ao cruzeiro, e remete à ideia de uma moeda com 'valor real'."
c) "Em 1990, Fernando Collor assumiu e determinou que o cruzado novo voltasse a se chamar 'cruzeiro'"
d) "Chegava o cruzado novo."

Matemática/Raciocínio Lógico

11. Considere a matriz A = $\begin{bmatrix} 2 & 1 \\ 3 & 1 \end{bmatrix}$. Sobre a matriz A é possível afirmar que

a) A é uma matriz invertível.
b) A é uma matriz linha.
c) A é uma matriz de ordem 3.
d) O determinante de A é positivo.

12. Considere os pontos A (-3,2); B (3,6); C (1,3) e D (0,4) e assinale a alternativa correta.

a) Os pontos A, B e C são colineares.
b) Os pontos A, B, C e D formam um quadrilátero.
c) Os pontos A, B e D formam um triângulo.
d) Os pontos A, B e D são colineares.

13. Considere a proposição "Se João estuda muito então ficará aprovado em um concurso". Assinale a alternativa que contém a negação dessa proposição.

a) João estuda muito e não ficará aprovado em um concurso.
b) João estuda muito ou não ficará aprovado em um concurso.
c) João não estuda muito e não ficará aprovado em um concurso.
d) João não estuda muito ou não ficará aprovado em um concurso.

14. Considere a função $f(x) = sen(2x - 1)$. Assinale a alternativa que apresenta o conjunto Imagem da função $f(x)$.

a) [-1,2]
b) [-1,1]
c) (-1,1)
d) (-1,2)

15. De quantos modos diferentes é possível formar uma equipe de 3 pessoas em um grupo de 20 pessoas?

a) 6840.
b) 3420.
c) 2280.
d) 1140.

16. Uma pessoa iniciou um projeto para realizar caminhadas todos os dias. No primeiro dia, ela caminhou por 20 min e nos demais dias aumentou o tempo de caminhada em 2 min a mais que no dia anterior. Sabendo que a meta inicial foi de chegar ao tempo de 2 horas de caminhada por dia, em quantos dias após iniciar seu projeto ela alcançará a meta estabelecida?

a) 15 dias.
b) 21 dias.
c) 24 dias.
d) 27 dias.

17. Um capital de R$ 5000,00 foi aplicado a uma taxa de juros composto. Sabe-se que o montante acumulado ao final do 1º ano foi de R$ 5150,00. Qual a taxa de juros da aplicação?

a) 2%
b) 3%
c) 4%
d) 5%

18. Considere a função $f(x) = -x^2 + 4x + 5$, e assinale a alternativa correta.

a) O gráfico da função é uma parábola concava para cima.
b) A função admite apenas uma raiz real.
c) A função atinge seu valor máximo quando x=2.
d) A função não está definida no ponto x=0.

19. Considere uma caixa d'água de formato cilíndrico, com altura igual a 5 metros cuja base tem raio de 2 metros. O volume da caixa d'água é igual a

a) $40\pi\ m^3$
b) $30\pi\ m^3$
c) $20\pi\ m^3$
d) $18\pi\ m^3$

20. Dada a função $f(x) = 2^{x+1}$, para qual valor de x, temos $f(x) = 1024$.

a) 11.
b) 10.
c) 9.
d) 8.

Informática Básica

21. Considere a imagem a seguir:

Fonte: Microsoft Word 365.

A imagem apresenta os elementos disponíveis no grupo "Área de Transferência" do Microsoft Word 365. Sendo assim, assinale a alternativa correta com os nome dos elementos disponíveis na imagem.

a) Colar – Recortar – Duplicar - Formatar.
b) Colar – Cortar – Copiar – Pincel de Formatação.
c) Colar – Recortar – Copiar – Pincel de Formatação.
d) Colar – Recortar – Copiar – Realce do Texto.

22. Considere a imagem a seguir:

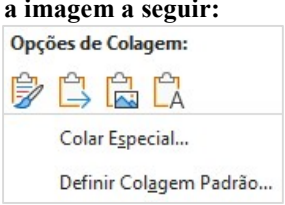

Fonte: Microsoft Word 365.

Podemos notar a partir da imagem acima, que o Microsoft Word 365 dispõe de algumas opções de colagem. Sendo assim, assinale a alternativa incorreta.

a) Ao clicar na opção Colar Especial, será aberta uma nova janela, onde se pode escolher formatos de colagem. Entre esses formatos temos Formato HTML.
b) Entre as opções de colagem temos: Manter Formatação Original, Mesclar Formatação e Manter Somente Texto.
c) Uma regra do Word 365 é manter a formatação original quando se cola imagens em um documento usando CTRL+Shift+V.
d) A opção Manter Somente Texto cola o texto sem nenhuma formatação.

23. A Google fornece vários serviços e aplicativos, alguns deles gratuitos. Os serviços mais conhecidos incluem o Gmail, Google Plus e o YouTube. Pautando-se nessas informações assinale a alternativa correta que apresenta apenas aplicativos da Google.

a) Chrome – Maps – Meet – Hangouts.
b) Facebook – Youtube – Writer – Gmail.
c) Maps – Agenda – Edge – Meet.
d) Hangouts – Chrome – Canva – WhatsApp.

24. Na maioria das vezes, os atalhos são criados automaticamente e isso pode fazer com que a área de trabalho fique poluída. No entanto, o Windows possibilita a exclusão desses atalhos. A respeito de atalhos no Microsoft Windows, analise as assertivas e assinale a alternativa correta.

I. Um método que pode ser usado para remover um atalho da área de trabalho é arrastá-lo para a Lixeira. Outro método é clicar com botão direito do mouse e clicar em excluir.
II. Alguns atalhos estão disponíveis apenas para usuários do Windows, pois geralmente são executados em combinação com a tecla Windows. Por exemplo Windows + E abre o Explorador de Arquivos do Windows 10.
III. Existem atalhos para a maioria das ações inclusive para a inserção de caracteres especiais como Alt+0146 para inserir apóstrofo.
IV. As teclas de função na parte superior do teclado fornecem ajuda rápida com a execução de comandos.

a) Apenas I está correta.
b) Apenas I e II estão corretas.
c) Apenas III e IV estão corretas.
d) Todas estão corretas.

25. Considere a imagem a seguir:

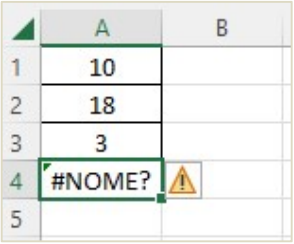

Fonte: Microsoft Excel 365.

Ao analisar a imagem apresentada, nota-se um erro na célula A4. Que erro é esse e porque ele ocorre?

a) Erro nada consta. Ocorre quando a célula que precisa ser identificada está vazia.
b) Erro de nome inválido. Ocorre quando há um erro de digitação no nome da fórmula.
c) Erro de sintaxe. Ocorre quando todas as funções são arquivadas.
d) Erro de fórmula. Ocorre quando o usuário seleciona os campos incorretos.

26. Suponha que as seguintes células devem ser somadas:

	A	B	C
1	10	20	30
2			

Fonte: Microsoft Excel 365.

Considerando essas informações, assinale a alternativa que aponta qual(is) fórmula(s) pode(m) ser utilizada(s) para exibir o resultado correto da soma.

I. **=10+20+30**
II. **= SOMA(10+20+30)**
III. **=SOMA(A1:C1)**
IV. **=SOMA 10+20+30**

a) Apenas III está correta.
b) Apenas II e III estão corretas.
c) Apenas I, II e III estão corretas.
d) Apenas II, III e IV estão corretas.

27. Considere a imagem a seguir:

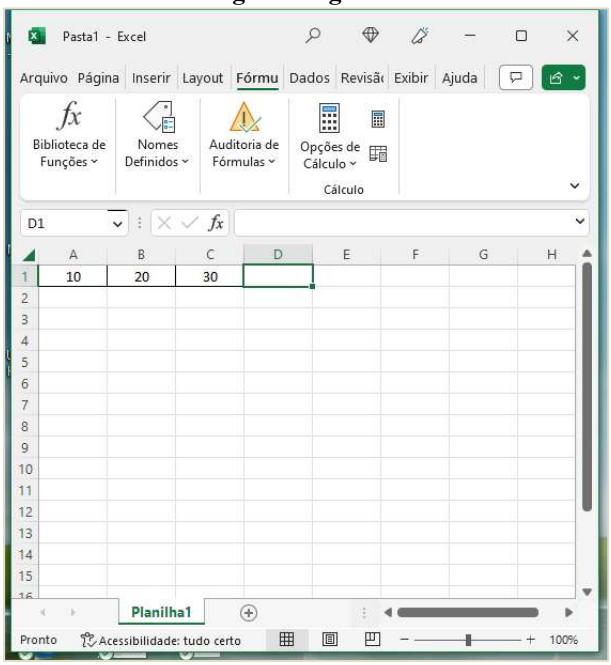

Fonte: Microsoft Excel 365.

Para maximizar a janela selecionada na imagem, deve-se pressionar qual combinação de teclas?

a) Ctrl + F10.
b) Ctrl + F9.
c) Ctrl + F8.
d) Ctrl + F7.

28. Embora o PowerPoint seja usado principalmente como uma ferramenta de apresentação, ele também oferece uma variedade de opções de impressão. Isso não se limita aos slides em si. De posse dessas informações e considerando as opções de impressão disponíveis no PowerPoint 365, informe se é verdadeiro (V) ou falso (F) para o que se afirma e assinale a alternativa com a sequência correta.

( ) **É possível imprimir folhetos com ou sem anotações, miniaturas e trechos.**
( ) **Pode-se determinar a forma em que os slides selecionados são impressos através do submenu Slide em página inteira. É possível imprimir até 9 slides em uma única página.**
( ) **No layout de impressão, existem 4 configurações para impressão: slide em página inteira, anotações, estrutura de tópicos e agrupado.**
( ) **Acessando Arquivo – Imprimir – Configurações, é possível alterar a escala de cor do slide para: Preto e branco puro ou Escala de cinza.**

a) V – V – V – V.
b) V – V – F – V.
c) V – F – F – V.
d) F – V – F – V.

29. Considere a imagem a seguir do grupo "Registro" disponível no Microsoft PowerPoint 365.

Fonte: Microsoft PowerPoint 365.

Sobre os elementos disponíveis nesse grupo, assinale a alternativa correta.

a) A diferença entre os elementos Do Começo e Do Slide Atual é a posição em que o mouse está na hora da apresentação.
b) A opção Gravação de Tela permite selecionar uma área específica da tela para gravar.
c) A opção Áudio permite extrair o som de algum vídeo gravado.
d) O grupo Registro está localizado na guia Exibir.

30. O explorador de arquivos do Windows foi disponibilizado a partir da versão 10 do sistema operacional. No entanto, ele já existia nas versões anteriores, mas com um nome diferente. Nesse sentido, assinale a alternativa correta com a antiga nomenclatura do Explorador de Arquivos do Windows.

a) Acesso rápido.
b) Diretórios do Windows.
c) Windows Explorer.
d) Gerenciador de arquivos.

Conhecimentos Gerais e Atualidades

31. De acordo com o capítulo VII da Lei Orgânica de Fazenda Rio Grande, analise as assertivas e assinale e alternativa correta.

I. Aos maiores de sessenta e cinco anos é garantido o desconto de 80% no transporte coletivo urbano, assim como às pessoas portadoras de necessidades especiais, comprovadamente carentes de recursos financeiros.

II. Fica o Município com o encargo de custear as despesas de água e energia elétrica, das escolas especiais e entidades, reconhecidas de utilidade pública pelo Município e que se dediquem exclusivamente às pessoas portadoras de necessidades especiais e com o menor abandonado, conforme dispuser a lei.

III. O Município promoverá programas de assistência à criança, ao idoso e aos portadores de necessidades especiais.

IV. É vedado ao município conceder auxilio funeral em qualquer hipótese.

a) Apenas uma está correta.
b) Apenas duas estão corretas.
c) Apenas três estão corretas.
d) Todas estão corretas.

32. De acordo com o artigo 166 da Lei Orgânica de Fazenda Rio Grande, assinale a alternativa correta.

a) Todos têm direito ao meio ambiente ecologicamente equilibrado, bem de uso comum do povo e essencial à sadia qualidade de vida, impondo-se ao Poder Público e à comunidade o dever de defendê-lo e preservá-lo para as presentes e futuras gerações.
b) Todos têm direito ao meio ambiente ecologicamente equilibrado, bem de uso comum do povo e essencial à sadia qualidade de vida, impondo-se às empresas poluidoras e à comunidade o dever de defendê-lo e preservá-lo para as presentes e futuras gerações.
c) Todos têm direito ao meio ambiente degradado, bem como podem fazer uso da maneira necessária ao desenvolvimento e manutenção da vida. Ao Poder Público, cabe a preservação das áreas públicas para as presentes e futuras gerações.
d) Todos têm direito a exploração de recursos minerais, inclusive extrações de areias, cascalhos ou pedreiras, ou ainda de corte da flora silvestre, nesse caso, o interessado deverá apresentar relatório de impacto ambiental, com solução para a recuperação do ambiente explorado, a longo prazo.

33. De acordo com a Lei Orgânica de Fazenda Rio Grande, informe se é verdadeiro (V) ou falso (F) para o que se afirma e assinale a alternativa com a sequência correta.

( ) É vedado ao Município patrocinar entidades particulares de desporto, equipes ou atletas profissionais, bem como eventos de caráter esportivo nos quais hajam participação de profissionais do desporto em geral.

( ) O Município fomentará as práticas desportivas formais ou não formais, dando prioridade aos alunos de sua rede de ensino e às promoções desportivas dos clubes locais.

( ) O Município incentivará a prática do esporte amador, principalmente na rede escolar do município e fomentará o lazer como forma de promoção social.

( ) Compete exclusivamente ao Município, dentro da sua capacidade financeira e de imóveis. Desenvolver programas de construção de espaços destinados à prática esportiva e de lazer, objetivando o incentivo destas atividades aos cidadãos fazendenses.

a) F – F – V – F.
b) F – F – V – V.
c) V – V – F – V.
d) V – V – V – F.

34. Com base na Lei Orgânica de Fazenda Rio Grande, analise as assertivas e assinale a alternativa correta.

I. O Município dispensará especial atenção ao atendimento educacional especializado aos portadores de necessidades especiais físicas e mentais, com recursos pré-definidos para sua manutenção e desenvolvimento.

II. Integra o atendimento ao educando os programas suplementares de material didático escolar, transporte, alimentação e assistência à saúde.

III. O Município promoverá a realização de cursos, palestras e outras atividades afins para a orientação programática e pedagógica, especialmente em campanhas antitóxicos, aids e deficiência imunológica.

IV. O Município manterá seu sistema de ensino em colaboração com o Estado, atuando, prioritariamente, no ensino médio, superior e de jovens e adultos (EJA).

a) Apenas uma está correta.
b) Apenas duas estão corretas.
c) Apenas três estão corretas.
d) Todas estão corretas.

35. De acordo com o artigo 118 de Lei Orgânica de Fazenda Rio Grande, analise as assertivas e assinale a alternativa que aponta a(s) correta(s).
Pertencem ao Município:

I. o produto de arrecadação do imposto da União sobre rendas e proventos de qualquer natureza, incidente na fonte, sobre rendimentos pagos a qualquer título, pela administração direta, autárquica e fundações públicas do Município.

II. sessenta por cento do produto da arrecadação do imposto da União sobre a propriedade territorial rural relativamente aos imóveis situados no Município.

III. cinquenta por cento do produto da arrecadação do imposto do Estado sobre a propriedade de veículos automotores licenciados no território do município.

IV. trinta por cento do produto da arrecadação do imposto do Estado sobre operações relativas à circulação de mercadorias e sobre prestações de serviços de transporte interestadual e intermunicipal de comunicação.

a) Apenas duas estão corretas.
b) Apenas três estão corretas.
c) Todas estão corretas.
d) Apenas uma está correta.

36. De acordo com o artigo 105 da Lei Orgânica de Fazenda Rio Grande, nenhum empreendimento de obras e serviços do Município, poderá ter início sem prévia elaboração do plano respectivo, no qual, obrigatoriamente conste:

I. a autorização do Tribunal de Contas do Estado (TCE/PR) após a aprovação nas contas e projetos apresentados.

II. a viabilidade do empreendimento, sua conveniência e oportunidade para o interesse comum.

III. os pormenores para sua execução.

IV. os recursos para o atendimento das respectivas despesas.

V. os prazos para o seu início e conclusão, acompanhados da respectiva justificação.

VI. a previsão com estimativa de valores de possíveis aditivos, na forma da Lei.

a) Apenas uma está correta.
b) Apenas duas estão corretas.
c) Apenas três estão corretas.
d) Apenas quatro estão corretas.

37. Quais os principais países envolvidos na história de um balão misterioso que apareceu nos céus de um dos países no início de fevereiro de 2023? Desde então, os dois países passaram por uma crise diplomática para entender quais as causas e os motivos do balão ter invadido o espaço aéreo de um deles. Os dois países já apresentaram suas versões sobre o ocorrido. Enquanto um acreditou se tratar de um balão de espionagem, o outro alegou ser um instrumento meteorológico que desviou da sua rota e viajou até o local.

a) Rússia e China.
b) Ucrânia a Rússia.
c) Estados Unidos e China.
d) Israel e Palestina.

38. Com base em seus conhecimentos sobre o tema, assinale a alternativa que apresenta somente vantagens da Globalização.

a) Avanços científicos / favorecimento crescente dos países mais desenvolvidos, que exploram e detêm o desenvolvimento científico e tecnológico.
b) Aumento dos problemas ambientais em escala global / facilidade nas transações financeiras.
c) Redução gradativa dos direitos trabalhistas, a fim de garantir maior vantagem às empresas transnacionais, que buscam locais com mão de obra mais barata para instalar suas estruturas de produção / dificuldades dos países mais pobres no mercado concorrencial global.
d) Melhoramentos técnicos e tecnológicos nos processos que envolvem a produção e circulação de mercadorias / maior difusão de informações entre pessoas.

39. Divulgado no mês de Setembro, o Brasil ficou em 54º lugar em Índice Global de Inovação de 2022, dentre 132 países. Apesar de ainda estar aquém das expectativas do setor industrial, o Brasil avançou três posições em relação a 2021 e aparece em 54º no ranking do Índice Global de Inovação (IGI), pela Organização Mundial de Propriedade Intelectual (WIPO, na sigla em inglês) em parceria com a Confederação Nacional da Indústria (CNI). Dentre os países da América Latina, qual o melhor colocado nesse ranking?

a) Brasil.
b) Chile.
c) Uruguai.
d) Argentina.

40. De acordo com boletim semanal das arboviroses divulgado pela Secretaria de Estado da Saúde (Sesa) em 22 de fevereiro, o Paraná atingiu 4.110 casos de dengue, distribuídos por 238 municípios. Somente em 2023, foram 1.400 casos da doença. Os números referem-se ao atual período sazonal, iniciado em 1º de agosto de 2022. Em relação à chikungunya, também transmitida pelo mosquito Aedes aegypti, são mais quatro casos em relação à semana anterior. No atual período sazonal, são sete casos importados, três autóctones e quatro ainda permanecem em investigação quanto ao local provável de infecção. Os casos autóctones ocorreram nos municípios de Pato Branco, Foz do Iguaçu e São Miguel do Iguaçu. Com base em seus conhecimentos, o que são os casos autóctones?

a) É quando a doença se desenvolve em sua forma mais agressiva.
b) É quando a doença é contraída fora do estado do paciente.
c) É quando a pessoa infectada falece por conta da doença.
d) É quando a doença é contraída no município de residência.

Conhecimentos Específicos

41. Em perspectivas restritas, o sentido da grade curricular, onde estão informadas as disciplinas, tempos e cargas horárias de desenvolvimento de conteúdos pedagógicos chamamos de

a) currículo.
b) prática de ensino.
c) plano de consistência.
d) planejamento a curto prazo.

42. A disciplina prática do campo pedagógico que produz reflexões sobre o processo de ensinar e aprender com vistas a encontrar as melhores maneiras e procedimentos com o intuito de provocar a aprendizagem é denominada

a) dimensão de inteligência.
b) didática.
c) planejamento do saber.
d) orientação didática e filosófica.

43. Sobre Educação Profissional e Ensino Profissionalizante, analise as assertivas e assinale a alternativa que aponta as corretas.

I. A partir da segunda metade dos anos de 1990, com o advento da Lei n. 9.394/96, foi estabelecida uma nova configuração para a Educação Profissional, com o Decreto n. 2.208/97 e Portaria MEC n. 646/97, com apoio do Programa de Reforma da Educação Profissional (PROEP), (Portaria MEC n. 1.005/97), o que teve significativa repercussão nos sistemas federal e estadual de ensino.

II. Fundamentalmente com o Decreto n. 2.208/97 e Portaria MEC n. 646/97, a reforma separou as duas redes de ensino; uma ficou destinada à formação acadêmica, e outra à formação profissional, que ganhou um capítulo específico na LDB.

III. Sob os argumentos da expansão, diversificação e flexibilização da oferta, a reforma da Educação Profissional visou à constituição de um sistema de formação específico e a promoção de modalidades educativas substitutas ou alternativas à Educação Básica e superior, o que acentuou a dualidade estrutural e a segmentação social da educação nacional.

IV. A reforma nos CEFETs, nas escolas técnicas e agro técnicas federais, nas redes estaduais públicas e em outras, com oferta da educação técnica e tecnológica, provocou distorções na função pública educacional e ocasionou situação de ambiguidade em virtude das instituições reduzirem sua oferta de educação regular e gratuita e incrementarem sua ação em cursos e atividades extraordinárias e pagas.

a) Apenas I, II e III estão corretas.
b) Apenas II e III estão corretas.
c) Apenas I e IV estão corretas.
d) Todas estão corretas.

44. Sobre a Educação Profissional e Tecnológica, assinale a alternativa incorreta.

a) Os cursos são destinados à formação inicial e continuada (FIC) ou qualificação profissional e organizados para o desenvolvimento de aptidões para a vida produtiva e social.
b) Na grande maioria, constituem cursos de livre oferta, com exigência de nível de escolaridade, condicionada sua matrícula à capacidade de aproveitamento, com carga horária preestabelecida.
c) A educação profissional técnica de nível médio inclui os denominados Cursos Técnicos destinados a proporcionar ao estudante conhecimentos, saberes e competências profissionais necessários ao exercício profissional e da cidadania, com base nos fundamentos científico-tecnológicos, sócio históricos e culturais.
d) Destina-se a candidatos que tenham concluído o ensino fundamental, estejam cursando ou tenham concluído o ensino médio.

45. O papel do professor no processo ensino/aprendizagem inclui um professor que

a) produza o conhecimento em dissintonia com o aluno.
b) medeie a relação ativa do aluno apenas com a matéria, inclusive com os conteúdos próprios de sua disciplina.
c) considere o conhecimento, a experiência e o significado que o aluno traz à sala de aula, seu potencial cognitivo, sua capacidade e interesse, seu procedimento de pensar, seu modo de trabalhar.
d) tenha a responsabilidade de preparar o aluno para se tornar um cidadão passivo dentro da sociedade, apto a questionar, debater e romper paradigmas.

46. No contexto inicial do ensino da dança, é correto afirmar que

a) o movimento e o gesto são as formas elementares e primitivas da dança e constituem assim a terceira forma de manifestação de emoções do homem e, consequentemente, de sua exteriorização.
b) os primeiros indícios da dança na pré-história por meio de registros arqueológicos nos permite interpretar a dança como nascida da religião ou, senão, junto a ela.
c) a história da dança pode ser dividida em três formas distintas: religiosa, folclórica e teatral.
d) por vários séculos a dança foi exclusivamente uma prática feminina, incluindo os homens somente tempos depois ao saírem dos templos.

47. Situando a realidade brasileira, evidenciamos no século XVI a agregação dos(as) negros(as) africanos(as) pela igreja católica que, com o intuito de convertê-los(as) ao catolicismo, permitiu que invocassem seus orixás representando-os através dos cultos e santos católicos. Sendo assim, quais foram as duas danças que expressam esta afirmativa?

a) A Congada e o Quilombo.
b) As Folias e a Congada.
c) A Bachata e o Quilombo.
d) O Carimbó e o Batuque.

48. Qual foi o fator que contribuiu para uma ruptura entre a dança religiosa e a dança popular, permitindo com que as danças folclóricas tomassem forma, cada vez mais ligadas a determinadas fases da vida dos povos, e a eventos cotidianos da vida humana?

a) O neoclassicismo.
b) A dança magistral.
c) O crescimento urbano.
d) A valsa Vienense.

49. Sobre a Dança na Idade Antiga, assinale a alternativa que preencha corretamente as lacunas.
O século _____ é considerado o verdadeiro marco da existência da dança sob os referenciais que a concebemos hoje, sobretudo, porque dentre os três pontos que ela pode ser visualizada: técnico, social e _____, o predomínio da técnica tornou-se um fator de grande representatividade, no período precedente à Era Moderna, o _____, considerado a fase de transição entre Idade Medieval e Era Moderna; sinalizando para a era da cientificidade da qual a dança não foi excluída.

a) XVIII / plástico / Humanismo
b) XIX / psicossocial / Cubismo
c) XVII / afetivo / Dadaismo
d) XVII / estético / Renascimento

50. A efetivação do que conhecemos como dança teatral ocorreu em 1661, quando o rei Luís XIV fundou a Academia Nacional de Dança, hoje chamada

a) Escola de Balé e Ópera de Paris.
b) Ballet Kirov.
c) American Ballet Theatre.
d) Ballet Bolshoi.

51. A evolução técnica da dança está diretamente relacionada à história

a) da alimentação.
b) da moradia.
c) da socialização.
d) do vestuário.

52. Quais foram as duas principais escolas básicas das danças clássicas que se formaram na Revolução Francesa (1789)?

a) A inglesa e a russa.
b) A francesa e a italiana.
c) A dinamarquesa e cubana.
d) A americana e a russa.

53. Informe se é verdadeiro (V) ou falso (F) para o que se afirma e assinale a alternativa com a sequência correta.

( ) Na história do balé, destaca-se, a princípio, a representação de histórias dos deuses mitológicos que prevaleceu até a primeira metade do século XVIII.
( ) O desenvolvimento do ballet d'action, na segunda metade do século XVIII, inicia o processo de desvinculação da dança com a ópera, propiciando a emergência do balé como arte totalmente independente.
( ) Com o Romantismo na Europa, final do século XVIII e todo século XIX, começou-se a se representar na dança temas com personagens populares, da vida campestre, destacando o balé La Fille Mal Gardée de 1786.
( ) Em Paris, a bailarina Maria Taglione, em 1827, foi a precursora da utilização de sapatilhas de ponta, posicionando a bailarina no primeiro plano, interpretadas como seres alados ou extraterrenos, figura de lendas e imaginação; restando aos bailarinos a função de suporte dessas.

a) V – V – F – F.
b) V – V – V – F.
c) V – V – V – V.
d) V – F – F – F.

54. A criação do libretista e do roteirista são marcos importantes da evolução do balé. A partir daí, toda música de balé deveria ser especialmente composta sob as exigências

a) do libreto e do coreógrafo.
b) da pauta e métrica.
c) do compasso e da dramaturgia.
d) da métrica e do tema.

55. O balé romântico se tornou balé clássico nas mãos de coreógrafos russos como Marius Petipa que se destacou por uma montagem russa de Paquita estreada em Paris em 1º de abril de 1846. Portanto, alguns Balés de Repertório de destaque no período romântico foram

a) La Sylphide, Giselle, O Espelho Mágico, Dom Quixote, A Bela Adormecida e Grand Pas de Quatre.
b) Coppélia, Giselle, La Sylphide, Carmem e O Lagos dos Cisnes.
c) Paquita, O Quebra Nozes, Dom Quixote e Le Corsaire.
d) La Bayadére, Paquita, O Espelho Mágico, A Bela Adormecida e O Cavalinho Corcunda.

56. Na Revolução Francesa (1789), aconteceu o abandono das pesadas saias quando Maillot, modista de ópera francesa, inventou a malha para o balé que foi aceita somente na cor

a) preta.
b) vermelha.
c) azul.
d) branca.

57. Os estudos no campo da dança são unânimes na afirmativa de que o nascimento do balé moderno está diretamente relacionado à

a) Mercê Cunningham.
b) Martha Graham.
c) Loie Fuller.
d) Isadora Duncan.

58. Sobre a Dança Moderna, analise as assertivas e assinale a alternativa que aponta as corretas.

I. Dentre os precursores da dança moderna, destacamos Emile Jacques Dalcroze, compositor e pedagogo suíço, criador da rítmica, método que permite adquirir o senso musical por meio do ritmo corporal.
II. De grande influência nos estudos da dança moderna e contemporânea, Rudolf Laban criou vários métodos de estudo do movimento ancorado no desejo de explorar os segredos do espaço físico e mental.
III. A "coreologia" consiste de outro método elaborado por Laban que define a dança como uma articulação entre movimento, dançarino/a, som e espaço geral.
IV. No contexto europeu da dança moderna, destacamos Sergei Diaghilev que possibilitou a emergência do balé moderno como organização concreta e Michel Fokine que foi considerado o "pai do balé moderno".

a) Apenas I, II e III estão corretas.
b) Apenas I e II estão corretas.
c) Apenas II e IV estão corretas.
d) Todas estão corretas.

59. Sobre a terminologia do Ballet Clássico e suas definições, relacione as colunas e assinale a alternativa com a sequência correta.

1. Adágio.
2. Allegro.
3. Allongé.
4. Balançoire.
5. Balloné.
6. Ciseaux.

( ) Movimento lento sustentado com ênfase nas posições e no equilíbrio, em que seus principais passos são plié, developpé, fouetté tournant, degagé, grand rond de jambe, rond de jambe en l'air, coupés, battement tendu, attitude, arabesque, pirouettes, entre outros.
( ) Este termo é aplicado para as grandes battements quando executado com um movimento oscilante que contínua ao longo da primeira posição para a quarta posição à frente e para trás.
( ) Abrindo as pernas, como as lâminas de um par de tesouras, a uma grande segunda posição sur les pointes, ou pode ser saltando (en l'air).
( ) Alegre e animado, incluindo todas as etapas de elevação, tais como entrechat, cabriole, assemblé, pas jeté e basicamente saltos e curvas.
( ) O bailarino salta para o ar, em simultâneo executa um battement e, em seguida, cai em demi plié com o trabalho do pé em sur le cou de pied.
( ) Alongado, extensão, estendidas.

a) 2 – 3 – 4 – 1 – 5 – 6.
b) 1 – 4 – 6 – 2 – 5 – 3.
c) 1 – 2 – 4 – 5 – 6 – 3.
d) 1 – 4 – 6 – 3 – 5 – 2.

60. Sobre a Anatomia Humana Geral, assinale a alternativa correta.

a) Existem basicamente dois tipos de circulação sanguínea: a pulmonar e a sistêmica, em que na circulação sistêmica, o sangue rico em gás carbônico passa do átrio direito para o ventrículo direito e é em seguida impulsionado para o tronco pulmonar e artérias pulmonares até a rede de capilares dos pulmões.
b) Sinapse é um tipo de junção especializada em que um terminal sazonal faz contato com outro neurônio ou tipo celular, e as sinapses podem ser elétricas ou químicas.
c) Existem dois planos verticais no corpo humano, um tangente ao ventre (plano ventral ou anterior) e outro ao dorso (plano dorsal ou posterior), em que estes e outros planos a eles paralelos são designados como planos frontais.
d) Clavícula é o osso ímpar, longo em formato de "T", de fácil localização e palpação por se encontrar próxima à tela subcutânea, e estão localizadas na parte superior do tórax, na base do pescoço e se articulam anteriormente com o osso esterno e posteriormente com as escápulas.