PREFEITURA MUNICIPAL DE SÃO FÉLIX DE MINAS/MG

CONCURSO PÚBLICO – E D I T A L Nº 01/2026

29 - Pedreiro

CADERNO DE PROVA OBJETIVA
LEIA COM ATENÇÃO AS INSTRUÇÕES ABAIXO

1. Só abra este caderno quando autorizado pelo Fiscal de Sala.
2. Esta prova contém **40 questões** de múltipla escolha com 04 opções de resposta cada.
3. Não rasure a Folha de Respostas, pois não será distribuída outra.
4. Não serão computadas questões não assinaladas ou que contenham mais de uma resposta, emenda ou rasuras, ainda que legíveis.
5. Não serão consideradas as respostas não preenchidas com caneta que não seja de **tinta azul** ou **preta.**
6. O candidato poderá anotar suas respostas na Folha de Rascunho do Gabarito no verso desta capa, que poderá ser destacada.
7. Saída permitida apenas para ida ao "toillete", se estritamente necessária e com autorização do Fiscal de Sala e acompanhado pelo Fiscal de Corredor.
8. O candidato, ao terminar a prova, entregará ao fiscal, juntamente com a folha de respostas, seu caderno de questões, exceto na situação em que concordar em manter-se em sala, até 60 minutos antes do horário previsto para o término das provas quando então poderá levar o caderno de provas.
9. A ausência do recinto de provas somente será permitida depois de decorridos **60 minutos** do início das mesmas.
10. Ao terminar, entregue ao Fiscal sua Folha de Respostas devidamente identificada e assinada, pois a não assinatura implica na eliminação imediata do candidato.
11. Duração máxima de 03:00 (três horas).

GABARITO PROVISÓRIO

Dia **19/10/2026 a partir das 17:00 hrs** – no site http://www.institutoideap.com.br.

Realização:

Instituto de Desenvolvimento Social, Empresarial
e de Administração Pública - IDEAP
http://www.institutoideap.com.br/

RASCUNHO DO GABARITO

Esta folha pode ser destacada

01	A	B	C	D
02	A	B	C	D
03	A	B	C	D
04	A	B	C	D
05	A	B	C	D
06	A	B	C	D
07	A	B	C	D
08	A	B	C	D
09	A	B	C	D
10	A	B	C	D
11	A	B	C	D
12	A	B	C	D
13	A	B	C	D
14	A	B	C	D
15	A	B	C	D
16	A	B	C	D
17	A	B	C	D
18	A	B	C	D
19	A	B	C	D
20	A	B	C	D

21	A	B	C	D
22	A	B	C	D
23	A	B	C	D
24	A	B	C	D
25	A	B	C	D
26	A	B	C	D
27	A	B	C	D
28	A	B	C	D
29	A	B	C	D
30	A	B	C	D
31	A	B	C	D
32	A	B	C	D
33	A	B	C	D
34	A	B	C	D
35	A	B	C	D
36	A	B	C	D
37	A	B	C	D
38	A	B	C	D
39	A	B	C	D
40	A	B	C	D

PROVA Nº 03
PORTUGUÊS

Leia o texto a seguir para responder às questões 1, 2 e 3.

O banco da praça

Todos os dias, pouco antes das sete da manhã, seu Antônio atravessava a praça a caminho do trabalho. Durante anos, passou pelo mesmo banco de madeira sem prestar muita atenção nele. Até que, numa segunda-feira, encontrou sobre o banco um pequeno vaso com uma muda de planta e um bilhete: "Se puder, cuide de mim."

Antônio olhou em volta, mas não viu ninguém. Achou graça no pedido e seguiu seu caminho. Na manhã seguinte, percebeu que a terra do vaso estava seca. Tirou da mochila a garrafa de água que levava para o trabalho e despejou um pouco sobre a planta.

Nos dias seguintes, repetiu o gesto. Certa manhã, porém, encontrou a terra ainda úmida. Alguém havia chegado antes dele. Depois disso, começou a notar pequenas mudanças: às vezes, algumas folhas secas haviam sido retiradas; em outros dias, o vaso aparecia em um ponto mais protegido do sol forte.

Antônio nunca descobriu quem havia deixado a planta no banco nem quem passou a ajudá-lo a cuidar dela. Algumas semanas depois, quando surgiu a primeira flor, encontrou um novo bilhete preso ao vaso: "Parece que deu certo."

Ele sorriu. Enquanto seguia para o trabalho, pensou que talvez o bilhete estivesse falando de algo maior do que a flor.

---

01) Considerando o desenvolvimento do texto, a reflexão de Antônio no último parágrafo sugere que:

A) ele concluiu que deveria descobrir quem havia deixado os bilhetes, pois somente assim compreenderia o verdadeiro motivo de a planta ter sido colocada na praça.
B) o cuidado compartilhado com a planta mostrou que pequenas atitudes podem aproximar pessoas e produzir resultados mesmo quando elas não se conhecem.
C) a primeira flor fez Antônio perceber que a planta sobreviveria sem cuidados, tornando desnecessária a participação das pessoas que haviam ajudado a cultivá-la.
D) o segundo bilhete confirmou que a mesma pessoa havia cuidado sozinha da planta desde o início e apenas permitira que Antônio acreditasse estar colaborando.

---

02) A respeito das informações apresentadas no texto e da relação entre elas, analise as afirmativas a seguir.

I. No início da narrativa, o banco da praça fazia parte do caminho habitual de Antônio, mas não despertava especialmente sua atenção.
II. Antônio começou a cuidar da planta porque recebeu pessoalmente de quem a deixou no banco a responsabilidade de regá-la diariamente.
III. O fato de Antônio encontrar a terra ainda úmida em certa manhã permite concluir que outra pessoa também havia realizado um cuidado com a planta.
IV. O segundo bilhete apresenta uma frase cujo sentido pode ser relacionado tanto ao florescimento da planta quanto à experiência de cuidado compartilhado construída ao longo da narrativa.

Está correto o que se afirma em:

A) I e II, apenas.
B) II e III, apenas.
C) I, III e IV, apenas.
D) I, II, III e IV.

---

03) No trecho:

"em outros dias, o vaso aparecia em um ponto mais **protegido** do sol forte",

considerando o sentido da palavra destacada no contexto, assinale a alternativa em que aparece um **antônimo** adequado de "protegido".

A) exposto.
B) conservado.
C) resguardado.
D) abrigado.

---

04) Leia a situação apresentada no quadrinho a seguir.

Considerando a relação entre a linguagem verbal e os elementos da situação apresentada, o humor do quadrinho é construído principalmente porque:

A) o personagem consegue terminar seu trabalho antes do horário previsto, apesar de ter interrompido a atividade para verificar o celular.
B) a notificação recebida pelo personagem contém uma informação importante que o obriga a abandonar definitivamente o trabalho.
C) a passagem do tempo mostra que a interrupção que o personagem imaginava ser breve se prolongou, contrariando sua intenção inicial de terminar o trabalho mais cedo.
D) a mudança da claridade do dia para a noite indica que o personagem precisou realizar suas tarefas fora do local de trabalho.

---

05) Considere as palavras a seguir.

- advogado
- nascimento
- saúde
- transporte

A respeito da separação silábica e da posição da sílaba tônica dessas palavras, analise as afirmativas a seguir.

I. A palavra **advogado** pode ser separada em *ad-vo-ga-do* e é classificada como paroxítona.
II. A palavra **nascimento** pode ser separada em *nas-ci-men-to* e é classificada como paroxítona.
III. A palavra **saúde** pode ser separada em *sa-ú-de* e é classificada como paroxítona.
IV. A palavra **transporte** pode ser separada em *trans-por-te* e é classificada como paroxítona.

Está correto o que se afirma em:

A) I e III, apenas.
B) II e IV, apenas.
C) I, II e III, apenas.
D) I, II, III e IV.

---

06) Considerando a classificação das palavras quanto à posição da sílaba tônica e as regras de acentuação gráfica, assinale **V**, para as afirmativas verdadeiras, e **F**, para as falsas.

( ) **Café** e **cipó** são palavras oxítonas e recebem acento gráfico por terminarem, respectivamente, em **-e** e **-o**.
( ) **Árvore** e **médico** são palavras proparoxítonas e recebem acento gráfico porque todas as palavras dessa classificação são acentuadas.
( ) **Fácil** e **caráter** são palavras paroxítonas, mas apenas a primeira recebe acento gráfico, pois palavras paroxítonas terminadas em **-r** não são acentuadas.
( ) **Lâmpada** é uma palavra paroxítona, pois sua sílaba tônica, **lâm**, é a penúltima da palavra.

Assinale a alternativa que apresenta a sequência correta, de cima para baixo.

A) V – V – F – F.
B) V – F – V – F.
C) F – V – F – V.
D) F – F – V – V.

---

07) Leia o trecho a seguir.

Durante a manhã, **Chico** caminhou pela **praça** do bairro e encontrou um **grupo** de crianças brincando perto da fonte. Depois, sentou-se em um banco e ficou observando o movimento enquanto tomava **água**.

Considerando as palavras destacadas e seus aspectos fonológicos, assinale a alternativa correta.

A) Na palavra **Chico**, as letras *ch* representam um dígrafo, pois duas letras são empregadas para representar um único fonema.
B) Na palavra **praça**, a sequência *pr* constitui um dígrafo, pois as duas consoantes representam conjuntamente um único som.
C) Na palavra **grupo**, a sequência *gr* constitui um encontro vocálico, pois reúne dois sons pronunciados na mesma sílaba.
D) Na palavra **água**, a sequência *gu* constitui necessariamente um dígrafo, pois a letra *u* não é pronunciada nessa palavra.

---

08) Assinale a alternativa em que **todas as palavras estão grafadas corretamente** de acordo com a norma-padrão da língua portuguesa.

A) pesquisa – análize – paralização – certeza.
B) exceção – privilégio – empecilho – reivindicação.
C) beneficiente – impecilho – espontâneo – atrazado.
D) excessão – previlégio – reivindicar – paralisação.

---

09) Os substantivos podem ser classificados de acordo com diferentes características. Entre essas classificações, encontram-se os **substantivos próprios**, os **substantivos comuns** e os **substantivos coletivos**.

Relacione os substantivos apresentados na **Coluna I** às classificações ou características indicadas na **Coluna II**.

COLUNA I
1. Brasil
2. cidade
3. cardume
4. janela

COLUNA II
( ) Substantivo comum empregado para nomear, de maneira geral, uma abertura feita em parede para permitir a entrada de luz e ventilação.
( ) Substantivo próprio empregado para nomear especificamente um país.
( ) Substantivo coletivo que designa um conjunto de peixes.

( ) Substantivo comum empregado para designar, de maneira geral, determinado tipo de espaço urbano.

Assinale a alternativa que apresenta a sequência correta, de cima para baixo.

A) 4 – 1 – 3 – 2.
B) 3 – 1 – 4 – 2.
C) 4 – 2 – 3 – 1.
D) 2 – 4 – 1 – 3.

---

10) Leia o trecho a seguir.

Depois da apresentação, a **atriz** conversou com algumas **crianças** que a aguardavam na saída do teatro. Uma delas carregava um **livrinho** e pediu que a artista escrevesse uma dedicatória na primeira página.

Considerando a flexão e o emprego dos substantivos destacados no trecho, assinale a alternativa correta.

A) O substantivo **atriz** está no gênero masculino, pois pode ser empregado para designar pessoas de ambos os sexos sem alteração de sua forma.
B) O substantivo **crianças** está no singular e apresenta gênero variável, sendo a forma *criança* empregada regularmente para indicar o masculino.
C) O substantivo **livrinho** está no grau diminutivo e, no contexto, sua forma indica necessariamente que o livro tem pouco valor ou importância.
D) O substantivo **atriz** está no gênero feminino, **crianças** encontra-se no plural e **livrinho** apresenta forma de grau diminutivo.

---

11) Leia o trecho a seguir.

Depois da chuva, **as pequenas ruas** do bairro ficaram cobertas de folhas. Alguns moradores saíram de casa e começaram a limpeza, enquanto **um caminhão municipal** recolhia os galhos maiores.

Considerando o emprego dos artigos e dos adjetivos no trecho, assinale a alternativa correta.

A) Em *"as pequenas ruas"*, a palavra **as** é artigo definido e acompanha o substantivo *ruas*, enquanto **pequenas** é adjetivo e atribui uma característica a esse substantivo.
B) Em *"um caminhão municipal"*, a palavra **um** funciona como numeral, pois informa exatamente a quantidade de caminhões existentes no bairro.
C) A palavra **municipal** é substantivo, pois nomeia o veículo utilizado para recolher os galhos depois da chuva.
D) Em *"as pequenas ruas"*, a palavra **pequenas** funciona como artigo, pois determina o substantivo *ruas* e indica que ele está no plural.

12) Leia o trecho a seguir.

Mariana encontrou alguns documentos sobre a mesa e entregou-**os** ao funcionário responsável. **Ele** conferiu as informações e guardou os papéis em uma pasta.

Analise as afirmativas a seguir e a relação proposta entre elas.

I. No trecho, o pronome **os**, empregado em *"entregou-os"*, retoma o substantivo **documentos**, evitando sua repetição.
PORQUE
II. O pronome **ele** retoma, no contexto, a expressão **"o funcionário responsável"** e contribui para estabelecer a continuidade entre as informações apresentadas nas duas frases.

A respeito dessas afirmativas, assinale a alternativa correta.

A) As afirmativas I e II são verdadeiras, e a II justifica corretamente a I.
B) As afirmativas I e II são verdadeiras, mas a II não justifica corretamente a I.
C) A afirmativa I é verdadeira, e a II é falsa.
D) A afirmativa I é falsa, e a II é verdadeira.

---

13) Leia o trecho a seguir.

Todos os sábados, Pedro **visita** a avó e prepara o almoço com ela. No sábado passado, porém, ele **precisou** trabalhar e não conseguiu encontrá-la. Antes de desligar o telefone, prometeu: "No próximo sábado, **voltarei** bem cedo."

Considerando o emprego dos verbos destacados e as relações de tempo estabelecidas no trecho, assinale a alternativa correta.

A) O verbo **visita** indica uma ação que ocorre somente no momento em que o texto é produzido, sem ideia de repetição ou hábito.
B) O verbo **precisou** está no presente e indica uma ação que ocorre habitualmente aos sábados.
C) O verbo **voltarei** refere-se a uma ação passada, pois a promessa foi feita antes do momento em que a história é contada.
D) Os verbos destacados contribuem para estabelecer diferentes relações temporais: **visita** expressa uma ação habitual no presente, **precisou** situa um acontecimento no passado e **voltarei** indica uma ação projetada para o futuro.

---

14) Considere os enunciados a seguir.

I. Que surpresa agradável!
II. Os moradores organizaram a festa do bairro.
III. Silêncio no corredor!
IV. Você encontrou as chaves?

Considerando a diferença entre **frase e oração** e a classificação das frases de acordo com a intenção comunicativa, assinale a alternativa correta.

A) Apenas II e IV são frases, pois todo enunciado precisa apresentar verbo para transmitir uma mensagem completa.
B) I e III são orações, embora não apresentem verbo, porque o ponto de exclamação substitui o emprego da forma verbal.
C) Todos os enunciados são frases; II e IV também são orações por apresentarem verbo, enquanto I e III são frases nominais. Além disso, IV apresenta sentido interrogativo.
D) Apenas I e III são frases nominais, razão pela qual não podem transmitir uma mensagem completa fora de um período formado por oração.

---

15) Leia o trecho a seguir.

Depois de vários dias de chuva, **o sol apareceu entre as nuvens**. Pouco a pouco, **as ruas do bairro recuperaram o movimento habitual**.

Considerando a organização das orações destacadas em **sujeito e predicado**, assinale a alternativa correta.

A) Na primeira oração, **"o sol"** constitui o sujeito, e **"apareceu entre as nuvens"** constitui o predicado; na segunda, **"as ruas do bairro"** é o sujeito, e **"recuperaram o movimento habitual"** é o predicado.
B) Na primeira oração, o sujeito é **"as nuvens"**, pois esse substantivo aparece após o verbo; na segunda, **"o movimento habitual"** funciona como sujeito por indicar aquilo que foi recuperado.
C) Na primeira oração, **"depois de vários dias de chuva"** constitui o sujeito, pois indica quando ocorreu o fato; na segunda, o sujeito é apenas **"bairro"**, por ser o substantivo mais próximo do verbo.
D) Nas duas orações, os sujeitos aparecem depois dos verbos, enquanto as expressões **"o sol"** e **"as ruas do bairro"** fazem parte dos respectivos predicados.

---

16) Leia o trecho a seguir.

Carlos chegou **cedo** ao posto de atendimento, mas a fila já estava grande. Ele aguardou **pacientemente** sua vez e, quando finalmente foi chamado, explicou **calmamente** o problema ao funcionário.

Considerando o sentido expresso pelos advérbios destacados no trecho, assinale a alternativa correta.

A) O advérbio **cedo** indica o modo como Carlos chegou ao posto, enquanto **pacientemente** expressa o momento em que ele aguardou sua vez.
B) Os advérbios **pacientemente** e **calmamente** acrescentam ideia de modo às ações a que se referem, enquanto **cedo** estabelece uma circunstância de tempo.
C) O advérbio **calmamente** modifica o substantivo **problema**, atribuindo-lhe uma característica relacionada à tranquilidade.
D) Os três advérbios destacados expressam circunstâncias de tempo, pois todas as ações narradas ocorreram durante o período de espera de Carlos.

---

17) Leia o aviso a seguir.

Senhores moradores, amanhã, devido à manutenção da rede elétrica, o elevador ficará desligado das 8h às 11h.

Considerando o emprego das vírgulas no aviso, assinale a alternativa correta.

A) A vírgula após **"moradores"** é empregada para separar o termo usado para chamar os destinatários do aviso, enquanto as vírgulas que isolam **"devido à manutenção da rede elétrica"** destacam uma informação que indica a causa de o elevador permanecer desligado.
B) Todas as vírgulas do aviso podem ser retiradas sem alterar sua organização, pois a pontuação é opcional quando o período apresenta apenas uma oração.
C) A vírgula após **"moradores"** indica que essa palavra exerce a função de sujeito do verbo **"ficará"**, enquanto as demais vírgulas são utilizadas para separar palavras escritas no plural.
D) As vírgulas que aparecem antes e depois de **"devido à manutenção da rede elétrica"** indicam que essa expressão reproduz a fala direta de uma pessoa e poderia, por isso, ser substituída por um ponto de interrogação.

---

18) Leia a situação a seguir.

Júlia caminhava pela sala quando ouviu um barulho vindo da cozinha:
— **CRASH!**
Ela correu até lá e encontrou uma panela caída no chão.
— **Nossa!** Que susto! — exclamou.
O gato, sentado ao lado da panela, apenas observava a cena.

Considerando os recursos linguísticos empregados no trecho, assinale **V**, para as afirmativas verdadeiras, e **F**, para as falsas.

( ) **"CRASH!"** funciona como onomatopeia, pois procura representar linguisticamente um som produzido na situação narrada.
( ) **"Nossa!"** funciona como interjeição e, no contexto, contribui para expressar a reação de surpresa e susto de Júlia.
( ) Onomatopeias e interjeições desempenham necessariamente a mesma função: ambas representam sons produzidos por objetos ou animais.

( ) Se a expressão **"Nossa!"** fosse retirada do trecho, nenhuma informação relacionada à reação emocional de Júlia seria afetada, pois interjeições não contribuem para a construção do sentido.

Assinale a alternativa que apresenta a sequência correta, de cima para baixo.

A) V – F – V – F.
B) F – V – F – V.
C) V – V – F – F.
D) F – F – V – V.

---

19) Leia o diálogo a seguir e observe as lacunas.

— Você sabe _____ a reunião foi adiada?
— Sim. Foi _____ o responsável pelo setor precisou viajar.
— E ninguém avisou antes _____?
— Não sei. Também gostaria de entender o _____ dessa demora na comunicação.

Assinale a alternativa que preenche corretamente as lacunas, na ordem em que aparecem.

A) porque – por que – porquê – por quê.
B) por quê – porque – por que – porquê.
C) por que – porquê – por quê – porque.
D) por que – porque – por quê – porquê.

---

20) Considere as palavras a seguir:

feira – família – saída – saúde

Considerando a ordem alfabética e a ocorrência de encontros vocálicos nessas palavras, assinale a alternativa correta.

A) Em **feira**, as vogais **ei** pertencem a sílabas diferentes, formando hiato, e **feira** aparece depois de **família** na ordem alfabética.
B) Em **saída** e **saúde**, as vogais que aparecem juntas na escrita pertencem a sílabas diferentes, formando hiatos; na ordem alfabética, **saída** aparece antes de **saúde**.
C) Em **saída** e **saúde**, ocorrem ditongos, pois as vogais pertencem à mesma sílaba; na ordem alfabética, **saúde** aparece antes de **saída**.
D) Em **feira**, **ei** forma ditongo, mas **saída** e **saúde** não apresentam encontros vocálicos, pois suas vogais são separadas na divisão silábica.

PROVA Nº 04
MATEMÁTICA

21) O diagrama a seguir representa a distribuição de 80 funcionários de uma empresa conforme o turno em que trabalham.

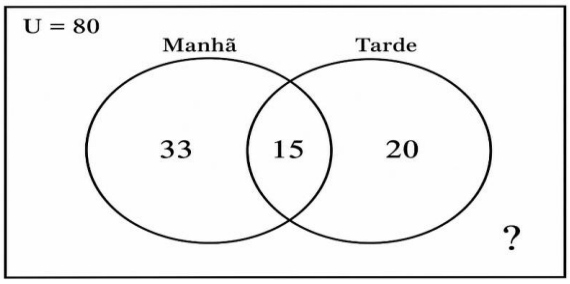

O valor que substitui corretamente o ponto de interrogação (?) é:

A) 10
B) 12
C) 15
D) 18

---

22) O número de fichas cadastradas em um acervo municipal é representado pelo numeral 5.847. A respeito do valor posicional e das ordens desse número, assinale a afirmativa correta:

A) O algarismo 8 ocupa a ordem das dezenas simples e vale 800.
B) O algarismo 5 ocupa a 4ª ordem e seu valor relativo é 5.000.
C) O número é formado por 84 dezenas exatas.
D) O algarismo de maior valor absoluto é o 5.

---

23) A fachada da sede de uma biblioteca pública exibe a data de sua fundação gravada em algarismos romanos: MCMXCIV. A qual ano do nosso calendário (sistema decimal) essa representação corresponde?

A) 1984
B) 1994
C) 2004
D) 2014

---

24) Um almoxarifado possuía 1.450 resmas de papel A4 no início da semana. Na terça-feira, deu saída de 380 resmas; na quinta-feira, recebeu um lote com mais 620 resmas e, na sexta-feira, distribuiu 540 resmas para os setores. Quantas resmas restaram no estoque ao final da semana?

A) 1.150
B) 1.220
C) 1.350
D) 1.690

25) O pictograma a seguir mostra o número de atendimentos realizados por um posto de saúde durante quatro dias da semana.

De acordo com as informações do pictograma, o total de atendimentos realizados nos quatro dias foi:

A) 175
B) 185
C) 190
D) 200

---

26) Quatro candidatos a uma vaga de estágio realizaram uma prova teórica e obtiveram o aproveitamento do total da prova expresso sob diferentes formas de números racionais:

- Ana: $\frac{3}{4}$
- Bruno: $0{,}7$
- Carla: $\frac{4}{5}$
- Diego: $0{,}78$

O candidato que obteve o maior aproveitamento foi:

A) Ana
B) Bruno
C) Carla
D) Diego

---

27) Para pintar o muro de um parque público, uma equipe utilizou $\frac{1}{3}$ do total de tinta no primeiro dia e $\frac{2}{5}$ do total no segundo dia. A fração de tinta que ainda resta para concluir a pintura é:

A) $\frac{3}{8}$

B) $\frac{4}{15}$

C) $\frac{7}{15}$

D) $\frac{11}{15}$

28) Uma jarra contém $\frac{3}{4}$ de litro de suco concentrado. Esse conteúdo será dividido igualmente em copos com capacidade de $\frac{1}{8}$ de litro cada um. Quantos copos cheios poderão ser servidos?

A) 4
B) 6
C) 8
D) 12

---

29) Um servidor comprou 3 canetas por R$4,75 cada uma e 2 blocos de anotações por R$8,30 cada um. Se ele pagou essa compra com uma nota de R$50,00, quanto deve receber de troco?

A) R$ 19,15
B) R$ 30,85
C) R$ 32,55
D) R$ 35,85

---

30) Em um processo seletivo simplificado para prestação de serviços municipais, inscreveram-se 450 candidatos. Sabendo que 28% dos inscritos foram aprovados na primeira etapa, o número total de candidatos aprovados foi:

A) 112
B) 126
C) 135
D) 144

---

31) Um utilitário elétrico custa originalmente R$8.500,00. Para compras à vista pagas por transferência bancária, a loja concede um desconto de 12%. Qual é o valor final do utilitário com esse desconto?

A) R$ 7.280,00
B) R$ 7.480,00
C) R$ 7.520,00
D) R$ 7.650,00

---

32) Uma pessoa deseja trocar uma nota de R$100,00 em cédulas menores para facilitar o troco em um evento comunitário. Ela recebeu 8 notas de R$10,00, 2 notas de R$5,00 e o restante em notas de R$2,00. Quantas notas de R$2,00 ela recebeu nessa troca?

A) 6
B) 7
C) 5
D) 8

---

33) A figura a seguir representa a planta de um piso que será revestido com cerâmica. As medidas estão indicadas em metros. A área total desse piso, em metros quadrados, é:

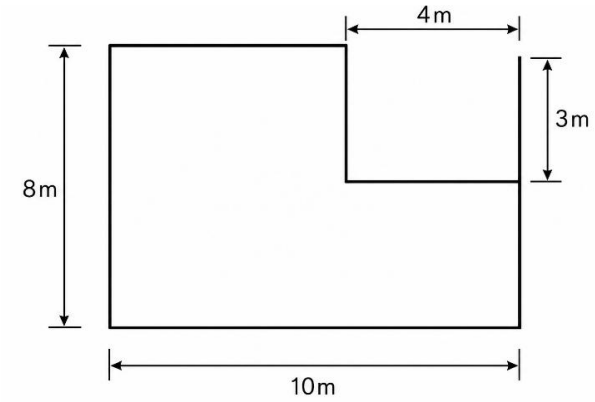

A) 56 m²

B) 68 m²

C) 72 m²

D) 80 m²

---

34) Uma receita de merenda escolar utiliza 350 gramas de carne moída por porção coletiva. Se a cozinha precisa preparar 40 dessas porções coletivas em um dia, a quantidade total de carne necessária, expressa em **quilogramas**, é:

A) 12 kg
B) 14 kg
C) 16 kg
D) 140 kg

---

35) Um reservatório d'água de uma escola comunitária possui capacidade total de 2,5 metros cúbicos (m^3). Sabendo que $1m^3$ equivale a 1.000 litros e que o reservatório contém atualmente 1.850 litros de água, quantos litros faltam para enchê-lo completamente?

A) 650 L
B) 750 L
C) 850 L
D) 1.150 L

---

36) Observe o relógio a seguir:



O horário indicado pelos ponteiros é:

A) 3 horas e 35 minutos
B) 3 horas e 41 minutos
C) 4 horas e 40 minutos
D) 8 horas e 15 minutos

37) Ao abastecer o veículo da firma, o motorista verificou que a bomba indicava um total de 38,45 litros de gasolina. Após rodar durante o dia, o painel do carro indicou que foram consumidos 14,875 litros.

Quantos litros de combustível restaram no tanque?

A) 23,575 L
B) 23,625 L
C) 24,125 L
D) 24,575 L

---

38) Um estoque contém 240 caixas de lâmpadas LED. Em uma vistoria, constatou-se que $\frac{3}{8}$ dessas caixas estavam com o selo de garantia violado. Quantas caixas estavam com o selo intacto?

A) 90
B) 120
C) 150
D) 160

---

39) O gráfico a seguir apresenta o consumo mensal de água, em litros, de quatro setores de uma repartição pública.

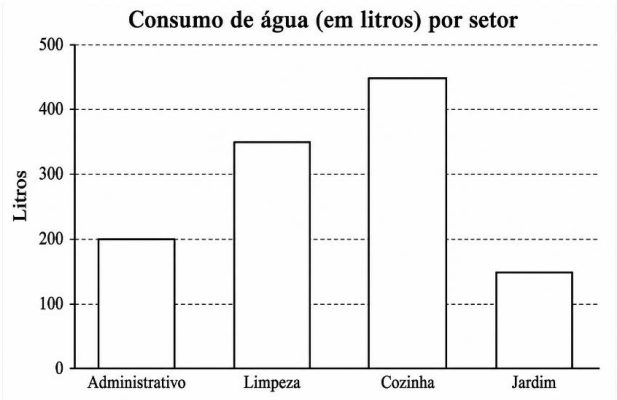

Com base nas informações do gráfico, o consumo total de água de todos os setores, em litros, é igual a:

A) 1.050
B) 1.100
C) 1.150
D) 1.200

---

40) Um trabalhador autônomo prestou serviços durante 4 dias em uma obra. Ele cobra R$130,00 por dia trabalhado, mas teve um desconto total de R$45,00 referente ao custo de transporte que a contratante adiantou. O valor líquido recebido por esse trabalhador foi:

A) R$ 475,00
B) R$ 485,00
C) R$ 520,00
D) R$ 565,00