Prefeitura Municipal de Tangará da Serra



Concurso Público

Edital nº 001/2018 e complementares

Cargos:
Maqueiro
Recepcionista

Nome do Candidato

Número de Inscrição

						–	

UNIVERSIDADE FEDERAL DE MATO GROSSO
Gerência de Exames e Concursos

I N S T R U Ç Õ E S

LEIA COM ATENÇÃO

1. Este Caderno de Prova, com páginas numeradas de **1** a **13**, é constituído de **30 (trinta)** questões objetivas, cada uma com quatro alternativas, assim distribuídas:

01 a **10 – Língua Portuguesa**
11 a **20 – Matemática**
21 a **25 – Legislação Básica**
26 a **30 – Conhecimentos Gerais**

2. Caso o Caderno de Prova esteja incompleto ou tenha qualquer defeito de impressão, solicite ao fiscal que o substitua.

3. ***Sobre a Marcação do Cartão de Respostas***

As respostas deverão ser transcritas com caneta esferográfica de tinta azul ou preta não porosa, fabricada em material transparente, para o Cartão de Respostas, que será o único documento válido para correção. O Cartão de Respostas não será substituído por erro ou dano do candidato.

3.1. Para cada questão existe apenas uma alternativa que a responde acertadamente. Para a marcação da alternativa escolhida no **CARTÃO DE RESPOSTAS, pinte** completamente o campo correspondente.

*Exemplo: Suponha que para determinada questão a alternativa **C** seja a escolhida*.

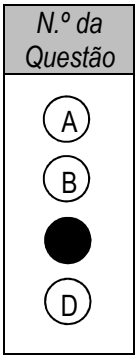

3.2. Será invalidada a questão em que houver mais de uma marcação, marcação rasurada ou emendada, ou não houver marcação.

3.3. Não rasure nem amasse o **CARTÃO DE RESPOSTAS**.

4. A duração da prova é de **quatro** horas, já incluído o tempo destinado ao preenchimento do **CARTÃO DE RESPOSTAS**.

5. Todos os espaços em branco, neste caderno, podem ser utilizados para rascunho.

6. Será permitida a saída de candidatos da sala de prova **somente** após decorridas **duas horas e trinta minutos** do início da prova. Nesse caso, o candidato deverá entregar, **obrigatoriamente**, ao fiscal o Caderno de Prova e o Cartão de Respostas.

7. O candidato que insistir em sair da sala de prova antes de transcorridas **duas horas e trinta minutos** do início da prova deverá assinar **Termo de Ocorrência** declarando **desistência** do Concurso.

8. Será permitida a saída de candidatos levando o Caderno de Prova **somente na última meia hora de prova**.

9. Na página **13** deste Caderno de Prova, encontra-se a **Folha de Anotação do Candidato**, a qual poderá ser utilizada para a transcrição das respostas das questões objetivas. Essa folha poderá ser levada pelo candidato para posterior conferência com o gabarito somente após decorridas **duas horas e trinta minutos** do início da prova.

10. Terminada a prova, o candidato deverá, **obrigatoriamente**, entregar ao fiscal o **CARTÃO DE RESPOSTAS**.

LÍNGUA PORTUGUESA

INSTRUÇÃO: Leia o texto abaixo para responder às questões de 01 a 05.

Fábula da cidade

Uma casa é muito pouco para um homem; sua verdadeira casa é a cidade. E os homens não amam as cidades que os humilham e os sufocam, mas aquelas que parecem amoldadas às suas necessidades e desejos, humanizadas e oferecidas – uma cidade deve ter a medida do homem.

É possível que, pouco a pouco, os lugares cordiais da cidade estejam desaparecendo, desfigurados pelo progresso e pela técnica, tornados monstruosos pela conspiração dos elementos que obrigam as criaturas a viver como se estivessem lutando, unidas a um certo número de rituais que as impedem de parar no meio de uma calçada para ver uma criança ou as levam a atravessar uma rua como se estivessem fugindo da morte.

Em cidades assim, a criatura pouco ou nada vale, porque não existe entre elas e a paisagem a harmonia necessária que torna a vida uma coisa digna. E o habitante, escravizado pelo monstro da indiferença, vai se repetindo diariamente, correndo para as filas dos alimentos, dos transportes, do trabalho e das diversões, proibido de fazer algo que lhe dê a certeza da própria existência.

(LÊDO, Ivo. In: **O navio adormecido no bosque**. 2ª ed. São Paulo: Duas cidades, 1977.Fragmento)

Questão 01

Marque o trecho que apresenta a ideia principal defendida pelo autor nessa crônica.

(A) *É possível que, pouco a pouco, os lugares cordiais da cidade estejam desaparecendo*
(B) *Em cidades assim, a criatura pouco ou nada vale*
(C) *Uma casa é muito pouco para um homem; sua verdadeira casa é a cidade.*
(D) *– uma cidade deve ter a medida do homem*.

Questão 02

O autor recorre à linguagem conotativa para sugerir a sua opinião sobre a relação de algumas cidades com os seus habitantes, como ocorre no seguinte trecho:

(A) *E o habitante, escravizado pelo monstro da indiferença, vai se repetindo diariamente*
(B) *Em cidades assim, a criatura pouco ou nada vale*
(C) *Uma casa é muito pouco para um homem*
(D) *É possível que, pouco a pouco, os lugares cordiais da cidade estejam desaparecendo*

Questão 03

Analise as afirmativas referentes aos elementos gramaticais responsáveis pela conexão entre as partes do texto.

I - No trecho *E os homens não amam as cidades que os humilham e os sufocam, **mas** aquelas que parecem amoldadas às suas necessidades e desejos,* o elemento destacado liga duas ideias, estabelecendo entre elas relação de oposição.

II - No trecho ***Em cidades assim**, a criatura pouco ou nada vale,* os elementos destacados fazem referência ao que foi apresentado no parágrafo anterior.

III - Em *Uma casa é muito pouco para um homem; **sua** verdadeira casa é a cidade,* o pronome destacado faz a conexão entre *homem* e *verdadeira casa,* estabelecendo entre esses elementos relação de posse.

IV - No trecho *É possível que, **pouco a pouco**, os lugares cordiais da cidade estejam desaparecendo**,*** os elementos destacados intensificam a ação de desaparecimento dos lugares cordiais.

Está correto o que se afirma em

(A) II e IV, apenas.
(B) I, II e III, apenas.
(C) I, III e IV, apenas.
(D) II e III, apenas.

Questão 04

No trecho *É possível que, pouco a pouco, os lugares cordiais da cidade estejam desaparecendo,* o adjetivo ***cordiais*** poderia ser substituído, sem comprometer o sentido, por

(A) efusivos.
(B) sinceros.
(C) civilizados.
(D) fraternos.

Questão 05

Em relação ao emprego dos verbos, visando ao efeito de sentido, é correto afirmar:

(A) Em *E o habitante, escravizado pelo monstro da indiferença, vai se* ***repetindo*** *diariamente,* ***correndo*** *para as filas dos alimentos, dos transportes,* as formas verbais destacadas expressam ações prolongadas no tempo.
(B) Em *uma cidade* ***deve ter*** *a medida do homem,* a locução verbal destacada expressa ação futura.
(C) Em *É possível que, pouco a pouco, os lugares cordiais da cidade* ***estejam desaparecendo,*** a locução verbal destacada expressa ideia de certeza.
(D) Em *E os homens não* ***amam*** *as cidades que os* ***humilham****,* as formas verbais fazem referência a fatos já ocorridos.

Questão 06

Leia atentamente o texto abaixo.



(Disponível em: https://www.google.com.br. Acesso em: 03/01/2019.)

A respeito do uso da língua nesse texto publicitário, marque a afirmativa correta.

(A) É usada uma variante informal, porque se trata de um texto publicitário dirigido a um público jovem.
(B) Todas as palavras estão empregadas no sentido denotativo, possibilitando uma só interpretação.
(C) Em ***Tome*** *essa atitude*, a forma verbal destacada possibilita uma única interpretação.
(D) Em ***Se liga!***, a forma verbal destacada expressa incerteza.

Questão 07

Leia atentamente o texto abaixo.

Um sistema de transporte coletivo de qualidade pode fazer toda diferença nas grandes cidades. Os moradores ganham em qualidade de vida por não passarem tanto tempo em deslocamentos, passam a ser mais produtivos e a ter mais tempo livre. Além disso, a infraestrutura de transportes pode alavancar a geração de empregos.

(Disponível em: https://g1.globo.com/especial-publicitario/em-movimento/ccr/noticia/2018/12/13. Acesso em:03/01/2019.)

No fragmento da notícia acima, fica claro que

(A) a população das grandes cidades dispõe de um sistema de transporte coletivo eficiente.
(B) os moradores das grandes cidades não são produtivos, porque dependem de um sistema de trânsito precário.
(C) nas grandes cidades, um sistema de transporte coletivo de qualidade traria benefícios tanto para a população quanto para o setor produtivo.
(D) nas grandes cidades, o deslocamento impede que as pessoas tenham tempo livre.

Questão 08

Leia atentamente o texto abaixo.



(Disponível em: http://textoemmovimento.blogspot.com. Acesso em: 07/01/2019.)

Nessa charge, por meio da linguagem verbal e não verbal, o autor

(A) exalta a ingenuidade do adulto diante das mudanças do clima.
(B) manifesta ponto de vista crítico sobre a admiração da criança diante da degradação do meio ambiente.
(C) manifesta opinião favorável a respeito da relação entre homem e natureza.
(D) expressa opinião crítica sobre as consequências dos impactos ambientais causados pelo homem.

INSTRUÇÃO: Leia o texto a seguir para responder às questões 09 e 10.

Nadar em águas cristalinas em meio a centenas de peixes é uma experiência almejada por todo turista que viaja em busca de destinos paradisíacos. Uma lista de lugares onde é possível ter essa experiência certamente incluiria Fernando de Noronha, o Caribe, talvez as Maldivas. Mas algo que aprendi em minhas andanças pelo Brasil é que não é preciso ir tão longe para mergulhar em águas azuis-turquesa.

A verdade é que o paraíso está logo ali e se chama Bom Jardim. Com rios cristalinos, lagoas de águas azuis e misteriosas cavernas, o pequeno distrito de Nobres, no Mato Grosso, ainda é pouco explorado pelo turismo de massa, o que garante tranquilidade e preços bastante amigáveis se comparados aos de Bonito, sua irmã sul-mato-grossense. As atrações dos dois destinos são bastante semelhantes – flutuação em rios e nascentes, cachoeiras boia cross – mas Bom Jardim ainda guarda uma vantagem em relação a Bonito: suas águas têm temperatura mais agradável, dispensando o uso de roupas de neoprene.

(AZEREDO, Marina. Azul Magazine, nº 64, agosto de 2018. Fragmento.)

Questão 09

Conclui-se da leitura do fragmento dessa matéria:

(A) Em Bonito, a temperatura das águas dispensa o uso de roupas de neoprene.
(B) Bom Jardim é um lugar turístico de belezas naturais preservadas, porque ainda é pouco explorado.
(C) O custo do turismo em Bom Jardim é igual ao praticado em Bonito.
(D) Bom Jardim e Bonito oferecem as mesmas atrações aos turistas.

Questão 10

Em relação aos recursos gramaticais usados pela autora a fim de provocar no leitor determinado efeito de sentido, marque V para as afirmativas verdadeiras e F para as falsas.

( ) A autora está em Bom Jardim no momento em que escreve essa matéria, como sugere o trecho *A verdade é que o paraíso está logo ali e se chama Bom Jardim.*
( ) No trecho *não é preciso ir tão longe para mergulhar em águas azuis-turquesa*, a autora faz referência, principalmente, ao Caribe e às Maldivas.
( ) Em *Nadar em águas cristalinas em meio a centenas de peixes é uma experiência almejada por todo turista que viaja em busca de destinos paradisíacos,* o adjetivo *paradisíacos* remete à imagem propiciada pelas *águas cristalinas* e por *centenas de peixes.*
( ) Em *preços bastante **amigáveis**,* o adjetivo em destaque se opõe ao sentido do adjetivo *convidativos*.

Assinale a sequência correta.

(A) V, V, F, V
(B) F, F, V, V
(C) F, V, V, F
(D) V, F, V, F

MATEMÁTICA

Questão 11

O vencimento básico inicial de um motorista da Prefeitura Municipal é R$ 1.132,52. Se ele aplicar todo esse vencimento no regime de juros simples a uma taxa de 5% a.m., o valor duplicará em

(A) 20 meses.
(B) 2 anos.
(C) 30 meses.
(D) 3 anos.

Espaço para Rascunho

Questão 12

A figura abaixo mostra parte de um modelo de conta de água de Tangará da Serra para esclarecimento ao cidadão, indicando os campos numerados de 1 a 12. O campo 12 indica o total dos valores faturados, em reais, lançados nessa conta. Os sete primeiros valores do campo 11 representam débitos, e o último valor representa um crédito de R$ 15,36 para esse consumidor.

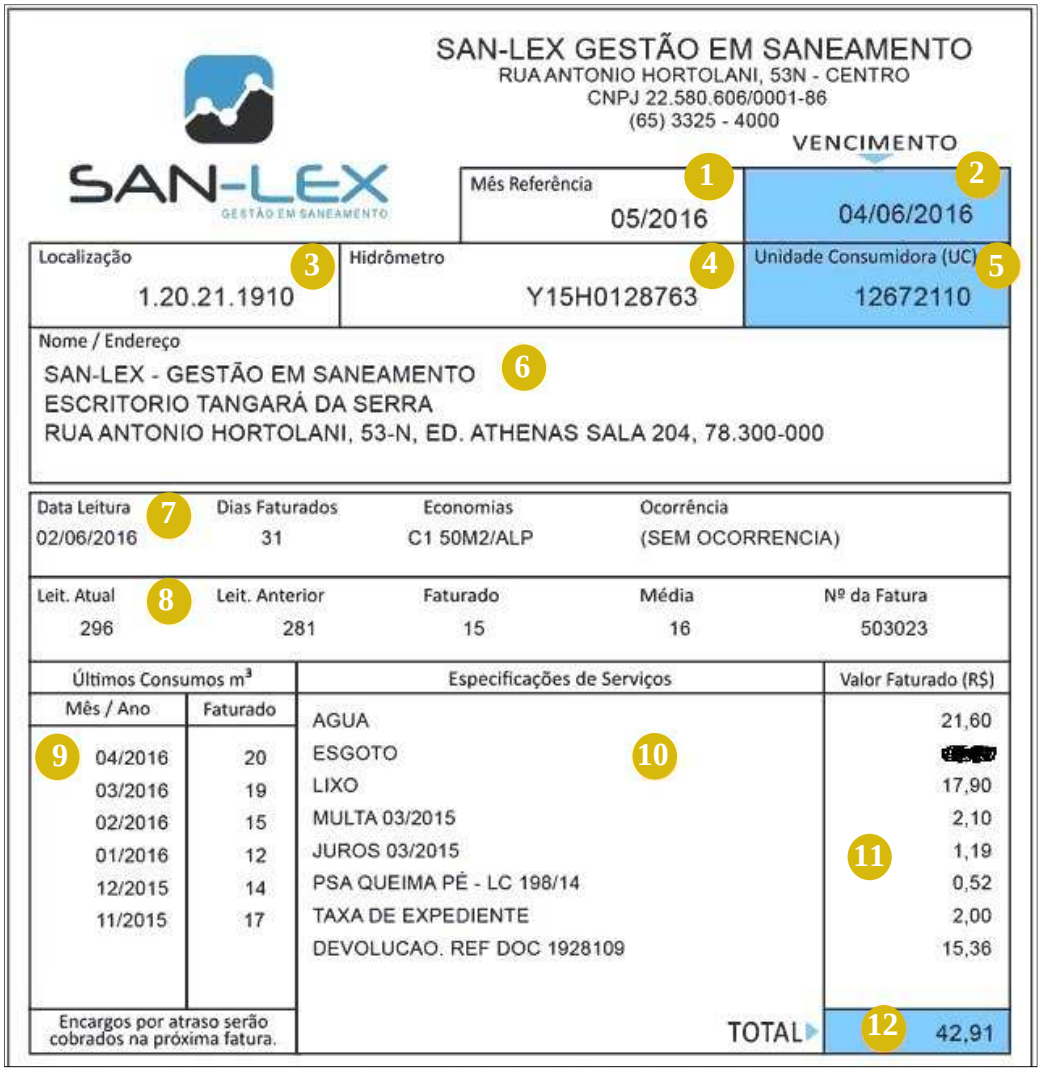

SAN-LEX GESTÃO EM SANEAMENTO
RUA ANTONIO HORTOLANI, 53N - CENTRO
CNPJ 22.580.606/0001-86
(65) 3325 - 4000

SAN-LEX
GESTÃO EM SANEAMENTO

VENCIMENTO

1 Mês Referência	2
05/2016	04/06/2016

3 Localização	4 Hidrômetro	5 Unidade Consumidora (UC)
1.20.21.1910	Y15H0128763	12672110

Nome / Endereço
6 SAN-LEX - GESTÃO EM SANEAMENTO
ESCRITORIO TANGARÁ DA SERRA
RUA ANTONIO HORTOLANI, 53-N, ED. ATHENAS SALA 204, 78.300-000

7 Data Leitura	Dias Faturados	Economias	Ocorrência
02/06/2016	31	C1 50M2/ALP	(SEM OCORRENCIA)

8 Leit. Atual	Leit. Anterior	Faturado	Média	Nº da Fatura
296	281	15	16	503023

Últimos Consumos m³		Especificações de Serviços	Valor Faturado (R$)
Mês / Ano	Faturado		
9 04/2016	20	AGUA	21,60
03/2016	19	ESGOTO 10	[redacted]
02/2016	15	LIXO	17,90
01/2016	12	MULTA 03/2015	2,10
12/2015	14	JUROS 03/2015	11 1,19
11/2015	17	PSA QUEIMA PÉ - LC 198/14	0,52
		TAXA DE EXPEDIENTE	2,00
		DEVOLUCAO. REF DOC 1928109	15,36
Encargos por atraso serão cobrados na próxima fatura.		TOTAL	12 42,91

A partir dessas informações, assinale o valor faturado, em reais, indicado no item esgoto, que se encontra rasurado no campo 11.

(A) 12,90
(B) 12,92
(C) 12,96
(D) 12,94

Espaço para Rascunho

Questão 13

O vencimento básico inicial de um mecânico da Prefeitura Municipal é R$ 1.132,52. Três de suas despesas mensais consomem $\frac{3}{20}$, $\frac{4}{28}$ e $\frac{5}{34}$ desse salário. Assinale a alternativa que apresenta a ordem crescente dessas despesas.

(A) $\frac{3}{20} < \frac{4}{28} < \frac{5}{34}$

(B) $\frac{4}{28} < \frac{5}{34} < \frac{3}{20}$

(C) $\frac{3}{20} < \frac{5}{34} < \frac{4}{28}$

(D) $\frac{4}{28} < \frac{3}{20} < \frac{5}{34}$

Questão 14

Um turista, interessado nas dimensões do Parque Municipal de Tangará da Serra, utilizou o Google Maps para estimar sua área. Para isso, desenhou um trapézio ABCD, retângulo em A, e obteve, por meio de uma ferramenta de medição do Google Maps, as seguintes medidas:

- Distância de A até B igual a 306,36 m (base maior);
- Distância de C até D igual a 263,39 m (base menor);
- Distância de A até D igual a 410,28 m (altura).

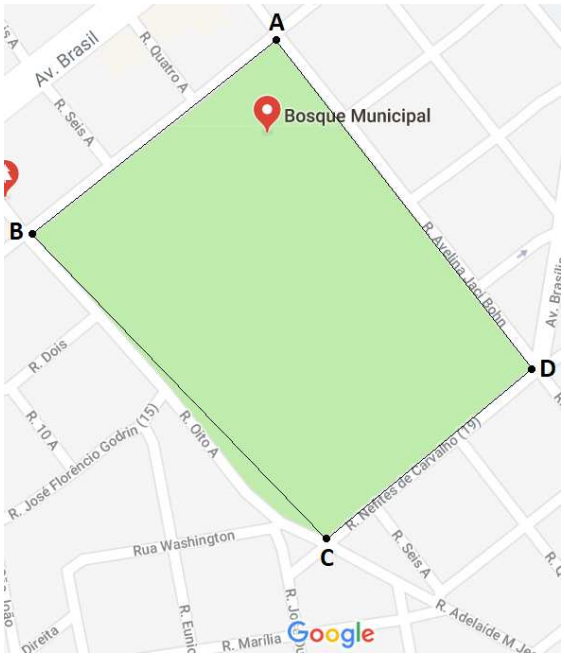

A partir dessas informações, assinale a alternativa que apresenta, aproximadamente, o valor, em hectares, da área do parque.

(A) 12
(B) 10
(C) 11
(D) 13

Espaço para Rascunho

Questão 15

O Município de Tangará da Serra deseja adquirir equipamentos hospitalares e materiais permanentes, a fim de atender a demanda da sua secretaria de saúde. Dentre esses materiais, estão quatro câmaras para conservação de sangue e oito câmaras para conservação de imunobiológicos ao custo de R$ 122.800,00. Se optar por adquirir uma câmara de cada tipo, o custo será de R$ 18.800,00. A partir dessas informações, assinale a afirmativa **INCORRETA**.

(A) A diferença entre os valores de uma câmara para conservação de imunobiológicos e uma para conservação de sangue é R$ 5.000,00.
(B) Uma câmara para conservação de imunobiológicos custa menos que R$ 12.000,00.
(C) Uma câmara para conservação de sangue custa menos que R$ 7.000,00.
(D) Uma câmara para conservação de imunobiológicos custa o dobro de uma para conservação de sangue.

Questão 16

Um grupo de seis recepcionistas da Prefeitura Municipal, igualmente eficientes, atende 200 munícipes em quatro horas de trabalho. Se esse grupo for acrescido de mais duas recepcionistas, igualmente eficientes às primeiras, então os mesmos 200 munícipes serão atendidos, por esse novo grupo, em

(A) 5 horas e 20 minutos.
(B) 3 horas.
(C) 4 horas e 45 minutos.
(D) 2 horas.

Questão 17

O manancial que abastece a Estação de Tratamento de Água de Tangará da Serra é o do Rio Queima Pé, localizado na Bacia do Rio Queima pé, que recebe como adutores o córrego Figueira, o córrego Cristalino e o córrego Tapera. A vazão do córrego em época de seca é de aproximadamente 270 L/s e, em época de chuva, chega a aproximadamente 2000 L/s. A ETA tem capacidade de tratamento de 320 L/s, operando 24 horas por dia, sem comprometer a qualidade do produto final. A partir dessas informações, assinale a alternativa que apresenta o tempo gasto pela ETA para tratar um volume de água referente à diferença entre os volumes de água dessas duas vazões para o período de uma hora.

(A) Menos de 4 horas
(B) Entre 4 e 5 horas
(C) Mais de 6 horas
(D) Entre 5 e 6 horas

Espaço para Rascunho

Questão 18

Numa confraternização de final de ano, um grupo de servidores da Prefeitura Municipal comprou várias pizzas de tamanhos iguais, fatiando-as em partes iguais, conforme as figuras abaixo. Nessas figuras, a parte clara representa as fatias comidas por um dos servidores.

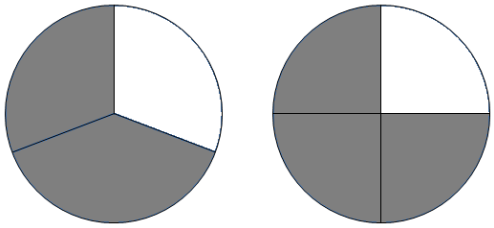

A partir dessas informações, assinale a alternativa que apresenta a fração de uma pizza que corresponde às fatias comidas por esse servidor.

(A) $\frac{2}{7}$

(B) $\frac{17}{12}$

(C) $\frac{7}{12}$

(D) $\frac{5}{7}$

Questão 19

Para efeito de estimativa da área central da rotatória da Av. Brasil com a Av. Tancredo Neves, considere que ela forma um círculo de raio de 26 m e que $\pi = 3{,}14$.

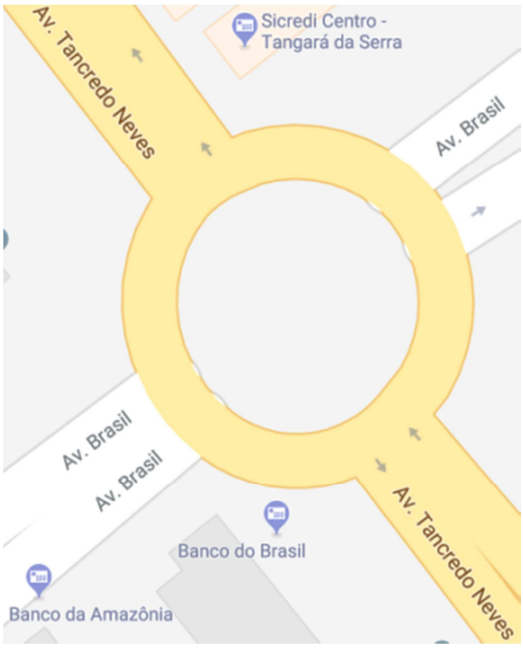

A partir dessas informações, assinale a alternativa que apresenta o valor aproximado dessa área.

(A) 2.113 m²

(B) 2.133 m²

(C) 2.123 m²

(D) 2.143 m²

Espaço para Rascunho

Questão 20

Observe o fragmento de mapa abaixo.

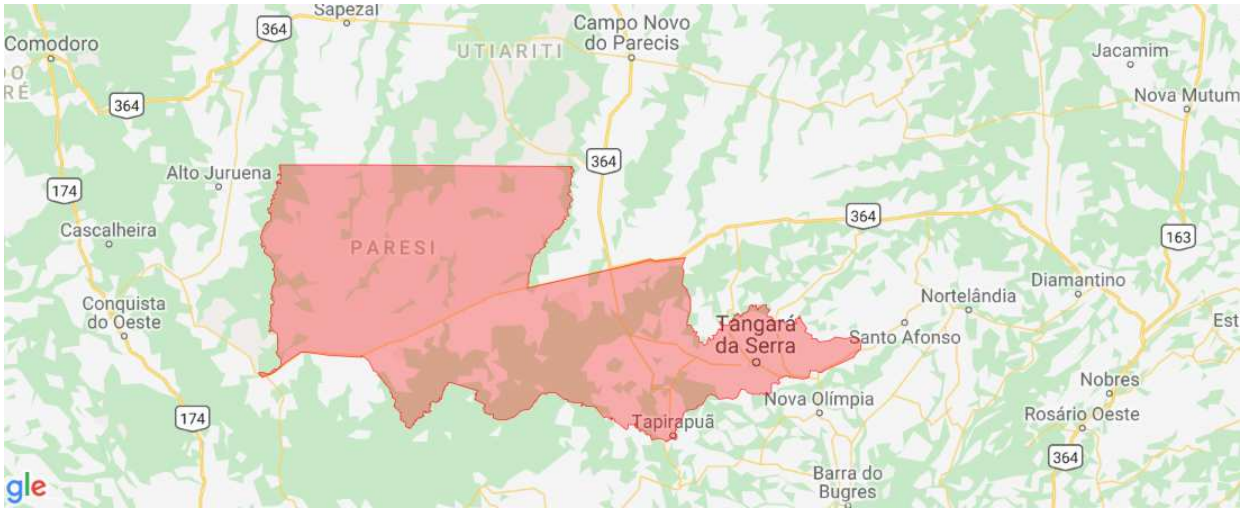

Trata-se da área territorial do município de Tangará da Serra, que, segundo o IBGE [2017], é 11.601,252 km². Desses, cerca de 48,58% são terras indígenas da etnia Paresi. Assinale a alternativa que apresenta o valor aproximado, em hectares, dessas terras.

(A) 572.408
(B) 581.637
(C) 555.120
(D) 563.589

Espaço para Rascunho

LEGISLAÇÃO BÁSICA

Questão 21

Em conformidade com o mandamento constitucional, a Lei nº 2.875/2008, que dispõe sobre o Plano de Cargos, Carreiras, Funções e Vencimentos dos Servidores Públicos do Município de Tangará da Serra/MT, estabelece que o servidor concursado, desde que cumpridos os requisitos para sua confirmação no cargo, será considerado estável após o decurso de

(A) 02 (dois) anos de serviço público.
(B) 03 (três) anos de serviço público.
(C) 05 (cinco) anos de serviço público.
(D) 04 (quatro) anos de serviço público.

Questão 22

Nos termos da Lei Complementar nº 006/1994, que dispõe sobre o Regime Jurídico Único dos Servidores Públicos do Município de Tangará da Serra/MT, o prazo para o servidor entrar em exercício, a partir da data da sua posse, é de até

(A) 15 (quinze) dias, com possibilidade de prorrogação.
(B) 30 (trinta) dias, sem possibilidade de prorrogação.
(C) 15 (quinze) dias, sem possibilidade de prorrogação.
(D) 30 (trinta) dias, com possibilidade de prorrogação.

Questão 23

Em consonância com a Lei Complementar nº 006/1994, que dispõe sobre o Regime Jurídico Único dos Servidores Públicos do Município de Tangará da Serra/MT, é correto afirmar sobre estágio probatório:

(A) Ao entrar em exercício, o servidor nomeado para cargo de provimento efetivo será submetido à avaliação do estágio probatório para aferir sua aptidão e capacidade para o desempenho do cargo.
(B) Não há prazo estabelecido para conclusão da avaliação durante o estágio probatório.
(C) A avaliação durante o estágio probatório é realizada pelo órgão de pessoal sem a participação do chefe imediato do servidor.
(D) O servidor que não for aprovado na avaliação do estágio probatório será colocado em disponibilidade.

Questão 24

De acordo com a Lei nº 2.875/2008, que dispõe sobre o Plano de Cargos, Carreiras, Funções e Vencimentos dos Servidores Públicos do Município de Tangará da Serra/MT, o servidor concursado, assim que assumir o cargo, será enquadrado no início do seu grupo ocupacional e terá direito à progressão na carreira após

(A) a conclusão de curso de qualificação.
(B) a aprovação em novo concurso público.
(C) o primeiro ano de serviço público.
(D) o término do estágio probatório.

Questão 25

Considerando o disposto na Lei nº 2.875/2008 do Município de Tangará da Serra/MT sobre provimento de cargos, é **INCORRETO** afirmar:

(A) Os cargos são providos em caráter efetivo e em comissão.
(B) O provimento originário dos cargos é feito mediante nomeação.
(C) Os cargos comissionados não são acessíveis aos servidores concursados.
(D) Os cargos de provimento efetivo são acessíveis aos habilitados em concurso público.

CONHECIMENTOS GERAIS

Questão 26

Tangará da Serra conta com 101.764 habitantes, segundo a estimativa do IBGE com dados de 2018. Apresenta-se como a principal cidade de sua microrregião, com cerca de 3% da população de Mato Grosso. Em termos de desenvolvimento a cidade apresenta o maior Índice de Desenvolvimento Humano (IDH) da microrregião com 0,78 (23º do estado de Mato Grosso).

(Disponível em: https://www2.unemat.br/nepec/perfil_tangara/. Acesso em: 01/12/2018. Adaptado.)

Os dados do texto permitem considerar que o município

(A) Melhorou a urbanização e aumentou a taxa de contribuição fiscal do município.
(B) Teve aumentada a população rural e melhorou a distribuição de postos de trabalho.
(C) Cresceu em contingente populacional e melhorou a oferta de saúde e educação.
(D) Cresceu em recolhimento de impostos e investiu mais no comércio e indústrias.

Questão 27

Sobre a hidrografia do município de Tangará da Serra, assinale a afirmativa correta.
(A) Os principais rios do município são os rios Sepotuba, Paraguai e dos Peixes, todos da bacia Amazônica.
(B) O município está inserido em duas grandes bacias hidrográficas, a Amazônica e a do Prata.
(C) O rio Formoso é utilizado somente para abastecimento da cidade, enquanto o rio Alegre abastece sitiantes.
(D) A Serra da Borba é o divisor de águas entre as bacias do Amazonas e a do Prata.

Questão 28

A base de sustentação econômica de Mato Grosso esteve historicamente assentada na agropecuária desenvolvida em grandes propriedades, onde a pecuária liderou o setor até 1975. Ainda que a maior parte das terras utilizadas pelos estabelecimentos rurais continue sendo com pastagens, a produção agrícola vem liderando o setor em produtividade e renda. Segundo dados do Ministério da Agricultura, Pecuária e Abastecimento (MAPA) e estudos da Empresa Brasileira de Pesquisa Agropecuária (EMBRAPA), Mato Grosso se manterá na liderança em produção até 2026, com destaque para
(A) soja e milho.
(B) soja e algodão.
(C) soja e cana de açúcar.
(D) soja e carne bovina.

Questão 29

A primeira metade do século XVIII marcou o início da conquista das terras onde, posteriormente, seria criada a província do Mato Grosso. Tal ocupação foi motivada pela descoberta de jazidas auríferas nos rios da região, tais como o Coxipó-Mirim, as quais resultaram de um fenômeno que marca a sociedade colonial brasileira. Qual é esse fenômeno?
(A) Escravismo
(B) Miscigenação
(C) *Plantation*
(D) Bandeiras

Questão 30

O processo de colonização e ocupação da Amazônia Legal, levado a cabo pelo regime civil militar fundamentalmente ao longo da década de 70 do século passado, transformou profundamente o estado de Mato Grosso, especialmente no que diz respeito à população, devido ao intenso fluxo migratório que se dirigiu para a região. Acerca desse movimento migratório, é correto afirmar:
(A) Foi constituído principalmente por agricultores vindos do Sul do Brasil em busca de terras.
(B) Reuniu um expressivo contingente de imigrantes devido à crise econômica latino-americana.
(C) Dirigiu-se majoritariamente para as cidades que compõem a região metropolitana de Cuiabá.
(D) Foi o responsável pela divisão do Estado, ocorrida em 1977.

Prefeitura Municipal de Tangará da Serra

Concurso Público

Edital nº 001/2018 e complementares

Esta folha é destinada para uso EXCLUSIVO do candidato.

Nível Fundamental Completo

Cargos:
Maqueiro
Recepcionista

Folha de Anotação do Candidato

01	02	03	04	05	06	07	08	09	10

11	12	13	14	15	16	17	18	19	20

21	22	23	24	25	26	27	28	29	30

UNIVERSIDADE FEDERAL DE MATO GROSSO
Gerência de Exames e Concursos