Prefeitura Municipal de Tangará da Serra



Concurso Público

Edital nº 001/2018 e complementares

Cargo:
Mecânico

Caderno de Prova

Nome do Candidato

Número de Inscrição

						–	

UNIVERSIDADE FEDERAL DE MATO GROSSO
GERÊNCIA DE EXAMES E CONCURSOS

I N S T R U Ç Õ E S

LEIA COM ATENÇÃO

1. Este Caderno de Prova, com páginas numeradas de **1** a **13**, é constituído de **30 (trinta)** questões objetivas, cada uma com quatro alternativas, assim distribuídas:

01 a **08 – Língua Portuguesa**
09 a **15 – Matemática**
16 a **20 – Legislação Básica**
21 a **30 – Conhecimentos Específicos**

2. Caso o Caderno de Prova esteja incompleto ou tenha qualquer defeito de impressão, solicite ao fiscal que o substitua.

3. ***Sobre a Marcação do Cartão de Respostas***

As respostas deverão ser transcritas com caneta esferográfica de tinta azul ou preta não porosa, fabricada em material transparente, para o Cartão de Respostas, que será o único documento válido para correção. O Cartão de Respostas não será substituído por erro ou dano do candidato.

3.1. Para cada questão existe apenas uma alternativa que a responde acertadamente. Para a marcação da alternativa escolhida no **CARTÃO DE RESPOSTAS, pinte** completamente o campo correspondente.

*Exemplo: Suponha que para determinada questão a alternativa **C** seja a escolhida.*

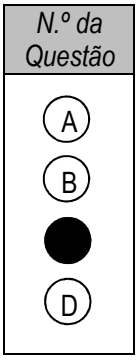

3.2. Será invalidada a questão em que houver mais de uma marcação, marcação rasurada ou emendada, ou não houver marcação.

3.3. Não rasure nem amasse o **CARTÃO DE RESPOSTAS**.

4. A duração da prova é de **quatro** horas, já incluído o tempo destinado ao preenchimento do **CARTÃO DE RESPOSTAS** e a coleta de impressão digital de candidatos.

5. Todos os espaços em branco, neste caderno, podem ser utilizados para rascunho.

6. Será permitida a saída de candidatos da sala de prova **somente** após decorridas **duas horas e trinta minutos** do início da prova. Nesse caso, o candidato deverá entregar, **obrigatoriamente**, ao fiscal o Caderno de Prova e o Cartão de Respostas.

7. O candidato que insistir em sair da sala de prova antes de transcorridas **duas horas e trinta minutos** do início da prova deverá assinar **Termo de Ocorrência** declarando **desistência** do Concurso.

8. Será permitida a saída de candidatos levando o Caderno de Prova **somente na última meia hora de prova**.

9. Na página **13** deste Caderno de Prova, encontra-se a **Folha de Anotação do Candidato**, a qual poderá ser utilizada para a transcrição das respostas das questões objetivas. Essa folha poderá ser levada pelo candidato para posterior conferência com o gabarito somente após decorridas **duas horas e trinta minutos** do início da prova.

10. Terminada a prova, o candidato deverá, **obrigatoriamente**, entregar ao fiscal o **CARTÃO DE RESPOSTAS**.

LÍNGUA PORTUGUESA

INSTRUÇÃO: Leia o texto abaixo para responder às questões de 01 a 05.

Fábula da cidade

Uma casa é muito pouco para um homem; sua verdadeira casa é a cidade. E os homens não amam as cidades que os humilham e os sufocam, mas aquelas que parecem amoldadas às suas necessidades e desejos, humanizadas e oferecidas – uma cidade deve ter a medida do homem.

É possível que, pouco a pouco, os lugares cordiais da cidade estejam desaparecendo, desfigurados pelo progresso e pela técnica, tornados monstruosos pela conspiração dos elementos que obrigam as criaturas a viver como se estivessem lutando, unidas a um certo número de rituais que as impedem de parar no meio de uma calçada para ver uma criança ou as levam a atravessar uma rua como se estivessem fugindo da morte.

Em cidades assim, a criatura pouco ou nada vale, porque não existe entre elas e a paisagem a harmonia necessária que torna a vida uma coisa digna. E o habitante, escravizado pelo monstro da indiferença, vai se repetindo diariamente, correndo para as filas dos alimentos, dos transportes, do trabalho e das diversões, proibido de fazer algo que lhe dê a certeza da própria existência.

(LÊDO, Ivo. In: **O navio adormecido no bosque**. 2ª ed. São Paulo: Duas cidades, 1977.Fragmento)

Questão 01

Marque o trecho que apresenta a ideia principal defendida pelo autor nessa crônica.

(A) *– uma cidade deve ter a medida do homem*.
(B) *É possível que, pouco a pouco, os lugares cordiais da cidade estejam desaparecendo*
(C) *Em cidades assim, a criatura pouco ou nada vale*
(D) *Uma casa é muito pouco para um homem; sua verdadeira casa é a cidade.*

Questão 02

O autor recorre à linguagem conotativa para sugerir a sua opinião sobre a relação de algumas cidades com os seus habitantes, como ocorre no seguinte trecho:

(A) *Em cidades assim, a criatura pouco ou nada vale*
(B) *Uma casa é muito pouco para um homem*
(C) *É possível que, pouco a pouco, os lugares cordiais da cidade estejam desaparecendo*
(D) *E o habitante, escravizado pelo monstro da indiferença, vai se repetindo diariamente*

Questão 03

Analise as afirmativas referentes aos elementos gramaticais responsáveis pela conexão entre as partes do texto.

I - No trecho *E os homens não amam as cidades que os humilham e os sufocam, **mas** aquelas que parecem amoldadas às suas necessidades e desejos,* o elemento destacado liga duas ideias, estabelecendo entre elas relação de oposição.

II - No trecho ***Em cidades assim**, a criatura pouco ou nada vale*, os elementos destacados fazem referência ao que foi apresentado no parágrafo anterior.

III - Em *Uma casa é muito pouco para um homem; **sua** verdadeira casa é a cidade*, o pronome destacado faz a conexão entre *homem* e *verdadeira casa,* estabelecendo entre esses elementos relação de posse.

IV - No trecho *É possível que, **pouco a pouco**, os lugares cordiais da cidade estejam desaparecendo**,*** os elementos destacados intensificam a ação de desaparecimento dos lugares cordiais.

Está correto o que se afirma em

(A) II e IV, apenas.
(B) I, III e IV, apenas.
(C) II e III, apenas.
(D) I, II e III, apenas.

Questão 04

No trecho *É possível que, pouco a pouco, os lugares cordiais da cidade estejam desaparecendo,* o adjetivo ***cordiais*** poderia ser substituído, sem comprometer o sentido, por

(A) efusivos.
(B) civilizados.
(C) sinceros.
(D) fraternos.

Questão 05

Em relação ao emprego dos verbos, visando ao efeito de sentido, é correto afirmar:

(A) Em *uma cidade* ***deve ter*** *a medida do homem,* a locução verbal destacada expressa ação futura.
(B) Em *É possível que, pouco a pouco, os lugares cordiais da cidade* ***estejam desaparecendo,*** a locução verbal destacada expressa ideia de certeza.
(C) Em *E o habitante, escravizado pelo monstro da indiferença, vai se* ***repetindo*** *diariamente,* ***correndo*** *para as filas dos alimentos, dos transportes,* as formas verbais destacadas expressam ações prolongadas no tempo.
(D) Em *E os homens não* ***amam*** *as cidades que os* ***humilham****,* as formas verbais fazem referência a fatos já ocorridos.

Questão 06

Leia atentamente o texto abaixo.



(Disponível em: https://www.google.com.br. Acesso em: 03/01/2019.)

A respeito do uso da língua nesse texto publicitário, marque a afirmativa correta.

(A) Todas as palavras estão empregadas no sentido denotativo, possibilitando uma só interpretação.
(B) É usada uma variante informal, porque se trata de um texto publicitário dirigido a um público jovem.
(C) Em ***Tome*** *essa atitude*, a forma verbal destacada possibilita uma única interpretação.
(D) Em ***Se liga!***, a forma verbal destacada expressa incerteza.

Questão 07

Leia atentamente o texto abaixo.

Um sistema de transporte coletivo de qualidade pode fazer toda diferença nas grandes cidades. Os moradores ganham em qualidade de vida por não passarem tanto tempo em deslocamentos, passam a ser mais produtivos e a ter mais tempo livre. Além disso, a infraestrutura de transportes pode alavancar a geração de empregos.

(Disponível em: https://g1.globo.com/especial-publicitario/em-movimento/ccr/noticia/2018/12/13. Acesso em:03/01/2019.)

No fragmento da notícia acima, fica claro que

(A) nas grandes cidades, um sistema de transporte coletivo de qualidade traria benefícios tanto para a população quanto para o setor produtivo.
(B) a população das grandes cidades dispõe de um sistema de transporte coletivo eficiente.
(C) os moradores das grandes cidades não são produtivos, porque dependem de um sistema de trânsito precário.
(D) nas grandes cidades, o deslocamento impede que as pessoas tenham tempo livre.

Questão 08

Leia atentamente o texto abaixo.



(Disponível em: http://textoemmovimento.blogspot.com. Acesso em: 07/01/2019.)

Nessa charge, por meio da linguagem verbal e não verbal, o autor

(A) exalta a ingenuidade do adulto diante das mudanças do clima.
(B) manifesta ponto de vista crítico sobre a admiração da criança diante da degradação do meio ambiente.
(C) expressa opinião crítica sobre as consequências dos impactos ambientais causados pelo homem.
(D) manifesta opinião favorável a respeito da relação entre homem e natureza.

MATEMÁTICA

Questão 09

O vencimento básico inicial de um motorista da Prefeitura Municipal é R$ 1.132,52. Se ele aplicar todo esse vencimento no regime de juros simples a uma taxa de 5% a.m., o valor duplicará em

(A) 2 anos.
(B) 30 meses.
(C) 20 meses.
(D) 3 anos.

Espaço para Rascunho

Questão 10

A figura abaixo mostra parte de um modelo de conta de água de Tangará da Serra para esclarecimento ao cidadão, indicando os campos numerados de 1 a 12. O campo 12 indica o total dos valores faturados, em reais, lançados nessa conta. Os sete primeiros valores do campo 11 representam débitos, e o último valor representa um crédito de R$ 15,36 para esse consumidor.

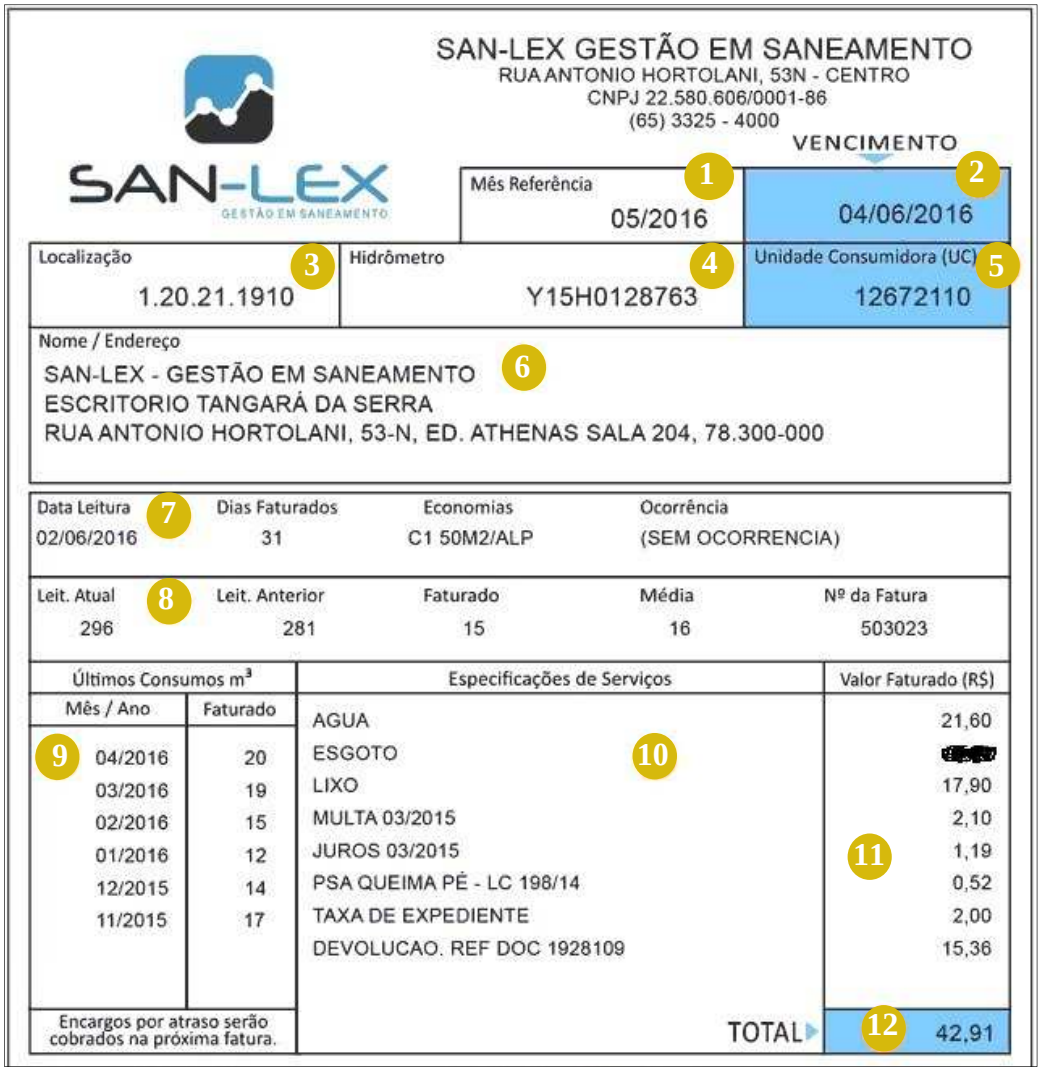

SAN-LEX GESTÃO EM SANEAMENTO
RUA ANTONIO HORTOLANI, 53N - CENTRO
CNPJ 22.580.606/0001-86
(65) 3325 - 4000

SAN-LEX GESTÃO EM SANEAMENTO

VENCIMENTO

1 Mês Referência	2
05/2016	04/06/2016

3 Localização	4 Hidrômetro	5 Unidade Consumidora (UC)
1.20.21.1910	Y15H0128763	12672110

Nome / Endereço 6
SAN-LEX - GESTÃO EM SANEAMENTO
ESCRITORIO TANGARÁ DA SERRA
RUA ANTONIO HORTOLANI, 53-N, ED. ATHENAS SALA 204, 78.300-000

7 Data Leitura	Dias Faturados	Economias	Ocorrência
02/06/2016	31	C1 50M2/ALP	(SEM OCORRENCIA)

8 Leit. Atual	Leit. Anterior	Faturado	Média	Nº da Fatura
296	281	15	16	503023

Últimos Consumos m³		Especificações de Serviços	Valor Faturado (R$)
Mês / Ano	Faturado		
9 04/2016	20	AGUA	21,60
03/2016	19	ESGOTO 10	[illegible]
02/2016	15	LIXO	17,90
01/2016	12	MULTA 03/2015	2,10
12/2015	14	JUROS 03/2015	11 1,19
11/2015	17	PSA QUEIMA PÉ - LC 198/14	0,52
		TAXA DE EXPEDIENTE	2,00
		DEVOLUCAO. REF DOC 1928109	15,36
Encargos por atraso serão cobrados na próxima fatura.		TOTAL	12 42,91

A partir dessas informações, assinale o valor faturado, em reais, indicado no item esgoto, que se encontra rasurado no campo 11.

(A) 12,90
(B) 12,92
(C) 12,96
(D) 12,94

Questão 11

O vencimento básico inicial de um mecânico da Prefeitura Municipal é R$ 1.132,52. Três de suas despesas mensais consomem $\frac{3}{20}$, $\frac{4}{28}$ e $\frac{5}{34}$ desse salário. Assinale a alternativa que apresenta a ordem crescente dessas despesas.

(A) $\frac{4}{28} < \frac{5}{34} < \frac{3}{20}$

(B) $\frac{3}{20} < \frac{4}{28} < \frac{5}{34}$

(C) $\frac{3}{20} < \frac{5}{34} < \frac{4}{28}$

(D) $\frac{4}{28} < \frac{3}{20} < \frac{5}{34}$

Questão 12

Um turista, interessado nas dimensões do Parque Municipal de Tangará da Serra, utilizou o Google Maps para estimar sua área. Para isso, desenhou um trapézio ABCD, retângulo em A, e obteve, por meio de uma ferramenta de medição do Google Maps, as seguintes medidas:

- Distância de A até B igual a 306,36 m (base maior);
- Distância de C até D igual a 263,39 m (base menor);
- Distância de A até D igual a 410,28 m (altura);



A partir dessas informações, assinale a alternativa que apresenta, aproximadamente, o valor, em hectares, da área do parque.

(A) 10
(B) 11
(C) 13
(D) 12

Espaço para Rascunho

Questão 13

O manancial que abastece a Estação de Tratamento de Água de Tangará da Serra é o do Rio Queima Pé, localizado na Bacia do Rio Queima pé, que recebe como adutores o córrego Figueira, o córrego Cristalino e o córrego Tapera. A vazão do córrego em época de seca é de aproximadamente 270 L/s e, em época de chuva, chega a aproximadamente 2000 L/s. A ETA tem capacidade de tratamento de 320 L/s, operando 24 horas por dia, sem comprometer a qualidade do produto final. A partir dessas informações, assinale a alternativa que apresenta o tempo gasto pela ETA para tratar um volume de água referente à diferença entre os volumes de água dessas duas vazões para o período de uma hora.

(A) Menos de 4 horas
(B) Entre 5 e 6 horas
(C) Entre 4 e 5 horas
(D) Mais de 6 horas

Questão 14

Para efeito de estimativa da área central da rotatória da Av. Brasil com a Av. Tancredo Neves, considere que ela forma um círculo de raio de 26 m e que $\pi = 3{,}14$.

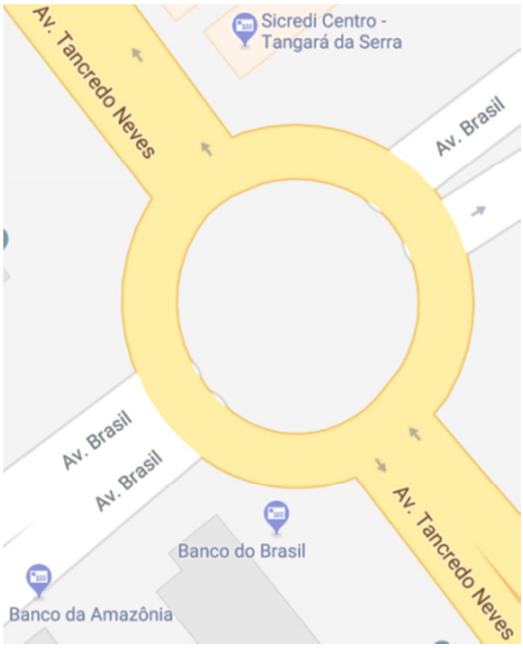

A partir dessas informações, assinale a alternativa que apresenta o valor aproximado dessa área.

(A) 2.113 m²
(B) 2.123 m²
(C) 2.133 m²
(D) 2.143 m²

Espaço para Rascunho

Questão 15

Observe o fragmento de mapa abaixo.

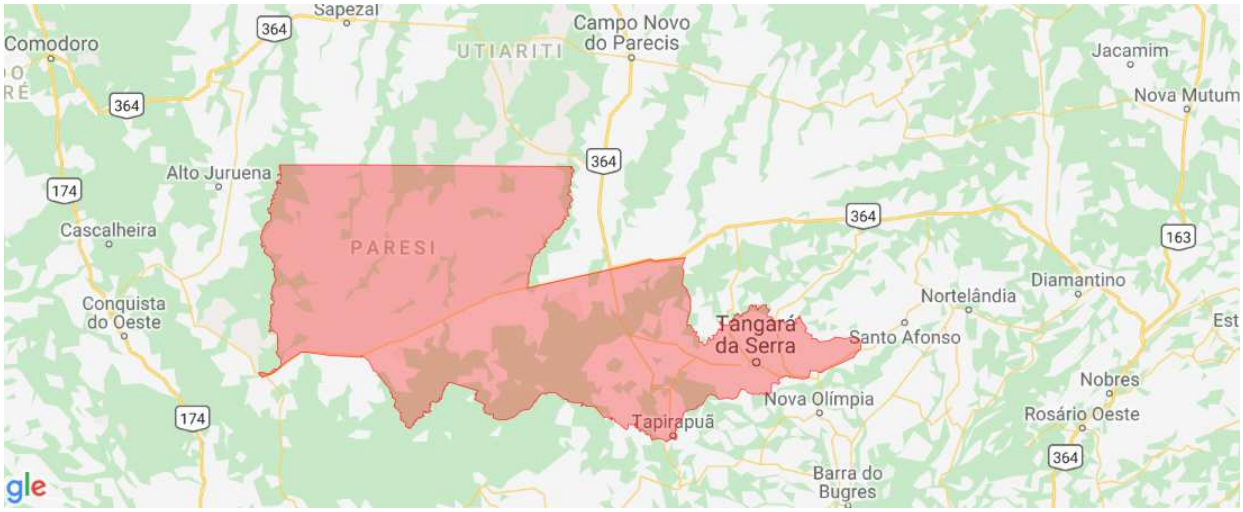

Trata-se da área territorial do município de Tangará da Serra, que, segundo o IBGE [2017], é 11.601,252 km². Desses, cerca de 48,58% são terras indígenas da etnia Paresi. Assinale a alternativa que apresenta o valor aproximado, em hectares, dessas terras.

(A) 563.589
(B) 572.408
(C) 581.637
(D) 555.120

Espaço para Rascunho

LEGISLAÇÃO BÁSICA

Questão 16

Em conformidade com o mandamento constitucional, a Lei nº 2.875/2008, que dispõe sobre o Plano de Cargos, Carreiras, Funções e Vencimentos dos Servidores Públicos do Município de Tangará da Serra/MT, estabelece que o servidor concursado, desde que cumpridos os requisitos para sua confirmação no cargo, será considerado estável após o decurso de

(A) 02 (dois) anos de serviço público.
(B) 05 (cinco) anos de serviço público.
(C) 04 (quatro) anos de serviço público.
(D) 03 (três) anos de serviço público.

Questão 17

Nos termos da Lei Complementar nº 006/1994, que dispõe sobre o Regime Jurídico Único dos Servidores Públicos do Município de Tangará da Serra/MT, o prazo para o servidor entrar em exercício, a partir da data da sua posse, é de até

(A) 15 (quinze) dias, com possibilidade de prorrogação.
(B) 30 (trinta) dias, sem possibilidade de prorrogação.
(C) 15 (quinze) dias, sem possibilidade de prorrogação.
(D) 30 (trinta) dias, com possibilidade de prorrogação.

Questão 18

Em consonância com a Lei Complementar nº 006/1994, que dispõe sobre o Regime Jurídico Único dos Servidores Públicos do Município de Tangará da Serra/MT, é correto afirmar sobre estágio probatório:

(A) Não há prazo estabelecido para conclusão da avaliação durante o estágio probatório.
(B) A avaliação durante o estágio probatório é realizada pelo órgão de pessoal sem a participação do chefe imediato do servidor.
(C) Ao entrar em exercício, o servidor nomeado para cargo de provimento efetivo será submetido à avaliação do estágio probatório para aferir sua aptidão e capacidade para o desempenho do cargo.
(D) O servidor que não for aprovado na avaliação do estágio probatório será colocado em disponibilidade.

Questão 19

De acordo com a Lei nº 2.875/2008, que dispõe sobre o Plano de Cargos, Carreiras, Funções e Vencimentos dos Servidores Públicos do Município de Tangará da Serra/MT, o servidor concursado, assim que assumir o cargo, será enquadrado no início do seu grupo ocupacional e terá direito à progressão na carreira após

(A) o término do estágio probatório.
(B) a conclusão de curso de qualificação.
(C) a aprovação em novo concurso público.
(D) o primeiro ano de serviço público.

Questão 20

Considerando o disposto na Lei nº 2.875/2008 do Município de Tangará da Serra/MT sobre provimento de cargos, é **INCORRETO** afirmar:

(A) Os cargos são providos em caráter efetivo e em comissão.
(B) Os cargos comissionados não são acessíveis aos servidores concursados.
(C) O provimento originário dos cargos é feito mediante nomeação.
(D) Os cargos de provimento efetivo são acessíveis aos habilitados em concurso público.

CONHECIMENTOS ESPECÍFICOS

Questão 21

Sobre funções do anel sincronizador existente no interior da caixa de mudança dos veículos, considere:

I- Sincronizar a velocidade das engrenagens no momento da troca das marchas.
II- Evitar que ocorram ruídos no momento da troca das marchas.
III- Suavizar a troca das marchas, evitando que o veículo saia trepidando.
IV- Suavizar o acoplamento da marcha ré do veículo.

São funções desse anel:

(A) I e III.
(B) I e II.
(C) II e IV.
(D) III e IV.

Questão 22

Após revisão do sistema hidráulico de freio, deve-se “sangrar o freio”. Esse procedimento consiste em retirar
(A) parte do fluido do freio existente dentro do sistema hidráulico.
(B) parte do ar existente dentro do sistema hidráulico.
(C) todo fluido do freio existente dentro do sistema hidráulico.
(D) todo o ar existente dentro do sistema hidráulico.

Questão 23

Nos veículos modernos, tem-se utilizado freio a disco nas rodas dianteiras e traseiras. Sobre as razões desse uso, considere:

I- Maior segurança na frenagem dos veículos.
II- Maior quantidade de peças que compõem o sistema.
III- Menor distância para imobilização total do veículo.
IV- Menor quantidade de fluído de freio.

São razões para esse uso:
(A) II e III.
(B) I e IV.
(C) I e III.
(D) II e IV.

Questão 24

A principal finalidade do freio de mão existente nos veículos é:
(A) Manter o veículo imobilizado quando estiver estacionado.
(B) Auxiliar o freio hidráulico quando o veículo estiver em movimento.
(C) Auxiliar o freio quando o veículo estiver em alta velocidade.
(D) Manter o veículo em baixa velocidade.

Questão 25

Qual a função do cardan da transmissão?
(A) Transmitir o movimento de rotação do motor para a caixa de mudança.
(B) Transmitir o movimento de rotação da caixa de mudança ao diferencial.
(C) Transmitir o movimento de rotação do motor ao diferencial.
(D) Transmitir o movimento de rotação do motor para as rodas.

Questão 26

Sobre as funções da bomba de água existente nos motores dos veículos de combustão interna, marque V para as afirmativas verdadeiras e F para as falsas.

( ) Fazer a água do radiador circular da parte inferior do radiador para a parte superior.
( ) Fazer a água do radiador circular no interior do motor e retirar calor das peças internas.
( ) Fazer a água do radiador circular somente no interior do motor.
( ) Fazer a água do radiador circular somente no cabeçote do motor.

Assinale a sequência correta.
(A) V, F, V, V
(B) V, V, F, F
(C) F, V, V, F
(D) F, F, F, V

Questão 27

Os componentes básicos de uma suspensão independente são:
(A) Mola helicoidal, amortecedor, batente, pinça de freio e bandejas.
(B) Mola helicoidal, amortecedor, batente, pinça de freio e terminal de direção.
(C) Mola helicoidal, amortecedor, pivô da suspensão e terminal de direção.
(D) Mola helicoidal, amortecedor, batente, pivô da suspensão e bandejas.

Questão 28

Nos motores de combustão interna, existe uma peça chamada alternador. Sobre as finalidades dessa peça, considere:

I- Produzir energia elétrica para recarregar a bateria.
II- Produzir energia elétrica para alimentar o motor de partida.
III- Produzir energia elétrica para alimentar todo sistema de iluminação do veiculo.
IV- Produzir energia elétrica para alimentar todo o sistema de alimentação de combustível do motor.

São finalidades do alternador:
(A) I e II.
(B) II e IV.
(C) I e III.
(D) III e IV.

Questão 29

Nos motores dos veículos leves, é necessário regular as válvulas. Esse procedimento consiste em
(A) deixar uma pequena folga entre o comando e as válvulas, conforme especificação do fabricante do motor.
(B) deixar uma folga qualquer entre o comando e as válvulas, conforme experiência do mecânico.
(C) não deixar folga alguma entre o comando e as válvulas, conforme orientação do fabricante do motor.
(D) deixar uma folga grande entre o comando e as válvulas, conforme especificação do fabricante do motor.

Questão 30

Ao fazer uso de ar comprimido para limpeza de peças, quais equipamentos de segurança devem ser utilizados?
(A) Óculos de segurança e máscara facial.
(B) Luvas de borracha e máscara facial.
(C) Óculos de segurança e protetor auricular.
(D) Protetor auricular e luvas de borracha.

Prefeitura Municipal de Tangará da Serra

Concurso Público

Edital nº 001/2018 e complementares

Nível Fundamental Completo

Esta folha é destinada para uso EXCLUSIVO do candidato.

Cargo:
Mecânico

Folha de Anotação do Candidato

01	02	03	04	05	06	07	08	09	10

11	12	13	14	15	16	17	18	19	20

21	22	23	24	25	26	27	28	29	30

UNIVERSIDADE FEDERAL DE MATO GROSSO
GERÊNCIA DE EXAMES E CONCURSOS