PREFEITURA MUNICIPAL DE COMODORO-MT

CONCURSO PÚBLICO DE PROVAS PARA PROVIMENTO EFETIVO DE CARGOS DO QUADRO PERMANENTE DA PREFEITURA MUNICIPAL DE COMODORO

EDITAL Nº. 03/2026 – PMC-MT

NÍVEL DE ESCOLARIDADE: FUNDAMENTAL COMPLETO

Cargo: Operador de Motoniveladora

Caderno de Prova

Nome do Candidato

UFMT
Supervisão de Concursos

I N S T R U Ç Õ E S

LEIA COM ATENÇÃO

1. Este Caderno de Prova, com páginas numeradas de **01** a **07**, é constituído de uma **Prova Objetiva** com **20 (vinte)** questões de múltipla escolha, cada uma com **4 (quatro)** alternativas, assim distribuídas:

01 a **05 – Língua Portuguesa**
06 a **10 – Matemática**
11 a **20 – Conhecimentos Específicos**

2. Caso o Caderno de Prova esteja incompleto ou tenha qualquer defeito de impressão, solicite ao fiscal que o substitua.

3. Sobre a marcação das respostas no Cartão de Respostas

As respostas das questões deverão ser transcritas com caneta esferográfica de tinta azul ou preta não porosa, fabricada em material transparente, para o Cartão de Respostas, que será o único documento válido para correção. O Cartão de Respostas não será substituído por erro ou dano do candidato.

3.1. Para cada questão existe apenas uma alternativa que a responde acertadamente. Para a marcação da alternativa escolhida no **CARTÃO DE RESPOSTAS, pinte completamente** o círculo correspondente.

*Exemplo: Suponha que para determinada questão a alternativa **C** seja a escolhida.*

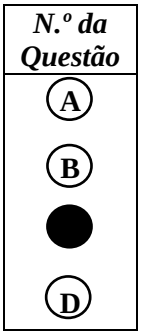

3.2. Marque apenas uma alternativa para cada questão.

3.3. Será invalidada a questão em que houver mais de uma marcação, marcação rasurada ou emendada, ou não houver marcação.

3.4. Não rasure nem amasse o **CARTÃO DE RESPOSTAS**.

4. Todos os espaços em branco, neste caderno, podem ser utilizados para rascunho.

5. Não haverá substituição do **CARTÃO DE RESPOSTAS** por erro do candidato.

6. A duração da prova é **4 (quatro) horas**, já incluído o tempo destinado ao preenchimento do **CARTÃO DE RESPOSTAS**.

7. Somente após decorridas **2 horas e 30 minutos** do início da prova, o candidato, depois de entregar seu Caderno de Prova e seu Cartão de Respostas, poderá retirar-se da sala de prova. O candidato que insistir em sair da sala de prova antes desse tempo deverá assinar **Termo de Ocorrência** declarando sua desistência do concurso.

8. Será permitida a saída de candidatos levando o Caderno de Prova somente **na última meia hora** de prova.

9. Na página 07 deste Caderno de Prova, encontra-se a **Folha de Anotação do Candidato**, a qual poderá ser utilizada para a transcrição das respostas das questões objetivas. Essa folha poderá ser levada pelo candidato para posterior conferência com o gabarito somente após decorridas **2 horas e 30 minutos** do início da prova.

10. Após o término da prova, o candidato deverá, obrigatoriamente, entregar ao fiscal o **CARTÃO DE RESPOSTAS** devidamente assinado (no espaço próprio) e preenchido.

LÍNGUA PORTUGUESA

Instrução: Leia atentamente o texto e responda às questões de 01 a 04.

A CERCA

Era uma vez um menino com temperamento muito forte. Seu pai deu-lhe um saco de pregos, dizendo-lhe que cada vez que ele ficasse enraivecido pregasse um prego na cerca do fundo da casa.

No primeiro dia, o garoto pregou 37 pregos, mas gradualmente ele foi se acalmando. Descobriu que era mais fácil "segurar" seu temperamento do que pregar os pregos na cerca.

Finalmente chegou o dia em que o garoto não se enfureceu nenhuma vez. Contou ao pai o que havia sucedido e o pai sugeriu-lhe que, de agora em diante, por cada dia que conseguisse segurar seu temperamento retirasse um dos 37 pregos.

Passou-se o tempo e o garoto finalmente pode dizer ao pai que tinha retirado todos os pregos. O pai tomou o filho pela mão e levou-o até a cerca dizendo-lhe:

– Você fez muito bem, meu filho, mas a cerca nunca mais será a mesma. Quando você diz coisas quando está furioso, elas deixam uma cicatriz assim como as marcas da cerca. Você pode fincar e retirar uma faca em um homem. Não importa quantas vezes você possa dizer "desculpe", a ferida mesmo assim permanecerá. Uma ferida verbal é tão dolorosa quanto uma ferida física.

(Disponível em: /www.refletirparareflетir.com.br/ 30/06/25. Acesso em: 14/07/25.)

QUESTÃO 01

Ao atribuir uma tarefa ao filho, o personagem adulto (pai) pretende propiciar ao filho uma

[A] advertência.
[B] aprendizagem.
[C] punição.
[D] premiação.

QUESTÃO 02

Na primeira linha do texto, há uma expressão que habitualmente aparece no início de histórias infantis. O uso dessa expressão pode indicar

[A] proximidade com a linguagem comum a determinado gênero textual.
[B] busca para estabelecer sentido ao texto.
[C] coerência com as ideias veiculadas por textos infantis.
[D] ambiguidade em relação às histórias infantis.

QUESTÃO 03

A conjunção *mas* foi utilizada mais de uma vez no texto. Qual conjunção **NÃO** pode substituir o *mas* em termos de sentido?

[A] Porém
[B] Contudo
[C] Todavia
[D] Portanto

QUESTÃO 04

Sobre pronomes utilizados no texto, assinale a afirmativa correta.

[A] No segundo parágrafo, o pronome *seu*, pronome do caso oblíquo, é um elemento coesivo sequencial e pode ser substituído por do menino.
[B] No quarto parágrafo, os pronomes *o* e *lhe*, pronomes do caso reto, são elementos coesivos e podem ser substituídos por o filho e ao filho, respectivamente.
[C] No primeiro parágrafo, o pronome *lhe*, pronome do caso oblíquo, é um elemento coesivo anafórico e pode ser substituído por a ele.
[D] No quinto parágrafo, o pronome *elas*, pronome de tratamento, é elemento coesivo e pode ser substituído por feridas.

Instrução: Leia atentamente a tira que retrata Maria Joana, uma joaninha, entrevistando Mauro, um minhoco, ambos personagens de Bichinhos de Jardim da chargista Clara Gomes e responda à questão 05.



QUESTÃO 05

Sobre a tira, marque V para as afirmativas verdadeiras e F para as falsas.

( ) Os bichinhos se revelam felizes porque a pesquisa não contempla todas as possibilidades de resposta.
( ) Maria Joana não se importa com a possível resposta de Mauro, marca o que quer no formulário.
( ) A situação vivida pelos bichinhos pode ser pensada também para situações reais de pesquisa de opinião pública.
( ) Maria Joana reviu sua pergunta em face da hesitação do entrevistado Mauro em se ater a uma das respostas do questionário.

Assinale a sequência correta.

[A] F, V, V, F
[B] F, V, F, V
[C] V, F, F, V
[D] V, F, V, F

MATEMÁTICA

Instrução: As questões 06 e 07 são baseadas na tabela a seguir.

Evolução da cobertura e uso da terra em Comodoro (2017–2024) – hectares

Categoria	2017	2018	2019	2020	2021	2022	2023	2024
Floresta	1.778.723	1.776.473	1.772.163	1.764.099	1.759.697	1.754.630	1.749.577	1.748.873
Vegetação Herbácea/Arbustiva	57.754	54.466	52.863	52.155	50.576	47.989	48.911	48.745
Agropecuária (total)	305.453	310.922	316.644	325.594	332.033	339.475	343.647	344.449
• Pastagem	219.920	216.271	214.332	211.189	207.361	203.518	205.556	207.542
• Agricultura	81.847	90.622	96.920	105.307	114.155	122.365	120.432	120.144
• Mosaico de Usos	3.506	3.709	5.043	8.781	10.227	13.268	17.341	16.410
Área Não Vegetada	2.022	2.224	2.459	2.277	2.170	2.104	2.237	2.362
Água (rios/lago)	4.540	4.408	4.363	4.367	4.017	4.294	4.120	4.062

Fonte: IBGE

QUESTÃO 06

Assinale a alternativa que apresenta a porcentagem mais próxima para a queda da cobertura por floresta de 2024 em relação a 2017.

[A] 1,5%
[B] 1,9%
[C] 2,1%
[D] 1,7%

QUESTÃO 07

Considerando o uso da terra para o total das atividades agropecuárias, assinale a alternativa que apresenta a área em quilômetros quadrados usada nessa atividade em 2024.

[A] 344,449
[B] 3.444,49
[C] 34.444,90
[D] 34,4449

QUESTÃO 08

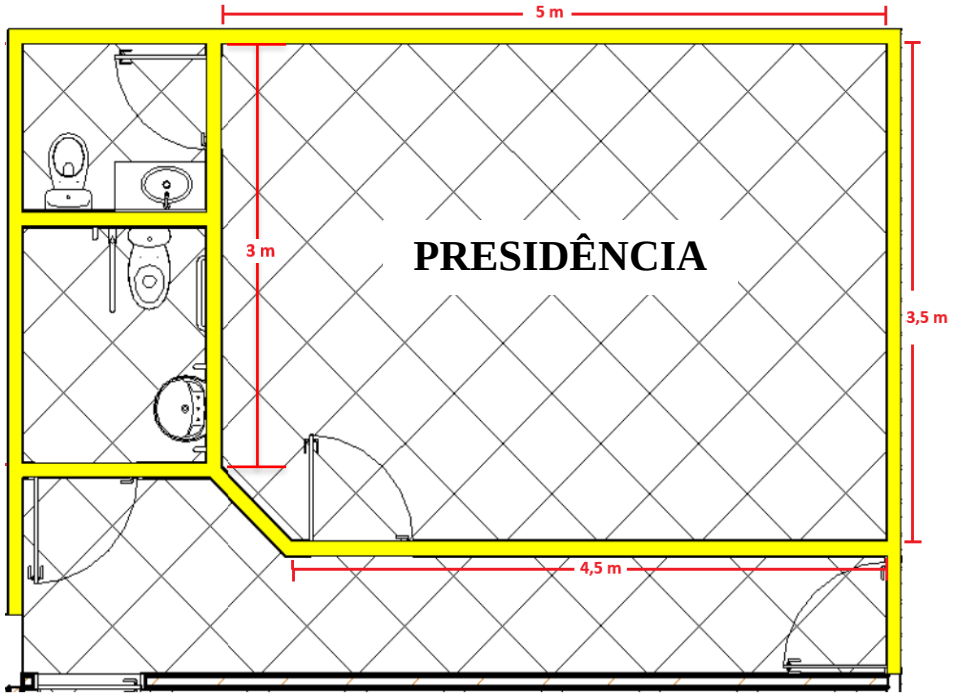

A figura mostra uma parte da planta baixa de uma reforma feita na Câmara dos Vereadores de Comodoro. A sala da presidência passou a ter as dimensões mostradas na figura. A partir dessas informações, assinale a alternativa que apresenta a medida da área dessa sala. Dados: As paredes da sala da presidência de 3 m e 5 m, são perpendiculares, assim como as de 3,5 m e 4,5 m e as de 3,5 m e 5 m.

[A] 17,375 m^2
[B] 17,825 m^2
[C] 17,625 m^2
[D] 17,500 m^2

QUESTÃO 09

As maiores lavouras de Comodoro são de soja e milho. A tabela seguinte mostra a participação de cada cultura na área plantada.

Cultura	Área plantada	Rendimento médio	Valor da produção
Soja	126.882 ha	3.300 kg/ha	R$ 731 milhões
Milho	62.446 ha	6.271 kg/ha	R$ 248 milhões

A partir dessas informações, assinale a alternativa que apresenta o valor mais próximo, em toneladas, da diferença entre o total das produções das áreas plantadas dessas lavouras.

[A] 29.712
[B] 2.711
[C] 2.971
[D] 27.112

QUESTÃO 10

Uma família de produtores de leite de Comodoro participou por 3 anos do programa de Assistência Técnica e Gerencial do Serviço Nacional de Aprendizagem Rural de Mato Grosso (Senar-MT). Seguindo as orientações de um técnico do Senar-MT, conseguiram no primeiro ano de participação no programa produzir, em média, 33 litros de leite por dia. No segundo ano, viram essa média aumentar 320%. A partir dessas informações, assinale a alternativa que apresenta, em metros cúbicos, a produção de leite em 30 dias com essa nova média.

[A] 51,58
[B] 415,8
[C] 4,158
[D] 5.158

CONHECIMENTOS ESPECÍFICOS

QUESTÃO 11

Uma motoniveladora está sendo utilizada na manutenção de uma estrada vicinal que apresenta acúmulo frequente de água sobre a pista após períodos chuvosos. Após análise do trecho, verifica-se que o perfil transversal da via se encontra praticamente plano. A intervenção mais adequada para minimizar a permanência de água sobre a superfície de rolamento consiste em

[A] aumentar a profundidade dos cortes laterais para reduzir a resistência do material compactado.
[B] reduzir o ângulo da lâmina para diminuir o deslocamento lateral dos materiais.
[C] restabelecer o abaulamento da pista para favorecer o escoamento superficial da água.
[D] elevar a velocidade operacional para aumentar a produtividade do acabamento.

QUESTÃO 12

Ao realizar o espalhamento de material para regularização de uma via, o operador percebe que a lâmina não promove o deslocamento lateral esperado, exigindo diversas passadas para concluir o serviço. A condição que mais influencia esse resultado é:

[A] A regulagem inadequada do ângulo de ataque da lâmina em relação ao material trabalhado.
[B] A variação do nível de combustível durante a execução das atividades.
[C] A posição do assento do operador em relação aos comandos da máquina.
[D] A calibragem dos pneus dianteiros utilizada para deslocamentos rodoviários.

QUESTÃO 13

Antes do início da jornada, a realização do check-list operacional tem como objetivo principal:

[A] Substituir as manutenções preventivas previstas pelo fabricante.
[B] Corrigir automaticamente falhas identificadas nos sistemas hidráulicos.
[C] Ajustar o perfil transversal da pista antes da operação.
[D] Identificar condições que possam comprometer a segurança, a disponibilidade e o desempenho da máquina.

QUESTÃO 14

Na conformação de uma camada de material para preparação do leito de uma estrada, observa-se acúmulo excessivo de material à frente da lâmina, dificultando o acabamento da superfície. Essa situação está mais associada à

[A] redução da pressão dos pneus traseiros durante a execução do serviço.
[B] inadequação da regulagem da lâmina em relação às características do material movimentado.
[C] diminuição do nível do combustível armazenado no tanque da máquina.
[D] falha do sistema de iluminação auxiliar utilizado na operação.

QUESTÃO 15

A obtenção de uma superfície uniforme em serviços de acabamento depende principalmente

[A] do aumento da rotação do motor durante todas as etapas da operação.
[B] do controle adequado da lâmina e das condições do terreno.
[C] da utilização contínua das marchas de maior velocidade disponíveis.
[D] do transporte de material com a lâmina elevada durante os deslocamentos.

QUESTÃO 16

Após a passagem da motoniveladora em um trecho de estrada, são observadas ondulações que comprometem a regularidade da superfície e exigem retrabalho. A condição operacional que mais contribui para esse resultado é:

[A] A redução da capacidade do tanque de combustível durante a execução da atividade.
[B] A utilização dos pneus com desgaste uniforme ao longo da jornada de trabalho.
[C] A posição do operador em relação aos comandos da cabine durante a operação.
[D] A combinação inadequada entre velocidade de deslocamento, regulagem da lâmina e características do material trabalhado.

QUESTÃO 17

Nos serviços de terraplenagem, a regulagem da lâmina influencia diretamente a eficiência do corte e do espalhamento dos materiais. Nesse contexto, a função do ângulo de ataque da lâmina está relacionada

[A] à capacidade de corte, deslocamento e conformação do material ao longo da operação.
[B] à distribuição da carga sobre os eixos durante os deslocamentos da máquina.
[C] ao funcionamento do sistema de arrefecimento do motor em regime de trabalho.
[D] à variação da pressão dos pneus conforme o tipo de terreno trabalhado.

QUESTÃO 18

Observe a simbologia apresentada no painel de instrumentos da motoniveladora.



A interpretação correta da informação indicada por essa simbologia é:

[A] Sistema hidráulico em pressão máxima de trabalho.
[B] Sistema de carga da bateria em funcionamento normal.
[C] Freio de estacionamento acionado.
[D] Diferencial bloqueado para operação em terrenos irregulares.

QUESTÃO 19

Observe a simbologia apresentada no painel de instrumentos da motoniveladora.

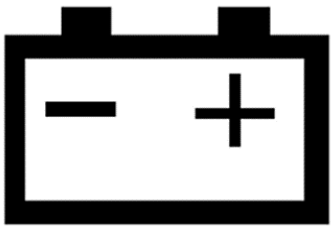

A informação indicada por essa simbologia está relacionada

[A] ao sistema de alimentação responsável pelo armazenamento de combustível.
[B] ao sistema hidráulico responsável pelos movimentos da lâmina principal.
[C] ao sistema de carga elétrica responsável pelo fornecimento e reposição de energia da bateria.
[D] ao sistema de lubrificação responsável pela proteção dos componentes do motor.

QUESTÃO 20

Em um trecho de estrada com inclinação lateral acentuada, torna-se necessário realizar corte e conformação de material próximo ao bordo da pista. Nessa situação, a medida operacional mais adequada para reduzir riscos consiste em

[A] aumentar a velocidade de deslocamento para reduzir o tempo de exposição da máquina ao risco.

[B] avaliar as condições de estabilidade da máquina e manter distância segura das bordas sujeitas a desmoronamento.

[C] manter a lâmina totalmente elevada para facilitar a visualização do terreno durante as manobras.

[D] executar os cortes utilizando apenas o sistema de direção sem ajustes na posição da lâmina.

PREFEITURA MUNICIPAL DE COMODORO

EDITAL Nº. 03/2026 – PMC-MT

FOLHA DE ANOTAÇÃO DO CANDIDATO

Questão	Alternativa
01	
02	
03	
04	
05	
06	
07	
08	
09	
10	
11	
12	
13	
14	
15	
16	
17	
18	
19	
20	

Prefeitura Municipal de Comodoro.

Esta folha é destinada para uso EXCLUSIVO do candidato.