PREFEITURA MUNICIPAL DE COMODORO-MT

CONCURSO PÚBLICO DE PROVAS E DE PROVAS E TÍTULOS PARA PROVIMENTO EFETIVO DE CARGOS DO QUADRO PERMANENTE DA PREFEITURA MUNICIPAL DE COMODORO

EDITAL Nº. 03/2026 – PMC-MT

NÍVEL DE ESCOLARIDADE: SUPERIOR

Cargo: Contador

Caderno de Prova

Nome do Candidato

UFMT
Supervisão de Concursos

I N S T R U Ç Õ E S

LEIA COM ATENÇÃO

1. Este Caderno de Prova, com páginas numeradas de **01** a **17**, é constituído de uma **Prova Objetiva** com **40 (quarenta)** questões de múltipla escolha, cada uma com **4 (quatro)** alternativas, assim distribuídas:

01 a **10 – Língua Portuguesa**
11 a **20 – Informática**
21 a **40 – Conhecimentos Específicos**

2. Caso o Caderno de Prova esteja incompleto ou tenha qualquer defeito de impressão, solicite ao fiscal que o substitua.

3. Sobre a marcação das respostas no Cartão de Respostas

As respostas das questões deverão ser transcritas com caneta esferográfica de tinta azul ou preta não porosa, fabricada em material transparente, para o Cartão de Respostas, que será o único documento válido para correção. O Cartão de Respostas não será substituído por erro ou dano do candidato.

3.1. Para cada questão existe apenas uma alternativa que a responde acertadamente. Para a marcação da alternativa escolhida no **CARTÃO DE RESPOSTAS, pinte completamente** o círculo correspondente.

*Exemplo: Suponha que para determinada questão a alternativa **C** seja a escolhida.*

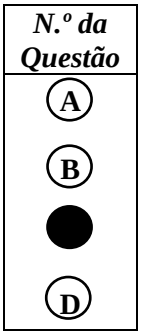

3.2. Marque apenas uma alternativa para cada questão.

3.3. Será invalidada a questão em que houver mais de uma marcação, marcação rasurada ou emendada, ou não houver marcação.

3.4. Não rasure nem amasse o **CARTÃO DE RESPOSTAS**.

4. Todos os espaços em branco, neste caderno, podem ser utilizados para rascunho.

5. Não haverá substituição do **CARTÃO DE RESPOSTAS** por erro do candidato.

6. A duração da prova é **4 (quatro) horas**, já incluído o tempo destinado ao preenchimento do **CARTÃO DE RESPOSTAS**.

7. Somente após decorridas **2 horas e 30 minutos** do início da prova, o candidato, depois de entregar seu Caderno de Prova e seu Cartão de Respostas, poderá retirar-se da sala de prova. O candidato que insistir em sair da sala de prova antes desse tempo deverá assinar **Termo de Ocorrência** declarando sua desistência do concurso.

8. Será permitida a saída de candidatos levando o Caderno de Prova somente **na última meia hora** de prova.

9. Na página 17 deste Caderno de Prova, encontra-se a **Folha de Anotação do Candidato**, a qual poderá ser utilizada para a transcrição das respostas das questões objetivas. Essa folha poderá ser levada pelo candidato para posterior conferência com o gabarito somente após decorridas **2 horas e 30 minutos** do início da prova.

10. Após o término da prova, o candidato deverá, obrigatoriamente, entregar ao fiscal o **CARTÃO DE RESPOSTAS** devidamente assinado (no espaço próprio) e preenchido.

LÍNGUA PORTUGUESA

QUESTÃO 01

Leia o texto a seguir.

O Estado de Mato Grosso cresce. A economia avança, a arrecadação aumenta, a produção bate recordes. Os benefícios desse desenvolvimento ainda não alcançam, na proporção necessária, quem mais precisa. Há municípios em que milhares de pessoas dependem do Bolsa Família para sobreviver. Essa é a grande contradição que Mato Grosso precisa enfrentar.

Em qual alternativa a reescrita desse texto apresenta problemas relativos à coesão, coerência e/ou correção gramatical?

[A] O Estado de Mato Grosso cresce: a economia avança, a arrecadação aumenta, a produção bate recordes, mas os benefícios desse desenvolvimento ainda não alcançam, na proporção necessária, quem mais precisa, visto que há municípios em que milhares de pessoas dependem do Bolsa Família para sobreviver. Essa é a grande contradição que Mato Grosso precisa enfrentar.

[B] O Estado de Mato Grosso cresce: a economia avança, a arrecadação aumenta, a produção bate recordes, logo os benefícios desse desenvolvimento ainda não alcança, na proporção necessária, quem mais precisa, pois que existe municípios em que milhares de pessoas dependem do Bolsa Família para sobreviver. Esta é a grande contradição que Mato Grosso precisa enfrentar.

[C] Mato Grosso precisa enfrentar uma grande contradição. O estado cresce: a economia avança, a arrecadação aumenta, a produção bate recordes, no entanto os benefícios desse desenvolvimento ainda não alcançam, na proporção necessária, quem mais precisa, pois que há municípios em que milhares de pessoas dependem do Bolsa Família para sobreviver.

[D] Mato Grosso precisa enfrentar uma grande contradição. O estado cresce: a economia avança, a arrecadação aumenta, a produção bate recordes, todavia os benefícios desse desenvolvimento ainda não alcançam, na proporção necessária, quem mais precisa, visto que existem municípios em que milhares de pessoas dependem do Bolsa Família

Instrução: Leia atentamente o texto a seguir e responda às questões de 02 a 06.

O outro

Ele queria muito ser eleito. Não: ele precisava muito ser eleito. Estava atrás de um emprego que lhe desse um bom salário, mordomias e verbas para gastar na contratação de assessores – além, claro, das múltiplas oportunidades que, como vereador, teria. O problema era arrumar votos. Não tinha amigos, não era conhecido, nem sequer recebera um apelido pitoresco que pudesse usar na propaganda. Mas o pior não era isso. O pior que combinava um visual péssimo – baixinho, gordinho, careca – com uma congênita inabilidade para falar em público. Em desespero, resolveu procurar um marqueteiro. Estava disposto a gastar uma boa grana nisso, desde que pudesse adquirir uma nova imagem, uma imagem capaz de garantir a eleição. O marqueteiro, famoso, exigiu honorários salgados, mas garantiu resultados. Que, de fato, não se fizeram esperar. Em poucas semanas o candidato era outro. Mais magro, mais alto (saltos especiais) com uma bela peruca, parecia agora um galã de novela. Além disso, transformara-se num fantástico orador, um orador capaz de galvanizar o público com uma única frase. Se foi eleito? Foi eleito com uma avalanche de votos. O que representou um duplo alívio: de um lado, conquistava o cargo tão sonhado. De outro, podia deixar de lado a peruca, os sapatos com saltos especiais e a dieta. E também podia falar normalmente, no tom meio fanhoso que o caracterizava. E aí começaram as surpresas desagradáveis. Quando foi tomar posse, ninguém o reconheceu. Mas como? Então era aquele tipo charmoso, magnético, da tevê e dos cartazes? Era ele sim, como o comprovou, mostrando a identidade. Não foi a única contrariedade. Logo descobriu que, como vereador, era péssimo: não sabia falar, não convencia ninguém, sequer era procurado por lobistas. Bom mesmo, concluiu com amargura, era o Outro, aquele que o marqueteiro tinha inventado. Aquele sim, podia fazer uma grande carreira, chegando quem sabe à Presidência. Mas onde estava o Outro? Só uma pessoa poderia ajudá-lo nessa busca, o marqueteiro. Só que o marqueteiro tinha sumido. Com o dinheiro ganho nas eleições resolvera passar dois anos em alguma praia do Caribe. Todas as noites o vereador sonha com o Outro. Vê-o na Câmara, discursando, empolgando multidões. Mas não sabe o que fazer para encontrá-lo. Sabe, sim, o que dirá se isso um dia acontecer. E o que dirá, numa voz fanhosa e emocionada, será: o senhor pode contar com meu voto - para sempre.

(SCLIAR, Moacyr. O imaginário cotidiano. São Paulo, Gaia, 2006.)

QUESTÃO 02

Tome o trecho *Logo descobriu que, como vereador, era péssimo: não sabia falar, não convencia ninguém, sequer era procurado por lobistas.* Sobre os sinais de pontuação usados nesse trecho, analise as afirmativas.

I. As duas primeiras vírgulas isolam uma expressão que indica circunstância.
II. O sinal de dois pontos indica a introdução de um esclarecimento ou exemplos.
III. As duas últimas vírgulas separam orações coordenadas, indicando uma enumeração.
IV. A segunda vírgula foi empregada erroneamente, pois não se deve usar vírgula entre sujeito e predicado, conforme as regras da norma culta.

Está correto o que se afirma em

[A] I, III e IV, apenas.
[B] I e II, apenas.
[C] II e IV, apenas.
[D] I, II e III, apenas.

QUESTÃO 03

Na frase *Só que o marqueteiro tinha sumido.*, a expressão <u>*Só que*</u>, devido ao seu significado, pode ser substituída por

[A] Porém.
[B] Logo.
[C] Portanto.
[D] Pois.

QUESTÃO 04

Na frase *E aí começaram as surpresas desagradáveis.*, a concordância verbal ocorre seguindo o princípio básico da concordância verbal: o verbo adapta-se aos quesitos número e pessoa do sujeito. Assinale o exemplo em que **NÃO** houve obediência a esse princípio básico.

[A] Enfim, foram analisados todos os recursos propostos pelos moradores para não eliminarem a praça do meio do bairro.
[B] Todo início de ano, os vereadores se motivam para, num dia qualquer, ao cair da noite, elevarem seu salário.
[C] Depois de muito tempo, o alvoroço dos participantes da feira diminuíram bastante, até o completo silêncio.
[D] Ficou claro que todos os funcionários aprovaram a decisão da diretoria sobre os horários de descanso.

QUESTÃO 05

Os pronomes oblíquos assumem diferentes posições em relação ao verbo e exercem importante função coesiva no texto, visto que minimizam a repetição de palavras e contribuem para situar os interlocutores e objetos no tempo, espaço e no próprio texto. Sobre o assunto, marque V para as afirmativas verdadeiras e F para as falsas.

( ) Em *E também podia falar normalmente, no tom meio fanhoso que o caracterizava.*, o pronome <u>*o*</u>, em posição proclítica, retoma o sentido da palavra *candidato.*
( ) Em *Só uma pessoa poderia ajudá-lo nessa busca, o marqueteiro.*, o pronome *o*, na forma <u>*lo*</u>, em posição enclítica, retoma o sentido da palavra *marqueteiro*.
( ) Em *Vê-o na Câmara, discursando, empolgando multidões.*, o pronome <u>*o*</u>, em posição enclítica, retoma o sentido da palavra *Outro*.
( ) Em *Mas não sabe o que fazer para encontrá-lo.*, o pronome <u>*o*</u>, na forma <u>*lo*</u>, em posição proclítica, retoma o sentido da palavra *marqueteiro*.

Assinale a sequência correta.

[A] V, V, F, F
[B] F, F, V, V
[C] V, F, V, F
[D] F, V, F, V

QUESTÃO 06

A respeito do texto, analise as afirmativas.

I. Sugere que todo candidato a cargo eletivo necessita do trabalho de um marqueteiro, sem o qual não consegue se eleger.
II. Mostra como, em época de eleição, um candidato usa estratégias pelas quais se torna conhecido e é eleito.
III. Relata medidas empreendidas por marqueteiros para eleger um candidato mesmo que ele não tenha as qualidades necessárias.
IV. Mostra como eleitores, ao escolher em quem vão votar, se deixam levar pela aparência do candidato.

Estão corretas as afirmativas

[A] I, II e IV, apenas.
[B] II, III e IV, apenas.
[C] I e III, apenas.
[D] II e III, apenas.

Instrução: Leia o texto a seguir e responda às questões de 07 a 09.

Carta Apostólica *Misericordia et mísera do Santo Padre Francisco*

Não ter trabalho nem receber um salário justo, não poder ter uma casa ou uma terra onde habitar, ser discriminado pela fé, raça, posição social... estas e muitas outras são condições que atentam contra a dignidade da pessoa; frente a elas, a ação misericordiosa dos cristãos responde, antes de mais nada, com a vigilância e a solidariedade. Hoje são tantas as situações em que podemos restituir dignidade às pessoas, consentindo-lhes uma vida humana. Basta pensar em tantos meninos e meninas que sofrem violências de vários tipos, que lhes roubam a alegria da vida. Os seus rostos tristes e desorientados permanecem impressos na minha mente; pedem a nossa ajuda para serem libertados da escravidão do mundo contemporâneo. Estas crianças são os jovens de amanhã; como estamos a prepará-las para viverem com dignidade e responsabilidade? Com que esperança podem elas enfrentar o seu presente e o seu futuro?

O caráter social da misericórdia exige que não permaneçamos inertes mas afugentemos a indiferença e a hipocrisia para que os planos e os projetos não fiquem letra morta. Que o Espírito Santo nos ajude a estar sempre prontos a prestar de forma efetiva e desinteressada a nossa contribuição, para que a justiça e uma vida digna não permaneçam meras palavras de circunstância, mas sejam o compromisso concreto de quem pretende testemunhar a presença do Reino de Deus.

(Disponível em: www.vatican.va/content/francesco. Acesso em: 14/05/2025.)

QUESTÃO 07

Qual a intencionalidade desse texto?

[A] Conclamar os cristãos a interferirem nas condições precárias em que vivem adultos e jovens, a contribuírem para que eles tenham uma vida digna.
[B] Rogar a Deus para que ajude os cristãos a não simplesmente ver a situação de desespero de pessoas sofridas, mas a agir de modo a eles terem um amanhã.
[C] Informar ao mundo quantas situações de intolerância social existem, quantos adultos e jovens sem esperança de um futuro melhor, uma vida digna.
[D] Incitar os cristãos a não deixarem que a justiça social exista apenas no papel, que a vigilância predomine, que a hipocrisia possa restituir dignidade aos sofredores.

QUESTÃO 08

Os pronomes relativos fazem a retomada do sentido de palavra mencionada no texto, contribuindo com a sequenciação das ideias. Assinale o trecho que apresenta pronome relativo.

[A] *O caráter social da misericórdia exige que não permaneçamos inertes mas afugentemos a indiferença e a hipocrisia.*
[B] *Que o Espírito Santo nos ajude a estar sempre prontos a prestar de forma efetiva e desinteressada a nossa contribuição.*
[C] *Mas afugentemos a indiferença e a hipocrisia para que os planos e os projetos não fiquem letra morta.*
[D] *Hoje são tantas as situações em que podemos restituir dignidade às pessoas, consentindo-lhes uma vida humana.*

QUESTÃO 09

As palavras *solidariedade, dignidade, responsabilidade* são substantivos formados com o sufixo dade, que indica ideia de qualidade ou estado. Sobre o uso de sufixos, assinale a afirmativa **INCORRETA**.

[A] Os substantivos racismo e consumismo são formados pelo sufixo ismo, que indica uma prática ou sistema de crenças ou movimentos.

[B] Os substantivos polimento e fingimento são formados pelo sufixo mento, que exprime ideia de possiblidade de realizar uma ação.

[C] Os substantivos aprendizagem e coragem são formados pelo sufixo agem, que exprimem ideia de ação ou resultado de uma ação.

[D] Os substantivos semelhança e segurança são formados pelo sufixo ança, que indica ideia de estado ou qualidade.

QUESTÃO 10

Maria Joana é uma joaninha estressada, personagem de Clara Gomes, criadora das tiras denominadas Bichinhos de Jardim.



(Disponível em: bichinhosdejardim.com. Acesso em: 29/05/25.)

A respeito da tira, marque V para as afirmativas verdadeiras e F para as falsas.

( ) A solicitação de Maria Joana a Iaiá foi atendida plenamente somente no último quadrinho da tira, o que lhe causou aborrecimento.

( ) Antes mesmo de obter resposta a sua pergunta, Maria Joana entendeu que Iaiá, por ser uma inteligência artificial do mal, a atenderia prontamente.

( ) A previsão do clima dada por Iaiá pode ser considerada uma reflexão a partir do seu conhecimento de mundo.

( ) Maria Joana não mostrou interesse pela fala final de Iaiá, bastava-lhe saber se ia chover ou não.

( ) A fala de Iaiá, no último quadro, compõe-se de um período subordinado: uma oração principal e uma oração subordinada que expressa ideia de condição.

( ) Iaiá, a inteligência artificial do mal, usa duas vezes a palavra *tá*, com o mesmo sentido e igual função gramatical.

Assinale a sequência correta.

[A] F, V, V, F, F, V
[B] V, V, F, F, V, F
[C] F, F, V, V, V, F
[D] V, F, F, V, F, V

INFORMÁTICA

QUESTÃO 11

Considere uma planilha do Microsoft Excel com as células A1, B1, A2, B2, A3 e B3 preenchidas com os valores 10, 4, 8, 22, 16 e 2, respectivamente. Quais valores seriam produzidos pelas fórmulas =MÉDIASE(A1:B3;">10") e =SOMASES(A1:B3;A1:B3;"<10") respectivamente?

[A] 16 e 24
[B] 16 e 14
[C] 19 e 24
[D] 19 e 14

QUESTÃO 12

Sobre o item Programas e Recursos do Painel de Controle do Windows 11, analise as afirmativas.

I. Permite ativar ou desativar recursos do Windows por meio de caixas de seleção do tipo marca/desmarca para cada um dos recursos disponíveis.
II. É a ferramenta indicada para desinstalar aplicativos do computador, não sendo recomendado excluir arquivos diretamente no Explorador de Arquivos.
III. Apresenta recurso que permite salvar uma cópia de segurança quando um programa é desinstalado para que possa ser restaurado futuramente, se necessário.
IV. No modo de exibição "Lista", é possível visualizar, além do nome, informações tais como data de instalação, tamanho e versão dos programas instalados.

Estão corretas as afirmativas

[A] I e II, apenas.
[B] III e IV, apenas.
[C] I, II e III, apenas.
[D] II, III e IV, apenas.

QUESTÃO 13

Considere o fragmento de tela a seguir, extraído do Explorador de Arquivos do Windows 11, com a pasta Documentos selecionada.

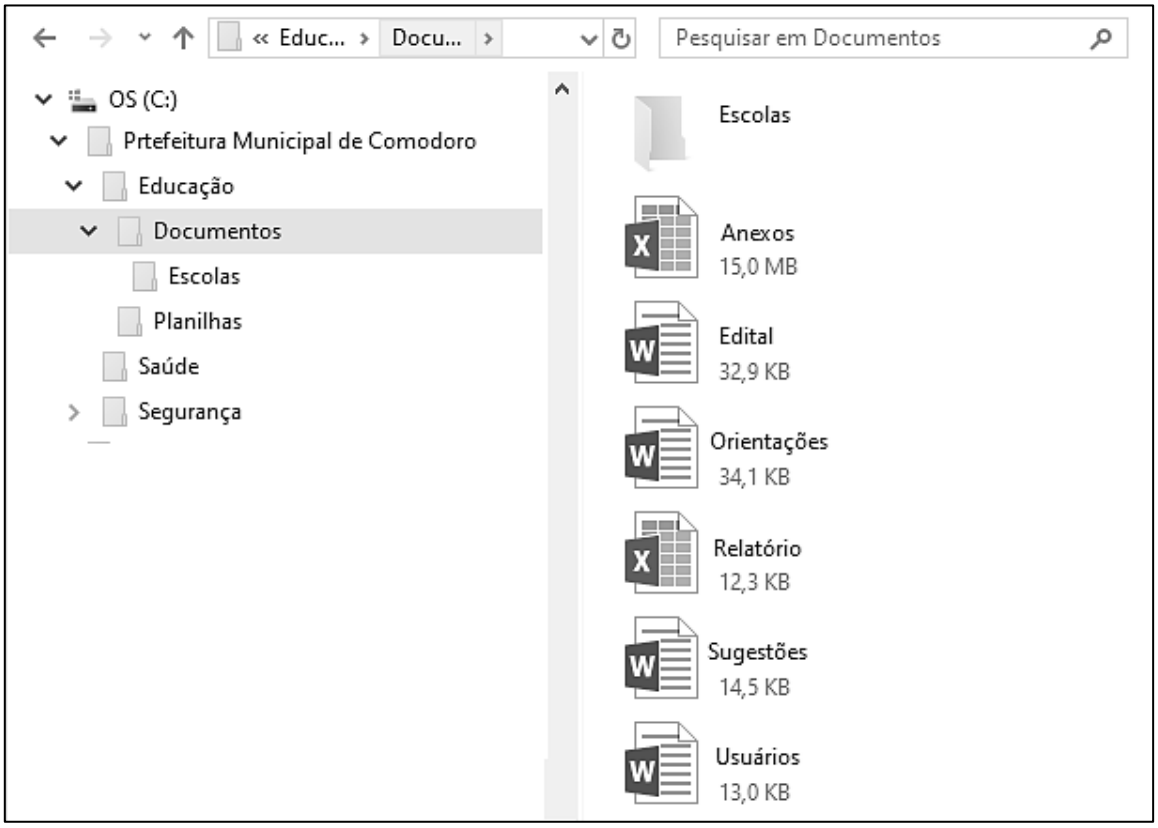

Sobre a figura, marque V para as afirmativas verdadeiras e F para as falsas.

( ) Os seis arquivos exibidos no lado direito da tela são conteúdo da pasta Escolas.
( ) A pasta Escolas não possui qualquer pasta (subpasta) em seu conteúdo.
( ) O arquivo Orientações possui tamanho superior ao do arquivo Anexos.
( ) Os arquivos Edital e Sugestões são documentos nativos do Microsoft Word.

Assinale a sequência correta.

[A] V, F, F, V
[B] V, F, V, F
[C] F, V, F, V
[D] F, V, V, F

QUESTÃO 14

Sobre boas práticas de segurança da informação no uso de computadores, analise as afirmativas.

I. É indicado manter o sistema operacional e demais softwares sempre atualizados para corrigir vulnerabilidades que possam ser exploradas por invasores.
II. Recomenda-se utilizar uma conta com privilégios de Administrador no uso rotineiro do computador para garantir que antivírus operem sem bloqueios.
III. É recomendado limpar periodicamente histórico, cookies e cache do navegador de internet para proteger a privacidade das atividades realizadas no computador.
IV. Recomenda-se instalar múltiplos programas antivírus simultâneos no computador para aumentar a proteção de forma proporcional, sem causar conflitos de sistema.

Estão corretas as afirmativas

[A] II e IV, apenas.
[B] I e III, apenas.
[C] I, II e III, apenas.
[D] I, III e IV, apenas.

QUESTÃO 15

Assinale a alternativa que apresenta a definição dos malwares Ransomware e Stalkerware, respectivamente.

[A] Ransomware é um código malicioso que torna inacessíveis os dados armazenados em um equipamento e exige pagamento de resgate; Stalkerware é um programa de espionagem usado para monitorar e rastrear a atividade de uma vítima.
[B] Ransomware é um programa projetado para exibir anúncios excessivos e pop-ups na tela do usuário; Stalkerware é um malware que se propaga exclusivamente por meio de mensagens falsas no WhatsApp.
[C] Ransomware é um código que monitora o tráfego de rede para roubar senhas bancárias; Stalkerware é um programa que transforma o computador em um "zumbi" para realizar ataques de negação de serviço (DDoS).
[D] Ransomware é um software legítimo de backup que apresenta falhas de segurança críticas; Stalkerware é um mecanismo de autenticação em duas etapas, criado para interceptar códigos SMS.

QUESTÃO 16

Sobre o recurso de preenchimento automático do navegador Google Chrome, marque V para as afirmativas verdadeiras e F para as falsas.

( ) Permite que o Chrome guarde informações, como nomes, endereços e dados de pagamento para acelerar o preenchimento de formulários na web.
( ) Para gerenciar o recurso, deve-se selecionar a opção Configurações no menu principal e acessar a seção Preenchimento automático e senhas.
( ) Não permite que dados inseridos em campos de senhas sejam protegidos por biometria ou PIN do Windows.
( ) Por segurança, não é permitido adicionar mais de uma forma de pagamento, como, por exemplo, múltiplos cartões de crédito.

Assinale a sequência correta.

[A] V, V, F, F
[B] F, F, V, V
[C] V, F, V, F
[D] F, V, F, V

Instrução: As questões 17 e 18 são baseadas no documento seguinte do Microsoft Word 2016 com as linhas numeradas de 1 a 10 e com um bloco de texto selecionado (linhas 2 a 10).

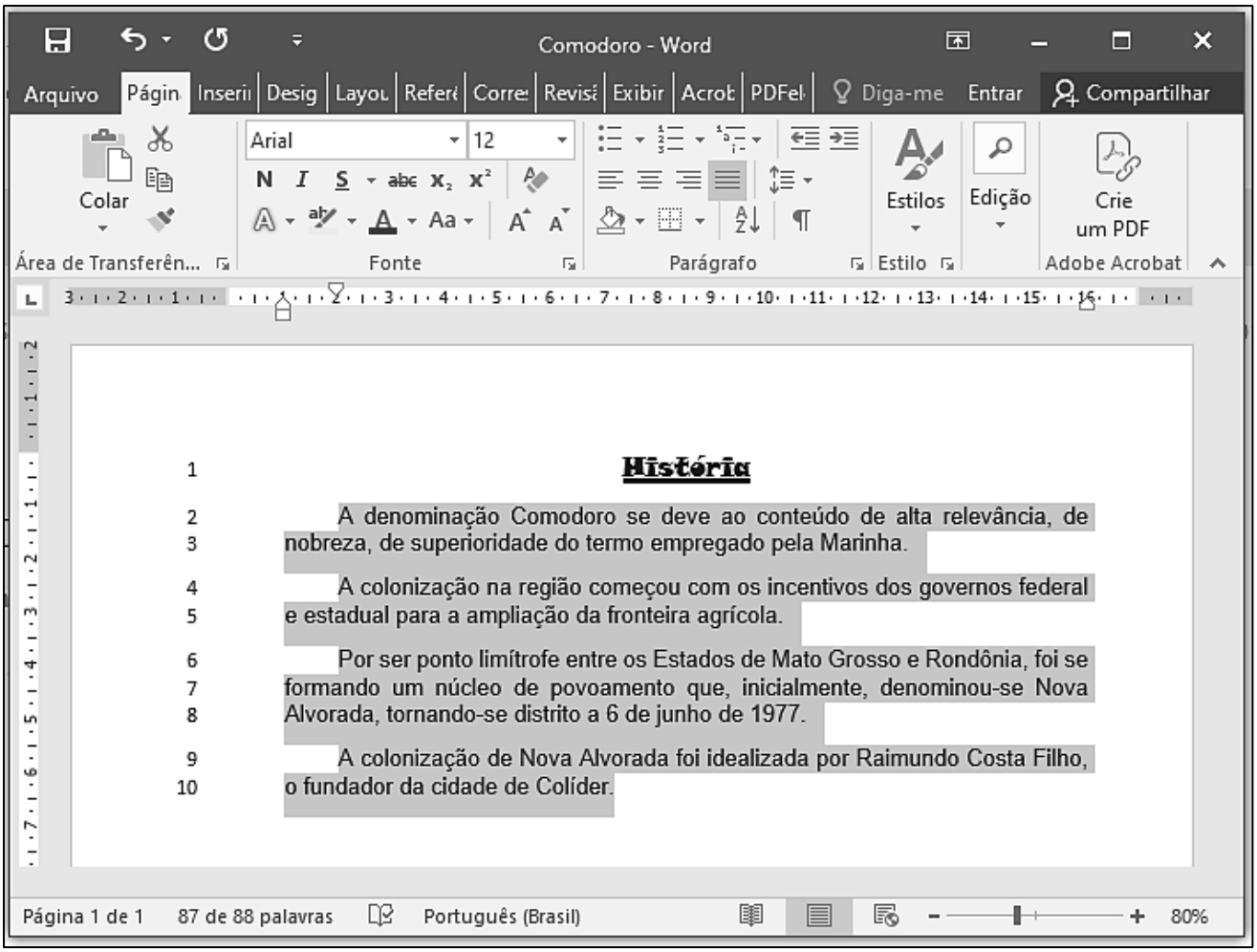

QUESTÃO 17

Sobre o documento, analise as afirmativas.

I. A formatação de fonte aplicada no título do texto (linha 1) é Arial, tamanho 12.
II. O documento foi salvo com o nome História, por ser a primeira palavra do texto.
III. O nível de zoom aplicado para visualização do documento é de 80%.
IV. O alinhamento aplicado no texto selecionado (linhas 2 a 10) é justificado.

Estão corretas as afirmativas

[A] I e II, apenas.
[B] I, III e IV, apenas.
[C] II, III e IV, apenas.
[D] III e IV, apenas.

QUESTÃO 18

Sobre as configurações de margens do documento e de parágrafos do texto selecionado (linhas 2 a 10), assinale a afirmativa correta.

[A] A margem esquerda do documento está configurada para 2 cm.
[B] O recuo de primeira linha do texto selecionado está ajustado para 1 cm.
[C] A margem superior do documento está ajustada para 3 cm.
[D] O recuo esquerdo do documento está posicionado em 2 cm.

QUESTÃO 19

Sobre conceitos de hardware, analise as afirmativas.

I. A Unidade de Controle (UC) é o componente da CPU responsável por executar as operações matemáticas e os testes lógicos do sistema.
II. A memória cache é integrada à CPU e serve para reduzir o tempo de espera do processador no acesso aos dados da memória RAM.
III. A memória ROM perde todas as suas informações gravadas assim que o computador é desligado da energia elétrica.
IV. Os drives de estado sólido (SSDs) utilizam memória Flash para armazenar dados de forma não volátil, sem depender de peças mecânicas móveis.

Estão corretas as afirmativas

[A] I e III, apenas.
[B] II, III e IV, apenas.
[C] II e IV, apenas.
[D] I e II, apenas.

QUESTÃO 20

A figura seguinte apresenta uma planilha do Microsoft Excel com a célula C15 selecionada.

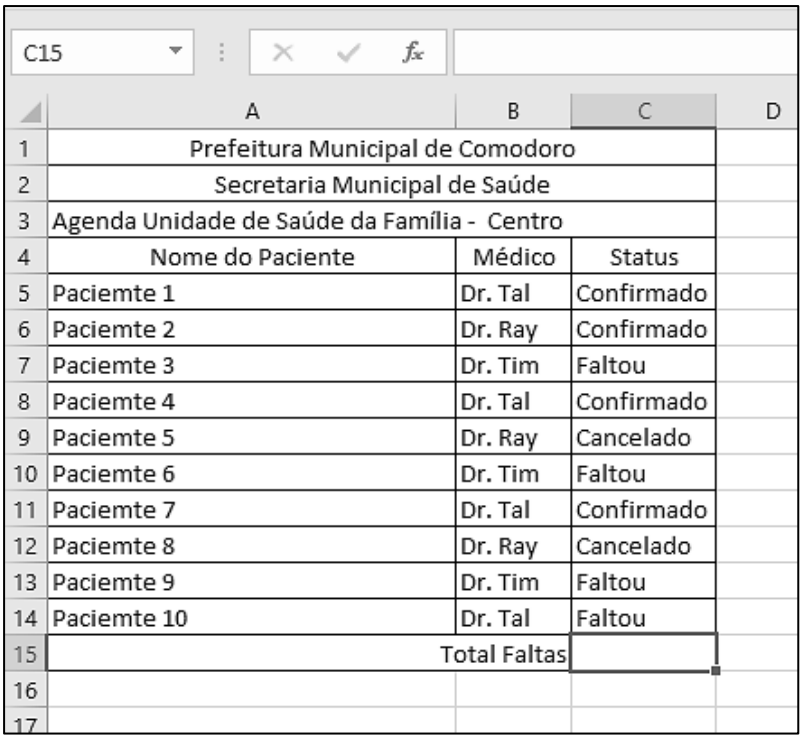

	A	B	C	D
1	Prefeitura Municipal de Comodoro			
2	Secretaria Municipal de Saúde			
3	Agenda Unidade de Saúde da Família - Centro			
4	Nome do Paciente	Médico	Status	
5	Paciemte 1	Dr. Tal	Confirmado	
6	Paciemte 2	Dr. Ray	Confirmado	
7	Paciemte 3	Dr. Tim	Faltou	
8	Paciemte 4	Dr. Tal	Confirmado	
9	Paciemte 5	Dr. Ray	Cancelado	
10	Paciemte 6	Dr. Tim	Faltou	
11	Paciemte 7	Dr. Tal	Confirmado	
12	Paciemte 8	Dr. Ray	Cancelado	
13	Paciemte 9	Dr. Tim	Faltou	
14	Paciemte 10	Dr. Tal	Faltou	
15		Total Faltas		
16				
17				

De acordo com a planilha, qual fórmula poderia ser incluída na célula C15 para retornar o número de pacientes que faltaram?

[A] =CONT.COND(C5:C14;"Faltou")
[B] =CONT.VAR(C5:C14;"Faltou")
[C] =CONT.NUM(C5:C14;"Faltou")
[D] =CONT.SE(C5:C14;"Faltou")

CONHECIMENTOS ESPECÍFICOS

QUESTÃO 21

Durante o processo de planejamento governamental do município de Comodoro, referente ao exercício financeiro de X1, o Poder Executivo encaminhou ao Poder Legislativo um projeto de lei que estabeleceu as prioridades e metas da administração pública para o exercício financeiro seguinte (X2), dispondo, entre outros assuntos, sobre alterações na legislação tributária municipal relativas ao IPTU. O projeto foi acompanhado de dois anexos: o Anexo de Metas Fiscais, estabelecendo, entre outros aspectos, as metas de resultado primário e nominal, e o Anexo de Riscos Fiscais, evidenciando os principais riscos capazes de afetar o equilíbrio das contas públicas no exercício subsequente.

O instrumento de planejamento descrito corresponde à:

[A] Lei Orçamentária Anual (LOA).
[B] Lei do Plano de Trabalho Anual (PTA)
[C] Lei de Diretrizes Orçamentárias (LDO).
[D] Lei do Plano Plurianual (PPA).

QUESTÃO 22

João, servidor responsável pelo setor de Compras e Aquisições da Prefeitura de Comodoro, recebeu uma demanda para contratar empresa especializada para executar obras de reforma e ampliação em uma escola municipal. A intervenção aumentará o potencial de serviços do imóvel, por meio da ampliação de sua capacidade de atendimento aos alunos.

Considerando a classificação orçamentária da despesa prevista na Lei n.º 4.320/1964, a Portaria STN/SOF n.º 163/2001 e Manual de Contabilidade Aplicada ao Setor Público (MCASP, 11ª ed.), a despesa decorrente dessa contratação deverá ser classificada como:

[A] Despesa de Capital, no Grupo de Natureza da Despesa Investimentos, Elemento de Despesa Obras e Instalações.
[B] Despesa de Capital, no Grupo de Natureza da Despesa Inversões Financeiras, Elemento de Despesa Obras e Instalações.
[C] Despesa de Capital, no Grupo de Natureza da Despesa Investimentos, Elemento de Despesa Outros Serviços de Terceiros – Pessoa Jurídica.
[D] Despesa Corrente, no Grupo de Natureza da Despesa Outras Despesas Correntes, Elemento de Despesa Outros Serviços de Terceiros – Pessoa Jurídica.

QUESTÃO 23

O município de Comodoro, com fundamento na Constituição Federal (1988), instituiu, por lei municipal, a Contribuição para o Custeio do Serviço de Iluminação Pública (COSIP), cuja arrecadação é realizada por meio da fatura de energia elétrica dos contribuintes.

Ao elaborar a previsão da receita orçamentária, o contador municipal deverá classificar essa arrecadação de acordo com a Lei n.º 4.320/1964, o MCASP (11ª ed.) e a Portaria STN/SOF n.º 163/2001.

Assinale a alternativa que apresenta a correta classificação quanto à Categoria Econômica e à Origem da Receita.

[A] Receita Corrente, classificada na origem Receita de Contribuições.
[B] Receita Corrente, classificada na origem Receita Tributária.
[C] Receita de Capital, classificada na origem Receita de Contribuições.
[D] Receita Corrente, classificada na origem Receita de Serviços.

QUESTÃO 24

O Município de Comodoro realizou, no mesmo exercício financeiro, as seguintes operações relacionadas à arrecadação do IPTU e à aquisição de medicamentos para a rede municipal de saúde:

I. Os recursos arrecadados pelas instituições financeiras foram posteriormente transferidos e creditados na Conta Única do Tesouro Municipal.
II. Os medicamentos foram entregues pelo fornecedor, acompanhados da documentação fiscal, sendo atestada pela Administração a conformidade entre o objeto contratado e os bens efetivamente recebidos.
III. Foi sancionada a Lei Orçamentária Anual (LOA), contendo a estimativa das receitas e a autorização das despesas para o exercício financeiro.
IV. A Administração Tributária identificou os contribuintes sujeitos ao IPTU, apurou os valores devidos e constituiu formalmente os respectivos créditos tributários.
V. Após a regular instrução do processo administrativo, foi efetuada a quitação da obrigação financeira assumida junto ao fornecedor dos medicamentos.
VI. Foi realizado o registro contábil destinado a reservar parcela da dotação orçamentária para suportar a futura aquisição de medicamentos.
VII. Os contribuintes efetuaram o pagamento do IPTU junto às instituições financeiras credenciadas para arrecadação dos tributos municipais.

Associando cada operação ao respectivo estágio da receita ou da despesa orçamentária, assinale a alternativa que apresenta a sequência correta.

[A] I. Arrecadação, II. Liquidação, III. Previsão da receita e Fixação da despesa, IV. Lançamento, V. Pagamento, VI. Empenho, VII. Recolhimento.
[B] I. Recolhimento, II. Empenho, III. Previsão da receita e Fixação da despesa, IV. Lançamento, V. Liquidação, VI. Pagamento, VII. Arrecadação.
[C] I. Recolhimento. II. Liquidação, III. Fixação da despesa, IV. Lançamento, V. Pagamento, VI. Empenho, VII. Arrecadação.
[D] I. Recolhimento, II. Liquidação, III. Previsão da receita e Fixação da despesa, IV. Lançamento, V. Pagamento, VI. Empenho, VII. Arrecadação.

QUESTÃO 25

O contador do Município de Comodoro está elaborando o Balanço Financeiro do exercício X2 e reuniu as seguintes informações:

Elemento	**Valor (R$ milhões)**
Receitas Arrecadadas	850
Garantias Contratuais recebidas	120
Saldo de Caixa e Equivalentes de Caixa em X1	95
Despesas Empenhadas	780
Despesas Liquidadas	740
Despesas Pagas	720
Pagamento de Restos a Pagar inscritos em X1	60

Com base na estrutura do Balanço Financeiro estabelecida pela Lei n.º 4.320/1964 e MCASP (11ª ed.), assinale a alternativa que apresenta o Saldo de Caixa e Equivalentes de Caixa a transferir para o exercício seguinte (X3).

[A] R$ 225 milhões
[B] R$ 285 milhões
[C] R$ 165 milhões
[D] R$ 190 milhões

QUESTÃO 26

O contador da Prefeitura de Comodoro recebeu solicitação do Secretário de Planejamento para abertura de crédito adicional suplementar no valor de R$ 220.000,00, destinado exclusivamente ao reforço de dotação orçamentária da Secretaria Municipal de Saúde para custeio das Ações e Serviços Públicos de Saúde (ASPS). Para instruir o processo de abertura do crédito adicional suplementar, o contador levantou, até a data da solicitação, as informações relativas à previsão atualizada e à receita realizada de cada fonte de recursos:

Fonte	Descrição	Previsão Atualizada	Receita Realizada
500	Recursos não Vinculados de Impostos	R$ 500.000,00	R$ 620.000,00
540	Transferências do FUNDEB - Impostos e Transferências de Impostos	R$ 300.000,00	R$ 360.000,00
600	Transferências Fundo a Fundo do SUS - Bloco de Manutenção das ASPS	R$ 400.000,00	R$ 500.000,00
660	Transferência de Recursos do FNAS - Assistência Social	R$ 200.000,00	R$ 150.000,00
701	Outras Transferências de Convênios ou Instrumentos Congêneres dos Estados	R$ 150.000,00	R$ 190.000,00

Com base nas informações apresentadas, considerando que a cobertura do crédito adicional suplementar será realizada exclusivamente mediante excesso de arrecadação, nos termos do art. 43, § 1º, inciso II, da Lei n.º 4.320/1964, e observadas as regras de vinculação das fontes de recursos previstas no MCASP (11ª ed.), assinale o procedimento correto a ser adotado pelo profissional.

[A] Utilizar apenas a Fonte 600, pois o valor arrecadado de R$ 500.000,00 demonstra disponibilidade suficiente para abertura do crédito suplementar.

[B] Utilizar as Fontes 540 e 600, pois a soma dos valores arrecadados acima da previsão atualizada representa recurso disponível suficiente para financiar as ações de saúde.

[C] Utilizar as Fontes 540, 600 e 701, pois todas apresentaram arrecadação superior à previsão atualizada e, por possuírem excesso de arrecadação, podem ser utilizadas livremente para qualquer despesa municipal.

[D] Utilizar as Fontes 500 e 600, pois apresentam disponibilidade de recursos compatível com a abertura do crédito suplementar e adequação quanto à finalidade da despesa destinada às Ações e Serviços Públicos de Saúde.

QUESTÃO 27

O Balanço Orçamentário do Município de Comodoro, referente ao exercício de 2024, apresentou as seguintes informações oficiais:

Receitas Orçamentárias (R$ milhões)

	Previsão Inicial (a)	Previsão Atualizada (b)	Receitas Realizadas (c)	Saldo d = (c−b)	
Subtotal	117	122	168	46	
Déficit					
Total					

Despesas Orçamentárias (R$ milhões)

	Dotação Inicial (e)	Dotação Atualizada (f)	Despesa Empenhadas (g)	Despesa Liquidadas (h)	Despesa Pagas (i)	Saldo j = (f−g)
Subtotal	117	160	152	151	150	8
Superávit						
Total						

Com base nas informações e nos critérios estabelecidos pela Lei n.º 4.320/1964 e pelo MCASP (11ª ed.), assinale a alternativa que apresenta o resultado do superávit orçamentário do exercício de 2024 do município.

[A] R$ 46 milhões

[B] R$ 18 milhões

[C] R$ 16 milhões

[D] R$ 17 milhões

QUESTÃO 28

Em fevereiro de X1, a Prefeitura de Comodoro contratou uma operação de crédito junto ao BNDES no valor de R$ 1.500.000,00, à taxa de juros de 4% a.a. acrescida da variação do IPCA, com prazo de amortização de 60 meses, destinada exclusivamente ao financiamento da construção de uma creche municipal.

No primeiro ano, o total das parcelas pagas somou R$ 250.000,00, dos quais R$ 12.500,00 corresponderam aos juros da operação. Considerando a Demonstração dos Fluxos de Caixa (DFC), elaborada de acordo com o MCASP (11ª ed.) em convergência com a NBC TSP 12, assinale a afirmativa correta quanto à classificação do desembolso de caixa decorrente do pagamento dessas parcelas.

[A] A amortização do principal e os juros devem ser classificados como fluxos das atividades de financiamento.

[B] A amortização do principal deve ser classificada como fluxo das atividades de financiamento, enquanto os juros pagos devem ser classificados como fluxo das atividades operacionais.

[C] O desembolso total deve ser classificado como fluxo das atividades de investimento, uma vez que a operação de crédito foi contratada para financiar um ativo permanente.

[D] A amortização do principal deve ser classificada como fluxo das atividades de investimento, enquanto os juros pagos devem ser classificados como fluxo das atividades de financiamento.

QUESTÃO 29

O Tribunal de Contas do Estado de Mato Grosso (TCE-MT), durante a análise do Relatório de Gestão Fiscal (RGF) referente ao 3º quadrimestre de X1 do Município de Comodoro, constatou que a Receita Corrente Líquida (RCL), acumulada nos últimos 12 meses, totalizou R$ 150.000.000,00, e que as despesas totais com pessoal apuradas até o período foram as seguintes:

Poder	**Despesa Total com Pessoal**
Executivo Municipal	R$ 78.500.000,00
Legislativo Municipal	R$ 8.700.000,00

Considerando exclusivamente os limites de despesa com pessoal previstos na Lei Complementar n.º 101/2000 (Lei de Responsabilidade Fiscal – LRF), assinale a afirmativa correta.

[A] O Poder Executivo ultrapassou o limite prudencial, enquanto o Poder Legislativo permaneceu abaixo desse limite.

[B] O Poder Executivo ultrapassou o limite máximo de despesa com pessoal, enquanto o Poder Legislativo permaneceu apenas acima do limite prudencial.

[C] O Poder Executivo e o Poder Legislativo ultrapassaram os respectivos limites máximos de despesa com pessoal.

[D] O Poder Executivo e o Poder Legislativo ultrapassaram os respectivos limites prudenciais, permanecendo abaixo dos limites máximos de despesa com pessoal.

QUESTÃO 30

A Secretaria Municipal de Educação da Prefeitura de Comodoro apresentou, no mês de julho de X1, as seguintes informações:

Evento	**Valor**
Liquidação de despesa com prestação de serviços de manutenção predial	R$ 8.000,00
Depreciação mensal de equipamentos da secretaria	R$ 3.500,00
Apropriação mensal do 13º salário dos servidores	R$ 12.000,00
Empenho para aquisição de material de expediente para consumo interno	R$ 5.000,00
Consumo de material de expediente mantido em estoque	R$ 4.200,00
Liquidação da folha de pagamento dos servidores da secretaria	R$ 310.000,00
Pagamentos realizados com despesas de custeio (manutenção, pessoal, etc.)	R$ 290.000,00

Com base no MCASP (11ª ed.), em convergência com a NBC TSP 34 (Custos no Setor Público), considerando que todos os eventos apresentados estão diretamente relacionados à prestação dos serviços educacionais, qual é o valor do custo dos serviços prestados pela Secretaria Municipal de Educação no mês de julho de X1?

[A] R$ 337.700,00

[B] R$ 342.700,00

[C] R$ 335.000,00

[D] R$ 330.000,00

QUESTÃO 31

A Câmara Municipal de Comodoro celebrou contrato com a concessionária responsável pelo fornecimento de energia elétrica à sua nova sede administrativa. As faturas serão emitidas mensalmente, de acordo com o consumo efetivamente apurado em cada período de medição. Para registrar previamente a despesa, a Câmara deverá emitir qual modalidade de empenho?

[A] Ordinário
[B] Global
[C] Especial
[D] Por estimativa

QUESTÃO 32

O contador do Município de Comodoro (MT) recebeu, em março do exercício de X2, três solicitações de pagamento relativas a obrigações assumidas em exercícios anteriores. Para verificar a classificação orçamentária e financeira adequada de cada situação, levantou as seguintes informações:

I. Em dezembro de X1, foram empenhados R$ 180.000,00 para aquisição de medicamentos. Os produtos foram entregues e atestados em dezembro de X1, porém o pagamento somente ocorrerá em março de X2 em razão da insuficiência de disponibilidade financeira ao final do exercício.
II. Em novembro de X1, foi contratado serviço de consultoria, porém o empenho não chegou a ser emitido. O serviço foi integralmente executado em dezembro de X1, reconhecido pela Administração e será pago em X2 após a abertura de crédito específico.
III. Em dezembro de X1, foi emitido empenho estimativo para consumo de energia elétrica. A concessionária apresentou, em janeiro de X2, a fatura referente ao consumo de dezembro de X1, permitindo a liquidação e o pagamento da despesa somente no exercício seguinte.

Com base na Lei n.º 4.320/1964, no MCASP (11ª ed.) e nas regras aplicáveis à execução orçamentária, assinale a afirmativa que apresenta a classificação correta das três situações.

[A] As situações I, II e III constituem Restos a Pagar, pois todas decorreram de obrigações assumidas no exercício anterior.
[B] As situações I e III constituem Restos a Pagar, enquanto a situação II deve ser reconhecida como Despesa de Exercícios Anteriores.
[C] Apenas a situação I constitui Restos a Pagar; as situações II e III devem ser classificadas como Despesas de Exercícios Anteriores.
[D] As situações II e III constituem Despesas de Exercícios Anteriores, enquanto a situação I deve ser executada como despesa orçamentária do exercício corrente.

QUESTÃO 33

O município de Comodoro realizou os procedimentos administrativos relativos ao IPTU do exercício de X1, identificando a ocorrência do fato gerador, individualizando os sujeitos passivos, apurando os valores devidos e constituindo formalmente créditos tributários no montante de R$ 120.000,00.

Considerando o disposto no MCASP (11ª ed.), em convergência com a NBC TSP 01 (Receita se contraprestação), assinale a alternativa que apresenta o registro contábil correto, sob a Natureza de Informação Patrimonial para o reconhecimento dessa operação.

[A] Débito – 1.1.2.1.1 – Créditos Tributários a Receber
Crédito – 4.1.1.2.1 – Impostos sobre o Patrimônio (VPA)

[B] Débito – 1.1.1.1.1 – Caixa e Equivalentes de Caixa
Crédito – 3.1.1.2.1 – Impostos sobre o Patrimônio (VPA)

[C] Débito – 6.2.1.1 – Receita a Realizar
Crédito – 6.2.1.2 – Receita Realizada

[D] Débito – 1.1.2.1.1 – Créditos Tributários a Receber
Crédito – 6.2.1.2 – Receita Realizada

QUESTÃO 34

O município de Comodoro figurou como réu em três ações judiciais propostas por servidores públicos. Na elaboração das demonstrações contábeis de 31/12/X1, o setor jurídico e a contabilidade apresentaram a seguinte avaliação:

Ação	Natureza	Probabilidade de Perda	Valor Estimado
Ação 1	Diferenças salariais	Provável	R$ 280.000,00
Ação 2	Indenização por danos morais	Possível	R$ 150.000,00
Ação 3	Revisão de enquadramento	Remota	R$ 90.000,00

Em relação à Ação 1, houve trânsito em julgado e expedição de precatório no valor definitivo de R$ 280.000,00, permanecendo o pagamento sem previsão para o exercício seguinte. Considerando o disposto no MCASP (11ª ed.) em convergência à NBC TSP 03 (provisões, passivos contingentes e ativos contingentes), assinale a alternativa que apresenta o tratamento contábil correto para o reconhecimento, a mensuração e a evidenciação das três situações apresentadas.

[A] Reconhecer provisão de R$ 520.000,00, englobando as três ações judiciais, por representarem obrigações relacionadas a eventos passados com possibilidade de saída de recursos.

[B] Reconhecer provisão de R$ 430.000,00, correspondente às Ações 1 e 2, por envolverem obrigações cuja saída de recursos é provável ou possível; e não reconhecer a Ação 3 por apresentar probabilidade remota de perda.

[C] Reconhecer o passivo decorrente do precatório expedido na Ação 1, no Balanço Patrimonial, pelo valor de R$ 280.000,00; divulgar a Ação 2 em notas explicativas como passivo contingente; e não reconhecer nem divulgar a Ação 3, por apresentar probabilidade remota de perda.

[D] Reconhecer provisão de R$ 280.000,00 referente à Ação 1 e divulgar as Ações 2 e 3 em notas explicativas como passivos contingentes, em razão da incerteza quanto ao desembolso futuro.

QUESTÃO 35

Em junho do exercício de X1, um incêndio de grandes proporções atingiu um ginásio poliesportivo pertencente ao município de Comodoro, utilizado exclusivamente para atividades esportivas e culturais gratuitas à comunidade. O sinistro danificou severamente a cobertura e as instalações elétricas do imóvel.

Ao identificar o incêndio como um indicador interno de redução do potencial de serviço do ativo, nos termos do MCASP (11ª ed.) e da NBC TSP 09, o contador municipal realizou o teste de recuperabilidade (*impairment*) em 31/12/X1, obtendo as seguintes informações:

Informação	Valor
Valor contábil líquido do ativo	R$ 900.000,00
Custo corrente de reposição depreciado	R$ 720.000,00
Valor justo líquido das despesas de alienação	R$ 620.000,00
Valor em uso econômico estimado pelo fluxo de caixa descontado	R$ 680.000,00

Considerando que se trata de ativo não gerador de caixa, assinale a afirmativa que apresenta o tratamento contábil correto para o reconhecimento da perda por desvalorização.

[A] O valor recuperável corresponde ao valor justo líquido das despesas de alienação, de R$ 620.000,00, devendo ser reconhecida perda por desvalorização de R$ 280.000,00.

[B] O valor recuperável corresponde ao valor em uso econômico, obtido pelo fluxo de caixa descontado, de R$ 680.000,00, devendo ser reconhecida perda por desvalorização de R$ 220.000,00.

[C] Não há perda por desvalorização a reconhecer, pois a entidade pretende recuperar o ativo mediante reforma, devendo o imóvel permanecer registrado pelo seu valor contábil.

[D] O valor recuperável corresponde ao Custo corrente de reposição depreciado de R$ 720.000,00, devendo ser reconhecida perda por desvalorização de R$ 180.000,00, passando esse a ser o novo valor contábil do ativo.

QUESTÃO 36

Em janeiro de X1, o contador do município de Comodoro realizou a primeira reavaliação patrimonial do Paço Municipal, edifício-sede da Prefeitura, já incorporado ao patrimônio. Na data da reavaliação, foram apurados os seguintes valores com base em laudo técnico:

Informação	Valor
Custo histórico de aquisição/construção	R$ 1.200.000,00
Depreciação acumulada até a data da reavaliação	R$ 300.000,00
Valor justo apurado por laudo técnico	R$ 1.100.000,00

O imóvel nunca havia sido reavaliado anteriormente e não há evidências de perda por desvalorização registrada em exercícios anteriores. Após a reavaliação, a vida útil remanescente foi estimada em 20 anos e o valor residual em R$ 100.000,00.

Considerando o disposto no MCASP (11ª ed.), assinale a afirmativa que apresenta o tratamento contábil correto para o reconhecimento da reavaliação e o novo valor da depreciação anual.

[A] O incremento de reavaliação de R$ 200.000,00 deve ser reconhecido como Variação Patrimonial Aumentativa (VPA), e a depreciação anual passa a ser de R$ 50.000,00.

[B] O incremento de reavaliação de R$ 200.000,00 deve ser reconhecido diretamente no Patrimônio Líquido, à conta contábil Reserva de Reavaliação, e a depreciação anual passa a ser de R$ 50.000,00.

[C] O incremento de reavaliação de R$ 200.000,00 deve ser reconhecido diretamente no Patrimônio Líquido, em Ajustes de Exercícios Anteriores, e a depreciação anual passa a ser de R$ 45.000,00.

[D] O incremento de reavaliação deve ser registrado apenas mediante redução da depreciação acumulada, sem impacto no Patrimônio Líquido ou no resultado, permanecendo a depreciação anual em R$ 45.000,00.

QUESTÃO 37

O Município de Comodoro em X1 contratou um empréstimo no valor de R$ 1.800.000,00, à taxa de 10% a.a., para pagar em 36 meses, com o objetivo de financiar a construção de uma escola municipal. A obra permaneceu em construção durante 24 meses, sendo concluída e disponibilizada para uso ao final desse período.

Os juros incorridos durante os 24 primeiros meses, correspondentes ao período de construção da escola, totalizaram R$ 360.000,00. Após a conclusão da obra, os juros incorridos entre os meses 25 e 36 totalizaram R$ 180.000,00.

Considerando o disposto no MCASP (11ª ed.) e na NBC TSP 14 (Custos de Empréstimos), assinale a afirmativa que apresenta o tratamento contábil correto para os juros do financiamento.

[A] Capitalizar R$ 360.000,00 como parte do custo da escola, e reconhecer R$ 180.000,00 como despesa do período (variação patrimonial diminutiva – VPD), por se referirem aos juros incorridos após a conclusão e disponibilização da escola para uso.

[B] Capitalizar a totalidade dos juros do financiamento (R$ 540.000,00) como parte do custo da escola, uma vez que o empréstimo foi contratado especificamente para financiar sua construção.

[C] Reconhecer a totalidade dos juros (R$ 540.000,00) como despesa do período (variação patrimonial diminutiva – VPD) em que forem incorridos, pois a NBC TSP 14 não admite a capitalização de custos de empréstimos no setor público.

[D] Capitalizar apenas R$ 180.000,00, correspondentes aos juros incorridos após a conclusão da escola, mantendo os R$ 360.000,00 referentes ao período de construção como despesa do exercício (variação patrimonial diminutiva – VPD).

QUESTÃO 38

A Secretaria Municipal de Assistência Social de Comodoro mantém estoque de materiais para distribuição gratuita à população em situação de vulnerabilidade. No encerramento do exercício, o contador municipal levantou as seguintes informações:

Item	Qtd	Custo Histórico Unit.	Valor Realizável Líquido Unit.	Custo Corrente de Reposição Unit.
Cesta básica - Tipo A	100	R$ 180,00	R$ 150,00	R$ 160,00
Cesta básica - Tipo B	60	R$ 220,00	R$ 230,00	R$ 210,00
Kit higiene pessoal	150	R$ 50,00	R$ 40,00	R$ 30,00

Sabendo que se trata de estoques mantidos exclusivamente para distribuição gratuita, sem geração de caixa, e aplicando corretamente o disposto no MCASP (11ª ed.) e na NBC TSP 04 (Estoques), o valor total do estoque a ser reconhecido no Balanço Patrimonial é:

[A] R$ 38.700,00
[B] R$ 34.800,00
[C] R$ 33.100,00
[D] R$ 32.100,00

QUESTÃO 39

O município de Comodoro realizou, no mesmo exercício, as seguintes transações:

I. Arrecadação de IPTU lançado aos contribuintes do município.
II. Recebimento de cota-parte do ICMS transferida pelo Estado.
III. Cobrança de tarifas pela prestação do serviço municipal de água e esgoto aos usuários.
IV. Recebimento de transferência voluntária da União para construção de creche, condicionada à aplicação dos recursos na obra.

Considerando a NBC TSP 01 (Receita sem Contraprestação) e a NBC TSP 02 (Receita com Contraprestação), assinale a afirmativa que classifica corretamente os exemplos segundo cada modalidade de receita.

[A] I e II são sem contraprestação; III e IV são com contraprestação.
[B] I e III são sem contraprestação; II e IV são com contraprestação.
[C] I, II e IV são sem contraprestação; III é com contraprestação.
[D] I, II e III são com contraprestação; IV é sem contraprestação.

QUESTÃO 40

O município de Comodoro possui os seguintes imóveis registrados em seu patrimônio:

I. Um terreno cedido a uma empresa privada de logística mediante contrato de locação por cinco anos, com recebimento mensal de aluguéis.
II. Um edifício utilizado como sede da Secretaria Municipal de Saúde para a prestação de serviços públicos.
III. Um terreno mantido sem utilização pela Administração, com expectativa de valorização para futura alienação.

Considerando o disposto no MCASP (11ª ed.), em convergência com as NBC TSP 37 (Ativo Imobilizado) e 06 (Propriedade para Investimento), quanto à classificação de ativos não circulantes, assinale a afirmativa correta.

[A] Os imóveis I e II devem ser classificados como Ativos Imobilizados, enquanto o imóvel III deve ser classificado como Propriedade para Investimento, pois somente imóveis destinados à valorização de capital podem ser classificados como propriedades para investimento.
[B] Os imóveis I e III devem ser classificados como Propriedades para Investimento, enquanto o imóvel II deve ser classificado como Ativo Imobilizado, por ser utilizado na prestação de serviços públicos.
[C] O imóvel I deve ser classificado como Propriedade para Investimento, enquanto os imóveis II e III devem ser classificados como Ativos Imobilizados, por integrarem o patrimônio imobiliário da Administração Pública.
[D] Os imóveis I, II e III devem ser classificados como Ativos Imobilizados, uma vez que pertencem ao Município e são utilizados ou mantidos para atender às finalidades da Administração Pública.

Prefeitura Municipal de Comodoro.

Esta folha é destinada para uso EXCLUSIVO do candidato.

FOLHA DE ANOTAÇÃO DO CANDIDATO

Questão	Alternativa
01	
02	
03	
04	
05	
06	
07	
08	
09	
10	
11	
12	
13	
14	
15	
16	
17	
18	
19	
20	

Questão	Alternativa
21	
22	
23	
24	
25	
26	
27	
28	
29	
30	
31	
32	
33	
34	
35	
36	
37	
38	
39	
40	