PREFEITURA MUNICIPAL DE COMODORO-MT

CONCURSO PÚBLICO DE PROVAS E DE PROVAS E TÍTULOS PARA PROVIMENTO EFETIVO DE CARGOS DO QUADRO PERMANENTE DA PREFEITURA MUNICIPAL DE COMODORO

EDITAL Nº. 03/2026 – PMC-MT

NÍVEL DE ESCOLARIDADE: SUPERIOR

Cargo: Fisioterapeuta

Caderno de Prova

Nome do Candidato

UFMT
Supervisão de Concursos

I N S T R U Ç Õ E S

LEIA COM ATENÇÃO

1. Este Caderno de Prova, com páginas numeradas de **01** a **15**, é constituído de uma **Prova Objetiva** com **40 (quarenta)** questões de múltipla escolha, cada uma com **4 (quatro)** alternativas, assim distribuídas:

01 a **10 – Língua Portuguesa**
11 a **20 – Informática**
21 a **40 – Conhecimentos Específicos**

2. Caso o Caderno de Prova esteja incompleto ou tenha qualquer defeito de impressão, solicite ao fiscal que o substitua.

3. Sobre a marcação das respostas no Cartão de Respostas

As respostas das questões deverão ser transcritas com caneta esferográfica de tinta azul ou preta não porosa, fabricada em material transparente, para o Cartão de Respostas, que será o único documento válido para correção. O Cartão de Respostas não será substituído por erro ou dano do candidato.

3.1. Para cada questão existe apenas uma alternativa que a responde acertadamente. Para a marcação da alternativa escolhida no **CARTÃO DE RESPOSTAS, pinte completamente** o círculo correspondente.

*Exemplo: Suponha que para determinada questão a alternativa **C** seja a escolhida.*

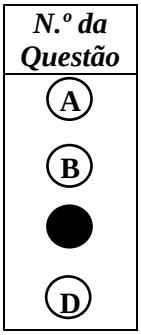

3.2. Marque apenas uma alternativa para cada questão.

3.3. Será invalidada a questão em que houver mais de uma marcação, marcação rasurada ou emendada, ou não houver marcação.

3.4. Não rasure nem amasse o **CARTÃO DE RESPOSTAS**.

4. Todos os espaços em branco, neste caderno, podem ser utilizados para rascunho.

5. Não haverá substituição do **CARTÃO DE RESPOSTAS** por erro do candidato.

6. A duração da prova é **4 (quatro) horas**, já incluído o tempo destinado ao preenchimento do **CARTÃO DE RESPOSTAS**.

7. Somente após decorridas **2 horas e 30 minutos** do início da prova, o candidato, depois de entregar seu Caderno de Prova e seu Cartão de Respostas, poderá retirar-se da sala de prova. O candidato que insistir em sair da sala de prova antes desse tempo deverá assinar **Termo de Ocorrência** declarando sua desistência do concurso.

8. Será permitida a saída de candidatos levando o Caderno de Prova somente **na última meia hora** de prova.

9. Na página 15 deste Caderno de Prova, encontra-se a **Folha de Anotação do Candidato**, a qual poderá ser utilizada para a transcrição das respostas das questões objetivas. Essa folha poderá ser levada pelo candidato para posterior conferência com o gabarito somente após decorridas **2 horas e 30 minutos** do início da prova.

10. Após o término da prova, o candidato deverá, obrigatoriamente, entregar ao fiscal o **CARTÃO DE RESPOSTAS** devidamente assinado (no espaço próprio) e preenchido.

LÍNGUA PORTUGUESA

QUESTÃO 01

Leia o texto a seguir.

O Estado de Mato Grosso cresce. A economia avança, a arrecadação aumenta, a produção bate recordes. Os benefícios desse desenvolvimento ainda não alcançam, na proporção necessária, quem mais precisa. Há municípios em que milhares de pessoas dependem do Bolsa Família para sobreviver. Essa é a grande contradição que Mato Grosso precisa enfrentar.

Em qual alternativa a reescrita desse texto apresenta problemas relativos à coesão, coerência e/ou correção gramatical?

[A] O Estado de Mato Grosso cresce: a economia avança, a arrecadação aumenta, a produção bate recordes, mas os benefícios desse desenvolvimento ainda não alcançam, na proporção necessária, quem mais precisa, visto que há municípios em que milhares de pessoas dependem do Bolsa Família para sobreviver. Essa é a grande contradição que Mato Grosso precisa enfrentar.

[B] O Estado de Mato Grosso cresce: a economia avança, a arrecadação aumenta, a produção bate recordes, logo os benefícios desse desenvolvimento ainda não alcança, na proporção necessária, quem mais precisa, pois que existe municípios em que milhares de pessoas dependem do Bolsa Família para sobreviver. Esta é a grande contradição que Mato Grosso precisa enfrentar.

[C] Mato Grosso precisa enfrentar uma grande contradição. O estado cresce: a economia avança, a arrecadação aumenta, a produção bate recordes, no entanto os benefícios desse desenvolvimento ainda não alcançam, na proporção necessária, quem mais precisa, pois que há municípios em que milhares de pessoas dependem do Bolsa Família para sobreviver.

[D] Mato Grosso precisa enfrentar uma grande contradição. O estado cresce: a economia avança, a arrecadação aumenta, a produção bate recordes, todavia os benefícios desse desenvolvimento ainda não alcançam, na proporção necessária, quem mais precisa, visto que existem municípios em que milhares de pessoas dependem do Bolsa Família

Instrução: Leia atentamente o texto a seguir e responda às questões de 02 a 06.

O outro

Ele queria muito ser eleito. Não: ele precisava muito ser eleito. Estava atrás de um emprego que lhe desse um bom salário, mordomias e verbas para gastar na contratação de assessores – além, claro, das múltiplas oportunidades que, como vereador, teria. O problema era arrumar votos. Não tinha amigos, não era conhecido, nem sequer recebera um apelido pitoresco que pudesse usar na propaganda. Mas o pior não era isso. O pior que combinava um visual péssimo – baixinho, gordinho, careca – com uma congênita inabilidade para falar em público. Em desespero, resolveu procurar um marqueteiro. Estava disposto a gastar uma boa grana nisso, desde que pudesse adquirir uma nova imagem, uma imagem capaz de garantir a eleição. O marqueteiro, famoso, exigiu honorários salgados, mas garantiu resultados. Que, de fato, não se fizeram esperar. Em poucas semanas o candidato era outro. Mais magro, mais alto (saltos especiais) com uma bela peruca, parecia agora um galã de novela. Além disso, transformara-se num fantástico orador, um orador capaz de galvanizar o público com uma única frase. Se foi eleito? Foi eleito com uma avalanche de votos. O que representou um duplo alívio: de um lado, conquistava o cargo tão sonhado. De outro, podia deixar de lado a peruca, os sapatos com saltos especiais e a dieta. E também podia falar normalmente, no tom meio fanhoso que o caracterizava. E aí começaram as surpresas desagradáveis. Quando foi tomar posse, ninguém o reconheceu. Mas como? Então era aquele tipo charmoso, magnético, da tevê e dos cartazes? Era ele sim, como o comprovou, mostrando a identidade. Não foi a única contrariedade. Logo descobriu que, como vereador, era péssimo: não sabia falar, não convencia ninguém, sequer era procurado por lobistas. Bom mesmo, concluiu com amargura, era o Outro, aquele que o marqueteiro tinha inventado. Aquele sim, podia fazer uma grande carreira, chegando quem sabe à Presidência. Mas onde estava o Outro? Só uma pessoa poderia ajudá-lo nessa busca, o marqueteiro. Só que o marqueteiro tinha sumido. Com o dinheiro ganho nas eleições resolvera passar dois anos em alguma praia do Caribe. Todas as noites o vereador sonha com o Outro. Vê-o na Câmara, discursando, empolgando multidões. Mas não sabe o que fazer para encontrá-lo. Sabe, sim, o que dirá se isso um dia acontecer. E o que dirá, numa voz fanhosa e emocionada, será: o senhor pode contar com meu voto - para sempre.

(SCLIAR, Moacyr. O imaginário cotidiano. São Paulo, Gaia, 2006.)

QUESTÃO 02

Tome o trecho *Logo descobriu que, como vereador, era péssimo: não sabia falar, não convencia ninguém, sequer era procurado por lobistas.* Sobre os sinais de pontuação usados nesse trecho, analise as afirmativas.

I. As duas primeiras vírgulas isolam uma expressão que indica circunstância.
II. O sinal de dois pontos indica a introdução de um esclarecimento ou exemplos.
III. As duas últimas vírgulas separam orações coordenadas, indicando uma enumeração.
IV. A segunda vírgula foi empregada erroneamente, pois não se deve usar vírgula entre sujeito e predicado, conforme as regras da norma culta.

Está correto o que se afirma em
[A] I, III e IV, apenas.
[B] I e II, apenas.
[C] II e IV, apenas.
[D] I, II e III, apenas.

QUESTÃO 03

Na frase *Só que o marqueteiro tinha sumido.*, a expressão <u>*Só que*</u>, devido ao seu significado, pode ser substituída por
[A] Porém.
[B] Logo.
[C] Portanto.
[D] Pois.

QUESTÃO 04

Na frase *E aí começaram as surpresas desagradáveis.*, a concordância verbal ocorre seguindo o princípio básico da concordância verbal: o verbo adapta-se aos quesitos número e pessoa do sujeito. Assinale o exemplo em que **NÃO** houve obediência a esse princípio básico.
[A] Enfim, foram analisados todos os recursos propostos pelos moradores para não eliminarem a praça do meio do bairro.
[B] Todo início de ano, os vereadores se motivam para, num dia qualquer, ao cair da noite, elevarem seu salário.
[C] Depois de muito tempo, o alvoroço dos participantes da feira diminuíram bastante, até o completo silêncio.
[D] Ficou claro que todos os funcionários aprovaram a decisão da diretoria sobre os horários de descanso.

QUESTÃO 05

Os pronomes oblíquos assumem diferentes posições em relação ao verbo e exercem importante função coesiva no texto, visto que minimizam a repetição de palavras e contribuem para situar os interlocutores e objetos no tempo, espaço e no próprio texto. Sobre o assunto, marque V para as afirmativas verdadeiras e F para as falsas.

( ) Em *E também podia falar normalmente, no tom meio fanhoso que o caracterizava.*, o pronome <u>*o*</u>, em posição proclítica, retoma o sentido da palavra *candidato.*
( ) Em *Só uma pessoa poderia ajudá-lo nessa busca, o marqueteiro.*, o pronome *o*, na forma <u>*lo*</u>, em posição enclítica, retoma o sentido da palavra *marqueteiro*.
( ) Em *Vê-o na Câmara, discursando, empolgando multidões.*, o pronome <u>*o*</u>, em posição enclítica, retoma o sentido da palavra *Outro*.
( ) Em *Mas não sabe o que fazer para encontrá-lo.*, o pronome <u>*o*</u>, na forma <u>*lo*</u>, em posição proclítica, retoma o sentido da palavra *marqueteiro*.

Assinale a sequência correta.
[A] V, V, F, F
[B] F, F, V, V
[C] V, F, V, F
[D] F, V, F, V

QUESTÃO 06

A respeito do texto, analise as afirmativas.

I. Sugere que todo candidato a cargo eletivo necessita do trabalho de um marqueteiro, sem o qual não consegue se eleger.
II. Mostra como, em época de eleição, um candidato usa estratégias pelas quais se torna conhecido e é eleito.
III. Relata medidas empreendidas por marqueteiros para eleger um candidato mesmo que ele não tenha as qualidades necessárias.
IV. Mostra como eleitores, ao escolher em quem vão votar, se deixam levar pela aparência do candidato.

Estão corretas as afirmativas

[A] I, II e IV, apenas.
[B] II, III e IV, apenas.
[C] I e III, apenas.
[D] II e III, apenas.

Instrução: Leia o texto a seguir e responda às questões de 07 a 09.

Carta Apostólica *Misericordia et mísera do Santo Padre Francisco*

Não ter trabalho nem receber um salário justo, não poder ter uma casa ou uma terra onde habitar, ser discriminado pela fé, raça, posição social... estas e muitas outras são condições que atentam contra a dignidade da pessoa; frente a elas, a ação misericordiosa dos cristãos responde, antes de mais nada, com a vigilância e a solidariedade. Hoje são tantas as situações em que podemos restituir dignidade às pessoas, consentindo-lhes uma vida humana. Basta pensar em tantos meninos e meninas que sofrem violências de vários tipos, que lhes roubam a alegria da vida. Os seus rostos tristes e desorientados permanecem impressos na minha mente; pedem a nossa ajuda para serem libertados da escravidão do mundo contemporâneo. Estas crianças são os jovens de amanhã; como estamos a prepará-las para viverem com dignidade e responsabilidade? Com que esperança podem elas enfrentar o seu presente e o seu futuro?

O caráter social da misericórdia exige que não permaneçamos inertes mas afugentemos a indiferença e a hipocrisia para que os planos e os projetos não fiquem letra morta. Que o Espírito Santo nos ajude a estar sempre prontos a prestar de forma efetiva e desinteressada a nossa contribuição, para que a justiça e uma vida digna não permaneçam meras palavras de circunstância, mas sejam o compromisso concreto de quem pretende testemunhar a presença do Reino de Deus.

(Disponível em: www.vatican.va/content/francesco. Acesso em: 14/05/2025.)

QUESTÃO 07

Qual a intencionalidade desse texto?

[A] Conclamar os cristãos a interferirem nas condições precárias em que vivem adultos e jovens, a contribuírem para que eles tenham uma vida digna.
[B] Rogar a Deus para que ajude os cristãos a não simplesmente ver a situação de desespero de pessoas sofridas, mas a agir de modo a eles terem um amanhã.
[C] Informar ao mundo quantas situações de intolerância social existem, quantos adultos e jovens sem esperança de um futuro melhor, uma vida digna.
[D] Incitar os cristãos a não deixarem que a justiça social exista apenas no papel, que a vigilância predomine, que a hipocrisia possa restituir dignidade aos sofredores.

QUESTÃO 08

Os pronomes relativos fazem a retomada do sentido de palavra mencionada no texto, contribuindo com a sequenciação das ideias. Assinale o trecho que apresenta pronome relativo.

[A] *O caráter social da misericórdia exige que não permaneçamos inertes mas afugentemos a indiferença e a hipocrisia.*
[B] *Que o Espírito Santo nos ajude a estar sempre prontos a prestar de forma efetiva e desinteressada a nossa contribuição.*
[C] *Mas afugentemos a indiferença e a hipocrisia para que os planos e os projetos não fiquem letra morta.*
[D] *Hoje são tantas as situações em que podemos restituir dignidade às pessoas, consentindo-lhes uma vida humana.*

QUESTÃO 09

As palavras *solidariedade, dignidade, responsabilidade* são substantivos formados com o sufixo dade, que indica ideia de qualidade ou estado. Sobre o uso de sufixos, assinale a afirmativa **INCORRETA**.

[A] Os substantivos racismo e consumismo são formados pelo sufixo ismo, que indica uma prática ou sistema de crenças ou movimentos.

[B] Os substantivos polimento e fingimento são formados pelo sufixo mento, que exprime ideia de possiblidade de realizar uma ação.

[C] Os substantivos aprendizagem e coragem são formados pelo sufixo agem, que exprimem ideia de ação ou resultado de uma ação.

[D] Os substantivos semelhança e segurança são formados pelo sufixo ança, que indica ideia de estado ou qualidade.

QUESTÃO 10

Maria Joana é uma joaninha estressada, personagem de Clara Gomes, criadora das tiras denominadas Bichinhos de Jardim.



(Disponível em: bichinhosdejardim.com. Acesso em: 29/05/25.)

A respeito da tira, marque V para as afirmativas verdadeiras e F para as falsas.

( ) A solicitação de Maria Joana a Iaiá foi atendida plenamente somente no último quadrinho da tira, o que lhe causou aborrecimento.

( ) Antes mesmo de obter resposta a sua pergunta, Maria Joana entendeu que Iaiá, por ser uma inteligência artificial do mal, a atenderia prontamente.

( ) A previsão do clima dada por Iaiá pode ser considerada uma reflexão a partir do seu conhecimento de mundo.

( ) Maria Joana não mostrou interesse pela fala final de Iaiá, bastava-lhe saber se ia chover ou não.

( ) A fala de Iaiá, no último quadro, compõe-se de um período subordinado: uma oração principal e uma oração subordinada que expressa ideia de condição.

( ) Iaiá, a inteligência artificial do mal, usa duas vezes a palavra *tá*, com o mesmo sentido e igual função gramatical.

Assinale a sequência correta.

[A] F, V, V, F, F, V

[B] V, V, F, F, V, F

[C] F, F, V, V, V, F

[D] V, F, F, V, F, V

INFORMÁTICA

QUESTÃO 11

Considere uma planilha do Microsoft Excel com as células A1, B1, A2, B2, A3 e B3 preenchidas com os valores 10, 4, 8, 22, 16 e 2, respectivamente. Quais valores seriam produzidos pelas fórmulas =MÉDIASE(A1:B3;">10") e =SOMASES(A1:B3;A1:B3;"<10") respectivamente?

[A] 16 e 24

[B] 16 e 14

[C] 19 e 24

[D] 19 e 14

QUESTÃO 12

Sobre o item Programas e Recursos do Painel de Controle do Windows 11, analise as afirmativas.

I. Permite ativar ou desativar recursos do Windows por meio de caixas de seleção do tipo marca/desmarca para cada um dos recursos disponíveis.
II. É a ferramenta indicada para desinstalar aplicativos do computador, não sendo recomendado excluir arquivos diretamente no Explorador de Arquivos.
III. Apresenta recurso que permite salvar uma cópia de segurança quando um programa é desinstalado para que possa ser restaurado futuramente, se necessário.
IV. No modo de exibição "Lista", é possível visualizar, além do nome, informações tais como data de instalação, tamanho e versão dos programas instalados.

Estão corretas as afirmativas

[A] I e II, apenas.
[B] III e IV, apenas.
[C] I, II e III, apenas.
[D] II, III e IV, apenas.

QUESTÃO 13

Considere o fragmento de tela a seguir, extraído do Explorador de Arquivos do Windows 11, com a pasta Documentos selecionada.

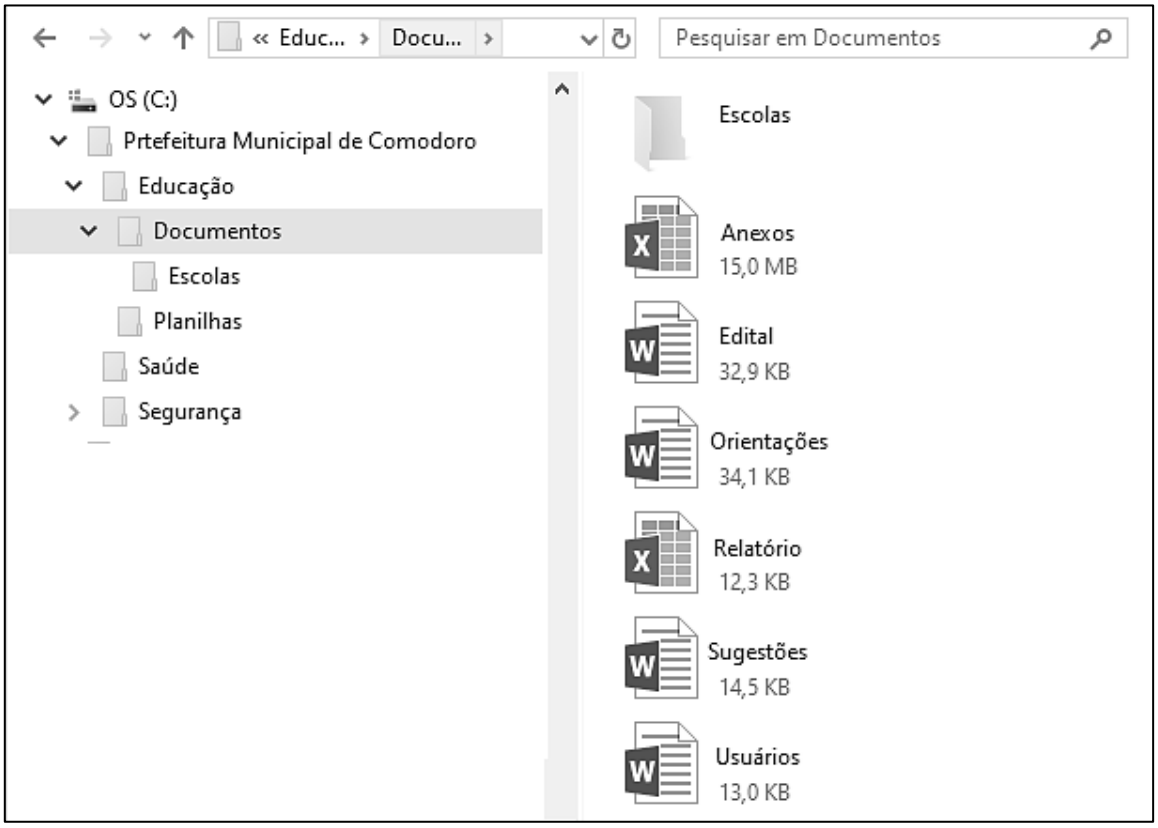

Sobre a figura, marque V para as afirmativas verdadeiras e F para as falsas.

( ) Os seis arquivos exibidos no lado direito da tela são conteúdo da pasta Escolas.
( ) A pasta Escolas não possui qualquer pasta (subpasta) em seu conteúdo.
( ) O arquivo Orientações possui tamanho superior ao do arquivo Anexos.
( ) Os arquivos Edital e Sugestões são documentos nativos do Microsoft Word.

Assinale a sequência correta.

[A] V, F, F, V
[B] V, F, V, F
[C] F, V, F, V
[D] F, V, V, F

QUESTÃO 14

Sobre boas práticas de segurança da informação no uso de computadores, analise as afirmativas.

I. É indicado manter o sistema operacional e demais softwares sempre atualizados para corrigir vulnerabilidades que possam ser exploradas por invasores.
II. Recomenda-se utilizar uma conta com privilégios de Administrador no uso rotineiro do computador para garantir que antivírus operem sem bloqueios.
III. É recomendado limpar periodicamente histórico, cookies e cache do navegador de internet para proteger a privacidade das atividades realizadas no computador.
IV. Recomenda-se instalar múltiplos programas antivírus simultâneos no computador para aumentar a proteção de forma proporcional, sem causar conflitos de sistema.

Estão corretas as afirmativas

[A] II e IV, apenas.
[B] I e III, apenas.
[C] I, II e III, apenas.
[D] I, III e IV, apenas.

QUESTÃO 15

Assinale a alternativa que apresenta a definição dos malwares Ransomware e Stalkerware, respectivamente.

[A] Ransomware é um código malicioso que torna inacessíveis os dados armazenados em um equipamento e exige pagamento de resgate; Stalkerware é um programa de espionagem usado para monitorar e rastrear a atividade de uma vítima.
[B] Ransomware é um programa projetado para exibir anúncios excessivos e pop-ups na tela do usuário; Stalkerware é um malware que se propaga exclusivamente por meio de mensagens falsas no WhatsApp.
[C] Ransomware é um código que monitora o tráfego de rede para roubar senhas bancárias; Stalkerware é um programa que transforma o computador em um "zumbi" para realizar ataques de negação de serviço (DDoS).
[D] Ransomware é um software legítimo de backup que apresenta falhas de segurança críticas; Stalkerware é um mecanismo de autenticação em duas etapas, criado para interceptar códigos SMS.

QUESTÃO 16

Sobre o recurso de preenchimento automático do navegador Google Chrome, marque V para as afirmativas verdadeiras e F para as falsas.

( ) Permite que o Chrome guarde informações, como nomes, endereços e dados de pagamento para acelerar o preenchimento de formulários na web.
( ) Para gerenciar o recurso, deve-se selecionar a opção Configurações no menu principal e acessar a seção Preenchimento automático e senhas.
( ) Não permite que dados inseridos em campos de senhas sejam protegidos por biometria ou PIN do Windows.
( ) Por segurança, não é permitido adicionar mais de uma forma de pagamento, como, por exemplo, múltiplos cartões de crédito.

Assinale a sequência correta.

[A] V, V, F, F
[B] F, F, V, V
[C] V, F, V, F
[D] F, V, F, V

Instrução: As questões 17 e 18 são baseadas no documento seguinte do Microsoft Word 2016 com as linhas numeradas de 1 a 10 e com um bloco de texto selecionado (linhas 2 a 10).

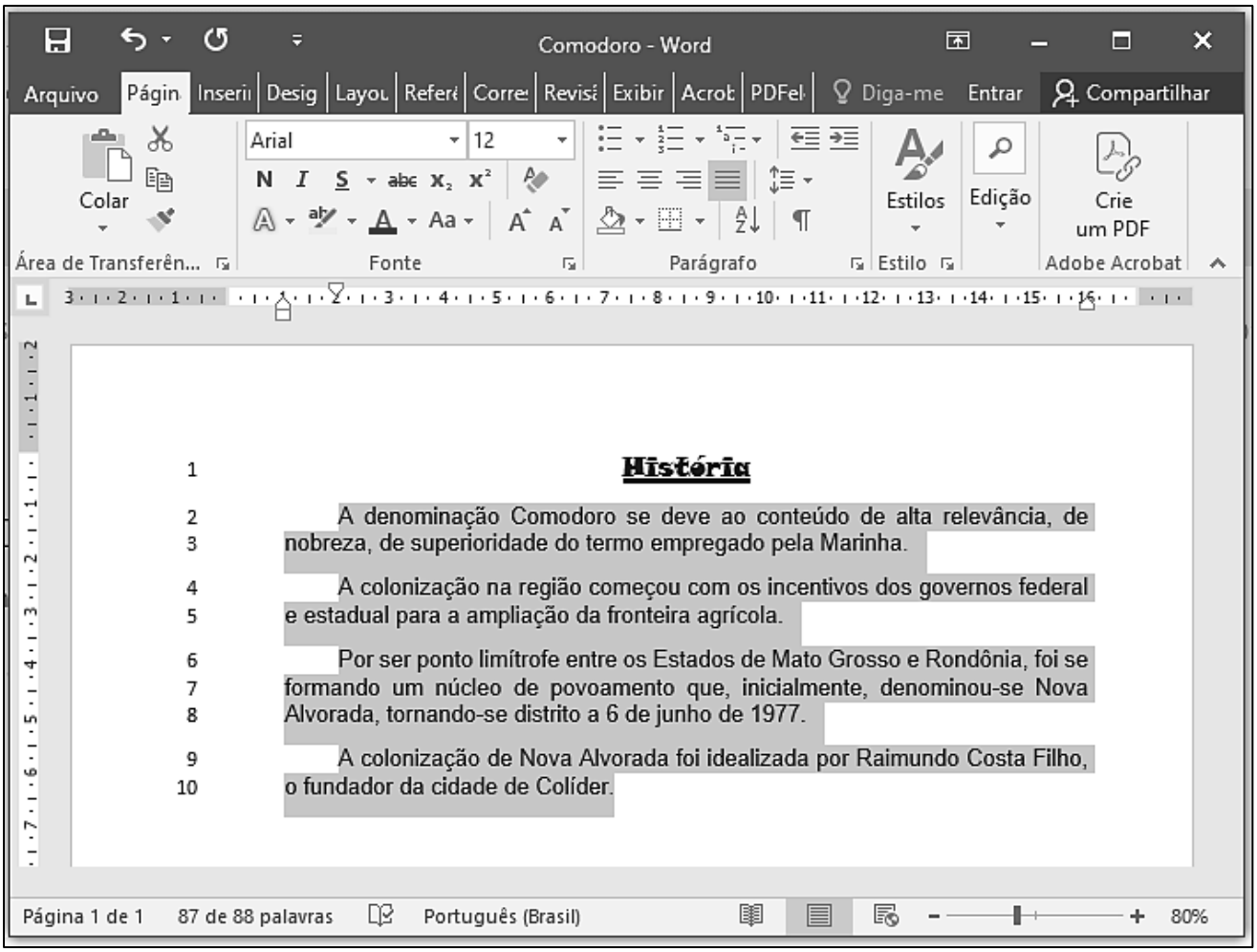

QUESTÃO 17

Sobre o documento, analise as afirmativas.

I. A formatação de fonte aplicada no título do texto (linha 1) é Arial, tamanho 12.
II. O documento foi salvo com o nome História, por ser a primeira palavra do texto.
III. O nível de zoom aplicado para visualização do documento é de 80%.
IV. O alinhamento aplicado no texto selecionado (linhas 2 a 10) é justificado.

Estão corretas as afirmativas

[A] I e II, apenas.
[B] I, III e IV, apenas.
[C] II, III e IV, apenas.
[D] III e IV, apenas.

QUESTÃO 18

Sobre as configurações de margens do documento e de parágrafos do texto selecionado (linhas 2 a 10), assinale a afirmativa correta.

[A] A margem esquerda do documento está configurada para 2 cm.
[B] O recuo de primeira linha do texto selecionado está ajustado para 1 cm.
[C] A margem superior do documento está ajustada para 3 cm.
[D] O recuo esquerdo do documento está posicionado em 2 cm.

QUESTÃO 19

Sobre conceitos de hardware, analise as afirmativas.

I. A Unidade de Controle (UC) é o componente da CPU responsável por executar as operações matemáticas e os testes lógicos do sistema.
II. A memória cache é integrada à CPU e serve para reduzir o tempo de espera do processador no acesso aos dados da memória RAM.
III. A memória ROM perde todas as suas informações gravadas assim que o computador é desligado da energia elétrica.
IV. Os drives de estado sólido (SSDs) utilizam memória Flash para armazenar dados de forma não volátil, sem depender de peças mecânicas móveis.

Estão corretas as afirmativas

[A] I e III, apenas.
[B] II, III e IV, apenas.
[C] II e IV, apenas.
[D] I e II, apenas.

QUESTÃO 20

A figura seguinte apresenta uma planilha do Microsoft Excel com a célula C15 selecionada.

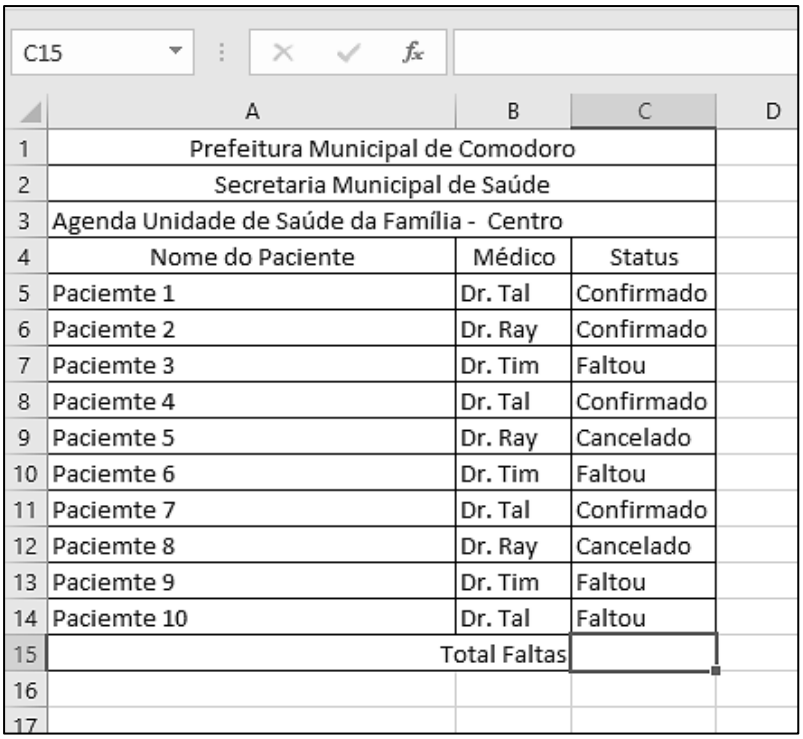

	A	B	C	D
1	Prefeitura Municipal de Comodoro			
2	Secretaria Municipal de Saúde			
3	Agenda Unidade de Saúde da Família - Centro			
4	Nome do Paciente	Médico	Status	
5	Paciemte 1	Dr. Tal	Confirmado	
6	Paciemte 2	Dr. Ray	Confirmado	
7	Paciemte 3	Dr. Tim	Faltou	
8	Paciemte 4	Dr. Tal	Confirmado	
9	Paciemte 5	Dr. Ray	Cancelado	
10	Paciemte 6	Dr. Tim	Faltou	
11	Paciemte 7	Dr. Tal	Confirmado	
12	Paciemte 8	Dr. Ray	Cancelado	
13	Paciemte 9	Dr. Tim	Faltou	
14	Paciemte 10	Dr. Tal	Faltou	
15		Total Faltas		
16				
17				

De acordo com a planilha, qual fórmula poderia ser incluída na célula C15 para retornar o número de pacientes que faltaram?

[A] =CONT.COND(C5:C14;"Faltou")
[B] =CONT.VAR(C5:C14;"Faltou")
[C] =CONT.NUM(C5:C14;"Faltou")
[D] =CONT.SE(C5:C14;"Faltou")

CONHECIMENTOS ESPECÍFICOS

QUESTÃO 21

Um senhor foi admitido no pronto-atendimento da UPA com quadro de dispneia intensa, taquipneia, ortopneia, apresentando certa confusão mental. Diante de um quadro clássico de Insuficiência Respiratória decorrente da agudização da Doença Pulmonar Obstrutiva Crônica, o médico adotou as condutas clínicas que eram necessárias. Qual a conduta que o fisioterapeuta deve adotar nessa urgência?

[A] BIPAP
[B] CPAP
[C] Posicionar a cabeceira do leito em 30°.
[D] Posicionar a cabeceira em 45° e elevar membros inferiores.

QUESTÃO 22

Durante um atendimento da equipe multiprofissional, a equipe do laboratório colheu uma gasometria arterial com os seguintes achados: pH 7,28, PO_2 60mmHg, PCO_2 80mmHg, HCO_3 26mmol/L e BE -4,5. Qual o achado gasométrico?

[A] Acidose metabólica, apenas.
[B] Acidose respiratória, apenas.
[C] Hipoxemia, acidose respiratória.
[D] Hiperoxemia, alcalose respiratória.

QUESTÃO 23

O fisioterapeuta realiza atendimento domiciliar a uma paciente de 85 anos com demência avançada e sequelas graves de fratura de fêmur. Durante as sessões em domicílio, os filhos da paciente exigem que o profissional utilize uma técnica de estimulação magnética transcraniana caseira que viram na internet, alegando que "pagam pelo serviço e têm autonomia para escolher o tratamento". Ainda, a família exige que o prontuário físico de evolução da paciente seja deixado na mesa da sala de estar para que os cuidadores contratados e vizinhos que ajudam na rotina possam ler as condutas livremente. Diante do cenário exposto e considerando o Código de Ética e Deontologia da Fisioterapia, assinale a alternativa que apresenta a conduta ética correta que o fisioterapeuta deve adotar.

[A] Cabe ao fisioterapeuta a responsabilidade pelo diagnóstico e plano de tratamento, devendo recusar a técnica não regulamentada para zelar por métodos reconhecidos e pela integridade da paciente. O prontuário deve ser guardado de forma que permaneça fora do alcance de estranhos à equipe de saúde.
[B] Por se tratar de atendimento domiciliar privado, o respeito ao pudor e à intimidade anula a obrigatoriedade de o fisioterapeuta informar o prognóstico e os objetivos do tratamento aos responsáveis legais.
[C] O profissional pode delegar aos familiares e cuidadores a decisão de conceder alta ou mudar o plano terapêutico, desde que formalize em ata simples, relativizando a obrigação de guardar o prontuário em ambiente doméstico.
[D] O fisioterapeuta deve aplicar a técnica solicitada pela família para respeitar o princípio bioético da autonomia. O profissional deve deixar o prontuário na mesa da sala para facilitar o livre acesso de terceiros envolvidos no cotidiano da casa.

QUESTÃO 24

A inserção do profissional fisioterapeuta na equipe da UBS permite o rastreio de neuropatias diabéticas, essencial para a realização de educação em saúde dos pacientes e mitigar disfunções tegumentares e vasculares que podem evoluir para necessidade de amputações. Em relação à avaliação fisioterapêutica, qual o recurso específico para avaliação da neuropatia diabética?

[A] Termoestesiômetro para avaliação da sensibilidade vibratória.
[B] Estesiômetro com monofilamento de 10g para avaliação da sensibilidade protetora.
[C] Diapasão de 128Hz para avaliar a sensibilidade tátil.
[D] Algodão para avaliação da sensibilidade profunda.

QUESTÃO 25

Paciente J.S.S., 54 anos, trabalhador rural, tabagista, hipertenso, dislipidêmico, sabidamente diabético, com glicemia de difícil controle, mesmo utilizando hipoglicemiantes oral e subcutâneo, apresentando, no último exame hemoglobina glicada 7,4 mmol/mol. Paciente relata que há 3 semanas começou a apresentar uma "feridinha" na região do dorso do pé direito e evoluiu com lesão cutânea de aproximadamente 4cm^2. O paciente é acompanhado mensalmente pela equipe multiprofissional da Unidade Básica de Saúde (UBS) e não procurou a unidade quando os sinais começaram, somente comparecendo da data da consulta médica. Em relação à lesão cutânea, dentre os arsenais terapêuticos, qual o recurso eletrotermofototerapêutico o fisioterapeuta deverá utilizar?

[A] Ultrassom pulsátil 1mHz
[B] Ultrassom contínuo 3mHz
[C] Laser He-Ne
[D] Laser As-Ga

QUESTÃO 26

Sra. M.S.C., 42 anos, vendedora autônoma de roupas, procura o centro de reabilitação municipal com relato de queda da escada, últimos degraus, há aproximadamente 15 dias, sobre o membro superior esquerdo. Procurou o pronto atendimento médico, sendo diagnosticada com Lesão do Manguito Rotador, tratamento conservador e prescrição de antinflamatórios, analgésicos e encaminhamento para a fisioterapia. Quais estruturas músculo-tendíneas e suas respectivas funções estão comprometidas na lesão clássica do manguito rotador?

[A] Bíceps braquial – flexão de braço; subraespinhal – abdução do braço; infraespinhal – rotação interna; coracobraquial – flexão e adução do braço.
[B] Supraespinhal – abdução do braço; subescapular – rotação interna; redondo menor – rotação interna; coracobraquial – flexão e adução do braço.
[C] Deltóide – abdução do braço; grande dorsal – adução e rotação interna do braço; redondo maior – abdução e extensão de braço; subescapular – rotação interna.
[D] Supraespinhal – abdução do braço; infraespinhal – rotação externa; redondo menor – rotação externa; subescapular – rotação interna.

QUESTÃO 27

A paciente do quadro clínico relatado na questão 26 refere dor ao movimento, não conseguindo dormir em decúbito lateral esquerdo, limitação da amplitude de movimento, dificuldade para vestir roupas pela cabeça, lavar os cabelos e realizar as tarefas domésticas, necessitando, inclusive, de auxílio para fechar o sutiã. Observou que os sintomas pioraram gradativamente, não tomou a medicação conforme a prescrição médica e só procurou atendimento fisioterapêutico quando não conseguia mais pilotar a moto. O profissional que a atendeu formulou os seguintes objetivos fisioterapêuticos: reduzir processo inflamatório, promover analgesia, aumentar a amplitude de movimento e estimular o retorno às atividades de vida diária. Qual recurso terapêutico deverá ser utilizado de acordo com o quadro clínico e objetivos traçados?

[A] Laser As-Ga
[B] Ultrassom contínuo 1mHz
[C] FES
[D] Ultrassom contínuo 3mHz

QUESTÃO 28

Sr. R.N.S., 72 anos, procura a UBS após ter alta hospitalar, acompanhado da esposa, utilizando cadeira de rodas para locomoção. A esposa relata que o marido teve um AVC hemorrágico há cerca de 3 meses, período que ficou hospitalizado, com dificuldade de falar, mas que entende o que as pessoas falam com ele, sem movimentos do lado direito do corpo, que também é difícil de manusear. Quais os sinais/sintomas da hipertonia espástica, comum em lesões do neurônio motor superior?

[A] Movimentos de roda denteada, bradicinesia, Sinal de Babinsk presente.
[B] Reflexos aumentados, movimento de roda denteada, Sinal de Babinsk ausente.
[C] Bradicinesia, reflexos diminuídos, alterações do equilíbrio e endireitamento.
[D] Reflexos aumentados, resistência velocidade-dependente, Sinal de Babinsk presente.

QUESTÃO 29

O paciente J.M.S., 28 anos, foi admitido no setor de fisioterapia neurofuncional com diagnóstico de Trauma Raquimedular (TRM) por acidente automobilístico há 3 meses. A avaliação clínica baseada na escala ASIA revelou lesão motora e sensitiva completa ao nível de T10 (Paraplegia T10 / ASIA A). Atualmente, a fratura vertebral já se encontra cirurgicamente consolidada e estável. O paciente apresenta padrão de espasticidade nos membros inferiores e ausência completa de controle voluntário da musculatura abdominal inferior. O objetivo principal do fisioterapeuta nesta fase é promover o ganho de controle de tronco e o equilíbrio estático na postura sentada, visando à independência para futuras transferências para a cadeira de rodas. Considerando o quadro clínico apresentado e os princípios neurofisiológicos da Facilitação Neuromuscular Proprioceptiva (FNP), qual técnica do método é a mais indicada para alcançar o objetivo proposto?

[A] Iniciação rítmica
[B] Estabilização rítmica
[C] Reversão dinâmica
[D] Estiramento repetido

QUESTÃO 30

Ao analisar a marcha do paciente hemiparético, o fisioterapeuta observa uma excessiva inclinação do tronco para o lado não afetado durante a fase de balanço do membro parético. Qual a denominação dessa compensação?

[A] Marcha em tesoura
[B] Elevação da pelve
[C] Sinal de Trendelemburg
[D] Circundução do quadril

QUESTÃO 31

As quedas em idosos representam um problema de saúde pública. O trabalho preventivo de um fisioterapeuta inclui também o rastreio de risco de quedas em idosos. Dentre as escalas e testes a serem realizados, existe a Escala de Equilíbrio de Berg (EEB), considerada padrão ouro para avaliação do equilíbrio estático e dinâmico. Qual a interpretação da pontuação de 38 na EBB?

[A] Alto risco de quedas
[B] Baixo risco de quedas
[C] Risco moderado de quedas
[D] Excelente equilíbrio funcional e independência total

QUESTÃO 32

Durante o atendimento a um idoso de 78 anos na Atenção Primária à Saúde, o fisioterapeuta identifica redução da velocidade da marcha, dificuldade para levantar-se da cadeira sem apoio dos braços, relato de duas quedas no último ano e medo de cair novamente. Diante desse cenário, qual é a conduta mais adequada do fisioterapeuta?

[A] Avaliação da funcionalidade e do risco de quedas, elaboração de um plano terapêutico com exercícios de força, equilíbrio e treino de marcha, orientação de medidas de prevenção de quedas e atuação de forma integrada com a equipe multiprofissional.
[B] Fortalecimento de membros inferiores, pois as quedas decorrem principalmente de fraqueza muscular.
[C] Contraindicar a prática de atividades físicas até que o idoso permaneça pelo menos seis meses sem apresentar novas quedas.
[D] Indicar repouso relativo e o uso permanente de dispositivos de auxílio à marcha, independentemente da avaliação funcional.

QUESTÃO 33

Durante uma conferência municipal de saúde, a equipe de planejamento debateu a necessidade de implantar uma nova linha de cuidado para pacientes com doenças raras na região. Um dos conselheiros pontuou que, embora o município deva atender a todos sem distinção, é preciso oferecer atenção diferenciada e com mais recursos para aqueles que possuem vulnerabilidades e necessidades mais complexas, garantindo que o sistema distribua seus recursos de forma justa. O argumento do conselheiro baseia-se diretamente em qual princípio doutrinário do SUS?

[A] Participação popular, uma vez que a discussão ocorreu dentro de um conselho de saúde com a presença da comunidade.

[B] Equidade, já que preconiza tratar desigualmente os desiguais, direcionando maior atenção e recursos a quem mais necessita para diminuir as disparidades.

[C] Universalidade, pois defende que o sistema de saúde deve estar disponível para todos os cidadãos, independentemente de sua condição socioeconômica.

[D] Integralidade, visto que foca na articulação de ações de promoção, proteção e recuperação da saúde de forma contínua.

QUESTÃO 34

Os programas de reabilitação cardiovascular ambulatorial para pacientes com insuficiência cardíaca, clinicamente estáveis, devem ser alicerçados em intervenções baseadas em exercícios físicos. De acordo com as diretrizes de prática clínica em fisioterapia cardiovascular, é correto afirmar:

[A] O treinamento intervalado de alta intensidade demonstrou superioridade em relação ao treinamento contínuo de intensidade moderada.

[B] As recomendações atuais restringem o treinamento físico aos pacientes com insuficiência cardíaca e fração de ejeção reduzida, não havendo evidências para pacientes com fração de ejeção preservada.

[C] A estimulação elétrica neuromuscular é mais efetiva que o treinamento aeróbico.

[D] O treinamento da musculatura inspiratória de alta intensidade apresenta maior eficácia quando comparado ao treinamento de baixa intensidade.

Instrução: Leia o caso clínico a seguir e responda às questões 35 e 36.

Criança de 4 anos, com diagnóstico de Paralisia Cerebral decorrente de encefalopatia crônica não progressiva por icterícia neonatal (Kernicterus), é encaminhada para avaliação fisioterapêutica. Durante o exame físico, o terapeuta observa que a paciente apresenta movimentos distais involuntários, lentos e sinuosos, que se acentuam quando ela tenta alcançar um brinquedo. Nota também uma oscilação constante do tônus muscular entre momentos de hipotonia em repouso e hipertonia durante o choro, além de ausência de controle postural proximal estável. O desenvolvimento cognitivo mostra-se compatível com a idade cronológica.

Durante o planejamento terapêutico, o fisioterapeuta estabelece os seguintes objetivos de tratamento: promover a estabilização proximal, regular a oscilação do tônus e melhorar o alinhamento biomecânico para favorecer a função.

QUESTÃO 35

Com base nos achados clínicos descritos, o quadro apresentado é característico de qual tipo de paralisia cerebral?

[A] Atetoide

[B] Espástica

[C] Atáxica

[D] Hipotônica

QUESTÃO 36

De acordo com o quadro clínico e os objetivos traçados, qual a conduta fisioterapêutica a ser adotada?

[A] Realizar alongamentos estáticos prolongados de cadeia posterior e aplicar técnicas de facilitação neuromuscular com movimentos rápidos e balísticos para aumentar a velocidade dos membros.

[B] Prescrever exercícios de fortalecimento isométrico de alta carga para membros distais, visando bloquear os movimentos involuntários através da fadiga muscular programada.

[C] Aplicar crioterapia nas articulações proximais por tempo prolongado para inibir os movimentos sinuosos antes de iniciar qualquer atividade voluntária.

[D] Utilizar técnicas de sustentação e descarga de peso em posições funcionais, associadas ao uso de vestes compressivas, para aumentar o feedback proprioceptivo e a estabilidade do tronco.

QUESTÃO 37

Paciente de 35 anos, diagnóstico de dor lombar crônica mecânico-postural, apresenta quadro de instabilidade segmentar lombar, caracterizado por dor ao realizar transições posturais e fraqueza na musculatura estabilizadora profunda do tronco. O fisioterapeuta opta por traçar um plano de tratamento que alia recurso eletrotermofototerapêutico e cinesioterapia baseado nas evidências científicas atuais para o controle da dor e melhora da função. Quais recursos são adequados para o caso clínico?

[A] Ondas curtas e prescrever repouso absoluto no leito por duas semanas combinado com exercícios exclusivos de flexão passiva máxima da coluna (Série de Williams).

[B] Estimulação Elétrica Nervosa Transcutânea para modulação da dor, associada a exercícios de controle motor e estabilização segmentar focados na ativação do transverso do abdômen e multífidos.

[C] Ondas curtas e realizar exercícios de hiperextensão lombar repetida de alta carga (Série de McKenzie) com o objetivo mecânico de hipertrofiar exclusivamente o músculo reto abdominal.

[D] Laser de Baixa Potência (As-Ga) na região para regeneração discal e aplicação de Corrente Russa com alta intensidade nos membros inferiores para aumentar a velocidade das transições posturais.

QUESTÃO 38

A dor lombar crônica nociceptiva representa uma das maiores causas de absenteísmo ao trabalho e incapacidade funcional no mundo, afetando até 80% da população em algum momento da vida. Durante a fase de agudização de um paciente com dor lombar crônica inespecífica, o fisioterapeuta decide utilizar recursos eletrotermofototerapêuticos de forma associada e complementar à terapia ativa, buscando a modulação da dor para permitir que o paciente tolere melhor os exercícios. Qual recurso eletrotermofototerapêutico pode ser adotado para o caso clínico, baseado no seu mecanismo neurofisiológico?

[A] Ultrassom contínuo de 3 MHz promove aquecimento profundo nas estruturas articulares da coluna lombar devido à sua alta profundidade de penetração tecidual.

[B] Laser de Baixa Intensidade deve ser aplicado com parâmetros térmicos para gerar o aquecimento muscular, promovendo o relaxamento muscular.

[C] Estimulação Elétrica Nervosa Transcutânea estimula fibras aferentes de grosso calibre ($A\beta$), ativando interneurônios inibitórios na medula espinhal para modular a dor via Teoria das Comportas.

[D] Estimulação Elétrica Nervosa Transcutânea, em modo Burst, atua pelo mecanismo da Teoria das Comportas da Dor, bloqueando as fibras do tipo C no corno posterior da medula através de frequências acima de 150 Hz.

QUESTÃO 39

Uma mulher de 56 anos, submetida à quadrantectomia à direita há seis semanas por câncer de mama, encontra-se em acompanhamento fisioterapêutico durante o tratamento adjuvante. Na avaliação, apresenta limitação da amplitude de movimento do ombro direito (flexão de 110° e abdução de 95°), dor leve à mobilização, sensação de peso no membro superior direito, discreto edema na região do antebraço, cicatriz cirúrgica aderida e rubor em alguns pontos. Considerando a avaliação fisioterapêutica e as evidências atuais, qual a conduta mais adequada a ser adotada?

[A] Iniciar um programa progressivo de mobilização ativa e ativo-assistida do ombro, exercícios de fortalecimento graduado, mobilização da cicatriz, orientações sobre prevenção do linfedema e acompanhamento da evolução do edema.

[B] Priorizar a aplicação de termoterapia sobre a região axilar e peitoral para relaxamento muscular, seguida por alongamentos estáticos passivos insistentes além do limite da dor para recuperar a flexão e abdução.

[C] Realizar cinesioterapia ativa livre e assistida respeitando o limite da dor, esclarecer sobre os cuidados e automonitoramento do membro e orientar a avaliação médica ou da enfermagem quanto aos sinais flogísticos na cicatriz cirúrgica, evitando a manipulação local direta do tecido aderido.

[D] Realizar liberação miofascial vigorosa na cicatriz para romper as aderências teciduais, associada à aplicação de ultrassom contínuo no ombro direito para analgesia e ganho imediato de amplitude de movimento.

QUESTÃO 40

Um paciente de 70 anos, com diagnóstico de Doença Pulmonar Obstrutiva Crônica (DPOC), foi encaminhado para avaliação fisioterapêutica e reabilitação pulmonar. Durante a consulta, o fisioterapeuta realizou a espirometria, a manovacuometria e o Teste de Caminhada de 6 Minutos (TC6). Qual a função desses instrumentos na avaliação fisioterapêutica do paciente com DPOC?

[A] A espirometria avalia a complacência do parênquima pulmonar; a manovacuometria serve para diagnosticar distúrbios restritivos puros; e o TC6 serve para calcular a força máxima de membros inferiores.

[B] A manovacuometria é o padrão-ouro para estadiar a gravidade da DPOC segundo os critérios GOLD, substituindo a espirometria quando o paciente tem mais de 65 anos.

[C] Os três instrumentos são utilizados para fins de triagem cirúrgica, não possuindo valor preditivo para a prescrição de cargas de treino aeróbico ou resistido na reabilitação pulmonar.

[D] A espirometria determina o grau de obstrução ao fluxo aéreo; a manovacuometria avalia a força muscular respiratória; e o TC6 mensura a capacidade funcional global e a tolerância ao esforço.

PREFEITURA MUNICIPAL DE COMODORO

EDITAL Nº. 03/2026 – PMC-MT

FOLHA DE ANOTAÇÃO DO CANDIDATO

Questão	Alternativa
01	
02	
03	
04	
05	
06	
07	
08	
09	
10	
11	
12	
13	
14	
15	
16	
17	
18	
19	
20	

Questão	Alternativa
21	
22	
23	
24	
25	
26	
27	
28	
29	
30	
31	
32	
33	
34	
35	
36	
37	
38	
39	
40	

Prefeitura Municipal de Comodoro.

Esta folha é destinada para uso EXCLUSIVO do candidato.