PREFEITURA MUNICIPAL DE COMODORO-MT

CONCURSO PÚBLICO DE PROVAS E DE PROVAS E TÍTULOS PARA PROVIMENTO EFETIVO DE CARGOS DO QUADRO PERMANENTE DA PREFEITURA MUNICIPAL DE COMODORO

EDITAL Nº. 03/2026 – PMC-MT

NÍVEL DE ESCOLARIDADE: SUPERIOR

Cargo: Médico de Atenção Básica

Caderno de Prova

Nome do Candidato

UFMT
Supervisão de Concursos

I N S T R U Ç Õ E S

LEIA COM ATENÇÃO

1. Este Caderno de Prova, com páginas numeradas de **01** a **17**, é constituído de uma **Prova Objetiva** com **40 (quarenta)** questões de múltipla escolha, cada uma com **4 (quatro)** alternativas, assim distribuídas:

01 a **10 – Língua Portuguesa**
11 a **20 – Informática**
21 a **40 – Conhecimentos Específicos**

2. Caso o Caderno de Prova esteja incompleto ou tenha qualquer defeito de impressão, solicite ao fiscal que o substitua.

3. Sobre a marcação das respostas no Cartão de Respostas

As respostas das questões deverão ser transcritas com caneta esferográfica de tinta azul ou preta não porosa, fabricada em material transparente, para o Cartão de Respostas, que será o único documento válido para correção. O Cartão de Respostas não será substituído por erro ou dano do candidato.

3.1. Para cada questão existe apenas uma alternativa que a responde acertadamente. Para a marcação da alternativa escolhida no **CARTÃO DE RESPOSTAS, pinte completamente** o círculo correspondente.

*Exemplo: Suponha que para determinada questão a alternativa **C** seja a escolhida.*

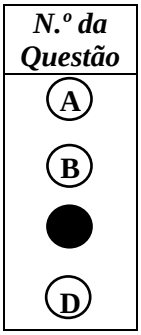

3.2. Marque apenas uma alternativa para cada questão.

3.3. Será invalidada a questão em que houver mais de uma marcação, marcação rasurada ou emendada, ou não houver marcação.

3.4. Não rasure nem amasse o **CARTÃO DE RESPOSTAS**.

4. Todos os espaços em branco, neste caderno, podem ser utilizados para rascunho.

5. Não haverá substituição do **CARTÃO DE RESPOSTAS** por erro do candidato.

6. A duração da prova é **4 (quatro) horas**, já incluído o tempo destinado ao preenchimento do **CARTÃO DE RESPOSTAS**.

7. Somente após decorridas **2 horas e 30 minutos** do início da prova, o candidato, depois de entregar seu Caderno de Prova e seu Cartão de Respostas, poderá retirar-se da sala de prova. O candidato que insistir em sair da sala de prova antes desse tempo deverá assinar **Termo de Ocorrência** declarando sua desistência do concurso.

8. Será permitida a saída de candidatos levando o Caderno de Prova somente **na última meia hora** de prova.

9. Na página 17 deste Caderno de Prova, encontra-se a **Folha de Anotação do Candidato**, a qual poderá ser utilizada para a transcrição das respostas das questões objetivas. Essa folha poderá ser levada pelo candidato para posterior conferência com o gabarito somente após decorridas **2 horas e 30 minutos** do início da prova.

10. Após o término da prova, o candidato deverá, obrigatoriamente, entregar ao fiscal o **CARTÃO DE RESPOSTAS** devidamente assinado (no espaço próprio) e preenchido.

LÍNGUA PORTUGUESA

QUESTÃO 01

Leia o texto a seguir.

O Estado de Mato Grosso cresce. A economia avança, a arrecadação aumenta, a produção bate recordes. Os benefícios desse desenvolvimento ainda não alcançam, na proporção necessária, quem mais precisa. Há municípios em que milhares de pessoas dependem do Bolsa Família para sobreviver. Essa é a grande contradição que Mato Grosso precisa enfrentar.

Em qual alternativa a reescrita desse texto apresenta problemas relativos à coesão, coerência e/ou correção gramatical?

[A] O Estado de Mato Grosso cresce: a economia avança, a arrecadação aumenta, a produção bate recordes, mas os benefícios desse desenvolvimento ainda não alcançam, na proporção necessária, quem mais precisa, visto que há municípios em que milhares de pessoas dependem do Bolsa Família para sobreviver. Essa é a grande contradição que Mato Grosso precisa enfrentar.

[B] O Estado de Mato Grosso cresce: a economia avança, a arrecadação aumenta, a produção bate recordes, logo os benefícios desse desenvolvimento ainda não alcança, na proporção necessária, quem mais precisa, pois que existe municípios em que milhares de pessoas dependem do Bolsa Família para sobreviver. Esta é a grande contradição que Mato Grosso precisa enfrentar.

[C] Mato Grosso precisa enfrentar uma grande contradição. O estado cresce: a economia avança, a arrecadação aumenta, a produção bate recordes, no entanto os benefícios desse desenvolvimento ainda não alcançam, na proporção necessária, quem mais precisa, pois que há municípios em que milhares de pessoas dependem do Bolsa Família para sobreviver.

[D] Mato Grosso precisa enfrentar uma grande contradição. O estado cresce: a economia avança, a arrecadação aumenta, a produção bate recordes, todavia os benefícios desse desenvolvimento ainda não alcançam, na proporção necessária, quem mais precisa, visto que existem municípios em que milhares de pessoas dependem do Bolsa Família

Instrução: Leia atentamente o texto a seguir e responda às questões de 02 a 06.

O outro

Ele queria muito ser eleito. Não: ele precisava muito ser eleito. Estava atrás de um emprego que lhe desse um bom salário, mordomias e verbas para gastar na contratação de assessores – além, claro, das múltiplas oportunidades que, como vereador, teria. O problema era arrumar votos. Não tinha amigos, não era conhecido, nem sequer recebera um apelido pitoresco que pudesse usar na propaganda. Mas o pior não era isso. O pior que combinava um visual péssimo – baixinho, gordinho, careca – com uma congênita inabilidade para falar em público. Em desespero, resolveu procurar um marqueteiro. Estava disposto a gastar uma boa grana nisso, desde que pudesse adquirir uma nova imagem, uma imagem capaz de garantir a eleição. O marqueteiro, famoso, exigiu honorários salgados, mas garantiu resultados. Que, de fato, não se fizeram esperar. Em poucas semanas o candidato era outro. Mais magro, mais alto (saltos especiais) com uma bela peruca, parecia agora um galã de novela. Além disso, transformara-se num fantástico orador, um orador capaz de galvanizar o público com uma única frase. Se foi eleito? Foi eleito com uma avalanche de votos. O que representou um duplo alívio: de um lado, conquistava o cargo tão sonhado. De outro, podia deixar de lado a peruca, os sapatos com saltos especiais e a dieta. E também podia falar normalmente, no tom meio fanhoso que o caracterizava. E aí começaram as surpresas desagradáveis. Quando foi tomar posse, ninguém o reconheceu. Mas como? Então era aquele tipo charmoso, magnético, da tevê e dos cartazes? Era ele sim, como o comprovou, mostrando a identidade. Não foi a única contrariedade. Logo descobriu que, como vereador, era péssimo: não sabia falar, não convencia ninguém, sequer era procurado por lobistas. Bom mesmo, concluiu com amargura, era o Outro, aquele que o marqueteiro tinha inventado. Aquele sim, podia fazer uma grande carreira, chegando quem sabe à Presidência. Mas onde estava o Outro? Só uma pessoa poderia ajudá-lo nessa busca, o marqueteiro. Só que o marqueteiro tinha sumido. Com o dinheiro ganho nas eleições resolvera passar dois anos em alguma praia do Caribe. Todas as noites o vereador sonha com o Outro. Vê-o na Câmara, discursando, empolgando multidões. Mas não sabe o que fazer para encontrá-lo. Sabe, sim, o que dirá se isso um dia acontecer. E o que dirá, numa voz fanhosa e emocionada, será: o senhor pode contar com meu voto - para sempre.

(SCLIAR, Moacyr. O imaginário cotidiano. São Paulo, Gaia, 2006.)

QUESTÃO 02

Tome o trecho *Logo descobriu que, como vereador, era péssimo: não sabia falar, não convencia ninguém, sequer era procurado por lobistas.* Sobre os sinais de pontuação usados nesse trecho, analise as afirmativas.

I. As duas primeiras vírgulas isolam uma expressão que indica circunstância.
II. O sinal de dois pontos indica a introdução de um esclarecimento ou exemplos.
III. As duas últimas vírgulas separam orações coordenadas, indicando uma enumeração.
IV. A segunda vírgula foi empregada erroneamente, pois não se deve usar vírgula entre sujeito e predicado, conforme as regras da norma culta.

Está correto o que se afirma em
[A] I, III e IV, apenas.
[B] I e II, apenas.
[C] II e IV, apenas.
[D] I, II e III, apenas.

QUESTÃO 03

Na frase *Só que o marqueteiro tinha sumido.*, a expressão <u>*Só que*</u>, devido ao seu significado, pode ser substituída por
[A] Porém.
[B] Logo.
[C] Portanto.
[D] Pois.

QUESTÃO 04

Na frase *E aí começaram as surpresas desagradáveis.*, a concordância verbal ocorre seguindo o princípio básico da concordância verbal: o verbo adapta-se aos quesitos número e pessoa do sujeito. Assinale o exemplo em que **NÃO** houve obediência a esse princípio básico.
[A] Enfim, foram analisados todos os recursos propostos pelos moradores para não eliminarem a praça do meio do bairro.
[B] Todo início de ano, os vereadores se motivam para, num dia qualquer, ao cair da noite, elevarem seu salário.
[C] Depois de muito tempo, o alvoroço dos participantes da feira diminuíram bastante, até o completo silêncio.
[D] Ficou claro que todos os funcionários aprovaram a decisão da diretoria sobre os horários de descanso.

QUESTÃO 05

Os pronomes oblíquos assumem diferentes posições em relação ao verbo e exercem importante função coesiva no texto, visto que minimizam a repetição de palavras e contribuem para situar os interlocutores e objetos no tempo, espaço e no próprio texto. Sobre o assunto, marque V para as afirmativas verdadeiras e F para as falsas.

( ) Em *E também podia falar normalmente, no tom meio fanhoso que o caracterizava.*, o pronome <u>*o*</u>, em posição proclítica, retoma o sentido da palavra *candidato.*
( ) Em *Só uma pessoa poderia ajudá-lo nessa busca, o marqueteiro.*, o pronome *o*, na forma <u>*lo*</u>, em posição enclítica, retoma o sentido da palavra *marqueteiro*.
( ) Em *Vê-o na Câmara, discursando, empolgando multidões.*, o pronome <u>*o*</u>, em posição enclítica, retoma o sentido da palavra *Outro.*
( ) Em *Mas não sabe o que fazer para encontrá-lo.*, o pronome <u>*o*</u>, na forma <u>*lo*,</u> em posição proclítica, retoma o sentido da palavra *marqueteiro*.

Assinale a sequência correta.
[A] V, V, F, F
[B] F, F, V, V
[C] V, F, V, F
[D] F, V, F, V

QUESTÃO 06

A respeito do texto, analise as afirmativas.

I. Sugere que todo candidato a cargo eletivo necessita do trabalho de um marqueteiro, sem o qual não consegue se eleger.
II. Mostra como, em época de eleição, um candidato usa estratégias pelas quais se torna conhecido e é eleito.
III. Relata medidas empreendidas por marqueteiros para eleger um candidato mesmo que ele não tenha as qualidades necessárias.
IV. Mostra como eleitores, ao escolher em quem vão votar, se deixam levar pela aparência do candidato.

Estão corretas as afirmativas

[A] I, II e IV, apenas.
[B] II, III e IV, apenas.
[C] I e III, apenas.
[D] II e III, apenas.

Instrução: Leia o texto a seguir e responda às questões de 07 a 09.

Carta Apostólica *Misericordia et mísera do Santo Padre Francisco*

Não ter trabalho nem receber um salário justo, não poder ter uma casa ou uma terra onde habitar, ser discriminado pela fé, raça, posição social... estas e muitas outras são condições que atentam contra a dignidade da pessoa; frente a elas, a ação misericordiosa dos cristãos responde, antes de mais nada, com a vigilância e a solidariedade. Hoje são tantas as situações em que podemos restituir dignidade às pessoas, consentindo-lhes uma vida humana. Basta pensar em tantos meninos e meninas que sofrem violências de vários tipos, que lhes roubam a alegria da vida. Os seus rostos tristes e desorientados permanecem impressos na minha mente; pedem a nossa ajuda para serem libertados da escravidão do mundo contemporâneo. Estas crianças são os jovens de amanhã; como estamos a prepará-las para viverem com dignidade e responsabilidade? Com que esperança podem elas enfrentar o seu presente e o seu futuro?

O caráter social da misericórdia exige que não permaneçamos inertes mas afugentemos a indiferença e a hipocrisia para que os planos e os projetos não fiquem letra morta. Que o Espírito Santo nos ajude a estar sempre prontos a prestar de forma efetiva e desinteressada a nossa contribuição, para que a justiça e uma vida digna não permaneçam meras palavras de circunstância, mas sejam o compromisso concreto de quem pretende testemunhar a presença do Reino de Deus.

(Disponível em: www.vatican.va/content/francesco. Acesso em: 14/05/2025.)

QUESTÃO 07

Qual a intencionalidade desse texto?

[A] Conclamar os cristãos a interferirem nas condições precárias em que vivem adultos e jovens, a contribuírem para que eles tenham uma vida digna.
[B] Rogar a Deus para que ajude os cristãos a não simplesmente ver a situação de desespero de pessoas sofridas, mas a agir de modo a eles terem um amanhã.
[C] Informar ao mundo quantas situações de intolerância social existem, quantos adultos e jovens sem esperança de um futuro melhor, uma vida digna.
[D] Incitar os cristãos a não deixarem que a justiça social exista apenas no papel, que a vigilância predomine, que a hipocrisia possa restituir dignidade aos sofredores.

QUESTÃO 08

Os pronomes relativos fazem a retomada do sentido de palavra mencionada no texto, contribuindo com a sequenciação das ideias. Assinale o trecho que apresenta pronome relativo.

[A] *O caráter social da misericórdia exige que não permaneçamos inertes mas afugentemos a indiferença e a hipocrisia.*
[B] *Que o Espírito Santo nos ajude a estar sempre prontos a prestar de forma efetiva e desinteressada a nossa contribuição.*
[C] *Mas afugentemos a indiferença e a hipocrisia para que os planos e os projetos não fiquem letra morta.*
[D] *Hoje são tantas as situações em que podemos restituir dignidade às pessoas, consentindo-lhes uma vida humana.*

QUESTÃO 09

As palavras *solidariedade, dignidade, responsabilidade* são substantivos formados com o sufixo dade, que indica ideia de qualidade ou estado. Sobre o uso de sufixos, assinale a afirmativa **INCORRETA**.

[A] Os substantivos racismo e consumismo são formados pelo sufixo ismo, que indica uma prática ou sistema de crenças ou movimentos.

[B] Os substantivos polimento e fingimento são formados pelo sufixo mento, que exprime ideia de possiblidade de realizar uma ação.

[C] Os substantivos aprendizagem e coragem são formados pelo sufixo agem, que exprimem ideia de ação ou resultado de uma ação.

[D] Os substantivos semelhança e segurança são formados pelo sufixo ança, que indica ideia de estado ou qualidade.

QUESTÃO 10

Maria Joana é uma joaninha estressada, personagem de Clara Gomes, criadora das tiras denominadas Bichinhos de Jardim.



(Disponível em: bichinhosdejardim.com. Acesso em: 29/05/25.)

A respeito da tira, marque V para as afirmativas verdadeiras e F para as falsas.

( ) A solicitação de Maria Joana a Iaiá foi atendida plenamente somente no último quadrinho da tira, o que lhe causou aborrecimento.

( ) Antes mesmo de obter resposta a sua pergunta, Maria Joana entendeu que Iaiá, por ser uma inteligência artificial do mal, a atenderia prontamente.

( ) A previsão do clima dada por Iaiá pode ser considerada uma reflexão a partir do seu conhecimento de mundo.

( ) Maria Joana não mostrou interesse pela fala final de Iaiá, bastava-lhe saber se ia chover ou não.

( ) A fala de Iaiá, no último quadro, compõe-se de um período subordinado: uma oração principal e uma oração subordinada que expressa ideia de condição.

( ) Iaiá, a inteligência artificial do mal, usa duas vezes a palavra *tá*, com o mesmo sentido e igual função gramatical.

Assinale a sequência correta.

[A] F, V, V, F, F, V

[B] V, V, F, F, V, F

[C] F, F, V, V, V, F

[D] V, F, F, V, F, V

INFORMÁTICA

QUESTÃO 11

Considere uma planilha do Microsoft Excel com as células A1, B1, A2, B2, A3 e B3 preenchidas com os valores 10, 4, 8, 22, 16 e 2, respectivamente. Quais valores seriam produzidos pelas fórmulas =MÉDIASE(A1:B3;">10") e =SOMASES(A1:B3;A1:B3;"<10") respectivamente?

[A] 16 e 24

[B] 16 e 14

[C] 19 e 24

[D] 19 e 14

QUESTÃO 12

Sobre o item Programas e Recursos do Painel de Controle do Windows 11, analise as afirmativas.

I. Permite ativar ou desativar recursos do Windows por meio de caixas de seleção do tipo marca/desmarca para cada um dos recursos disponíveis.
II. É a ferramenta indicada para desinstalar aplicativos do computador, não sendo recomendado excluir arquivos diretamente no Explorador de Arquivos.
III. Apresenta recurso que permite salvar uma cópia de segurança quando um programa é desinstalado para que possa ser restaurado futuramente, se necessário.
IV. No modo de exibição "Lista", é possível visualizar, além do nome, informações tais como data de instalação, tamanho e versão dos programas instalados.

Estão corretas as afirmativas

[A] I e II, apenas.
[B] III e IV, apenas.
[C] I, II e III, apenas.
[D] II, III e IV, apenas.

QUESTÃO 13

Considere o fragmento de tela a seguir, extraído do Explorador de Arquivos do Windows 11, com a pasta Documentos selecionada.

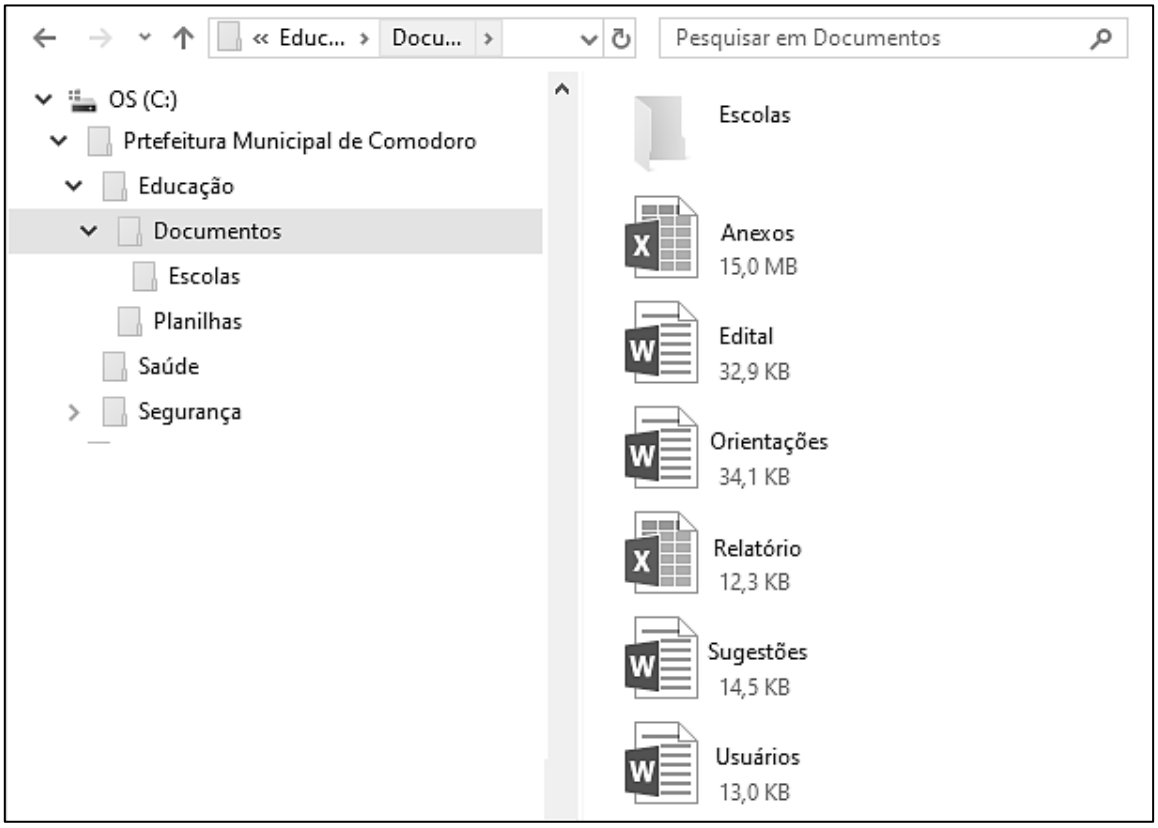

Sobre a figura, marque V para as afirmativas verdadeiras e F para as falsas.

( ) Os seis arquivos exibidos no lado direito da tela são conteúdo da pasta Escolas.
( ) A pasta Escolas não possui qualquer pasta (subpasta) em seu conteúdo.
( ) O arquivo Orientações possui tamanho superior ao do arquivo Anexos.
( ) Os arquivos Edital e Sugestões são documentos nativos do Microsoft Word.

Assinale a sequência correta.

[A] V, F, F, V
[B] V, F, V, F
[C] F, V, F, V
[D] F, V, V, F

QUESTÃO 14

Sobre boas práticas de segurança da informação no uso de computadores, analise as afirmativas.

I. É indicado manter o sistema operacional e demais softwares sempre atualizados para corrigir vulnerabilidades que possam ser exploradas por invasores.
II. Recomenda-se utilizar uma conta com privilégios de Administrador no uso rotineiro do computador para garantir que antivírus operem sem bloqueios.
III. É recomendado limpar periodicamente histórico, cookies e cache do navegador de internet para proteger a privacidade das atividades realizadas no computador.
IV. Recomenda-se instalar múltiplos programas antivírus simultâneos no computador para aumentar a proteção de forma proporcional, sem causar conflitos de sistema.

Estão corretas as afirmativas

[A] II e IV, apenas.
[B] I e III, apenas.
[C] I, II e III, apenas.
[D] I, III e IV, apenas.

QUESTÃO 15

Assinale a alternativa que apresenta a definição dos malwares Ransomware e Stalkerware, respectivamente.

[A] Ransomware é um código malicioso que torna inacessíveis os dados armazenados em um equipamento e exige pagamento de resgate; Stalkerware é um programa de espionagem usado para monitorar e rastrear a atividade de uma vítima.
[B] Ransomware é um programa projetado para exibir anúncios excessivos e pop-ups na tela do usuário; Stalkerware é um malware que se propaga exclusivamente por meio de mensagens falsas no WhatsApp.
[C] Ransomware é um código que monitora o tráfego de rede para roubar senhas bancárias; Stalkerware é um programa que transforma o computador em um "zumbi" para realizar ataques de negação de serviço (DDoS).
[D] Ransomware é um software legítimo de backup que apresenta falhas de segurança críticas; Stalkerware é um mecanismo de autenticação em duas etapas, criado para interceptar códigos SMS.

QUESTÃO 16

Sobre o recurso de preenchimento automático do navegador Google Chrome, marque V para as afirmativas verdadeiras e F para as falsas.

( ) Permite que o Chrome guarde informações, como nomes, endereços e dados de pagamento para acelerar o preenchimento de formulários na web.
( ) Para gerenciar o recurso, deve-se selecionar a opção Configurações no menu principal e acessar a seção Preenchimento automático e senhas.
( ) Não permite que dados inseridos em campos de senhas sejam protegidos por biometria ou PIN do Windows.
( ) Por segurança, não é permitido adicionar mais de uma forma de pagamento, como, por exemplo, múltiplos cartões de crédito.

Assinale a sequência correta.

[A] V, V, F, F
[B] F, F, V, V
[C] V, F, V, F
[D] F, V, F, V

Instrução: As questões 17 e 18 são baseadas no documento seguinte do Microsoft Word 2016 com as linhas numeradas de 1 a 10 e com um bloco de texto selecionado (linhas 2 a 10).

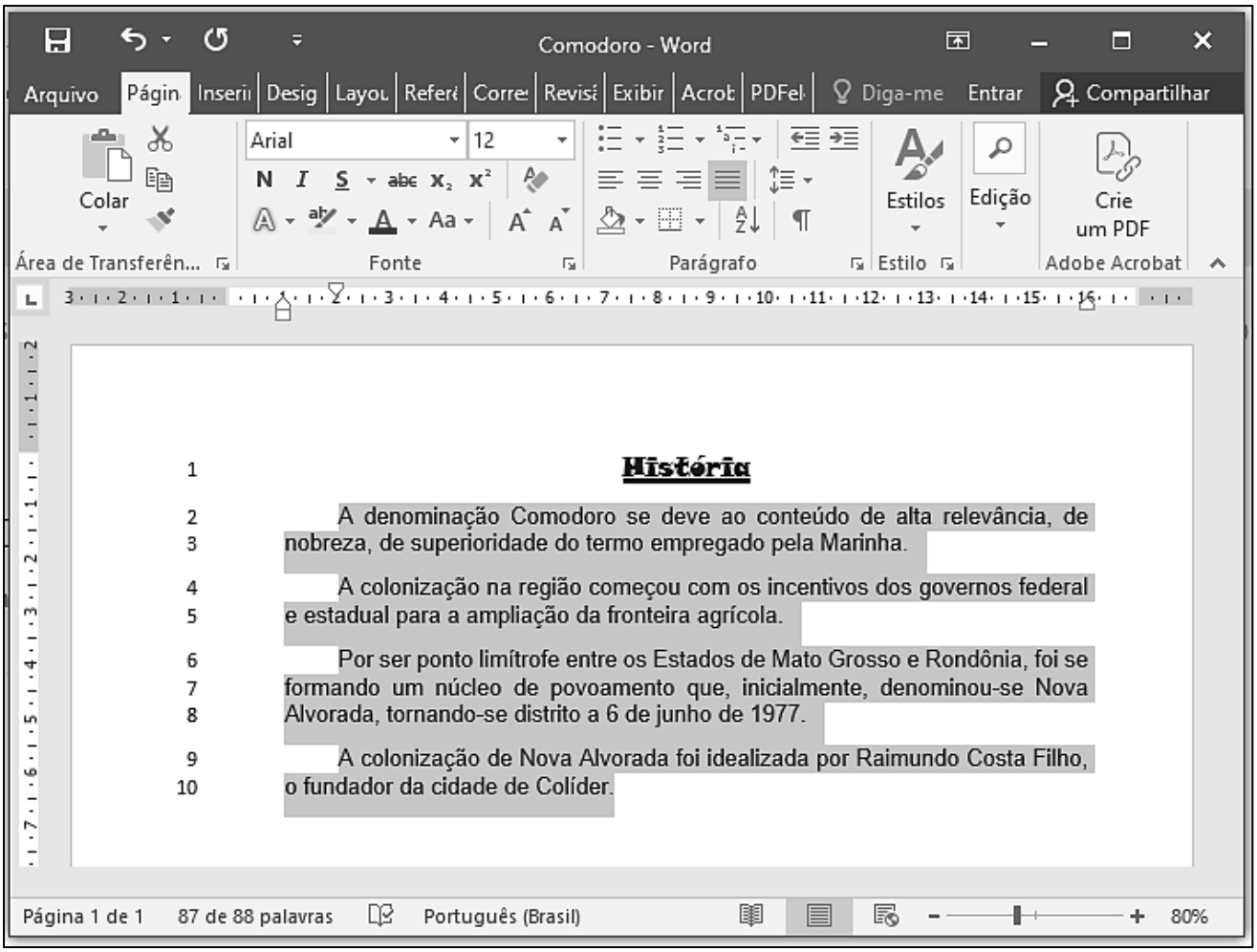

QUESTÃO 17

Sobre o documento, analise as afirmativas.

I. A formatação de fonte aplicada no título do texto (linha 1) é Arial, tamanho 12.
II. O documento foi salvo com o nome História, por ser a primeira palavra do texto.
III. O nível de zoom aplicado para visualização do documento é de 80%.
IV. O alinhamento aplicado no texto selecionado (linhas 2 a 10) é justificado.

Estão corretas as afirmativas

[A] I e II, apenas.
[B] I, III e IV, apenas.
[C] II, III e IV, apenas.
[D] III e IV, apenas.

QUESTÃO 18

Sobre as configurações de margens do documento e de parágrafos do texto selecionado (linhas 2 a 10), assinale a afirmativa correta.

[A] A margem esquerda do documento está configurada para 2 cm.
[B] O recuo de primeira linha do texto selecionado está ajustado para 1 cm.
[C] A margem superior do documento está ajustada para 3 cm.
[D] O recuo esquerdo do documento está posicionado em 2 cm.

QUESTÃO 19

Sobre conceitos de hardware, analise as afirmativas.

I. A Unidade de Controle (UC) é o componente da CPU responsável por executar as operações matemáticas e os testes lógicos do sistema.
II. A memória cache é integrada à CPU e serve para reduzir o tempo de espera do processador no acesso aos dados da memória RAM.
III. A memória ROM perde todas as suas informações gravadas assim que o computador é desligado da energia elétrica.
IV. Os drives de estado sólido (SSDs) utilizam memória Flash para armazenar dados de forma não volátil, sem depender de peças mecânicas móveis.

Estão corretas as afirmativas

[A] I e III, apenas.
[B] II, III e IV, apenas.
[C] II e IV, apenas.
[D] I e II, apenas.

QUESTÃO 20

A figura seguinte apresenta uma planilha do Microsoft Excel com a célula C15 selecionada.

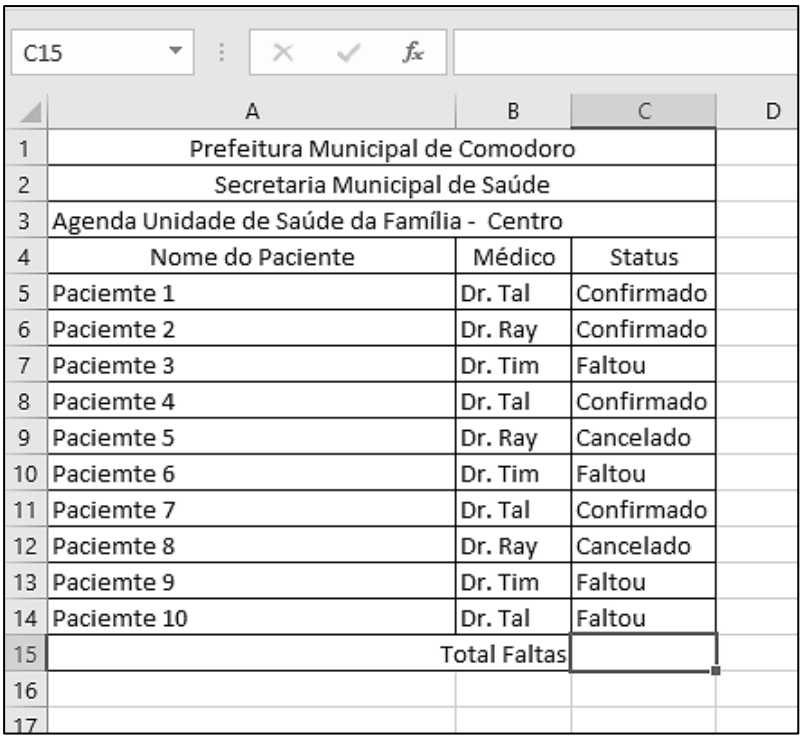

	A	B	C	D
1	Prefeitura Municipal de Comodoro			
2	Secretaria Municipal de Saúde			
3	Agenda Unidade de Saúde da Família - Centro			
4	Nome do Paciente	Médico	Status	
5	Paciemte 1	Dr. Tal	Confirmado	
6	Paciemte 2	Dr. Ray	Confirmado	
7	Paciemte 3	Dr. Tim	Faltou	
8	Paciemte 4	Dr. Tal	Confirmado	
9	Paciemte 5	Dr. Ray	Cancelado	
10	Paciemte 6	Dr. Tim	Faltou	
11	Paciemte 7	Dr. Tal	Confirmado	
12	Paciemte 8	Dr. Ray	Cancelado	
13	Paciemte 9	Dr. Tim	Faltou	
14	Paciemte 10	Dr. Tal	Faltou	
15		Total Faltas		
16				
17				

De acordo com a planilha, qual fórmula poderia ser incluída na célula C15 para retornar o número de pacientes que faltaram?

[A] =CONT.COND(C5:C14;"Faltou")
[B] =CONT.VAR(C5:C14;"Faltou")
[C] =CONT.NUM(C5:C14;"Faltou")
[D] =CONT.SE(C5:C14;"Faltou")

CONHECIMENTOS ESPECÍFICOS

QUESTÃO 21

Em um território adscrito a uma equipe da Estratégia Saúde da Família, a análise dos indicadores locais revelou aumento das internações por condições sensíveis à Atenção Primária, especialmente por complicações da hipertensão arterial e do diabetes mellitus. A equipe constatou que uma parcela significativa dos usuários internados estava cadastrada na unidade, mas não comparecia às consultas agendadas. Verificou-se, ainda, concentração desses casos em uma microárea caracterizada por baixa escolaridade, insegurança alimentar e dificuldade de transporte. Durante a reunião de planejamento, foram propostas diferentes estratégias para reorganizar o cuidado. Considerando os fundamentos da Estratégia Saúde da Família, a medida mais adequada para enfrentar o problema identificado é:

[A] Realizar análise nominal e territorial dos casos, estratificar os riscos clínicos e sociais, programar a busca ativa e o acompanhamento diferenciado, e articular ações interprofissionais e intersetoriais conforme as necessidades identificadas.

[B] Convocar todos os usuários com hipertensão e diabetes para consultas mensais, utilizando o mesmo plano de acompanhamento, independentemente do controle clínico e das condições sociais.

[C] Ampliar o número de consultas médicas por demanda espontânea e orientar os usuários a procurar a unidade sempre que apresentarem sintomas de descompensação.

[D] Encaminhar os usuários com doenças crônicas descompensadas ao ambulatório especializado, transferindo a responsabilidade pelo acompanhamento até a estabilização clínica.

QUESTÃO 22

Um homem de 58 anos, residente em um município de pequeno porte, foi diagnosticado com doença renal crônica durante acompanhamento na Unidade Básica de Saúde. Após avaliação clínica e com o auxílio da Central de Regulação, o médico da Estratégia Saúde da Família encaminhou o paciente ao serviço de nefrologia de um município vizinho. Após o atendimento especializado, o paciente retornou à Unidade Básica de Saúde com recomendações para ajuste do tratamento e seguimento compartilhado entre os níveis de atenção. A situação descrita evidencia, principalmente, a aplicação de qual princípio organizativo do Sistema Único de Saúde (SUS)?

[A] Universalidade, por assegurar o acesso gratuito a todos os serviços de saúde, independentemente da condição clínica do usuário.

[B] Equidade, por oferecer atendimento prioritário aos usuários com doenças crônicas em detrimento dos usuários com menor urgência de atenção.

[C] Regionalização e hierarquização em níveis de complexidade articulados, para garantir a continuidade do cuidado.

[D] Descentralização, por atribuir exclusivamente ao município de residência a responsabilidade pelo acompanhamento especializado do paciente.

QUESTÃO 23

Após ampliar a cobertura da Estratégia Saúde da Família e intensificar as ações de rastreamento da hipertensão arterial, um município observou um aumento expressivo no número de casos registrados da doença ao longo de 2025. Apesar disso, o número de novos casos diagnosticados permaneceu praticamente estável em relação ao ano anterior. Considerando esse cenário, qual indicador de saúde é o mais adequado para descrever a situação epidemiológica da hipertensão arterial na população no período avaliado?

[A] A incidência da hipertensão que aumentou em razão da ampliação do rastreamento realizado em 2025.

[B] A prevalência da hipertensão, que aumentou em decorrência da maior identificação de pessoas já acometidas pela doença naquele ano.

[C] A letalidade da hipertensão que reduziu devido ao maior número de pacientes cadastrados e em tratamento.

[D] O coeficiente de mortalidade específica por hipertensão que aumentou na mesma proporção do número de casos registrados.

QUESTÃO 24

Uma equipe de atenção primária, interessada em compreender a situação clínica dos pacientes com hipertensão arterial da população adscrita, avaliou o índice de massa corporal (IMC) de uma amostra aleatória de 10 pacientes, selecionados do cadastro geral de usuários hipertensos. Obteve os seguintes resultados (kg/m²): 22, 23, 23, 24, 24, 25, 25, 26, 27, 40. Para descrever a tendência central desse conjunto de dados, de forma que a medida calculada sofra a menor influência do valor extremo de 40 kg/m^2, qual medida de tendência central é a mais apropriada?

[A] Média
[B] Moda
[C] Amplitude
[D] Mediana

QUESTÃO 25

Uma médica da Estratégia Saúde da Família foi procurada por um paciente que solicitou um atestado de três dias de afastamento para justificar ausência ao trabalho. Durante a consulta, o exame clínico revelou apenas sintomas leves de rinite alérgica, sem comprometimento funcional ou incapacidade para o exercício de suas atividades habituais. O paciente admitiu que pretendia utilizar o período para resolver questões pessoais e insistiu na emissão do documento. Considerando as normas éticas aplicáveis ao exercício profissional, a conduta mais adequada da médica é:

[A] Emitir o atestado solicitado, uma vez que a decisão sobre a necessidade do afastamento cabe exclusivamente ao paciente.
[B] Emitir um atestado de comparecimento, mas registrar afastamento por um dia para evitar conflito com o paciente.
[C] Recusar a emissão de atestado de afastamento por inexistência de incapacidade laboral, podendo fornecer apenas declaração ou atestado de comparecimento, se cabível.
[D] Emitir o atestado solicitado, desde que registre no prontuário que o afastamento ocorreu por solicitação exclusiva do paciente.

QUESTÃO 26

O gestor da Atenção Básica à Saúde de um município está avaliando a incorporação de um novo teste rápido para o diagnóstico de uma doença infecciosa. Em um estudo de validação, o teste foi comparado ao método padrão-ouro para o diagnóstico dessa doença. O comitê de especialistas que o assessorou discutiu diferentes aspectos da validade do teste antes de decidir pela sua implantação. Sobre a validade do teste diagnóstico, marque V para as afirmativas verdadeiras e F para as falsas.

( ) Um teste com alta sensibilidade reduz a probabilidade de resultados falso-negativos, sendo especialmente útil quando a finalidade é excluir uma doença.
( ) Um teste com alta especificidade reduz a probabilidade de resultados falso-positivos, sendo preferível para confirmar um diagnóstico.
( ) Os valores preditivos positivo e negativo dependem exclusivamente das características intrínsecas do teste e permanecem inalterados quando a prevalência da doença muda.
( ) A utilização de um ponto de corte mais rigoroso tende a aumentar a especificidade do teste, porém, geralmente, reduz sua sensibilidade.

Assinale a sequência correta.

[A] V, V, F, V
[B] V, F, F, V
[C] F, V, V, F
[D] F, F, V, F

QUESTÃO 27

Um homem de 68 anos, portador de diabetes mellitus e doença renal crônica, foi internado por pneumonia adquirida na comunidade. Evoluiu para sepse e choque séptico, e faleceu após oito dias de internação. O médico responsável pela assistência foi incumbido de preencher a Declaração de Óbito (DO). Considerando as normas de preenchimento da DO e o conceito de causa básica de morte, qual é a sequência mais adequada para o preenchimento da Parte I da declaração?

[A] Parada cardiorrespiratória; Choque séptico; Sepse; Pneumonia adquirida na comunidade.

[B] Choque séptico; Sepse; Pneumonia adquirida na comunidade.

[C] Insuficiência respiratória aguda; Pneumonia adquirida na comunidade; Diabetes mellitus; Doença renal crônica.

[D] Parada cardiorrespiratória; Insuficiência respiratória aguda; Pneumonia adquirida na comunidade.

QUESTÃO 28

O indicador de mortalidade materna é amplamente utilizado para monitorar as condições de saúde das mulheres, a qualidade da atenção obstétrica e o desempenho dos sistemas de saúde. Sobre esse indicador, assinale a afirmativa correta.

[A] A Razão de Mortalidade Materna corresponde ao número de óbitos maternos por 1.000 nascidos vivos, ocorridos durante a gestação, independentemente da causa da morte.

[B] Considera-se óbito materno apenas aquele decorrente de complicações obstétricas diretas, excluindo-se as mortes agravadas por doenças preexistentes ou desenvolvidas durante a gestação.

[C] A Razão de Mortalidade Materna é calculada pela divisão do número de óbitos maternos pelo número de nascidos vivos no mesmo período e local, multiplicada por 100.000, sendo um importante indicador da qualidade da atenção à saúde da mulher.

[D] O indicador de mortalidade materna inclui os óbitos de mulheres ocorridos até um ano após o término da gestação, independentemente da relação da causa da morte com a gravidez.

QUESTÃO 29

Durante o processo de territorialização, uma equipe da Estratégia Saúde da Família elabora o genograma de uma família acompanhada há cinco anos. O instrumento evidencia: histórico de diabetes mellitus tipo 2 em três gerações, falecimento por infarto agudo do miocárdio de dois familiares antes dos 55 anos, relação conflituosa entre o usuário índice e seu pai, vínculo muito próximo entre a avó materna e uma adolescente da família, além da presença de um cuidador informal que não possui laços consanguíneos, mas reside no domicílio e participa ativamente das decisões relacionadas ao cuidado. Com base nessas informações e à luz dos princípios da Atenção Primária à Saúde e da utilização do genograma na Estratégia Saúde da Família, assinale a afirmativa correta.

[A] O genograma tem como finalidade principal identificar a herança genética das doenças, sendo inadequado para representar relações emocionais, vínculos de cuidado ou indivíduos sem parentesco biológico.

[B] O cuidador informal não deve ser representado no genograma, pois este instrumento contempla apenas indivíduos unidos por consanguinidade ou por vínculo conjugal legalmente reconhecido.

[C] A identificação de padrões familiares de doença cardiovascular no genograma determina, por si só, a estratificação de risco familiar e a definição das intervenções prioritárias da equipe de Saúde da Família, dispensando outras avaliações clínicas e sociais.

[D] O genograma permite integrar informações sobre estrutura familiar, padrões de adoecimento, relações interpessoais e vínculos significativos, subsidiando a abordagem familiar e o planejamento do cuidado longitudinal, ainda que não substitua outros instrumentos, como o ecomapa.

QUESTÃO 30

Uma mulher de 24 anos, previamente hígida, residente em município hiperendêmico para hanseníase, procura a Unidade Básica de Saúde por apresentar uma única mancha hipocrômica no antebraço esquerdo, percebida há cerca de quatro meses. Refere discreta diminuição da sensibilidade ao calor na região, mas nega dor, parestesias ou perda de força. Ao exame dermatológico, observa-se mácula hipocrômica de limites pouco definidos, medindo aproximadamente 3 cm de diâmetro, sem infiltração. O exame neurológico demonstra redução discreta da sensibilidade térmica e dolorosa na lesão, com sensibilidade tátil preservada. Espessamento foi observado apenas no nervo fibular profundo à direita. A baciloscopia de raspado intradérmico é negativa. Com base nesse quadro clínico e nas recomendações do Ministério da Saúde, a conduta mais adequada é:

[A] Solicitar biópsia de pele para confirmação histopatológica e, se compatível, iniciar poliquimioterapia com duas drogas por 12 meses.

[B] Classificar o caso como distrofia cutânea de causa desconhecida e iniciar tratamento de prova com corticoide tópico.

[C] Considerar hanseníase multibacilar devido ao espessamento neural e iniciar poliquimioterapia de três drogas por um ano.

[D] Diagnosticar hanseníase paucibacilar e iniciar imediatamente a poliquimioterapia com rifampicina, dapsona e clofazimina.

QUESTÃO 31

Um morador de rua, ex-presidiário, 68 anos, procura a Unidade Básica de Saúde com história de tosse há cinco semanas, febre vespertina, sudorese noturna e perda de 8 kg nos últimos três meses. Refere estar desempregado e fumar cerca de um maço de cigarros por dia desde os 18 anos. Informa consumo diário de bebidas alcoólicas. Ao exame físico, apresenta IMC de 18,1 kg/m², temperatura de 37,9°C e crepitações no ápice pulmonar direito. O médico que o atendeu suspeitou de tuberculose pulmonar e interrogou o paciente sobre os principais fatores de risco para o desenvolvimento dessa infecção. Que condição individual está mais fortemente associada ao aumento do risco de adoecimento por tuberculose no Brasil?

[A] Ter mais de 65 anos.

[B] Ser portador de HIV.

[C] Viver em situação de rua.

[D] Ser privado de liberdade.

QUESTÃO 32

Homem de 28 anos, solteiro, motorista de aplicativo, procura atendimento médico por lesão genital indolor há 10 dias. Relata relação sexual desprotegida há cerca de um mês. Ao exame físico, observa-se úlcera única, de bordas elevadas, endurecida, indolor e de fundo limpo, localizada na glande. Não apresenta febre e nem outras lesões cutâneas. Com base nessas informações e no diagnóstico diferencial das lesões ulceradas genitais, qual é a hipótese diagnóstica mais provável?

[A] Herpes genital

[B] Sífilis primária

[C] Goma sifilítica

[D] Linfogranuloma

QUESTÃO 33

Um homem de 52 anos procura atendimento médico com queixa de disfagia progressiva há 6 meses, inicialmente para sólidos e, mais recentemente, também para líquidos. Referiu pirose crônica há vários anos, com piora noturna, e discreta melhora com uso irregular de inibidores de bomba de prótons. Negou perda ponderal significativa. Reclamou que, às vezes, tem tosse noturna e acorda com rouquidão. Não há alterações no exame físico. Foi solicitada endoscopia digestiva alta, que evidenciou estreitamento distal do esôfago, com mucosa irregular e áreas de inflamação crônica. Considerando a fisiopatologia da disfagia nesse contexto, qual mecanismo é responsável pela disfagia desse paciente?

[A] Hipomotilidade esofágica primária por degeneração do plexo mioentérico autônomo.

[B] Formação de anel esofágico distal, associada à hérnia hiatal por deslizamento.

[C] Espasmo esofágico difuso, desencadeado por hipersensibilidade do esôfago distal.

[D] Estenose péptica secundária à inflamação crônica por refluxo ácido ao esôfago.

QUESTÃO 34

Uma mulher de 58 anos procura a Unidade de Pronto Atendimento com história de febre alta de início súbito há dois dias, acompanhada de intensa dor articular, cefaleia e mialgia. Relata que as dores acometem principalmente os punhos, as metacarpofalângicas, as interfalângicas proximais, os tornozelos e os pés, bilateralmente, impedindo-a de caminhar sem auxílio. Refere que o marido apresentou quadro semelhante na semana anterior. Reside em município com transmissão simultânea dos vírus Dengue, Chikungunya e Zika. Ao exame físico, encontra-se lúcida, com temperatura axilar de 38,9°C, frequência cardíaca de 92 bpm e pressão arterial de 126 × 78 mmHg. Observa-se edema discreto em punhos e tornozelos, com dor importante à mobilização das articulações acometidas. Não apresenta sangramentos, dor abdominal, vômitos persistentes ou sinais de choque. Hemograma: hemoglobina 13,6 g/dL; hematócrito 40%; leucócitos 4.800/mm³; plaquetas 198.000/mm³. Considerando o quadro clínico, quais características tornam o diagnóstico de febre chikungunya mais provável do que o de dengue ou de zika?

[A] Acometimento bilateral das pequenas e grandes articulações, associado a edema articular.
[B] Presença de febre com leucopenia, porém sem trombocitopenia significativa nem anemia.
[C] Ocorrência de edema periarticular durante a fase febril e residir em município endêmico de arboviroses.
[D] Antecedente epidemiológico de circulação simultânea de arbovírus na região e não apresentar sinais de extravasamento plasmático.

QUESTÃO 35

Um homem de 58 anos procura a Unidade Básica de Saúde para acompanhamento da hipertensão arterial sistêmica, diagnosticada há três anos. Refere boa adesão ao tratamento medicamentoso e às medidas não farmacológicas. Faz uso de losartana 100 mg/dia. Nega tabagismo, etilismo ou uso de anti-inflamatórios. Ao exame físico, apresenta pressão arterial de 152 × 94 mmHg, confirmada por três medidas durante a consulta, frequência cardíaca de 72 bpm e IMC de 30 kg/m². Ausculta cardíaca e pulmonar sem alterações. Exames laboratoriais mostram creatinina de 0,9 mg/dL, taxa de filtração glomerular estimada de 90 mL/min/1,73 m², potássio de 4,2 mEq/L, sódio de 139 mEq/L e relação albumina/creatinina urinária de 18 mg/g. O eletrocardiograma evidencia ritmo sinusal, sem sinais de hipertrofia ventricular esquerda. Considerando as recomendações atuais para o tratamento farmacológico da hipertensão arterial sistêmica, qual é a conduta mais apropriada para otimizar o controle pressórico desse paciente?

[A] Substituir a losartana por enalapril, pois os inibidores da enzima conversora da angiotensina têm melhor ação anti-hipertensiva.
[B] Acrescentar espironolactona ao esquema de losartana, por ser a escolha quando não há bom controle da pressão arterial.
[C] Acrescentar anlodipino ao esquema terapêutico, na dose de 2,5 a 5 mg ao dia, mantendo a dose de losartana.
[D] Associar losartana a enalapril para potencializar o bloqueio do sistema renina-angiotensina e reduzir o risco cardiovascular.

QUESTÃO 36

Uma mulher de 61 anos procura atendimento para acompanhamento do diabetes mellitus tipo 2, diagnosticado há 8 anos. Refere adesão ao tratamento com metformina 2.000 mg/dia e mudanças no estilo de vida. Apresenta antecedente de infarto agudo do miocárdio há 2 anos, hipertensão arterial sistêmica e obesidade (IMC = 33 kg/m²). Nega episódios de hipoglicemia. Ao exame físico, pressão arterial de 128 × 76 mmHg, frequência cardíaca de 68 bpm e ausência de edema. Os exames laboratoriais mostram: hemoglobina glicada (HbA1c) de 8,3%, creatinina de 0,9 mg/dL, taxa de filtração glomerular estimada de 82 mL/min/1,73 m², relação albumina/creatinina urinária de 18 mg/g e colesterol LDL de 58 mg/dL. Considerando as recomendações atuais para o tratamento do diabetes mellitus tipo 2, qual é a melhor conduta para intensificar o tratamento dessa paciente?

[A] Acrescentar glibenclamida, por apresentar elevada eficácia na redução da hemoglobina glicada e menor custo.
[B] Acrescentar um agonista do receptor de GLP-1 ou um inibidor do SGLT2 com benefício cardiovascular comprovado, independentemente da hemoglobina glicada.
[C] Substituir a metformina por pioglitazona, devido ao histórico de doença aterosclerótica estabelecida.
[D] Iniciar insulinoterapia basal imediatamente, pois pacientes com HbA1c acima de 8,0% devem receber insulina independentemente do quadro clínico.

QUESTÃO 37

Um homem de 49 anos procura atendimento na Atenção Básica para avaliação de risco cardiovascular. Refere sedentarismo e ganho de peso de aproximadamente 8 kg nos últimos 3 anos. Nega tabagismo e etilismo. Ao exame físico, apresenta circunferência abdominal de 108 cm, índice de massa corporal de 31 kg/m², pressão arterial de 136 × 88 mmHg (confirmada em duas aferições) e frequência cardíaca de 76 bpm. Os exames laboratoriais evidenciam: glicemia de jejum de 108 mg/dL, triglicerídeos de 196 mg/dL, HDL-colesterol de 37 mg/dL, LDL-colesterol de 118 mg/dL e creatinina de 0,9 mg/dL. Considerando os critérios diagnósticos harmonizados para síndrome metabólica, marque a afirmativa correta.

[A] O paciente não preenche os critérios para síndrome metabólica, pois a glicemia de jejum é inferior a 126 mg/dL.

[B] O paciente apresenta síndrome metabólica por preencher critérios relacionados à obesidade abdominal, triglicerídeos elevados, HDL-colesterol reduzido, pressão arterial elevada e glicemia de jejum aumentada.

[C] O diagnóstico de síndrome metabólica para o paciente exige obrigatoriamente a presença de diabetes mellitus ou de resistência à insulina comprovada por exames específicos.

[D] O paciente apresenta apenas obesidade e dislipidemia, sendo necessária a confirmação do diagnóstico de síndrome metabólica por meio de teste oral de tolerância à glicose.

QUESTÃO 38

Um homem de 67 anos procura atendimento ambulatorial por dispneia progressiva aos esforços e tosse produtiva crônica há cerca de 8 anos. Refere tabagismo de 48 maços-ano, tendo cessado o hábito há 5 anos. Nega história de asma, rinite alérgica ou variabilidade significativa dos sintomas. Ao exame físico, apresenta IMC de 22 kg/m², frequência respiratória de 20 irpm, saturação periférica de oxigênio de 95% em ar ambiente e murmúrio vesicular globalmente diminuído, sem sibilos difusos. Foi realizada espirometria antes e após broncodilatador (BD), com os seguintes resultados:

Parâmetro	Pré-BD	Pós-BD	Previsto
*VEF1	1,48 L	1,58 L	3,10 L
*CVF	2,82 L	2,88 L	3,80 L
VEF1/CVF	0,52 L	0,55 L	0,79 L

*VEF1: Volume Expiatório Forçado no primeiro segundo
*CVF: Capacidade Vital Forçada

Considerando o quadro clínico e os achados espirométricos, qual é a interpretação mais adequada?

[A] O exame confirma obstrução persistente do fluxo aéreo, compatível com DPOC, com síndrome obstrutiva grave.

[B] O resultado da espirometria demonstra distúrbio ventilatório restritivo, pois há redução da capacidade vital forçada.

[C] O diagnóstico de DPOC é improvável neste paciente, pois houve aumento do (VEF1) após broncodilatador.

[D] O exame é compatível com asma, pois o aumento absoluto do (VEF1) após broncodilatador foi superior a 100 mL.

QUESTÃO 39

Um homem de 59 anos procura a Unidade Básica de Saúde por dor retroesternal em aperto iniciada há 40 minutos durante caminhada habitual, irradiada para o membro superior esquerdo e associada à sudorese fria. É hipertenso, diabético e ex-tabagista (40 maços-ano). Relata episódios semelhantes nos últimos três meses, sempre desencadeados por esforço e aliviados com repouso em cerca de cinco minutos. Ao exame físico, apresenta pressão arterial de 148 × 86 mmHg, frequência cardíaca de 82 bpm e saturação de oxigênio de 97% em ar ambiente. O eletrocardiograma não evidencia supradesnivelamento do segmento ST, e a troponina de alta sensibilidade encontra-se dentro da faixa de referência na admissão. Considerando a fisiopatologia da doença arterial coronariana isquêmica, qual mecanismo explica a transição mais provável entre os episódios prévios de angina estável e o quadro atual?

[A] Vasoespasmo coronariano difuso, levando à redução transitória do fluxo coronariano em artérias estruturalmente normais.

[B] Hipertrofia ventricular esquerda, aumentando a demanda miocárdica de oxigênio sem alterações na circulação coronariana.

[C] Desenvolvimento gradual da circulação colateral, reduzindo a perfusão miocárdica durante o esforço.

[D] Ruptura ou erosão de placa aterosclerótica com formação de trombo não oclusivo, reduzindo abruptamente a oferta de oxigênio ao miocárdio.

QUESTÃO 40

Uma mulher de 66 anos procura atendimento por fadiga progressiva há quatro meses. É portadora de artrite reumatoide há 12 anos, com atividade inflamatória persistente apesar do tratamento com metotrexato. Nega sangramento digestivo, alterações menstruais ou perda ponderal. Ao exame físico, apresenta palidez cutaneomucosa discreta, sem linfonodomegalias ou hepatoesplenomegalia. Os exames laboratoriais mostraram:

- Hemoglobina: 9,8 g/dL
- VCM: 84 fL
- HCM: 28 pg
- Reticulócitos: 0,6%
- Leucócitos e plaquetas: normais
- Ferro sérico: 32 µg/dL (baixo)
- Capacidade total de ligação do ferro: 210 µg/dL (baixa)
- Saturação de transferrina: 15%
- Ferritina: 285 ng/mL (elevada)
- Proteína C-reativa: 42 mg/L (elevada)
- Vitamina B12 e ácido fólico: normais
- Creatinina: 0,8 mg/dL

Considerando o quadro clínico e os exames laboratoriais, qual é o diagnóstico etiológico mais provável para a anemia dessa paciente?

[A] Relacionada à doença crônica.

[B] Deficiência absoluta de ferro.

[C] Deficiência de ácido fólico.

[D] Hemólise intravascular.

EM BRANCO

PREFEITURA MUNICIPAL DE COMODORO

EDITAL Nº. 03/2026 – PMC-MT

FOLHA DE ANOTAÇÃO DO CANDIDATO

Questão	Alternativa
01	
02	
03	
04	
05	
06	
07	
08	
09	
10	
11	
12	
13	
14	
15	
16	
17	
18	
19	
20	

Questão	Alternativa
21	
22	
23	
24	
25	
26	
27	
28	
29	
30	
31	
32	
33	
34	
35	
36	
37	
38	
39	
40	

Prefeitura Municipal de Comodoro.

Esta folha é destinada para uso EXCLUSIVO do candidato.