# CÂMARA MUNICIPAL DE COMODORO-MT

**CONCURSO PÚBLICO DE PROVAS E DE PROVAS E TÍTULOS PARA PROVIMENTO EFETIVO DE CARGOS DO QUADRO PERMANENTE DA CÂMARA MUNICIPAL DE COMODORO**

EDITAL Nº. 03/2026 – PMC-MT

NÍVEL DE ESCOLARIDADE: SUPERIOR

Cargo: Controlador Interno

**Caderno de Prova**

Nome do Candidato

UFMT
Supervisão de Concursos

# I N S T R U Ç Õ E S

***LEIA COM ATENÇÃO***

**1.** Este Caderno de Prova, com páginas numeradas de **01** a **15**, é constituído de uma **Prova Objetiva** com **40 (quarenta)** questões de múltipla escolha, cada uma com **4 (quatro)** alternativas, assim distribuídas:

**01** a **10 – Língua Portuguesa**
**11** a **20 – Informática**
**21** a **40 – Conhecimentos Específicos**

**2.** Caso o Caderno de Prova esteja incompleto ou tenha qualquer defeito de impressão, solicite ao fiscal que o substitua.

**3. Sobre a marcação das respostas no Cartão de Respostas**

***As respostas das questões deverão ser transcritas com caneta esferográfica de tinta azul ou preta não porosa, fabricada em material transparente, para o Cartão de Respostas, que será o único documento válido para correção. O Cartão de Respostas não será substituído por erro ou dano do candidato.***

**3.1.** Para cada questão existe apenas uma alternativa que a responde acertadamente. Para a marcação da alternativa escolhida no **CARTÃO DE RESPOSTAS, pinte completamente** o círculo correspondente.

*Exemplo: Suponha que para determinada questão a alternativa **C** seja a escolhida.*

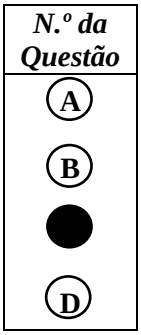


**3.2.** Marque apenas uma alternativa para cada questão.

**3.3.** Será invalidada a questão em que houver mais de uma marcação, marcação rasurada ou emendada, ou não houver marcação.

**3.4.** Não rasure nem amasse o **CARTÃO DE RESPOSTAS**.

**4.** Todos os espaços em branco, neste caderno, podem ser utilizados para rascunho.

**5.** Não haverá substituição do **CARTÃO DE RESPOSTAS** por erro do candidato.

**6.** A duração da prova é **4 (quatro) horas**, já incluído o tempo destinado ao preenchimento do **CARTÃO DE RESPOSTAS**.

**7.** Somente após decorridas **2 horas e 30 minutos** do início da prova, o candidato, depois de entregar seu Caderno de Prova e seu Cartão de Respostas, poderá retirar-se da sala de prova. O candidato que insistir em sair da sala de prova antes desse tempo deverá assinar **Termo de Ocorrência** declarando sua desistência do concurso.

**8.** Será permitida a saída de candidatos levando o Caderno de Prova somente **na última meia hora** de prova.

**9.** Na página 15 deste Caderno de Prova, encontra-se a **Folha de Anotação do Candidato**, a qual poderá ser utilizada para a transcrição das respostas das questões objetivas. Essa folha poderá ser levada pelo candidato para posterior conferência com o gabarito somente após decorridas **2 horas e 30 minutos** do início da prova.

**10.** Após o término da prova, o candidato deverá, obrigatoriamente, entregar ao fiscal o **CARTÃO DE RESPOSTAS** devidamente assinado (no espaço próprio) e preenchido.

# *LÍNGUA PORTUGUESA*

**QUESTÃO 01**

Leia o texto a seguir.

O Estado de Mato Grosso cresce. A economia avança, a arrecadação aumenta, a produção bate recordes. Os benefícios desse desenvolvimento ainda não alcançam, na proporção necessária, quem mais precisa. Há municípios em que milhares de pessoas dependem do Bolsa Família para sobreviver. Essa é a grande contradição que Mato Grosso precisa enfrentar.

Em qual alternativa a reescrita desse texto apresenta problemas relativos à coesão, coerência e/ou correção gramatical?

**[A]** O Estado de Mato Grosso cresce: a economia avança, a arrecadação aumenta, a produção bate recordes, mas os benefícios desse desenvolvimento ainda não alcançam, na proporção necessária, quem mais precisa, visto que há municípios em que milhares de pessoas dependem do Bolsa Família para sobreviver. Essa é a grande contradição que Mato Grosso precisa enfrentar.

**[B]** O Estado de Mato Grosso cresce: a economia avança, a arrecadação aumenta, a produção bate recordes, logo os benefícios desse desenvolvimento ainda não alcança, na proporção necessária, quem mais precisa, pois que existe municípios em que milhares de pessoas dependem do Bolsa Família para sobreviver. Esta é a grande contradição que Mato Grosso precisa enfrentar.

**[C]** Mato Grosso precisa enfrentar uma grande contradição. O estado cresce: a economia avança, a arrecadação aumenta, a produção bate recordes, no entanto os benefícios desse desenvolvimento ainda não alcançam, na proporção necessária, quem mais precisa, pois que há municípios em que milhares de pessoas dependem do Bolsa Família para sobreviver.

**[D]** Mato Grosso precisa enfrentar uma grande contradição. O estado cresce: a economia avança, a arrecadação aumenta, a produção bate recordes, todavia os benefícios desse desenvolvimento ainda não alcançam, na proporção necessária, quem mais precisa, visto que existem municípios em que milhares de pessoas dependem do Bolsa Família

**Instrução: Leia atentamente o texto a seguir e responda às questões de 02 a 06.**

O outro

Ele queria muito ser eleito. Não: ele precisava muito ser eleito. Estava atrás de um emprego que lhe desse um bom salário, mordomias e verbas para gastar na contratação de assessores – além, claro, das múltiplas oportunidades que, como vereador, teria. O problema era arrumar votos. Não tinha amigos, não era conhecido, nem sequer recebera um apelido pitoresco que pudesse usar na propaganda. Mas o pior não era isso. O pior que combinava um visual péssimo – baixinho, gordinho, careca – com uma congênita inabilidade para falar em público. Em desespero, resolveu procurar um marqueteiro. Estava disposto a gastar uma boa grana nisso, desde que pudesse adquirir uma nova imagem, uma imagem capaz de garantir a eleição. O marqueteiro, famoso, exigiu honorários salgados, mas garantiu resultados. Que, de fato, não se fizeram esperar. Em poucas semanas o candidato era outro. Mais magro, mais alto (saltos especiais) com uma bela peruca, parecia agora um galã de novela. Além disso, transformara-se num fantástico orador, um orador capaz de galvanizar o público com uma única frase. Se foi eleito? Foi eleito com uma avalanche de votos. O que representou um duplo alívio: de um lado, conquistava o cargo tão sonhado. De outro, podia deixar de lado a peruca, os sapatos com saltos especiais e a dieta. E também podia falar normalmente, no tom meio fanhoso que o caracterizava. E aí começaram as surpresas desagradáveis. Quando foi tomar posse, ninguém o reconheceu. Mas como? Então era aquele tipo charmoso, magnético, da tevê e dos cartazes? Era ele sim, como o comprovou, mostrando a identidade. Não foi a única contrariedade. Logo descobriu que, como vereador, era péssimo: não sabia falar, não convencia ninguém, sequer era procurado por lobistas. Bom mesmo, concluiu com amargura, era o Outro, aquele que o marqueteiro tinha inventado. Aquele sim, podia fazer uma grande carreira, chegando quem sabe à Presidência. Mas onde estava o Outro? Só uma pessoa poderia ajudá-lo nessa busca, o marqueteiro. Só que o marqueteiro tinha sumido. Com o dinheiro ganho nas eleições resolvera passar dois anos em alguma praia do Caribe. Todas as noites o vereador sonha com o Outro. Vê-o na Câmara, discursando, empolgando multidões. Mas não sabe o que fazer para encontrá-lo. Sabe, sim, o que dirá se isso um dia acontecer. E o que dirá, numa voz fanhosa e emocionada, será: o senhor pode contar com meu voto - para sempre.

(SCLIAR, Moacyr. O imaginário cotidiano. São Paulo, Gaia, 2006.)

**QUESTÃO 02**

Tome o trecho *Logo descobriu que, como vereador, era péssimo: não sabia falar, não convencia ninguém, sequer era procurado por lobistas.* Sobre os sinais de pontuação usados nesse trecho, analise as afirmativas.

I. As duas primeiras vírgulas isolam uma expressão que indica circunstância.
II. O sinal de dois pontos indica a introdução de um esclarecimento ou exemplos.
III. As duas últimas vírgulas separam orações coordenadas, indicando uma enumeração.
IV. A segunda vírgula foi empregada erroneamente, pois não se deve usar vírgula entre sujeito e predicado, conforme as regras da norma culta.

Está correto o que se afirma em

**[A]** I, III e IV, apenas.
**[B]** I e II, apenas.
**[C]** II e IV, apenas.
**[D]** I, II e III, apenas.

**QUESTÃO 03**

Na frase *Só que o marqueteiro tinha sumido.*, a expressão <u>*Só que*</u>, devido ao seu significado, pode ser substituída por

**[A]** Porém.
**[B]** Logo.
**[C]** Portanto.
**[D]** Pois.

**QUESTÃO 04**

Na frase *E aí começaram as surpresas desagradáveis.*, a concordância verbal ocorre seguindo o princípio básico da concordância verbal: o verbo adapta-se aos quesitos número e pessoa do sujeito. Assinale o exemplo em que **NÃO** houve obediência a esse princípio básico.

**[A]** Enfim, foram analisados todos os recursos propostos pelos moradores para não eliminarem a praça do meio do bairro.
**[B]** Todo início de ano, os vereadores se motivam para, num dia qualquer, ao cair da noite, elevarem seu salário.
**[C]** Depois de muito tempo, o alvoroço dos participantes da feira diminuíram bastante, até o completo silêncio.
**[D]** Ficou claro que todos os funcionários aprovaram a decisão da diretoria sobre os horários de descanso.

**QUESTÃO 05**

Os pronomes oblíquos assumem diferentes posições em relação ao verbo e exercem importante função coesiva no texto, visto que minimizam a repetição de palavras e contribuem para situar os interlocutores e objetos no tempo, espaço e no próprio texto. Sobre o assunto, marque V para as afirmativas verdadeiras e F para as falsas.

( ) Em *E também podia falar normalmente, no tom meio fanhoso que o caracterizava.*, o pronome <u>*o*</u>, em posição proclítica, retoma o sentido da palavra *candidato.*
( ) Em *Só uma pessoa poderia ajudá-lo nessa busca, o marqueteiro.*, o pronome *o*, na forma <u>*lo*</u>, em posição enclítica, retoma o sentido da palavra *marqueteiro*.
( ) Em *Vê-o na Câmara, discursando, empolgando multidões.*, o pronome <u>*o*</u>, em posição enclítica, retoma o sentido da palavra *Outro.*
( ) Em *Mas não sabe o que fazer para encontrá-lo.*, o pronome <u>*o*</u>, na forma <u>*lo*,</u> em posição proclítica, retoma o sentido da palavra *marqueteiro*.

Assinale a sequência correta.

**[A]** V, V, F, F
**[B]** F, F, V, V
**[C]** V, F, V, F
**[D]** F, V, F, V

**QUESTÃO 06**

A respeito do texto, analise as afirmativas.

I. Sugere que todo candidato a cargo eletivo necessita do trabalho de um marqueteiro, sem o qual não consegue se eleger.
II. Mostra como, em época de eleição, um candidato usa estratégias pelas quais se torna conhecido e é eleito.
III. Relata medidas empreendidas por marqueteiros para eleger um candidato mesmo que ele não tenha as qualidades necessárias.
IV. Mostra como eleitores, ao escolher em quem vão votar, se deixam levar pela aparência do candidato.

Estão corretas as afirmativas

**[A]** I, II e IV, apenas.
**[B]** II, III e IV, apenas.
**[C]** I e III, apenas.
**[D]** II e III, apenas.

**Instrução: Leia o texto a seguir e responda às questões de 07 a 09.**

Carta Apostólica *Misericordia et mísera do Santo Padre Francisco*

Não ter trabalho nem receber um salário justo, não poder ter uma casa ou uma terra onde habitar, ser discriminado pela fé, raça, posição social... estas e muitas outras são condições que atentam contra a dignidade da pessoa; frente a elas, a ação misericordiosa dos cristãos responde, antes de mais nada, com a vigilância e a solidariedade. Hoje são tantas as situações em que podemos restituir dignidade às pessoas, consentindo-lhes uma vida humana. Basta pensar em tantos meninos e meninas que sofrem violências de vários tipos, que lhes roubam a alegria da vida. Os seus rostos tristes e desorientados permanecem impressos na minha mente; pedem a nossa ajuda para serem libertados da escravidão do mundo contemporâneo. Estas crianças são os jovens de amanhã; como estamos a prepará-las para viverem com dignidade e responsabilidade? Com que esperança podem elas enfrentar o seu presente e o seu futuro?

O caráter social da misericórdia exige que não permaneçamos inertes mas afugentemos a indiferença e a hipocrisia para que os planos e os projetos não fiquem letra morta. Que o Espírito Santo nos ajude a estar sempre prontos a prestar de forma efetiva e desinteressada a nossa contribuição, para que a justiça e uma vida digna não permaneçam meras palavras de circunstância, mas sejam o compromisso concreto de quem pretende testemunhar a presença do Reino de Deus.

(Disponível em: www.vatican.va/content/francesco. Acesso em: 14/05/2025.)

**QUESTÃO 07**

Qual a intencionalidade desse texto?

**[A]** Conclamar os cristãos a interferirem nas condições precárias em que vivem adultos e jovens, a contribuírem para que eles tenham uma vida digna.
**[B]** Rogar a Deus para que ajude os cristãos a não simplesmente ver a situação de desespero de pessoas sofridas, mas a agir de modo a eles terem um amanhã.
**[C]** Informar ao mundo quantas situações de intolerância social existem, quantos adultos e jovens sem esperança de um futuro melhor, uma vida digna.
**[D]** Incitar os cristãos a não deixarem que a justiça social exista apenas no papel, que a vigilância predomine, que a hipocrisia possa restituir dignidade aos sofredores.

**QUESTÃO 08**

Os pronomes relativos fazem a retomada do sentido de palavra mencionada no texto, contribuindo com a sequenciação das ideias. Assinale o trecho que apresenta pronome relativo.

**[A]** *O caráter social da misericórdia exige que não permaneçamos inertes mas afugentemos a indiferença e a hipocrisia.*
**[B]** *Que o Espírito Santo nos ajude a estar sempre prontos a prestar de forma efetiva e desinteressada a nossa contribuição.*
**[C]** *Mas afugentemos a indiferença e a hipocrisia para que os planos e os projetos não fiquem letra morta.*
**[D]** *Hoje são tantas as situações em que podemos restituir dignidade às pessoas, consentindo-lhes uma vida humana.*

**QUESTÃO 09**

As palavras *solidariedade, dignidade, responsabilidade* são substantivos formados com o sufixo dade, que indica ideia de qualidade ou estado. Sobre o uso de sufixos, assinale a afirmativa **INCORRETA**.

**[A]** Os substantivos racismo e consumismo são formados pelo sufixo ismo, que indica uma prática ou sistema de crenças ou movimentos.

**[B]** Os substantivos polimento e fingimento são formados pelo sufixo mento, que exprime ideia de possiblidade de realizar uma ação.

**[C]** Os substantivos aprendizagem e coragem são formados pelo sufixo agem, que exprimem ideia de ação ou resultado de uma ação.

**[D]** Os substantivos semelhança e segurança são formados pelo sufixo ança, que indica ideia de estado ou qualidade.

**QUESTÃO 10**

Maria Joana é uma joaninha estressada, personagem de Clara Gomes, criadora das tiras denominadas Bichinhos de Jardim.




(Disponível em: bichinhosdejardim.com. Acesso em: 29/05/25.)

A respeito da tira, marque V para as afirmativas verdadeiras e F para as falsas.

( ) A solicitação de Maria Joana a Iaiá foi atendida plenamente somente no último quadrinho da tira, o que lhe causou aborrecimento.

( ) Antes mesmo de obter resposta a sua pergunta, Maria Joana entendeu que Iaiá, por ser uma inteligência artificial do mal, a atenderia prontamente.

( ) A previsão do clima dada por Iaiá pode ser considerada uma reflexão a partir do seu conhecimento de mundo.

( ) Maria Joana não mostrou interesse pela fala final de Iaiá, bastava-lhe saber se ia chover ou não.

( ) A fala de Iaiá, no último quadro, compõe-se de um período subordinado: uma oração principal e uma oração subordinada que expressa ideia de condição.

( ) Iaiá, a inteligência artificial do mal, usa duas vezes a palavra *tá*, com o mesmo sentido e igual função gramatical.

Assinale a sequência correta.

**[A]** F, V, V, F, F, V

**[B]** V, V, F, F, V, F

**[C]** F, F, V, V, V, F

**[D]** V, F, F, V, F, V

# *INFORMÁTICA*

**QUESTÃO 11**

Considere uma planilha do Microsoft Excel com as células A1, B1, A2, B2, A3 e B3 preenchidas com os valores 10, 4, 8, 22, 16 e 2, respectivamente. Quais valores seriam produzidos pelas fórmulas =MÉDIASE(A1:B3;">10") e =SOMASES(A1:B3;A1:B3;"<10") respectivamente?

**[A]** 16 e 24

**[B]** 16 e 14

**[C]** 19 e 24

**[D]** 19 e 14

**QUESTÃO 12**

Sobre o item Programas e Recursos do Painel de Controle do Windows 11, analise as afirmativas.

I. Permite ativar ou desativar recursos do Windows por meio de caixas de seleção do tipo marca/desmarca para cada um dos recursos disponíveis.
II. É a ferramenta indicada para desinstalar aplicativos do computador, não sendo recomendado excluir arquivos diretamente no Explorador de Arquivos.
III. Apresenta recurso que permite salvar uma cópia de segurança quando um programa é desinstalado para que possa ser restaurado futuramente, se necessário.
IV. No modo de exibição "Lista", é possível visualizar, além do nome, informações tais como data de instalação, tamanho e versão dos programas instalados.

Estão corretas as afirmativas

**[A]** I e II, apenas.
**[B]** III e IV, apenas.
**[C]** I, II e III, apenas.
**[D]** II, III e IV, apenas.

**QUESTÃO 13**

Considere o fragmento de tela a seguir, extraído do Explorador de Arquivos do Windows 11, com a pasta Documentos selecionada.

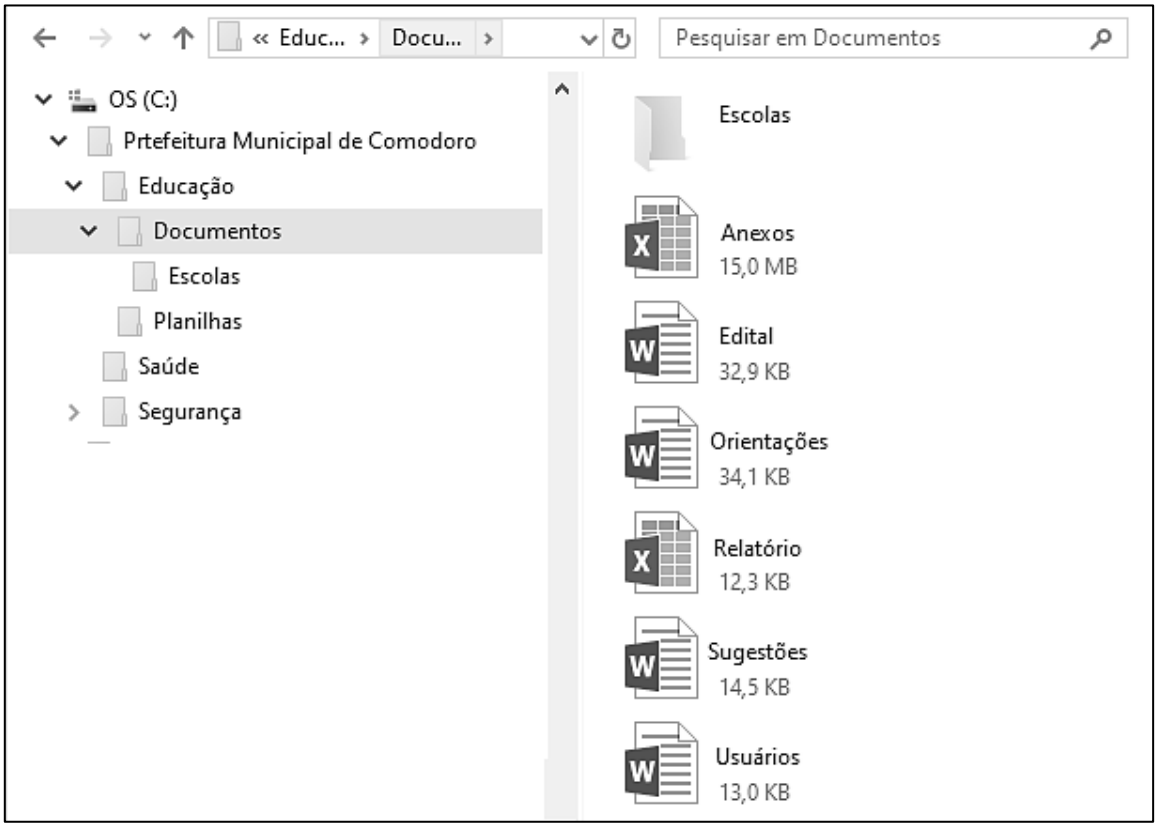


Sobre a figura, marque V para as afirmativas verdadeiras e F para as falsas.

( ) Os seis arquivos exibidos no lado direito da tela são conteúdo da pasta Escolas.
( ) A pasta Escolas não possui qualquer pasta (subpasta) em seu conteúdo.
( ) O arquivo Orientações possui tamanho superior ao do arquivo Anexos.
( ) Os arquivos Edital e Sugestões são documentos nativos do Microsoft Word.

Assinale a sequência correta.

**[A]** V, F, F, V
**[B]** V, F, V, F
**[C]** F, V, F, V
**[D]** F, V, V, F

**QUESTÃO 14**

Sobre boas práticas de segurança da informação no uso de computadores, analise as afirmativas.

I. É indicado manter o sistema operacional e demais softwares sempre atualizados para corrigir vulnerabilidades que possam ser exploradas por invasores.
II. Recomenda-se utilizar uma conta com privilégios de Administrador no uso rotineiro do computador para garantir que antivírus operem sem bloqueios.
III. É recomendado limpar periodicamente histórico, cookies e cache do navegador de internet para proteger a privacidade das atividades realizadas no computador.
IV. Recomenda-se instalar múltiplos programas antivírus simultâneos no computador para aumentar a proteção de forma proporcional, sem causar conflitos de sistema.

Estão corretas as afirmativas

**[A]** II e IV, apenas.
**[B]** I e III, apenas.
**[C]** I, II e III, apenas.
**[D]** I, III e IV, apenas.

**QUESTÃO 15**

Assinale a alternativa que apresenta a definição dos malwares Ransomware e Stalkerware, respectivamente.

**[A]** Ransomware é um código malicioso que torna inacessíveis os dados armazenados em um equipamento e exige pagamento de resgate; Stalkerware é um programa de espionagem usado para monitorar e rastrear a atividade de uma vítima.
**[B]** Ransomware é um programa projetado para exibir anúncios excessivos e pop-ups na tela do usuário; Stalkerware é um malware que se propaga exclusivamente por meio de mensagens falsas no WhatsApp.
**[C]** Ransomware é um código que monitora o tráfego de rede para roubar senhas bancárias; Stalkerware é um programa que transforma o computador em um "zumbi" para realizar ataques de negação de serviço (DDoS).
**[D]** Ransomware é um software legítimo de backup que apresenta falhas de segurança críticas; Stalkerware é um mecanismo de autenticação em duas etapas, criado para interceptar códigos SMS.

**QUESTÃO 16**

Sobre o recurso de preenchimento automático do navegador Google Chrome, marque V para as afirmativas verdadeiras e F para as falsas.

( ) Permite que o Chrome guarde informações, como nomes, endereços e dados de pagamento para acelerar o preenchimento de formulários na web.
( ) Para gerenciar o recurso, deve-se selecionar a opção Configurações no menu principal e acessar a seção Preenchimento automático e senhas.
( ) Não permite que dados inseridos em campos de senhas sejam protegidos por biometria ou PIN do Windows.
( ) Por segurança, não é permitido adicionar mais de uma forma de pagamento, como, por exemplo, múltiplos cartões de crédito.

Assinale a sequência correta.

**[A]** V, V, F, F
**[B]** F, F, V, V
**[C]** V, F, V, F
**[D]** F, V, F, V

**Instrução: As questões 17 e 18 são baseadas no documento seguinte do Microsoft Word 2016 com as linhas numeradas de 1 a 10 e com um bloco de texto selecionado (linhas 2 a 10).**

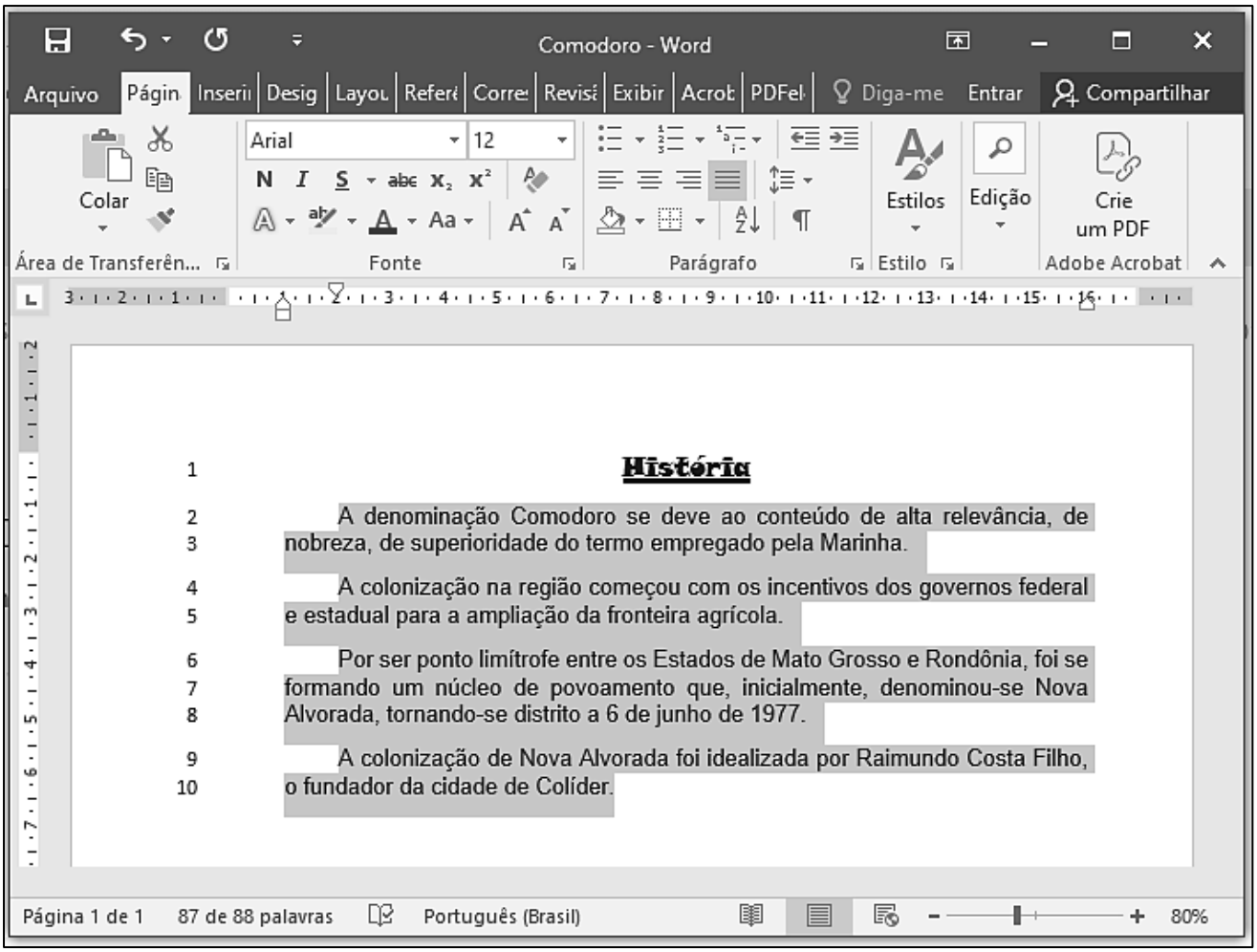


## QUESTÃO 17

Sobre o documento, analise as afirmativas.

I. A formatação de fonte aplicada no título do texto (linha 1) é Arial, tamanho 12.
II. O documento foi salvo com o nome História, por ser a primeira palavra do texto.
III. O nível de zoom aplicado para visualização do documento é de 80%.
IV. O alinhamento aplicado no texto selecionado (linhas 2 a 10) é justificado.

Estão corretas as afirmativas

**[A]** I e II, apenas.
**[B]** I, III e IV, apenas.
**[C]** II, III e IV, apenas.
**[D]** III e IV, apenas.

## QUESTÃO 18

Sobre as configurações de margens do documento e de parágrafos do texto selecionado (linhas 2 a 10), assinale a afirmativa correta.

**[A]** A margem esquerda do documento está configurada para 2 cm.
**[B]** O recuo de primeira linha do texto selecionado está ajustado para 1 cm.
**[C]** A margem superior do documento está ajustada para 3 cm.
**[D]** O recuo esquerdo do documento está posicionado em 2 cm.

**QUESTÃO 19**

Sobre conceitos de hardware, analise as afirmativas.

I. A Unidade de Controle (UC) é o componente da CPU responsável por executar as operações matemáticas e os testes lógicos do sistema.
II. A memória cache é integrada à CPU e serve para reduzir o tempo de espera do processador no acesso aos dados da memória RAM.
III. A memória ROM perde todas as suas informações gravadas assim que o computador é desligado da energia elétrica.
IV. Os drives de estado sólido (SSDs) utilizam memória Flash para armazenar dados de forma não volátil, sem depender de peças mecânicas móveis.

Estão corretas as afirmativas

**[A]** I e III, apenas.
**[B]** II, III e IV, apenas.
**[C]** II e IV, apenas.
**[D]** I e II, apenas.

**QUESTÃO 20**

A figura seguinte apresenta uma planilha do Microsoft Excel com a célula C15 selecionada.

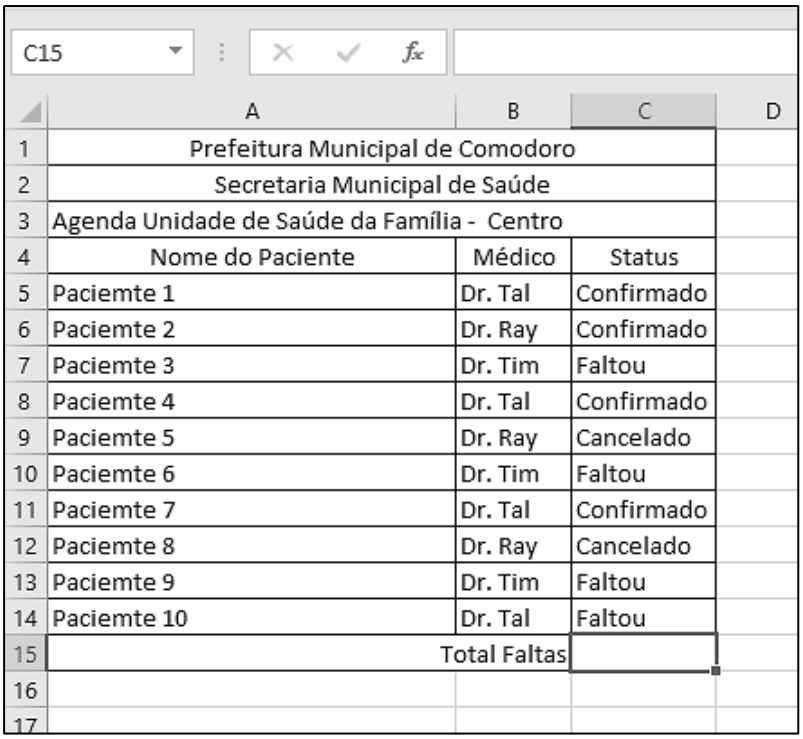

| | A | B | C | D |
|---|---|---|---|---|
| 1 | Prefeitura Municipal de Comodoro | | | |
| 2 | Secretaria Municipal de Saúde | | | |
| 3 | Agenda Unidade de Saúde da Família - Centro | | | |
| 4 | Nome do Paciente | Médico | Status | |
| 5 | Paciemte 1 | Dr. Tal | Confirmado | |
| 6 | Paciemte 2 | Dr. Ray | Confirmado | |
| 7 | Paciemte 3 | Dr. Tim | Faltou | |
| 8 | Paciemte 4 | Dr. Tal | Confirmado | |
| 9 | Paciemte 5 | Dr. Ray | Cancelado | |
| 10 | Paciemte 6 | Dr. Tim | Faltou | |
| 11 | Paciemte 7 | Dr. Tal | Confirmado | |
| 12 | Paciemte 8 | Dr. Ray | Cancelado | |
| 13 | Paciemte 9 | Dr. Tim | Faltou | |
| 14 | Paciemte 10 | Dr. Tal | Faltou | |
| 15 | | Total Faltas | | |
| 16 | | | | |
| 17 | | | | |

De acordo com a planilha, qual fórmula poderia ser incluída na célula C15 para retornar o número de pacientes que faltaram?

**[A]** =CONT.COND(C5:C14;"Faltou")
**[B]** =CONT.VAR(C5:C14;"Faltou")
**[C]** =CONT.NUM(C5:C14;"Faltou")
**[D]** =CONT.SE(C5:C14;"Faltou")

# *CONHECIMENTOS ESPECÍFICOS*

## ***Administração***

**QUESTÃO 21**

A Controladoria Municipal está elaborando um plano de gestão de riscos para acompanhar um projeto de modernização dos sistemas de arrecadação tributária. Diante disso, a gestão de riscos deve contribuir principalmente para

**[A]** apoiar a tomada de decisão por meio da identificação das incertezas e da definição de respostas adequadas aos riscos que possam afetar os objetivos do projeto.

**[B]** reduzir a probabilidade de mudanças no projeto por meio da padronização dos procedimentos administrativos.

**[C]** assegurar que todas as decisões relacionadas ao projeto sejam previamente aprovadas pelos órgãos de controle interno.

**[D]** concentrar a análise dos riscos exclusivamente nas etapas de planejamento, evitando alterações durante a execução do projeto.

**QUESTÃO 22**

Os conceitos de governabilidade, governança pública e accountability são fundamentais para a Administração Pública contemporânea. Sobre esses conceitos, assinale a afirmativa correta.

**[A]** A governabilidade refere-se exclusivamente à obrigação dos agentes públicos de prestar contas à sociedade e aos órgãos de controle.

**[B]** A accountability corresponde à capacidade política do governo de aprovar e implementar sua agenda administrativa.

**[C]** A governança pública caracteriza-se pela independência dos órgãos governamentais, dispensando mecanismos de transparência e controle social.

**[D]** A governança pública busca fortalecer a coordenação entre diferentes atores e instituições para melhorar a implementação das políticas públicas.

**QUESTÃO 23**

Uma prefeitura definiu como objetivo estratégico melhorar o atendimento à população. Em seguida, cada secretaria estabeleceu metas para sua área e, posteriormente, organizou cronogramas, recursos e responsáveis pela execução das atividades.

Nesse contexto, assinale a afirmativa correta.

**[A]** A definição de cronogramas e responsáveis caracteriza o planejamento estratégico, por orientar os objetivos de longo prazo.

**[B]** O planejamento operacional é responsável por definir os objetivos institucionais da organização.

**[C]** O estabelecimento de metas por secretaria caracteriza o planejamento tático, enquanto a definição de cronogramas e responsáveis integra o planejamento operacional.

**[D]** O planejamento tático limita-se à execução das atividades diárias e ao acompanhamento das rotinas.

**QUESTÃO 24**

Durante a elaboração de um programa de capacitação para gestores públicos, discutiu-se a evolução do conhecimento administrativo. Com base em Maximiano (2004), analise as afirmativas a seguir.

I. A experiência acumulada por administradores e organizações constitui uma importante fonte para a produção do conhecimento administrativo.

II. A utilização de métodos científicos contribui para validar, aperfeiçoar e ampliar os conhecimentos produzidos na área da Administração.

III. O conhecimento administrativo é produzido predominantemente pela formulação de princípios teóricos, cabendo à experiência prática apenas confirmar sua aplicação nas organizações.

Está correto o que se afirma em

**[A]** I, apenas.

**[B]** I e II, apenas.

**[C]** II, apenas.

**[D]** I, II e III.

**QUESTÃO 25**

Uma Controladoria Municipal adotou a gestão por processos para integrar as atividades e melhorar a prestação dos serviços públicos. Com base em Sordi (2012), marque V para as afirmativas verdadeiras e F para as falsas.

( ) A gestão por processos prioriza os fluxos de trabalho em vez da análise isolada dos departamentos.
( ) O *process owner* é responsável pelo desempenho e pela melhoria do processo, ainda que não tenha autoridade hierárquica sobre todos os envolvidos.
( ) A classificação em processos primários, de suporte e de gestão auxilia na definição de prioridades e na melhoria do desempenho organizacional.
( ) Os processos de gestão agregam valor diretamente ao cliente, enquanto os processos primários têm como função principal monitorar e controlar os demais processos.

Assinale a sequência correta.

**[A]** V, F, F, V
**[B]** F, V, V, F
**[C]** F, F, F, V
**[D]** V, V, V, F

## ***Ciências Contábeis***

**QUESTÃO 26**

A Constituição Federal passou recentemente por ampla reforma nas regras orçamentárias. Dentre as diversas alterações promovidas, destacam-se aquelas relacionadas às emendas ao processo de elaboração das leis orçamentárias. Nesse contexto, é correto afirmar:

**[A]** As emendas ao projeto de lei do orçamento anual ou aos projetos que o modifiquem podem ser aprovadas independentemente de indicação dos recursos necessários.
**[B]** As emendas ao projeto de lei de diretrizes orçamentárias poderão ser aprovadas ainda que incompatíveis com o plano plurianual.
**[C]** As emendas individuais impositivas apresentadas ao projeto de lei orçamentária anual poderão alocar recursos a Municípios por meio de transferência especial ou transferência com finalidade definida.
**[D]** As emendas individuais impositivas apresentadas ao projeto de lei orçamentária anual alocadas a Municípios integrarão a sua receita para fins de repartição e para o cálculo dos limites da despesa com pessoal ativo e inativo.

**QUESTÃO 27**

De acordo com o art. 102 da Lei nº 4.320/64, o Balanço Orçamentário demonstrará as receitas e despesas previstas em confronto com as realizadas. A partir das informações constantes no demonstrativo, é possível verificar vários aspectos da execução orçamentária.

A seguir, apresentam-se informações extraídas do Balanço Orçamentário de um município ao final do exercício financeiro de 20XX:

| Receitas Orçamentárias | Previsão Inicial (R$) | Receitas Arrecadadas (R$) |
|---|---|---|
| **Receitas correntes** | 1.750.000,00 | 1.900.000,00 |
| **Receitas de capital** | 1.500.000,00 | 1.500.000,00 |

| Despesas Orçamentárias | Dotação Inicial (R$) | Despesas Empenhadas (R$) | Despesas Liquidadas (R$) | Despesas Pagas (R$) |
|---|---|---|---|---|
| **Despesas correntes** | 1.750.000,00 | 1.850.000,00 | 1.750.000,00 | 1.650.000,00 |
| **Despesas de capital** | 1.500.000,00 | 1.450.000,00 | 1.450.000,00 | 1.300.000,00 |

Considerando exclusivamente as informações acima, é correto afirmar que o ente federativo apresentará

**[A]** Insuficiência de arrecadação no valor de R$ 150.000,00.
**[B]** Economia de despesas correntes no valor de R$ 50.000,00.
**[C]** Superávit Orçamentário no total de R$ 100.000,00.
**[D]** Restos a pagar não processados, considerando despesas correntes e de capital, no total de R$ 250.000,00.

**QUESTÃO 28**

O MCASP classifica as variações patrimoniais, entendidas como as transações que promovem alterações nos elementos patrimoniais da entidade do setor público, em aumentativas e diminutivas. Considerando o reconhecimento das variações patrimoniais conforme o MCASP, analise os seguintes eventos ocorridos em determinado município no mês de janeiro de 2026.

1 - Considere que o fato gerador do Imposto sobre a Propriedade Predial e Territorial Urbana (IPTU) ocorreu no dia 1º de janeiro de 2026. Os contribuintes deverão efetuar o pagamento até 31/03/2026 e os créditos tributários a receber totalizam R$ 2.000.000,00.
2 - No dia 05/01/2026, o município recebeu, em sua conta bancária, o valor de R$ 500.000,00 referentes aos repasses de Transferências Constitucionais, sem obrigação de devolução ou contraprestação.
3 - Em 10/01/2026, o município fez o pagamento de R$ 450.000,00 referente ao principal das obrigações já registradas na conta contábil "Empréstimos e Financiamentos".
4 - No dia 15/01/2026, o município registrou a baixa de R$ 50.000,00 no estoque de material de expediente, em razão de seu consumo pelas unidades administrativas.
5 - No dia 20/01/2026, o município recebeu R$ 500.000,00 decorrentes de operação de crédito contratada junto a uma instituição financeira.
6 - No último dia útil do mês de janeiro, o município fez o reconhecimento e o respectivo pagamento dos salários dos servidores no valor de R$ 1.800.000,00.
7 - No último dia útil do mês de janeiro, o município fez o reconhecimento da depreciação do período, no total de R$ 100.000,00.

Considerando esses eventos, os valores das Variações Patrimoniais Aumentativas e das Variações Patrimoniais Diminutivas, respectivamente, são:

**[A]** R$ 2.500.000,00 e R$ 1.950.000,00.
**[B]** R$ 2.700.000,00 e R$ 2.050.000,00.
**[C]** R$ 3.000.000,00 e R$ 2.300.000,00.
**[D]** R$ 3.100.000,00 e R$ 2.400.000,00.

**QUESTÃO 29**

De acordo com o Manual de Demonstrativos Fiscais (15ª ed., 2025), os Resultados Primário e Nominal são mecanismos criados pela Lei de Responsabilidade Fiscal para controle e acompanhamento do endividamento em todo o ciclo orçamentário. Sobre a elaboração e as informações constantes no Demonstrativo dos Resultados Primário e Nominal, é **INCORRETO** afirmar:

**[A]** O objetivo da apuração dos resultados primário e nominal é verificar o cumprimento das metas fiscais estabelecidas na LDO de forma a garantir o equilíbrio das contas públicas conforme planejado.
**[B]** Serão consideradas receitas primárias, para fins do arcabouço normativo criado pela Lei de Responsabilidade Fiscal, aquelas receitas orçamentárias que aumentam as disponibilidades de caixa do ente sem um equivalente aumento no montante de sua dívida consolidada, excetuadas aquelas com características financeiras e aquelas fruto de alienação de investimentos.
**[C]** Serão consideradas despesas primárias aquelas despesas orçamentárias, apuradas pelo regime de caixa, que diminuem o estoque das disponibilidades de caixa e haveres financeiros sem uma contrapartida em forma de diminuição equivalente no estoque da dívida consolidada.
**[D]** Os juros a serem considerados para o cálculo do resultado nominal são apurados por regime de caixa, ou seja, quando ocorre seu impacto no montante da Despesa Corrente Líquida.

**QUESTÃO 30**

Uma empresa apresentou, no mês de fevereiro, as seguintes informações sobre um item de seu estoque:

- 01/02 Estoque inicial: 150 unidades, ao custo unitário de R$ 10,00;
- 10/02 Entrada de 210 unidades, ao custo unitário de R$ 12,00;
- 11/02 Devolução de 50 unidades referente à entrada de 10.02;
- 12/02 Saída de 180 unidades;
- 22/02 Entrada de 250 unidades, ao custo unitário de R$ 16,00.

Ainda, a empresa informou que utiliza o critério Primeiro a Entrar, Primeiro a Sair (PEPS). Ao final do período, após todas as movimentações, a entidade apurou que, com a venda desse estoque no curso normal dos negócios, o seu Valor Realizável Líquido seria de R$ 5.750,00.
Considerando as informações apresentadas, o valor do estoque final no período foi:

**[A]** R$ 5.300,00.
**[B]** R$ 5.560,00.
**[C]** R$ 5.450,00.
**[D]** R$ 5.750,00.

## ***Ciências Econômicas***

**QUESTÃO 31**

Ao analisar um contrato, a Controladoria identifica que dois itens só geram benefício quando adquiridos conjuntamente e em proporção fixa (por exemplo, licença de software e o respectivo treinamento). Se o benefício (benefício sendo interpretado como satisfação ou utilidade) é descrito por $B(X,Y) = min\{X,Y\}$, esses itens são:

**[A]** substitutos perfeitos.
**[B]** independentes no consumo.
**[C]** supérfluos (sem benefício).
**[D]** complementares perfeitos.

**QUESTÃO 32**

A Controladoria Interna da Câmara Municipal de Comodoro (MT), no exercício do controle de economicidade, avalia se a alocação de recursos entre diferentes insumos representa o melhor uso do orçamento público. Suponha que determinado setor disponha de R$ 90 para adquirir dois bens de consumo, X e Y, com preços unitários de R$ 3 e R$ 6, respectivamente, e que o benefício gerado pela combinação dos bens seja descrito pela função $B(X,Y) = X^{\frac{1}{3}} \cdot Y^{\frac{2}{3}}$. Para que a aplicação dos recursos seja a mais econômica (eficiente), a quantidade do bem X a ser adquirida é:

**[A]** 20
**[B]** 10
**[C]** 30
**[D]** 5

**QUESTÃO 33**

Ao examinar a economicidade de um contrato firmado pela Câmara, a Controladoria Interna analisa o comportamento de um fornecedor que atua em mercado de concorrência perfeita, a fim de verificar a razoabilidade dos preços praticados. Considere que esse fornecedor possua função de custo total $C(q) = 2q^2 + 50$ e que o preço de mercado do produto seja $P = 40$. Sabendo que a firma escolhe a quantidade que maximiza seu lucro, sendo a condição de que o preço é igual ao custo marginal, o lucro máximo obtido pelo fornecedor é:

**[A]** 150
**[B]** 400
**[C]** 350
**[D]** 200

**QUESTÃO 34**

No âmbito do Novo PAC (Programa de Aceleração do Crescimento), o Governo Federal financia obras de infraestrutura — em saúde, educação e mobilidade — executadas com participação direta de estados e municípios. Ao acompanhar a execução local desses investimentos, a Controladoria reconhece que a lógica econômica subjacente ao programa é o princípio keynesiano da demanda efetiva, segundo o qual

**[A]** a oferta cria sua própria demanda, garantindo o pleno emprego automaticamente.
**[B]** poupança determina, por si só, o nível de investimento e de renda.
**[C]** o nível de renda e de emprego é determinado, no curto prazo, pela demanda agregada.
**[D]** os preços e salários flexíveis eliminam qualquer desemprego involuntário.

**QUESTÃO 35**

Em dezembro de 2024, o Brasil promulgou, pelo Decreto nº 12.299, o Protocolo de Contratações Públicas do Mercosul, que assegura tratamento nacional e não discriminatório aos fornecedores dos Estados Partes nas contratações públicas que superem os patamares previstos. Ao analisar uma licitação eventualmente alcançada por esse instrumento, a Controladoria observa que o próprio Protocolo se apresenta como meio de fortalecimento da estrutura de integração do bloco. Nesse contexto, o Mercosul caracteriza-se, em sua concepção, como:

**[A]** uma simples zona de preferência tarifária, sem livre-comércio interno.
**[B]** uma união monetária, com moeda única em circulação.
**[C]** um mercado de fatores plenamente integrado, com livre mobilidade de trabalho.
**[D]** uma união aduaneira, com tarifa externa comum aos países-membros.

## ***Direito***

**QUESTÃO 36**

Sobre as decisões definitivas de mérito, proferidas pelo Supremo Tribunal Federal, nas ações diretas de inconstitucionalidade e nas ações declaratórias de constitucionalidade, é **INCORRETO** afirmar:

**[A]** Elas possuem efeitos vinculantes relativamente ao poder legislativo, inclusive em sua função legislativa.
**[B]** Elas possuem eficácia *erga omnes*.
**[C]** Elas possuem efeitos vinculantes relativamente aos demais órgãos do poder judiciário.
**[D]** Elas possuem efeitos vinculantes relativamente à Administração Pública direta e indireta, inclusive na esfera municipal.

**QUESTÃO 37**

Sobre o controle da Administração Pública, é correto afirmar:

**[A]** Em consonância com o art. 74 da constituição federal, o exercício do controle interno depende de lei autorizativa.
**[B]** O controle de mérito do ato administrativo tem a finalidade de verificar se esse ato foi praticado em conformidade com o ordenamento jurídico vigente.
**[C]** Entre as finalidades do controle interno, está a de apoiar o controle externo no exercício de sua missão institucional.
**[D]** A revogação de um ato administrativo decorre do poder de autotutela e consiste na retirada desse ato por razões de ilegalidade.

**QUESTÃO 38**

Sobre o tema de licitações públicas, é correto afirmar:

**[A]** Diálogo competitivo é a modalidade de licitação adequada quando a Administração vise contratar objeto cujas especificações técnicas não possam ser por ela definidas com precisão suficiente.
**[B]** Pregão é a modalidade de licitação para alienação de bens imóveis ou de bens móveis inservíveis ou legalmente apreendidos a quem oferecer o maior lance.
**[C]** No leilão, o critério de julgamento poderá ser o de menor preço ou o de maior desconto.
**[D]** Entre os objetivos do processo licitatório, exclui-se o o de incentivar a inovação e o desenvolvimento nacional sustentável.

**QUESTÃO 39**

Sobre o tema da improbidade administrativa, é correto afirmar:

**[A]** Consideram-se atos de improbidade administrativa as condutas dolosas e culposas tipificadas nos arts. 9º, 10 e 11 da Lei n.º 8.429/1992.

**[B]** Em conformidade com o art. 9º, IV, da Lei n.º 8.429/1992, constitui ato de improbidade administrativa que importa enriquecimento ilícito utilizar, em obra ou serviço particular, trabalho de servidores municipais ou de terceiros contratados pela Administração Pública municipal.

**[C]** Em conformidade com o art. 3º da Lei n.º 8.429/1992, somente agentes públicos podem praticar atos de improbidade.

**[D]** Em conformidade com o art. 11, V, da Lei n.º 8.429/1992, constitui ato de improbidade administrativa que causa prejuízo ao erário a conduta consistente em frustrar, em ofensa à imparcialidade, o caráter concorrencial de procedimento licitatório, com vistas à obtenção de benefício próprio, direto ou indireto, ou de terceiros.

**QUESTÃO 40**

No que concerne à classificação dos créditos adicionais, em conformidade com a Lei n.º 4.320/1964, aqueles destinados a despesas para as quais não haja dotação orçamentária específica são chamados de:

**[A]** créditos suplementares.

**[B]** créditos especiais.

**[C]** créditos extraordinários.

**[D]** créditos quirografários.

**CÂMARA MUNICIPAL DE COMODORO**

EDITAL Nº. 03/2026 – PMC-MT

# *FOLHA DE ANOTAÇÃO DO CANDIDATO*

| Questão | Alternativa |
|---|---|
| 01 | |
| 02 | |
| 03 | |
| 04 | |
| 05 | |
| 06 | |
| 07 | |
| 08 | |
| 09 | |
| 10 | |
| 11 | |
| 12 | |
| 13 | |
| 14 | |
| 15 | |
| 16 | |
| 17 | |
| 18 | |
| 19 | |
| 20 | |

| Questão | Alternativa |
|---|---|
| 21 | |
| 22 | |
| 23 | |
| 24 | |
| 25 | |
| 26 | |
| 27 | |
| 28 | |
| 29 | |
| 30 | |
| 31 | |
| 32 | |
| 33 | |
| 34 | |
| 35 | |
| 36 | |
| 37 | |
| 38 | |
| 39 | |
| 40 | |

Câmara Municipal de Comodoro.

**Esta folha é destinada para uso EXCLUSIVO do candidato.**