CONCURSO PÚBLICO

CORPO DE BOMBEIROS MILITAR ESTADO DO TOCANTINS

EDITAL Nº 001/CFSD-2013/CBMTO

SOLDADO DO QPBM DO CORPO DE BOMBEIROS MILITAR

TIPO 03 - AMARELA

ORGANIZADORA:

Consulplan

CARGO: SOLDADO DO QPBM (QUADRO DE PRAÇAS BOMBEIRO MILITAR)

LÍNGUA PORTUGUESA

Texto I para responder às questões de 01 a 05.

Uma chance de proteger o futuro

Imagine um mundo com secas, tempestades e fome, com ilhas e regiões costeiras inundadas, onde milhões de pessoas morrem por causa da poluição do ar e das águas, enquanto outras buscam refúgio em lugares mais seguros e alguns ainda lutam entre si pelos escassos recursos naturais.

Em contraponto, imagine um mundo com ar e água limpos, com tecnologia, onde casas, transportes e indústrias estejam a serviço de toda a população, onde todos compartilhem os benefícios do desenvolvimento, da industrialização e de recursos naturais; imagine ainda que esta situação possa se sustentar de uma geração para a outra. A escolha entre esses dois futuros cabe a nós.

(Kofi Annan, secretário geral da ONU. Folha de S. Paulo. São Paulo, 30/06/2002. Fragmento.)

01

A forma verbal "Imagine" foi usada no texto com a finalidade de

(A) expressar uma ordem.
(B) expressar uma súplica.
(C) influenciar o interlocutor.
(D) substituir uma oração condicional.

02

No trecho *"... onde milhões de pessoas morrem por causa da poluição do ar e das águas, enquanto outras buscam refúgio..."* os termos em destaque expressam, respectivamente, a ideia de

(A) lugar e tempo.
(B) causa e consequência.
(C) intensidade e alternância.
(D) dúvida e proporcionalidade.

03

Mantendo-se a norma padrão, o trecho *"... onde todos compartilhem os benefícios do desenvolvimento,..."* pode ser substituído pela seguinte reescrita sem que haja mudança de informação:

(A) em que o desenvolvimento compartilhe todos os benefícios.
(B) onde todos os benefícios do desenvolvimento sejam compartilhados.
(C) onde os benefícios do desenvolvimento sejam compartilhados por todos.
(D) em que o desenvolvimento e seus benefícios são compartilhados por todos.

04

Ao introduzir o 2º parágrafo com a expressão "Em contraponto", o articulista estabelece que

(A) no 1º parágrafo foram apresentados fatos, mas no 2º ele irá apresentar seu ponto de vista.
(B) as ideias do 2º parágrafo são uma progressão do exposto no 1º, sendo o 2º uma consequência do 1º.
(C) no 2º parágrafo serão apresentadas situações contrastantes com as que foram apresentadas anteriormente.
(D) a exposição feita no 2º parágrafo é uma continuidade do 1º, de modo a concluir o que foi dito anteriormente.

05

De acordo com o ponto de vista apresentado pelo autor do texto, é correto afirmar que o(a)

(A) corrida tecnológica do século XXI acelerou o processo de destruição do planeta.
(B) ser humano é o responsável pelas ações e consequências no mundo em que vive.
(C) industrialização deve ser contida para que tragédias naturais possam ser evitadas.
(D) população mundial tem praticado ações sustentáveis, resultando em benefícios para todos.

Texto II para responder às questões de 06 a 10.

A questão síria

Às 3 da madrugada de 21 de agosto, um ataque químico dizimou centenas no subúrbio de Damasco. Estimam-se 1,4 mil mortos na capital síria, cerca de 400 deles crianças. As imagens e testemunhos das vítimas rapidamente espalharam-se pela rede e chocaram o mundo. Não se comprovou a autoria do que aconteceu naquela noite nos povoados sob controle de rebeldes sírios, mas atestou-se o uso de gás sarin (substância usada pelos nazistas) que afeta o sistema nervoso e pode matar milhares em pouco tempo. O episódio foi aparentemente encerrado com uma saída diplomática, em que o ditador *Bashar al-Assad*, acusado pelos Estados Unidos de ter atacado seu próprio povo, comprometeu-se a entregar as armas químicas em seu poder.

(Lívia Perozim. Carta na escola. Edição 80. Outubro/2013. Adaptado.)

06

Dentre os trechos a seguir, apenas um apresenta o ponto de vista da autora e não somente uma informação como os demais, indique-o.

(A) *"Estimam-se 1,4 mil mortos na capital síria,..."*
(B) *"... rapidamente espalharam-se pela rede e chocaram o mundo."*
(C) *"Não se comprovou a autoria do que aconteceu naquela noite..."*
(D) *"... comprometeu-se a entregar as armas químicas em seu poder."*

07

O uso do termo "aparentemente" em *"O episódio foi aparentemente encerrado com uma saída diplomática,..."* indica

(A) o encerramento definitivo do episódio citado.
(B) uma aproximação diplomática entre os países citados no texto.
(C) a possibilidade de haver dúvidas referentes ao encerramento do episódio citado.
(D) uma surpresa para a sociedade internacional da solução apresentada para tal episódio.

08

Para que um texto possa ser considerado coeso, são acionados recursos que expressam relações entre elementos e frases. Em *"... cerca de 400 deles crianças."*, o termo em destaque faz referência a

(A) mortos
(B) crianças
(C) centenas
(D) testemunhos

09

***"Não se comprovou a autoria do que aconteceu naquela noite nos povoados sob controle de rebeldes sírios, mas atestou-se o uso de gás sarin..."* Acerca do trecho anterior, é correto afirmar que, entre as**

(A) orações subordinadas, há uma comparação de ideias.
(B) orações subordinadas, há uma indicação de finalidade.
(C) orações coordenadas, ocorre uma relação de alternância.
(D) orações coordenadas, ocorre a indicação de uma ressalva.

10

Considerando o assunto principal do texto e o aspecto abordado, assinale a alternativa que apresenta um título adequado.

(A) Síria e armas químicas.
(B) Conflitos diplomáticos.
(C) Guerra entre Síria e EUA.
(D) O problema das armas químicas.

Texto III para responder às questões de 11 a 20.

Papel aceita tudo

Papel aceita tudo e "papel", nessa expressão surrada dos velhos jornalistas, ocupa aqui a vaga de qualquer espaço útil a mensagens (a tela do computador, o dial do rádio, o sinal da TV, a conversa no bar etc.).

Papel não tem superego, não faz autocrítica, não corrige o que colocamos nele (com o andar da tecnologia da correção automática, alguns dirão, "ainda não"). Da capa de revista que só faz panfletagem direitosa ao programa de auditório ruim, muita coisa é vomitada sem revisão ou segunda opinião.

A tecnologia da comunicação nos abriu horizontes. Mas, de tanto ser usada para manter os privilégios de sempre, a informação parece antes confirmar a preconcepção irrefletida, em vez de ampliar a visão das coisas. Mais do que um gesto de precisão, a revisão (de nossos textos, nossas ideias e certezas) é por isso um ato de carinho para com os outros. É o manifesto verbal de nosso cuidado, do zelo pela convivência, pela criação de um ambiente em comum em que as pessoas possam instigar outras a serem mais criativas e felizes. Não é exagero: o mundo insiste a toda hora no cada um por si, somos mal pagos e trabalhamos demais, é preciso atenção para sentir se o que apresentamos de volta não é só uma nova contribuição de piora, a confirmação de preconceitos, um reforço aos privilégios de poucos.

Na Roma antiga, governantes nomeavam delatores (do latim *delatio*, reportar, contar) para andar pelas ruas, ouvido atento ao que as pessoas diziam deles, e rebater a onda, lançando rumores que lhes fossem benéficos. Nero fez isso quando acusado do incêndio de Roma (64 a.C.). Impopular, foi acusado pelo episódio. Como só desmentir seria ineficaz, mandou espalhar que os culpados eram cristãos – a Geni da época, em quem todos jogavam pedras.

Nero inaugurou o oportunismo do veículo, até hoje em uso. A vida brasileira tem mostrado que é preciso aprender a detectar os sinais desse tipo de oportunismo. Afinal, qualquer que seja a forma que usam para falar com a gente, ela aceitará tudo.

(Luiz Costa Pereira Júnior. Língua Portuguesa. São Paulo: Segmento, julho/2013.)

11

A partir das ideias desenvolvidas ao longo do texto e o enfoque dado a elas, é correto afirmar que o assunto principal tratado diz respeito à

(A) importância da tecnologia da informação nos nossos dias.
(B) história da comunicação vista através de fatos importantes do passado.
(C) necessária crítica e análise da intencionalidade das informações transmitidas.
(D) revisão dos textos para que todos os erros, de acordo com a norma padrão, sejam eliminados.

12

No 1º parágrafo, a palavra "papel" aparece entre aspas para demonstrar que

(A) houve repetição do termo no mesmo período sem comprometer a coesão.
(B) está sendo usada em um sentido geral, referindo-se a um suporte do texto.
(C) há um neologismo criado pelo autor ao atribuir a papel um sentido não usual.
(D) há um sentido irônico no uso do termo, mostrando a baixa utilização do papel.

13

De acordo com as ideias expostas no 3º parágrafo do texto, é correto afirmar que o autor

(A) é contrário à tecnologia da comunicação, preferindo os costumes dos "velhos jornalistas".
(B) reconhece os benefícios da tecnologia da comunicação e assegura que seu uso os confirma.
(C) apesar de reconhecer os benefícios da tecnologia da comunicação, critica a forma como vem sendo utilizada.
(D) reconhece na tecnologia da comunicação um instrumento de exclusão social caracterizando um retrocesso.

14

Diante da estrutura do texto e os recursos utilizados pelo autor, é correto afirmar que se trata, predominantemente, de uma

(A) injunção.
(B) narração.
(C) exposição.
(D) argumentação.

15

É correto afirmar que o autor utiliza, nos 4º e 5º parágrafos, um recurso na construção do texto que

(A) exemplifica concretamente as ideias apresentadas no desenvolvimento textual.
(B) demonstra o registro de uma citação de especialistas acerca do assunto tratado.
(C) demonstra que o texto possui um caráter atual, discutindo questões do século XXI.
(D) contrasta com o desenvolvimento das ideias iniciais, estabelecendo uma refutação de ideias.

16

A palavra em destaque pode ser substituída sem prejuízo de sentido pela expressão indicada em

(A) *"Como só desmentir seria <u>ineficaz</u>,..."* – sem eficácia
(B) *"... do zelo pela <u>convivência</u>,..."* – vivência harmoniosa
(C) *"... confirmar a preconcepção <u>irrefletida</u>,..."* – várias vezes refletida
(D) *"Papel não tem superego, não faz <u>autocrítica</u>,..."* – crítica confiável

17

No trecho *"... um reforço aos privilégios de poucos."* a alteração do trecho em destaque mantém o sentido e a correcão, de acordo com a norma padrão, em

(A) um reforço à regalias de poucos
(B) um reforço às regalias de poucos.
(C) um reforço as regalias de poucos.
(D) um reforço há regalias de poucos.

18

Ao retirar os parênteses do trecho *"... a revisão (de nossos textos, nossas ideias e certezas) é por isso um ato de carinho para com os outros.",* a forma verbal

(A) permanece inalterada.
(B) será substituída por "são".
(C) será substituída pela vírgula.
(D) será substituída pela expressão "deverão ser".

19

Dentre os pares apresentados, indique aquele em que as palavras possuem a mesma justificativa para a acentuação.

(A) útil – só
(B) aceitará – época
(C) rádio – privilégios
(D) benéficos – episódio

20

O termo em destaque *"... não corrige o que colocamos <u>nele</u>..."* (2º§) atua, no texto, como elemento de coesão e tem como referente:

(A) Texto.
(B) Papel.
(C) Superego.
(D) Autocrítica.

RACIOCÍNIO LÓGICO

21

Cinco corredores – João, Antônio, Felipe, Pedro e André – que estavam em 5 equipes diferentes – *Rolt*, *Volx*, *Luni*, *Dimion* e *Thundx* – participaram de uma corrida e terminaram com intervalo de 2 minutos entre eles:

- *o último entre os cinco teve o tempo igual a 117 minutos;*
- *o corredor da equipe Dimion teve um tempo maior que 113 minutos;*
- *quem chegou em 115 minutos não foram os corredores das equipes Rolt e Dimion;*
- *Antônio (da equipe Rolt) não teve o tempo de 111 minutos;*
- *o corredor da equipe Volx teve o tempo maior que Pedro e menor que o corredor da equipe Rolt;*
- *o corredor da equipe Thundx teve o menor tempo;*
- *Felipe é da equipe Luni e João não é da equipe Dimion.*

Sabe-se que o 4º colocado terminou a prova com 114 minutos, então o 2º e 3º colocados dessa corrida, respectivamente, são

(A) Felipe e André.
(B) André e Felipe.
(C) João e Antônio.
(D) Antônio e Felipe.

22

Cinco irmãos nasceram nos seguintes anos: 1984, 1987, 1989, 1991 e 1993. Considere que eles fizeram um concurso e obtiveram os cinco melhores resultados, de acordo com as seguintes informações:

- *o primogênito não tirou a maior nota e nem ficou em último lugar;*
- *a nota obtida pelo segundo irmão mais velho foi superior à nota obtida pelo irmão do meio e inferior à nota obtida pelo caçula;*
- *o penúltimo irmão a nascer obteve o melhor resultado;*
- *a nota obtida pelo irmão mais novo superou a nota de apenas dois dos irmãos;*
- *o segundo irmão a nascer ficou em quarto lugar.*

Se a prova foi realizada no ano de 2010, após o aniversário de cada um dos irmãos daquele ano, então as idades do primeiro para o quinto colocado na época de realização do concurso eram

(A) 23, 21, 19, 17 e 26.
(B) 17, 19, 26, 21 e 23.
(C) 19, 26, 17, 23 e 21.
(D) 21, 17, 23, 26 e 19.

23

A diretora de uma escola afirmou que "todos os alunos desta escola vão mal em alguma matéria", visto que incluíra, também, alunos que vão bem em todas as matérias, ela então negou sua afirmação. Das sentenças a seguir, assinale a que expressa de maneira correta a negação da afirmação da diretora.

(A) Nenhum aluno dessa escola vai mal em alguma matéria.
(B) Algum aluno dessa escola não vai mal em alguma matéria.
(C) Qualquer aluno dessa escola não vai mal em alguma matéria.
(D) Existem alunos que vão mal em alguma matéria e não pertencem a essa escola.

24

A figura a seguir representa um trapézio isósceles:

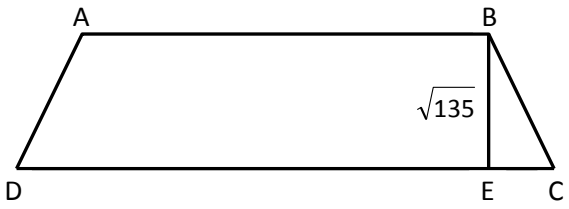

Se o dobro da medida do segmento AB somado com o triplo do segmento CD é 88, a soma de AB e CD é 34 e BE é a altura do trapézio, então o perímetro do trapézio ABCD é

(A) 46.
(B) 48.
(C) 56.
(D) 58.

25

Se a figura apresentada tem área igual a 45 cm^2, então o perímetro é igual a

(A) 38 cm.
(B) 40 cm.
(C) 42 cm.
(D) 44 cm.

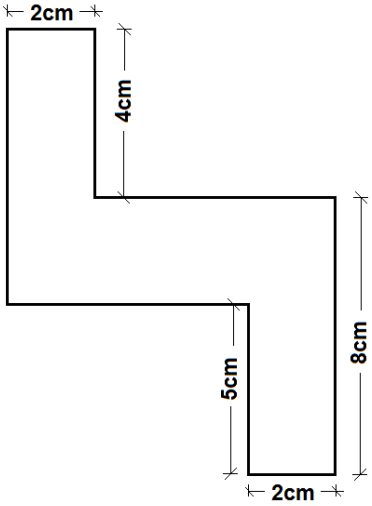

26

Numa geladeira encontram-se garrafas grandes e pequenas de água num total de 36 unidades e 39 litros. Se o número de garrafas pequenas corresponde a um terço do total de garrafas e cada garrafa grande tem 1,5 litro de água, então o volume de água contido em cada garrafa pequena é

(A) 250 ml.
(B) 350 ml.
(C) 500 ml.
(D) 750 ml.

27

Sendo a afirmação "Não é verdade que, se Ricardo está jogando bola, então Lucas está pulando corda", portanto, a afirmação logicamente equivalente a essa é

(A) Ricardo está jogando bola e Lucas está pulando corda.
(B) Ricardo está jogando bola e Lucas não está pulando corda.
(C) Ricardo não está jogando bola ou Lucas está pulando corda.
(D) Ricardo está jogando bola ou Lucas não está pulando corda.

28

Numa geladeira encontram-se 3 caixas de sucos de sabores diferentes: abacaxi, morango e laranja. Analise as seguintes afirmativas.

1ª: O suco de abacaxi está aberto.
2ª: O suco de morango não está aberto.
3ª: O suco de laranja está fechado.

Considerando que apenas uma afirmativa é verdadeira, é correto afirmar que

(A) a 1ª afirmativa é necessariamente falsa.
(B) a 3ª afirmativa é necessariamente falsa.
(C) a 2ª afirmativa é necessariamente verdadeira.
(D) a 1ª afirmativa é necessariamente verdadeira.

29

Considere as proposições abaixo:

I. Outubro é estação do ano e quarta-feira é dia da semana.
II. 8 < 11 ou 10 > 13.
III. Ou I é falso ou II é verdadeiro.

Analisando as assertivas anteriores, é correto afirmar que

(A) I e II são falsas.
(B) somente II é falsa.
(C) somente III é falsa.
(D) I é falsa ou II é falsa.

30

Uma loja de roupas estava com a seguinte promoção:

Número de peças	Desconto
2	10% na segunda peça
3	20% na terceira peça e o desconto anterior
4	30% na quarta peça e os descontos anteriores
5	40% na quinta peça e os descontos anteriores
6	50% na sexta peça e os descontos anteriores

Joana comprou 7 peças e pagou R$ 178,75. Sabendo-se que a 7ª peça não tinha desconto, o valor total do desconto recebido nessa compra foi de

(A) R$ 46,25.
(B) R$ 46,75.
(C) R$ 48,25.
(D) R$ 48,75.

CONHECIMENTOS REGIONAIS E ATUALIDADES

31

Uma das obras mais polêmicas do governo federal, a Usina Hidrelétrica de Belo Monte, mantém-se constantemente em destaque devido às críticas e manifestações referentes aos impactos ambientais que tal obra pode acarretar à Amazônia. Tratada com prioridade pelo governo Dilma, é correto afirmar sobre a construção em questão que

(A) é uma das obras do Programa de Aceleração do Crescimento.
(B) será a maior hidroelétrica em capacidade instalada do planeta.
(C) está sendo construída no rio Araguaia, no estado do Tocantins.
(D) não possui ainda licenciamento do IBAMA e IEF do Amazonas.

32

A taxa de analfabetismo no Brasil parou de cair, segundo dados da Pesquisa Nacional por Amostra de Domicílios (Pnad) divulgada em setembro de 2013. Os dados apontam que, em 2012, a taxa de analfabetismo das pessoas de 15 anos ou mais de idade foi estimada em 8,7%, o que correspondeu ao contingente de 13,2 milhões de analfabetos. Em 2011, essa taxa foi de 8,6% e o contingente foi de 12,9 milhões de pessoas.

(Disponível em: G1 – www.globo.com.br. Acesso em: 27/09/2013.)

Histórico da taxa de analfabetismo no Brasil nas últimas décadas

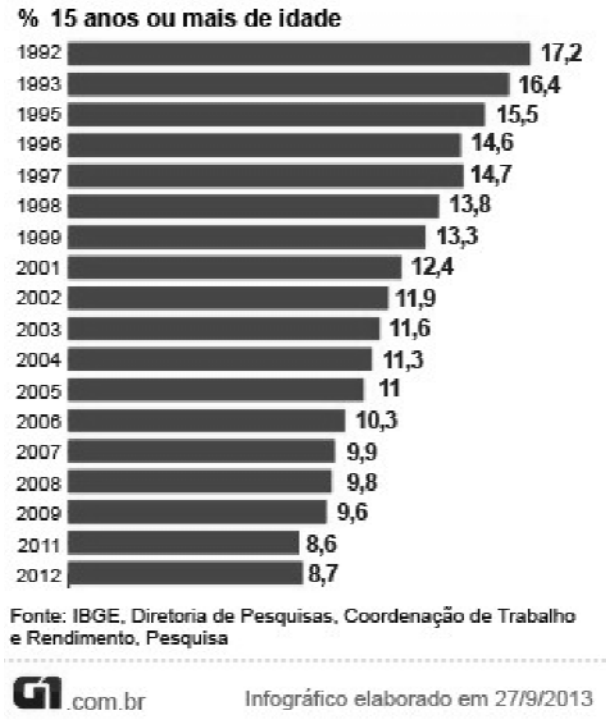

Com base no texto e gráfico apresentados, analise.

I. As maiores reduções aconteceram no governo de Luiz Inácio Lula da Silva.
II. A década de 1990 registrou as maiores reduções na taxa de analfabetismo.
III. Nas últimas décadas é a primeira vez que a taxa de analfabetismo cai no Brasil.

Está(ão) correta(s) apenas a(s) afirmativa(s)

(A) I.
(B) II.
(C) III.
(D) II e III.

Leia o texto e a figura abaixo para responder às questões de 33 a 35.

Há mais de 60 anos os Estados Unidos explodiram duas bombas atômicas sobre as cidades de *Nagasaki* e *Hiroshima*, no Japão, matando mais de 100 mil pessoas, antecipando o fim de uma extensa guerra, o que levou as grandes nações a repensarem sobre o uso deste tipo de armamento. O mapa ilustra a situação atual sobre o potencial bélico das nações possuidoras de armas nucleares.

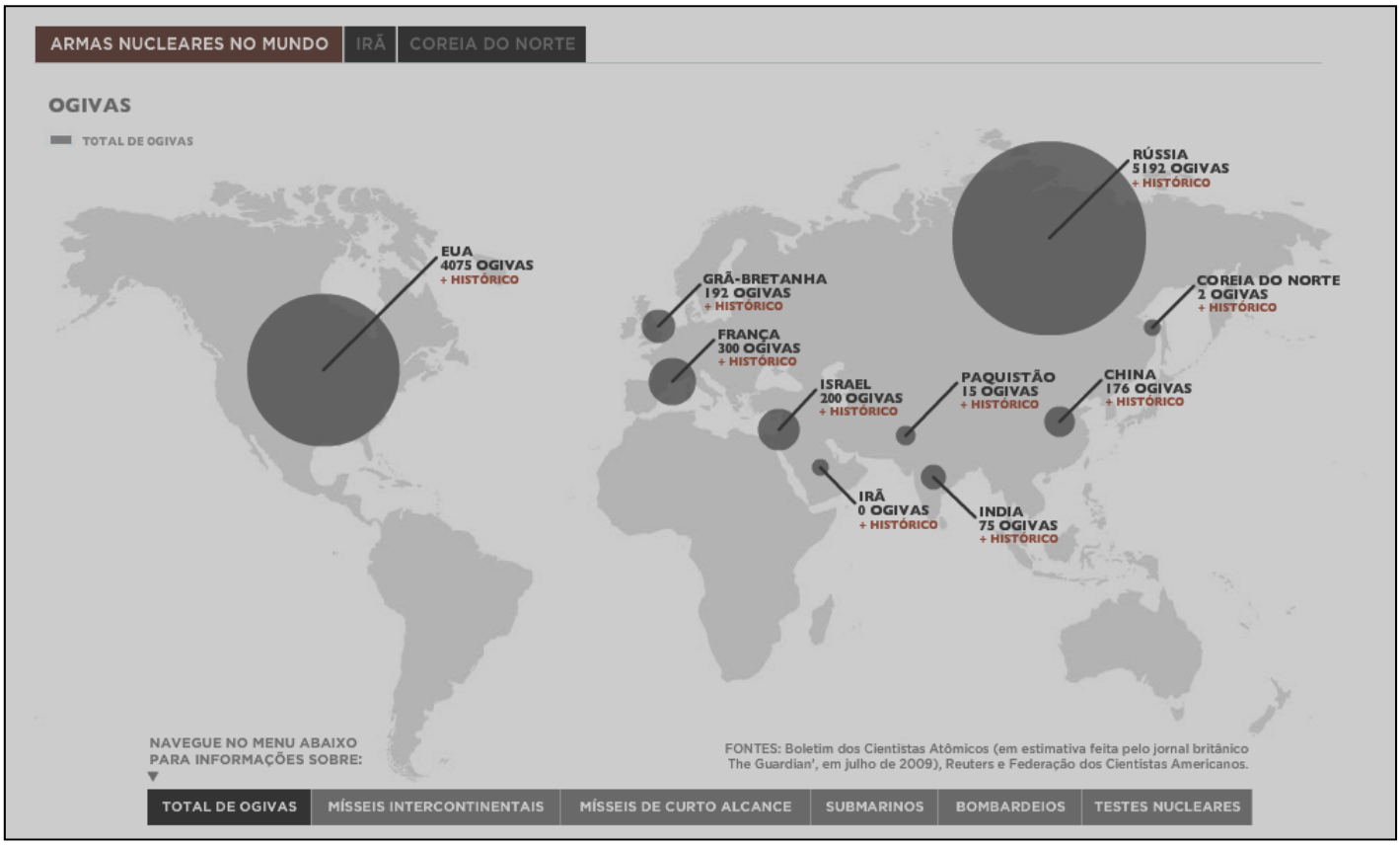

(Brasil Escola. Disponível em: www.brasilescola.com.br.)

33

Com base no mapa anterior, marque V para as afirmativas verdadeiras e F para as falsas.

( ) A África é o único continente que não possui países com armas atômicas.

( ) A Europa possui o maior número de países detentores de armas atômicas.

( ) O hemisfério Norte concentra as nações possuidoras de armas nucleares.

( ) Os países aliados na 2ª Guerra Mundial possuem o maior número de ogivas.

A sequência está correta em

(A) F, F, V, V
(B) F, V, F, V
(C) V, F, V, F
(D) V, V, F, F

34

Dos países destacados no mapa, quais são as nações que, segundo o Tratado de Não Proliferação Nuclear, têm o direito de possuir esse tipo de armamento?

(A) Apenas os Estados Unidos e a Rússia.
(B) Índia, Israel, Irã, Paquistão e Coreia do Norte.
(C) China, Estados Unidos, França, Rússia, Reino Unido e China.
(D) Nenhuma nação possui liberação atualmente para possuir armas atômicas.

35

A grande potência nuclear do Oriente Médio declaradamente, hoje, é

(A) Irã.
(B) Israel.
(C) Coreia do Norte.
(D) Estados Unidos.

36

"Segundo boletim divulgado em 2010 pela Organização dos Países Exportadores de Petróleo (Opep), passou a estar no continente americano, mais especificamente na nação denominada _____, a maior reserva de petróleo do planeta e não mais no(a) _____, no Oriente Médio." Assinale a alternativa que completa correta e sequencialmente a afirmativa anterior.

(A) Brasil / Iraque
(B) Canadá /Kuwait
(C) Estados Unidos / Síria
(D) Venezuela / Arábia Saudita

37

Leia o texto.

Vigílias foram promovidas no fim de semana em vários lugares do mundo para pedir a libertação dos "30 no Ártico". Celebridades, incluindo o ator *Jude Law* e o músico *Damon Albarn*, se juntaram a estimadas 800 pessoas que se reuniram diante da embaixada da Rússia em Londres.

(Folha on-line – Disponível em: www.folha.uol.com.br. Acesso em: 07/10/2013.)

Os detidos são originários de 18 países, dentre eles, o Brasil. Entre os estrangeiros presos no Ártico pela Rússia, está a brasileira Ana Paula Maciel que participou de uma ação do grupo

(A) terrorista *Al Qaeda*.
(B) separatista checheno.
(C) ambientalista *Greenpeace*.
(D) radical islâmico *Boko Haram*.

38

Símbolo da ruptura do Brasil com a Ditadura Militar, abrindo caminho para a democracia no país, a Constituição Federal de 1988, sétima da história do Brasil, completa 25 anos de existência. Sobre o mais importante documento jurídico brasileiro, é INCORRETO afirmar que

(A) presidida por Ulysses Guimarães, a assembleia constituinte precedeu a primeira eleição universal no Brasil que elegeu Tancredo Neves e José Sarney para a presidência e vice-presidência do Brasil.
(B) restabeleceu as eleições diretas para os cargos de presidente da República, governadores de estado e prefeitos municipais, definindo o mandato de 4 anos para mandatário maior do executivo brasileiro.
(C) direito dos analfabetos de votar, fim da censura aos meios de comunicação, obras de artes, músicas, filmes, teatros e similares foram algumas das muitas conquistas alcançadas pela Carta Magna de 88.
(D) teve uma preocupação especial com a garantia dos direitos do cidadão numa clara resposta ao período histórico anterior, ditadura militar, onde os direitos civis foram sucumbidos à força e à intolerância política.

39

Com base no fato histórico retratado, ocorrido há 50 anos, responda o questionamento a seguir.

28.ago.63/Associated Press



Martin Luther King Jr. durante seu famoso discurso *"I Have a Dream"*, feito para 250 mil pessoas em *Washington*, no dia 28 de agosto de 1963.

O momento histórico flagrado nesta fotografia refere-se a um acontecimento ímpar na história da luta da humanidade pelos direitos humanos denominado

(A) Caminhada da paz.
(B) Passeata dos 100 mil.
(C) Insurreição pela igualdade nos EUA.
(D) Marcha de *Washington* pelo Trabalho e pela Liberdade.

40

A frase a seguir, proferida pelo presidente dos Estados Unidos, Barack Obama, foi a resposta ao discurso da presidente Dilma Rousseff, do Brasil, ocorrida na abertura de um grande evento internacional realizado em setembro de 2013. Trata-se do(a)

(Seth Wening/AP/Arte UOL.)

(A) Encontro do G-20, em Moscou.
(B) Conferência Anual da OMC, em Paris.
(C) Fórum Econômico Mundial, em Davos.
(D) Assembleia Geral da ONU, em Nova York.

INFORMÁTICA BÁSICA

41

A ferramenta *Microsoft Excel* 2007 (configuração padrão) é uma planilha eletrônica que pode ser utilizada para realizar diversos cálculos de forma rápida e prática por meio de funções pré-definidas. São funções matemáticas e trigonométricas disponíveis na ferramenta, EXCETO:

(A) RAIZ.
(B) SOMA.
(C) TRUNCAR.
(D) SUBSTITUIR.

42

Na ferramenta *Microsoft Excel* 2007 (configuração padrão), o recurso de Referência Absoluta é utilizado para fazer referência

(A) às células que devem ser alteradas quando a fórmula for copiada.
(B) às células que não devem ser alteradas quando a fórmula for copiada.
(C) à fixação de uma formatação de um texto que não pode ser alterado.
(D) a objetos que não podem ser editados quando colocados em um texto.

43

Utilizando-se o Sistema Operacional *Microsoft Windows* XP (configuração padrão), o procedimento para aumentar a velocidade do ponteiro do *mouse* através do painel de controle é clicar em *mouse*,

(A) selecionar a guia Ponteiros / na caixa de seleção Movimento, selecionar a velocidade desejada e clicar no botão Ok.
(B) selecionar a guia Opções do Ponteiro / na caixa de seleção Movimento, selecionar a velocidade desejada e clicar no botão Ok.
(C) selecionar a guia Opções do Ponteiro / na caixa de seleção Velocidade, selecionar a velocidade desejada e clicar no botão Ok.
(D) selecionar a guia Ponteiros / na caixa de seleção Velocidade do Ponteiro, selecionar a velocidade desejada e clicar no botão Ok.

44

Na ferramenta *Microsoft Excel* 2007 (configuração padrão), o procedimento para excluir uma planilha é selecioná-la e na guia

(A) Página Inicial no grupo Planilha, clicar em Excluir Planilha.
(B) Ferramentas no grupo Configurações, clicar em Excluir Planilha.
(C) Página Inicial no grupo Células, clicar na seta ao lado de Excluir e selecionar Excluir Planilha.
(D) Configurações no grupo Controle, clicar na seta ao lado de Excluir e selecionar Excluir Planilha.

45

Considere a sequência de situações produzidas com a ferramenta *Microsoft Word* 2007 (configuração padrão).

Situação 01:

A capital do Rio Grande no Norte é: Natal

Situação 02:

A capital do Rio Grande no Norte é:

Situação 03:

A capital do Rio Grande no Norte é: Natal

Um usuário digitou determinado texto (situação 01), quando achou que tinha errado e precisou voltar à última digitação (situação 02). Logo em seguida, analisando melhor a situação, percebeu que estava correto o que tinha digitado primeiro e optou por fazer novamente o que havia mudado (situação 03). Com base nos recursos ofertados pela ferramenta em questão, é correto afirmar que o usuário utilizou, respectivamente, os recursos de

(A) Voltar / Refazer.
(B) Refazer / Desfazer.
(C) Desfazer / Refazer.
(D) Desfazer / Avançar.

46

No aplicativo *Internet Explorer* 8 (configuração padrão – idioma Português Brasil), para abrir a cópia da guia atual em uma nova guia, pode-se utilizar o menu Arquivo / Duplicar Guia ou pressionar as teclas

(A) Ctrl + K.
(B) Ctrl + Q.
(C) Ctrl + T.
(D) Ctrl + Tab.

47

Acerca da ferramenta *Microsoft PowerPoint* 2007 (configuração padrão), analise.

I. O Modo de Apresentador possibilita a utilização de múltiplos monitores para fornecer uma visão para o apresentador e outra para o público.
II. Nesta versão não é possível salvar a apresentação no formato PDF.
III. Por padrão, os arquivos produzidos na ferramenta são salvos com a extensão .ppt.

Está(ão) correta(s) apenas a(s) afirmativa(s)

(A) I.
(B) II.
(C) I e III.
(D) II e III.

48

Marcos, proprietário de uma lanchonete, confecciona o seu próprio cardápio utilizando a ferramenta *Microsoft Word* 2007 (configuração padrão), conforme a imagem a seguir:

CENTRAL LANCHES	
Hambúrguer	R$ 3,50
Salgados	R$ 1,00
Doces	R$ 0,50
Refrigerante	R$ 3,50

Um amigo sugeriu a Marcos utilizar um recurso denominado *WordArt* para formatar o nome da empresa de forma mais expressiva, criando uma melhor identificação visual para valorizar mais o seu produto. Para aplicar este recurso, Marcos deverá selecionar o texto "Central Lanches" e

(A) no grupo Texto da guia Inserir, clicar em *WordArt* e selecionar a opção desejada.
(B) no grupo *WordArt* da guia Objetos, clicar em Galeria e selecionar a opção desejada.
(C) no grupo Formatação da guia Início, clicar em *WordArt* e selecionar a opção desejada.
(D) no grupo *WordArt* da guia Formatar, clicar em Adicionar Objetos e selecionar a opção desejada.

49

Marcelo é advogado e utiliza no seu cotidiano a ferramenta *Microsoft Word* 2007 (configuração padrão) para formular suas petições. No final de cada documento Marcelo assina o seu nome – Marcelo Ventura Fritzz, porém a ferramenta não reconhece seu último nome como uma palavra válida, sendo necessário pressionar a tecla F7 para acionar o corretor de ortografia. Para que o último nome de Marcelo seja sempre aceito pela ferramenta como uma palavra reconhecida todas as vezes em que for digitada, deve-se, na tela de verificação de ortografia, quando acusar erro nesta palavra, clicar no botão

(A) Ignorar.
(B) Ignorar uma vez.
(C) Adicionar Entrada.
(D) Adicionar ao Dicionário.

50

Na utilização diária do computador vários arquivos são criados, alterados e excluídos, ocasionando, com o passar do tempo, na fragmentação do disco, o que torna o computador mais lento devido à necessidade de se procurar em locais diferentes um arquivo, quando solicitado, para abrir. Utilizando-se o Sistema Operacional *Microsoft Windows* XP (configuração padrão), a ferramenta que reorganiza os dados no disco, reunindo os arquivos fragmentados, é o

(A) *backup*.
(B) gerenciador de disco.
(C) fragmentador de disco.
(D) desfragmentador de disco.

NORMAS DO CBMTO

51

Acerca das responsabilidades das unidades operacionais, conforme regulamentado pela Lei Complementar nº 45/06, analise as afirmativas.

I. Para efeito de emprego dos Batalhões de Bombeiro Militar, o Estado do Tocantins é dividido em áreas, obedecidas as características regionais e atribuídas as atividades operacionais a cada uma das unidades responsáveis por âmbito de atuação.
II. Na Capital e nas maiores cidades do interior, entendidas aquelas com mais de 200 mil habitantes, as áreas de responsabilidade dos Batalhões de Bombeiro Militar serão sempre divididas, criando-se mecanismos de integração para realizar as atividades entre unidades operacionais distintas.
III. As Unidades de Bombeiro Militar são instaladas por decreto do Comandante Geral da Corporação, nomeado pelo Chefe do Poder Executivo.

Está(ão) correta(s) apenas a(s) afirmativa(s)

(A) I.
(B) II.
(C) III.
(D) I e II.

52

O Estatuto dos Policiais Militares e Bombeiros Militares do Estado do Tocantins (Lei nº 2.578/2012) trata, dentre outros assuntos, das condutas vedadas aos militares. Sobre o tema, assinale a afirmativa INCORRETA.

(A) Ao militar são proibidas a sindicalização e a greve, bem como a filiação a partido político enquanto permanecer em atividade.
(B) Ao bombeiro militar da ativa é proibido elaborar projeto contra incêndio e pânico, sendo-lhe permitido colaborar para sua apresentação nos pontos relativos à segurança e prevenção de acidentes.
(C) É proibida ao militar a manifestação individual ou coletiva sobre atos de superiores, de caráter reivindicatório e de cunho político-partidário, e sobre assuntos de natureza militar de caráter sigiloso.
(D) Ao militar da ativa é vedado comerciar ou tomar parte na administração ou gerência de sociedade, ou delas ser sócio ou participar, exceto como acionista ou cotista, em sociedade anônima ou sociedade empresária limitada.

53

Segundo o Estatuto dos Policiais Militares e Bombeiros Militares do Estado do Tocantins (Lei nº 2.578/2012), a exclusão do serviço ativo da Corporação NÃO é feita em consequência de

(A) reforma.
(B) extravio.
(C) deserção.
(D) desaparecimento.

54

Em relação às disposições da Lei Complementar nº 45/06, marque V para as afirmativas verdadeiras e F para as falsas.

( ) O Comandante-Geral do Corpo de Bombeiros Militar, na forma da legislação em vigor, pode utilizar pessoal civil para a prestação de serviços de natureza técnica, especializada ou para serviços gerais.

( ) O CBMTO, nos casos de matéria não regulada em legislação específica, adota leis, decretos, regulamentos e normas em vigor da Polícia Militar do Estado do Tocantins, sendo vedado, entretanto, utilizar-se, supletivamente, da legislação do Exército Brasileiro, mesmo se lhe for tecnicamente pertinente.

( ) Compete ao Chefe do Poder Executivo a criação, transformação, extinção, denominação, localização e estruturação dos órgãos de Direção, Apoio e Execução do Corpo de Bombeiros Militar.

( ) O Comando Geral da Corporação é composto dos seguintes órgãos de Direção: Comandante-Geral, Estado-Maior, Coordenadoria Estadual de Defesa Civil, Assessorias e Comissões.

A sequência está correta em

(A) F, F, V, F
(B) V, V, F, F
(C) V, F, V, V
(D) F, V, F, V

55

De acordo com o Estatuto dos Policiais Militares e Bombeiros Militares do Estado do Tocantins (Lei nº 2.578/2012), no capítulo que regula a violação das obrigações e dos deveres, é correto afirmar que o(a)

(A) apuração da responsabilidade administrativa ou penal pode concluir pela incompatibilidade do militar com o cargo e pela incapacidade para o exercício das funções militares a ele inerentes.
(B) gravidade da violação das obrigações, dos preceitos ou dos deveres militares está estritamente vinculada à natureza do ato praticado, sendo irrelevante o grau hierárquico do infrator.
(C) Comandante-Geral é competente para instaurar ou determinar a instauração de sindicância e aplicar as sanções disciplinares em relação a todos os integrantes das corporações militares estaduais, inclusive a demissão de oficial.
(D) inobservância dos deveres previstos em leis e regulamentos ou a falta de exação no cumprimento deles acarreta, para o militar, apenas responsabilidade funcional e disciplinar, sendo vedada a atribuição de responsabilidade pecuniária e/ou penal.

56

De acordo com as conceituações trazidas pelo Estatuto dos Policiais Militares e Bombeiros Militares do Estado do Tocantins (Lei nº 2.578/2012), assinale a afirmativa correta.

(A) Função militar é o exercício das atribuições inerentes ao cargo, comissão, encargo ou incumbência.
(B) Corporação é todo o território do município no qual se localizem as instalações administrativas de uma organização Militar.
(C) Missão, tarefa ou atividade é o efetivo desempenho de cargo, comissão, encargo, incumbência, serviço, função de natureza ou de interesse militar, previsto em leis ou outros dispositivos legais.
(D) Licenciamento é o período de afastamento temporário do serviço, concedido ao militar cuja movimentação implique, obrigatoriamente, mudança de município. Destina-se aos preparativos decorrentes da mudança.

57

Nos termos do Estatuto dos Policiais Militares e Bombeiros Militares do Estado do Tocantins (Lei nº 2.578/2012), são punições disciplinares a que estão sujeitos os militares, EXCETO:

(A) Multa.
(B) Prisão.
(C) Advertência.
(D) Reforma disciplinar.

58

Acerca das normas relativas à hierarquia e disciplina contidas no Estatuto dos Policiais Militares e Bombeiros Militares do Estado do Tocantins (Lei nº 2.578/2012), assinale a afirmativa INCORRETA.

(A) Cabe ao militar a responsabilidade integral pelas decisões que tomar, pelas ordens que emitir e pelos atos que praticar, atendido o disposto no Código Penal Militar.
(B) A hierarquia e a disciplina são a base institucional da Polícia Militar e do Corpo de Bombeiros Militar; a autoridade e a responsabilidade crescem com o grau hierárquico.
(C) A estrutura hierarquizada da corporação é pautada pela lealdade, capacidade profissional e técnica de seus integrantes, não sendo mais adequada a utilização do termo subordinação, o qual afeta a dignidade do militar.
(D) Círculos hierárquicos são âmbitos de convivência entre os militares da mesma categoria e têm a finalidade de desenvolver o espírito de camaradagem em ambiente de estima e confiança, sem prejuízo do respeito mútuo.

59

De acordo com a estrutura organizacional do Corpo de Bombeiros Militar do Estado do Tocantins, regulamentado pela Lei Complementar nº 45/06, relacione os órgãos às respectivas características.

1. Órgãos de direção.
2. Órgãos de execução.
3. Órgãos de apoio.

( ) Realizam o comando e a administração da Corporação.
( ) Constituem as unidades operacionais e realizam as atividades-fim do CBMTO, cumprindo as missões ou a destinação da Corporação, dentre outras funções.
( ) Responsáveis pelo planejamento geral estratégico para a organização e o desenvolvimento pleno das missões da Corporação.
( ) Realizam as atividades-meio da Corporação, atendendo às necessidades de pessoal, material e ensino, telecomunicações e telemática do Corpo de Bombeiros Militar.

A sequência está correta em

(A) 1, 3, 2, 3
(B) 1, 2, 1, 3
(C) 2, 1, 3, 2
(D) 2, 3, 1, 2

60

Nos termos da Lei Complementar nº 45/06, assinale a alternativa que NÃO retrata uma das competências do Corpo de Bombeiros Militar do Estado do Tocantins (CBMTO).

(A) O exercício do poder de polícia no âmbito de sua competência.
(B) A perícia no local do sinistro no caso de crime de homicídio que envolva fogo, explosivos ou outro meio insidioso.
(C) O estabelecimento de normas relativas à segurança do cidadão e de seu patrimônio contra incêndio e catástrofes ou pânico.
(D) O planejamento e execução de ações preventivas, emergenciais ou de socorro, assistenciais e recuperativas no âmbito da defesa civil.

PROVA ESCRITA DISCURSIVA

ORIENTAÇÕES GERAIS

1. A Prova Escrita Discursiva para o cargo de Soldado do QPBM:
1.1. vale 20 (vinte) pontos e será constituída de uma redação, versando sobre atualidades e conhecimentos gerais e regionais composta de, no mínimo, 20 (vinte) e, no máximo, 30 (trinta) linhas;
1.2. deve ser manuscrita, de forma legível, sendo obrigatório o uso de caneta esferográfica de tinta azul ou preta e a resposta definitiva da Redação deverá ser, obrigatoriamente, transcrita para o espaço indicado na folha de texto definitivo.
2. A folha de texto definitivo da Prova Escrita Discursiva não poderá ser assinada, rubricada, nem conter qualquer marca que identifique o candidato, sob pena de anulação e automática eliminação do Concurso Público.
3. A folha de texto definitivo será o único documento válido para a correção da Prova Escrita Discursiva. A folha para rascunho no Caderno de Questões é de preenchimento facultativo e não valerá para avaliação.
4. A folha de texto definitivo não será substituída por erro de preenchimento do candidato.

Texto I

Incêndio florestal

No Tocantins, o trabalho de combate a incêndio florestal tem como principal objetivo preservar a vida humana e o meio ambiente.

O Corpo de Bombeiros atua, juntamente com o Naturatins, Cipama e Ibama no combate aos focos de calor, além de desenvolver ações que visam conscientizar a comunidade sobre os prejuízos causados pelas queimadas descontroladas.

(Disponível em: http://www.bombeiros.to.gov.br/interna.php?tipo=estatico&id=20.)

Texto II

Queimadas e Incêndios Florestais – Monitoramento Orbital e Risco de Fogo

Ocorrência do Fogo na Vegetação é o tema do portal http://queimadas.inpe.br, desenvolvido no INPE, Instituto Nacional de Pesquisas Espaciais. Ele inclui o monitoramento operacional de focos de queimadas e de incêndios florestais detectados por satélites, e o cálculo e previsão do risco de fogo da vegetação.

Os dados para a América do Sul e a Central, África e Europa, são atualizados a cada três horas, todos os dias do ano. O acesso às informações é livre, e no navegador da *Internet* usado deve estar desbloqueada a carga das janelas *pop up* para acesso a várias figuras, tabelas e gráficos.

Usuários que necessitam de focos com maior frequência temporal ou monitoramento em áreas específicas deverão consultar as "Perguntas Frequentes".

(INPE – Instituto Nacional de Pesquisas Espaciais, 2012. Portal do Monitoramento de Queimadas e Incêndios. Disponível em: http://www.inpe.br/queimadas. Acesso em: 24/10/2013. Adaptado.)

Texto III

Brasil está acima da média em *ranking* de preservação do meio ambiente

O Brasil tem desempenho acima da média mundial em relação à preservação do meio ambiente, apesar de registrar elevados níveis de desmatamento, informou hoje (3) o Fórum Econômico Global. A conclusão consta do Relatório de Competitividade Global de 2013-2014.

"O Brasil tem bom desempenho em vários indicadores ambientais, mas tem uma colocação baixa em termos de desmatamento. No entanto, o desempenho ruim no indicador de mudança de cobertura florestal é compensado pelos bons resultados em outras áreas. Consequentemente, o Brasil tem desempenho acima da média na sustentabilidade ambiental apesar do desmatamento", ressalta o levantamento.

(Disponível em: http://www.jb.com.br/ciencia-e-tecnologia/noticias/2013/09/03/brasil-esta-acima-da-media-em-ranking-de-preservacao-do-meio-ambiente/.)

Com base nos textos motivadores, produza um texto dissertativo-argumentativo com o tema:

"O papel da segurança pública diante do combate a fatores contrários à preservação do meio ambiente".

01	
02	
03	
04	
05	
06	
07	
08	
09	
10	
11	
12	
13	
14	
15	
16	
17	
18	
19	
20	
21	
22	
23	
24	
25	
26	
27	
28	
29	
30	

RASCUNHO

INSTRUÇÕES

1. Material a ser utilizado: caneta esferográfica de tinta azul ou preta. Os objetos restantes devem ser colocados em local indicado pelo fiscal da sala, inclusive aparelho celular desligado e devidamente identificado.

2. Não é permitida, durante a realização das provas, a utilização de máquinas calculadoras e/ou similares, livros, anotações, réguas de cálculo, lápis, lapiseira (grafite), borracha, corretivo, impressos ou qualquer outro material de consulta, inclusive códigos e/ou legislação. Especificamente, não é permitido que o candidato ingresse na sala de provas sem o devido recolhimento, com respectiva identificação, dos seguintes aparelhos eletrônicos: telefone celular, agenda eletrônica, aparelhos MP3, *pendrive*, *notebook*, *palmtop*, *ipad*, *ipod*, *tablet*, *smartphone*, receptor, gravador, calculadora, câmera fotográfica, controle de alarme de carro etc., bem como relógio de qualquer espécie, óculos escuros, protetor auricular ou quaisquer acessórios de chapelaria, tais como chapéu, boné, gorro etc.

3. Durante a prova, o candidato não deve levantar-se, comunicar-se com outros candidatos e nem fumar.

4. A duração da prova é de 05 (cinco) horas, já incluindo o tempo destinado à entrega do Caderno de Questões e à identificação – que será feita no decorrer da prova – e ao preenchimento da Folha de Respostas (Gabarito) e da Folha de Texto Definitivo (Prova Escrita Discursiva).

5. Somente em caso de urgência pedir ao fiscal para ir ao sanitário, devendo no percurso permanecer absolutamente calado, podendo antes e depois da entrada sofrer revista através de detector de metais. Ao sair da sala, no término da prova, o candidato não poderá utilizar o sanitário. Caso ocorra uma emergência, o fiscal deverá ser comunicado.

6. O Caderno de Questões consta de 60 (sessenta) questões de múltipla escolha. Leia-o atentamente.

7. As questões da prova objetiva são do tipo múltipla escolha, com 04 (quatro) alternativas (A a D) e uma única resposta correta.

8. Será aplicada a Prova Escrita Discursiva, constituída de uma redação, versando sobre atualidades e conhecimentos gerais e regionais.

9. Ao receber o material de realização das provas, o candidato deverá conferir atentamente se o Caderno de Questões está completo, bem como se os dados constantes na Folha de Respostas (Gabarito) e na Folha de Texto Definitivo (Prova Escrita Discursiva) que lhe foram fornecidos estão corretos. Caso os dados estejam incorretos, ou o material esteja incompleto, ou tenha qualquer imperfeição, o candidato deverá informar tal ocorrência ao fiscal.

10. Os fiscais não estão autorizados a emitir opinião e prestar esclarecimentos sobre o conteúdo das provas. Cabe única e exclusivamente ao candidato interpretar e decidir.

11. O candidato poderá retirar-se do local de provas somente a partir de 2 (duas) horas após o início de sua realização, contudo não poderá levar consigo o Caderno de Questões, sendo permitida essa conduta apenas no decurso dos últimos 60 (sessenta) minutos anteriores ao horário previsto para o seu término.

12. Os três últimos candidatos, ao terminarem as provas, deverão permanecer juntos no local de provas, sendo liberados após a entrega do material utilizado, terem seus nomes registrados na Ata e estabelecidas suas respectivas assinaturas.

RESULTADOS E RECURSOS

- A prova aplicada, assim como o gabarito preliminar da prova objetiva, serão divulgados na *Internet*, no endereço eletrônico **www.consulplan.net, a partir das 16h00min do dia subsequente ao da sua realização.**

- O candidato que desejar interpor recursos contra o gabarito preliminar da prova objetiva disporá de **2 (dois) dias úteis** para fazê-lo, a contar do dia subsequente à divulgação, ou seja, de 0h00min do dia 12 até às 23h59min do dia 13 de novembro de 2013, ininterruptamente, observado o horário oficial do Estado do Tocantins, por meio do endereço eletrônico **www.consulplan.net**.