Língua Portuguesa

Questões de 1 a 15

Instrução | Para responder a essas questões, identifique APENAS UMA ÚNICA alternativa correta e marque o número correspondente na Folha de Respostas.

Questões de 1 a 8

TEXTO:

Engolidos pela favela

A imensidão da Mata Atlântica, no Rio de Janeiro, que se descortinava do Alto da Gávea, hoje apelidado de Baixo Rocinha, foi desaparecendo à medida que a favela da Rocinha se alastrava a passos largos pelo morro. Um dos moradores desse bairro nobre declarou: "O odor reinante aqui é uma mistura de lixo com esgoto, e o som varia entre tiroteio e baile funk. Verde, quase não se vê mais." Como lá, várias áreas mais nobres do Rio, aquelas também de maior IPTU, estão hoje cercadas de barracos por todos os lados — retrato de um acelerado processo de expansão das favelas que, ano a ano, ganha novo impulso por uma questão de cunho demográfico. Novas projeções, conduzidas pelo demógrafo Kaizô Beltrão, da Escola Nacional de Ciências Estatísticas do IBGE, indicam que até o fim de 2010 a população das 1020 favelas cariocas atingirá 1,3 milhão de habitantes — 22% mais do que uma década atrás. O número salta aos olhos: é quase o dobro do ritmo populacional do restante da cidade. No Rio, um de cada cinco moradores já vive em favelas e, mantido o ritmo até 2020, esse será o caso de um em quatro cariocas. Explica Kaizô Beltrão: "As altas taxas de fecundidade estão contribuindo de forma decisiva para o inchaço dos morros."

Evidentemente existem outras razões para a visível proliferação das favelas cariocas — um processo secular que tem suas raízes cravadas na constante complacência das autoridades. Os primeiros registros de ocupação ilegal de terras no Rio de Janeiro datam do século XIX, época em que os escravos recém-liberados começaram a se instalar maciçamente nos morros. Já no século XX, sobretudo a partir da década de 50, com a industrialização do país, grandes levas de nordestinos aportaram na cidade em busca de emprego e fincaram seus barracos nas favelas — que inflaram. Em São Paulo, ocorreu algo semelhante com a diferença de que, no Rio, o crescimento da população favelada foi abertamente incentivada pelo populismo reinante.

Para o problema não há outra saída senão o Estado se fazer presente nas favelas — algo que, por décadas a fio, não aconteceu. Os especialistas são unânimes em afirmar que o rumo mais acertado, nesse caso, passa pela incorporação das favelas à cidade. Diz o urbanista Sérgio Magalhães: "Só com a legalização dos imóveis e a urbanização dos morros, elas deixarão de viver à margem do Estado e da lei e se integrarão, enfim, à economia formal". A recente ocupação de alguns morros pela polícia, por meio das unidades pacificadoras, tem cumprido um papel básico e decisivo para isso: expulsar os bandidos das favelas. Um bom começo. Os galopantes indicadores demográficos — e a própria fotografia da cidade engolida por favelas — mostram que é preciso, mais do que nunca, acelerar o passo.

SOARES, Ronaldo. Engolidos pela favela. **Veja**, São Paulo: Abril, ed. 2156, ano 43, n. 11, p. 94-96, 17 mar. 2010. Adaptado.

QUESTÃO 1

De acordo com o texto, a favelização dos morros do Rio e de São Paulo é um problema

01) irrefreável, por causa dos elevados índices de fertilidade dos que aí residem.
02) social, em face da inação do poder constituído, que faz vista grossa para a questão em apreço.
03) insolúvel, pela desigualdade social reinante, principalmente nessa região do país.
04) militar, já que somente a força armada é capaz de pôr ordem em locais que vivem à margem do Estado e da lei.
05) atual, devido à população de baixa renda não encontrar meios de sobrevivência em seu local de origem e migrar para as cidades em busca de trabalho.

QUESTÃO 2

Sobre as informações contidas no texto, identifique com **V** as afirmativas verdadeiras e com **F**, as falsas.

( ) A acomodação dos moradores dos bairros nobres muito contribui para o crescente avanço dos barracos nos morros existentes em seu entorno.
( ) A expansão das favelas, nas megalópoles, implica a degradação dos bairros nobres próximos a elas e a desvalorização dos imóveis que os compõem.
( ) A ação enérgica da polícia nos morros do Rio de Janeiro, embora de caráter pacificador, prova que a delinquência tem freio e a questão enfocada, solução.
( ) A desinformação sobre os métodos contraceptivos — infere-se — tem sido o real motivo da explosão demográfica nessas áreas marcadas pela ausência das autoridades e pela ocupação ilegal.
( ) A sinalização dos urbanistas quanto à incorporação das favelas à cidade, mesmo sendo uma questão que demanda vontade política e verba, minimizaria boa parte dos problemas sociais nelas existentes.

A alternativa que contém a sequência correta, de cima para baixo, é a

01) V F F V F
02) F V F V V
03) F V V F V
04) V V F F F
05) V V V V V

QUESTÃO 3

A leitura do texto admite como síntese do assunto de que ele trata a ideia expressa pelo provérbio

01) "Tudo na vida quer tempo e medida".
02) "O que não tem remédio, remediado está".
03) "O bom julgador por si julga os outros".
04) "Quem não sabe obedecer não sabe mandar".
05) "Deus ajuda aos que se ajudam".

QUESTÃO 4

A análise dessa matéria permite concluir que a única informação **sem respaldo textual** é a que afirma que o autor

01) ressignifica alguns termos na construção de sentidos da mensagem que transmite.
02) evita o uso de marcas linguísticas evidenciadoras de sua presença no discurso que constrói.
03) interage com outros enunciadores em busca de comprovação para o ponto de vista que defende.
04) enumera as dificuldades da atuação do Estado nas favelas, como é o caso, por exemplo, dos direitos humanos, tão reivindicados pelas instituições não governamentais sobretudo.
05) procura demonstrar a urgência da intervenção do Estado na questão em apreço a fim de evitar maiores complicações futuras.

QUESTÃO 5

O título do texto passa uma mensagem de forma

01) irônica.
02) inadequada.
03) irreverente.
04) zombeteira.
05) paradoxal.

QUESTÃO 6

A alternativa em que há equivalência de sentido entre o fragmento transcrito, devidamente contextualizado, e o que se propõe a seguir, em itálico, é

01) "foi desaparecendo à medida que a favela da Rocinha se alastrava" (*l.* 3-4) — *foi-se extinguindo na medida em que a favela da Rocinha ganhava terreno.*
02) " 'Verde, quase não se vê mais.' " (*l.* 7) — *Verde, praticamente já não se vê.*
03) "é quase o dobro do ritmo populacional do restante da cidade." (*l.* 17-18) — *é seguramente duas vezes o ritmo do contingente do resto da metrópole.*
04) "Já no século XX, sobretudo a partir da década de 50" (*l.* 29-30) — *Exatamente no século XX, excepcionalmente desde a década de 50.*
05) "Para o problema não há outra saída senão o Estado se fazer presente nas favelas" (*l.* 36-37) — *Diante da situação, não existe outro caminho salvo as autoridades atuarem nas favelas.*

QUESTÃO 7

Sobre os recursos linguísticos usados no texto, marque com **V** as afirmativas verdadeiras e com **F**, falsas.

( ) "estão [...] cercadas" (*l.* 9) é uma forma verbal que se apresenta na voz passiva e sua transposição para a ativa implica a observância da correlação modo-temporal para preservar o sentido original do contexto.
( ) "ano a ano" (*l.* 11) está entre vírgulas pela mesma razão que "da Escola Nacional de Ciências Estatísticas do IBGE" (*l.* 13-14).
( ) "visível" (*l.* 23) e "raízes" (*l.* 25) são paroxítonas acentuadas por razões diferentes.
( ) "existem" (*l.* 23) pode ser substituída pela forma verbal "há" (*l.* 36) sem nenhum prejuízo de ordem gramatical, o mesmo não ocorrendo em relação à troca de "há" por "existem", tendo-se em vista o contexto frasal em que ambas se encontram.
( ) "fincaram" (*l.* 32) e inflaram" (*l.* 33) estão no plural, concordando com o mesmo sujeito, que também está no plural.

A alternativa que contém a sequência correta, de cima para baixo, é a

01) F V V F V
02) F V F V V
03) V F V V F
04) V V F F F
05) V V V V V

QUESTÃO 8

O acento indicativo de crase presente no fragmento "e se integrarão, enfim, à economia formal", (*l.* 43) foi usado pela mesma razão do que aparece na frase indicada em

01) Aquele urbanista falou que vivia à custa dos projetos que fazia.
02) Um cantor de funk disse que o toque de recolher, na favela em que morava, batia à zero hora.
03) Um habitante de São Paulo declarou em alta voz: "Voltarei logo à São José do Rio Preto".
04) Os habitantes das favelas se entregaram, de corpo e alma, à festividade local.
05) O morador do Alto da Gávea, por causa daquele odor forte, rejeitou o bife à milanesa de que gostava tanto.

Questões de 9 a 13

TEXTO:

O problema de policiar a polícia

Os oficiais da Polícia Militar de São Paulo responsáveis por investigar seus pares contam que nenhuma notícia se espalha mais rápido na corporação do que uma visita deles a alguma unidade. "A corregedoria está aí!", comentam os policiais pelos corredores, ao mesmo tempo curiosos e apreensivos. O fato de que podem ser punidos é o maior impedimento para que cometam alguma irregularidade ou crime. No entanto, como quem investiga policiais são também policiais, as corregedorias tanto das PMs como das polícias civis enfrentam uma dificuldade: evitar que o corporativismo e o jogo interno de influências inviabilizem a punição da banda podre das instituições. Um estudo inédito feito pelos pesquisadores Sandro Cabral, da Universidade Federal da Bahia (UFBA), e Sérgio Lazzarini, do Instituto de Ensino e Pesquisa (Insper), de São Paulo, confirma estatisticamente esse problema e aponta algumas soluções. Cabral e Lázaro analisaram 639 processos disciplinares contra policiais civis de um dos cinco maiores estados brasileiros (como condição para ter acesso aos dados, os pesquisadores se comprometeram a não divulgar o nome da federação estudada). O levantamento revela que suspeitos de alto nível hierárquico são punidos com menor frequência e que acusações de extorsão são menos toleradas do que as de agressão física. A experiência do policial investigado conta muito em seu favor: a probabilidade de que aqueles com mais de cinco anos de profissão sejam punidos com demissão é bem menor do que quando o acusado é um novato.

A dificuldade de punir oficiais de alto escalão é uma questão sensível em todos os estados brasileiros, em grande parte porque são raras as corregedorias com autonomia em relação ao comando das instituições cuja atuação devem monitorar. O modelo predominante no país consiste em cada polícia ter seu próprio departamento de investigação interno, em geral sem estabilidade no cargo.

Os tipos mais comuns de punição administrativa a policiais são a advertência, a suspensão e a expulsão. No estudo de Cabral e Lazzarini, a maior de todas as punições — a expulsão — é aplicada mais comumente a policiais corruptos do que a acusados de agressão ou homicídio. A atividade policial pressupõe o uso da força, mas o limite entre a violência necessária e o abuso é tênue. Por isso, é preciso investir tanto na seleção criteriosa dos candidatos como em treinamento contínuo. "Mas é preciso deixar claro que a aquisição de princípios éticos vem de casa. Não dá para fazer milagre: o policial é apenas o reflexo de uma sociedade cujos cidadãos furam o sinal vermelho e falsificam carteira de estudante para pagar meia entrada", diz Sandro Cabral.

SCHELP, Diogo. O problema da polícia policiar a polícia. **Veja**, São Paulo, ed. 2150, ano 43, n. 5, p. 64-65, 2010. Adaptado.

QUESTÃO 9

Identifique as afirmativas verdadeiras (**V**) e as falsas (**F**).

O texto evidencia a necessidade de

( ) mudanças estruturais no setor investigativo de policiais.

( ) investimentos significativos na formação do policial brasileiro.

( ) critérios mais justos na aplicação de penalidades a todo e qualquer militar.

( ) reforço dos princípios éticos que devem conduzir o ser humanos em suas ações.

( ) contenção do abuso de violência que permeia, não raro, a ação militar, através de treinamento e punição.

A alternativa que contém a sequência correta, de cima para baixo, é a

01) V V V V V
02) F V F V V
03) V V F F F
04) V F V V F
05) F V V F V

QUESTÃO 10

Da fala de Sandro Cabral, no último parágrafo do texto, descarta-se a ideia de

01) ressalva ao papel da educação doméstica na vida humana.
02) avaliação crítica da sociedade atual.
03) policial como fruto do meio em que vive.
04) aquisição de boa conduta no seio da própria família.
05) negação da existência de milagres.

QUESTÃO 11 CASURE1

Está de acordo com a ideia expressa no contexto o que se afirma sobre o termo transcrito em

01) "banda podre" (*l.* 12) é uma expressão que está usada em seu sentido literal.
02) "do que" (*l.* 23) expressa comparação e não admite apenas o uso de "que" para indicar a mesma ideia.
03) "bem" (*l.* 27) está empregado como reforço de "menor" (*l.* 27).
04) "Por isso" (*l.* 43) denota, nesse caso, modo.
05) "como" (*l.* 44) pode ser substituído por *quanto*, sem comprometimento de sentido da frase.

QUESTÃO 12

No texto, o termo

01) "mais" (*l.* 3) modifica "rápido" (*l.* 3), quantificando a ação por ele expressa.
02) "alguma" (*l.* 4) define o termo "unidade" (*l.* 4).
03) "se" (*l.* 19) indica reflexibilidade.
04) "seu" (*l.* 25) retoma a ideia de "levantamento" (*l.* 21).
05) "cuja" (*l.* 32) tem como referente a palavra "autonomia" (*l.* 31).

QUESTÃO 13

Possui a mesma regência que "visita" (*l.* 3) o nome

01) "fato" (*l.* 6).
02) "acesso" (*l.* 19).
03) "probabilidade" (*l.* 25).
04) "dificuldade" (*l.* 29).
05) "aquisição" (*l.* 45).

QUESTÃO 14

Nas comunicações oficiais, empregam-se formas de tratamento específicas, como é o caso da que se deve usar para oficiais superiores das Classes Armadas, a partir de major, que está indicada em

01) V. Em.ª
02) V. S.ª.
03) Vossa Excelência.
04) V. Ex.ª.
05) Vossa Magnificência.

QUESTÃO 15

Sobre os tipos mais comuns de correspondência oficial, identifique com **V** as afirmativas verdadeiras e com **F**, as falsas.

( ) O tipo de mensagem que mais se parece com o ofício é o **memorando** e, por ser mais simples e mais prático, visto ter menos requisitos, é preferido àquele.

( ) O **requerimento** dispensa o vocativo, embora tenha sempre preservado um espaço para o despacho das autoridades.

( ) Os fatos ocorridos em uma reunião devem ser registrados em **ata**, através de um relato claro, direto e preciso, a ser assinado por quem presidi-la e demais presentes.

( ) A redação oficial que não admite espaço em branco em nenhum lugar e, por isso mesmo, não se faz nenhum parágrafo no corpo do texto denomina-se **relatório**.

( ) O **atestado** é um tipo de documento oficial que se limita à caracterização de um fato, sem qualquer apreciação sobre ele, sendo fornecido por autoridade ou pessoa ao interessado.

A alternativa que contém a sequência correta, de cima para baixo, é a

01) V F V F V
02) F V F V V
03) V V F F F
04) F V V F V
05) V V V V V

* * *

Redação

INSTRUÇÕES:

- Leia, com atenção, o tema proposto e elabore a sua Redação, contendo entre 20 (vinte) e 30 (trinta) linhas, mas não ultrapasse os limites da **Folha de Resposta**.
- Escreva a sua Redação no espaço reservado ao rascunho.
- Transcreva seu texto na **Folha de Resposta**, usando caneta de tinta **azul** ou **preta**.
- Coloque um título para a sua Redação, se assim o desejar.
- Não utilize letra de forma ou de imprensa.

Será anulada a Redação

— redigida fora do tema proposto;
— apresentada em forma de verso;
— assinada fora do local apropriado;
— escrita a lápis, de forma ilegível, ou não articulada verbalmente;
— redigida em folha que não seja a de Redação;
— pré-fabricada, ou seja, que utilize texto padronizado, comum a vários candidatos.

Tema da Redação

O avanço da globalização da economia, aliado às novas tecnologias de comunicação, vem contribuindo para a exclusão das fronteiras entre a sociedade e as organizações públicas, fato que exige destes entes posturas morais cada vez mais austeras na forma de conduzir suas atividades. Por sua vez, as mudanças estruturais ocorridas na Administração Pública Federal Brasileira, principalmente a partir da década de 1990, e o cenário econômico instalado desde então demandaram a promoção da ética, da transparência e da boa governança como quesitos fundamentais para a garantia de confiabilidade das instituições públicas e a consequente inclusão do Brasil na nova ordem socioeconômica mundial.

A norma de conduta ética deve ser analisada sob uma ótica diferente da norma legal, pois aquela, muitas vezes, tem um conteúdo mais voluntário e consensual que esta, ou seja, a adesão deve se dar por um compromisso moral. Com isso, há um sentimento de vínculo natural entre a norma ética e o agente público.

Os líderes, gestores e a alta administração nas instituições operam como multiplicadores de condutas éticas, dentro de uma estratégia de gestão de ética. Nesse sentido, o seu comportamento é determinante para estabelecer uma cultura ética nas organizações públicas.

(PEREIRA, Romilson Rodrigues. Ética na Administração Pública. Disponível em:<http://portal.tcu.gov.br/portal/pls/portal/docs/781700.PDF>. Acesso em: 3 maio 2010. Adaptado.)

Após uma reflexão sobre a mensagem transmitida pelo fragmento em destaque e com base em sua própria vivência, **escreva um texto argumentativo em que você discorra sobre a necessidade de ser trabalhada, com maior intensidade, uma estratégia de gestão da ética na Polícia Militar da Bahia, com o objetivo de criar uma imagem mais vigorosa da instituição, de modo que o seu papel social ganhe vulto no panorama brasileiro e, desse modo, possa contribuir para otimizar a segurança pública de maneira ordeira e eficaz.**

Língua Estrangeira — Inglês

Questões de 16 a 25

Instrução | Para responder a essas questões, identifique APENAS UMA ÚNICA alternativa correta e marque o número correspondente na Folha de Respostas.

Questões de 16 a 21

TEXTO:

Child directs air traffic at JFK

US officials are investigating how a child was apparently allowed to direct planes at JFK airport. Pilots heard the voice of a surprisingly young boy instructing them from air traffic control.

JFK Airport in New York is one of the largest airports in the country, handling nearly a thousand take-offs and landings a day. But just after 8pm on the 16th of February, there was somebody else in the control tower directing air traffic and giving instructions to pilots.

Recording from air traffic control: Boy: JetBlue 171 clear for take off. Pilot: Clear for take off JetBlue 171.

The boy was speaking to an airbus A320 heading for Sacramento. The child's father, who is a certified controller, brought his son to work and then put him to work as well.

Recording from air traffic control: Boy: JetBlue 171 contact departure. Pilot: Over to departure JetBlue 171. Awesome job.

The young boy continued directing pilots for several take-offs, pilots appearing to be more amused than worried.

The Federal Aviation Administration, which regulates America's airports, hasn't released the names of the controllers involved but it's not treating it as a joke. It's investigating the controller, as well as his supervisor. Both have been relieved of their duties.

Some are saying the incident is being blown out of proportion since the youngster was repeating standard, routine directions to pilots with the adults, presumably, alongside him. It's been revealed the controller in question brought his daughter in the following evening.

The FAA has released a statement saying "This lapse in judgment not only violated the FAA's own policies but common sense standards for professional conduct. These kinds of distractions are totally unacceptable."

GORDON, James. Disponível em:<www.bbc.co.uk/worldservice/learningenglish/language/wordsinthenews/2010/03/100305_witn_air_traffic.shtml>. Acesso em: 20 abr. 2010.

QUESTÃO 16

The text says that when a young boy gave instructions to pilots at JFK airport, US officials

01) laughed at that.
02) were all against that.
03) were amused by that.
04) were unworried by it.
05) didn't see anything wrong with it.

QUESTÃO 17

According to the article, the young boy directed pilots for

01) only two take-offs.
02) a lot of landings.
03) all the take-offs that day.
04) only a few landings.
05) over three take-offs.

QUESTÃO 18

The incident mentioned in the text took place

01) in the evening.
02) after midnight.
03) in the morning.
04) in the afternoon.
05) before noon.

QUESTÃO 19

"Both have been relieved of their duties" (*l.* 23-24)

This sentence means that both the controller and the supervisor have _____

The only alternative that **does not complete** this sentence correctly is

01) been fired.
02) lost their jobs.
03) kept their jobs.
04) been laid off.
05) been dismissed from their jobs.

QUESTÃO 20

"the incident is being blown out of proportion" (*l.* 25-26)

A suitable translation for this sentence is

01) o incidente não está sendo devidamente investigado.
02) o incidente está sendo superestimado.
03) estão fazendo o incidente parecer menos sério do que ele realmente é.
04) apenas um pequeno número de pessoas foram informadas sobre o incidente.
05) as pessoas não foram esclarecidas a respeito do ocorrido.

QUESTÃO 21

It's correct to say that the

01) verb form "heard" (*l.* 2) describes an action in the present time.
02) expression "the largest" (*l.* 5) expresses inferiority.
03) 's in "America's" (*l.* 21) is the contraction of *is*.
04) conjunction "since" (*l.* 26) is introducing a time clause.
05) expression "not only [...] but" (*l.* 31) expresses addition.

Questões de 22 a 24

TEXTO:

Exercise's afterglow

Sweat for a moment, then bask in the good feeling for hours. That's the message of a study presented at the American College of Sports Medicine's recent annual meeting. The study suggests that the mood benefits of exercise last up to 12 times longer than previously thought. Earlier research had found that a workout's feel-good effects last about an hour — not much longer than it takes the sweat to dry. But in the University of Vermont research, after men and women pedaled for 20 minutes on a stationary bike, questionnaires showed their moods remained buoyed for about half a day, whether they were fitness enthusiasts or just venturing off the couch for the first time, says researcher Jeremy Sibold, EdD.

HOWARD, Beth. USA: Reader's Digest, Sept 2009, p. 76.

QUESTÃO 22

According to the University of Vermont research, the workout's feel-good effects last

01) all day long.
02) no more than twenty minutes.
03) for about sixty minutes.
04) for nearly twelve hours.
05) much less than previously thought.

QUESTÃO 23

The University of Vermont research suggests that, for the benefits to last, you

01) have to work out early in the morning.
02) shouldn't take any kind of vigorous exercise.
03) need to do both aerobics and weight lifting.
04) should exercise for at least twenty minutes.
05) must pedal a bike for no more than twelve minutes.

QUESTÃO 24

The words "men" (*l.* 9) and "women" (*l.* 9)

01) are examples of nouns that only have a plural form.
02) are, respectively, singular and plural nouns.
03) are both plural nouns.
04) form the plural by adding an "s" to the singular form.
05) can be used with the indefinite article "a".

QUESTÃO 25



www.savagechickens.com/2008/04/endorphins.html.

According to this cartoon, the

01) worm exercises regularly.
02) chicken enjoys exercising.
03) chicken doesn't like burritos.
04) worm doesn't think that endorphin is good.
05) chicken won't take the worm's advice.

Instrução | Para responder a essas questões, identifique APENAS UMA ÚNICA alternativa correta e marque o número correspondente na Folha de Respostas.

Questões 26 e 27

África Brasil (Zumbi)

Angola, Conço, Benguela
Monjolo, Capinda, Nina
Quiloa, Rebolo

Aqui onde estão os homens
Há um grande leilão
Dizem que nele há uma princesa à venda
Que veio junto com seus súditos
Acorrentados em carros de boi

Eu quero ver quando Zumbi chegar
Eu quero ver o que vai acontecer

Zumbi é senhor das guerras
Zumbi é senhor das demandas
Quando Zumbi chega, é Zumbi quem manda

Pois aqui onde estão os homens
Dum lado, cana-de-açúcar
Do outro lado, um imenso cafezal
Ao centro, senhores sentados
Vendo a colheita do algodão branco
Sendo colhidos por mãos negras

(BEN JOR, 2010).

QUESTÃO 26

A análise da composição musical e os conhecimentos sobre a história do negro no Brasil permitem afirmar que

01) os africanos escravizados que vieram para o Brasil tinham a mesma identidade cultural, a mesma língua e etnia, o que pode ser comprovado no trecho — "Angola, Congo, Benguela / Monjolo, Capinda, Nina / Quiloa, Rebolo".
02) os negros foram utilizados como escravos, no Brasil, devido ao baixo nível cultural e à presença de sociedades atrasadas e primitivas na África, o que pode ser comprovado no trecho — "Aqui onde estão os homens / Há um grande leilão / Dizem que nele há uma princesa à venda / Que veio junto com seus súditos / Acorrentados em carros de boi".
03) a opção pelo trabalho do escravo africano deveu-se à passividade do negro e à sua rápida adaptação ao trabalho escravo, o que pode ser comprovado no trecho — "Zumbi é senhor das guerras / Zumbi é senhor das demandas / Quando Zumbi chega, é Zumbi quem manda".
04) a riqueza produzida nos períodos colonial e imperial teve como base o trabalho escravo negro, o que pode ser comprovado no trecho — "Pois aqui onde estão os homens / Dum lado, cana-de-açúcar / Do outro lado, um imenso cafezal".
05) a existência da escravidão contribuiu para a preguiça, a indolência e a pouca propensão ao trabalho do baiano, o que pode ser comprovado no trecho — "Ao centro, senhores sentados / Vendo a colheita do algodão branco / Sendo colhidos por mãos negras".

QUESTÃO 27

A História do Brasil foi marcada por diversos movimentos sociais populares que lutaram por melhores condições sociais e contra as injustiças e as desigualdades. Dentre esses movimentos, o que contou com uma grande participação da população afrodescendente e que teve como um dos objetivos a criação de uma sociedade sem a separação jurídica, a partir do critério étnico e de cor foi

01) a Conjuração Baiana.
02) a Inconfidência Mineira.
03) o Cangaço.
04) o Tenentismo.
05) a Marcha da Família com Deus pela Liberdade.

QUESTÃO 28

A constituição é a base do ordenamento jurídico da sociedade moderna. No caso do Brasil, a existência de diversas constituições na sua história indica, dentre outros fatores, as mudanças políticas ocorridas no país.

Em relação a essas transformações e às constituições, pode-se afirmar que a

01) Constituição de 1824 garantia o direito de cidadania a todo habitante do Brasil, fruto do recém-processo de independência do país.
02) Constituição de 1891 estabeleceu o direito ao voto a todo cidadão brasileiro, independente da cor, sexo e classe social, consequência da proclamação da República.
03) Constituição de 1934 estabeleceu os direitos sociais aos trabalhadores do campo e da cidade, resultado do processo de industrialização brasileira.
04) Constituição de 1937 ampliou a participação política do cidadão brasileiro, com o controle do Estado pelas organizações populares.
05) Constituição de 1988 contribuiu para a consolidação do Estado democrático a partir do estabelecimento do voto facultativo aos analfabetos.

QUESTÃO 29

A partir da análise da charge e dos conhecimentos sobre as condições socioeconômicas brasileiras ao longo da história, pode-se afirmar:

01) O acirramento na disputa por um emprego, durante o Período Imperial, foi uma consequência do processo de abolição da escravidão, contribuindo para a redução da oferta de vagas no mundo do trabalho.
02) A alteração do modelo agroexportador, na Primeira República, provocou a expulsão do trabalhador rural do campo e o crescimento do desemprego nas grandes cidades.
03) A crise do setor industrial, característico do governo Vargas, em função da abertura ao capital estrangeiro, provocou a falência de dezenas de empresas brasileiras e desemprego.
04) A política econômica do governo Juscelino Kubistchek foi responsável pela elevação do desemprego, em função da prioridade de investimentos no setor agroexportador.
05) A abertura ao capital estrangeiro e o processo de privatizações das empresas, no período dos governos Collor e Fernando Henrique Cardoso, provocaram o crescimento do desemprego.

QUESTÃO 30

Os conflitos que ocorrem no campo têm suas origens na estrutura colonial brasileira e, consequentemente, no regime de propriedade de terras.

Em relação a esses conflitos, pode-se afirmar:

01) A Revolta dos Malês tinha como objetivo básico a necessidade de melhoria nas condições de vida dos escravos rurais sem, no entanto, se lutar pela fim da escravidão.

02) O movimento de Canudos, de forte conteúdo religioso, foi fruto da concentração de terras e do controle dos coronéis sobre a população.

03) A Revolta de Juazeiro refletiu a tentativa do padre Cícero em estender o seu projeto de reforma agrária a terras baianas, o que provocou forte reação do governo federal.

04) A ação armada do Capitão Lamarca, nos anos 60 do século passado, objetivou combater as organizações de esquerda que defendiam a implantação do socialismo no Brasil.

05) O desaparecimento da população indígena, decorrente do processo de colonização, impediu que surgisse na Bahia atual conflitos pela posse de terras com os remanescentes indígenas.

QUESTÃO 31

> O Brasil chega ao século 21 ainda preso ao paradoxo que fez dele, ao mesmo tempo, um dos países mais ricos e um dos mais pobres do mundo. É uma desproporção difícil de imaginar, que reúne desde quem pode pagar 900 reais numa simples sandália de dedo nos grandes shopping centers do país até quem muitas vezes não tem 3 reais para pagar uma condução. Existem os que complementam a faculdade com cursos no exterior e os que não têm sequer banheiro na escola (DIEGUEZ, 2010, p. 35).

A análise do texto e os conhecimentos sobre a organização político-administrativa e as diferenças regionais do Brasil, possibilitam afirmar:

01) Os fatos destacados só ocorrem porque a divisão regional do Brasil não considerou as peculiaridades de cada estado.

02) As desigualdades registradas no texto indicam que o Brasil não está se desenvolvendo, porque a dívida externa aumentou na última década e as reservas diminuiram, sufocando, assim, o crescimento econômico.

03) O Nordeste se apresenta como uma das regiões do país onde as desigualdades sociais são mais aparentes, sendo, também, a que é formada por um maior número de estados.

04) A atual proposta do IBGE, que divide o Brasil em cinco regiões, considerou exclusivamente critérios geoeconômicos, fato que torna essa divisão mais confiável que as demais.

05) A implantação do PAC e a ampliação do programa Bolsa-Família constituem as únicas soluções capazes de reverter o quadro destacado e de eliminar as desigualdades regionais.

QUESTÃO 32

"Desde o Período Colonial, um dos pilares da economia brasileira é a agropecuária. Atualmente, o Brasil está entre os cinco maiores exportadores de alimentos. Mesmo com a crise mundial iniciada em 2008 esse setor foi pouco afetado".

Com base nas informações e nos conhecimentos sobre a agropecuária do país, é correto afirmar:

01) Os fatos destacados no texto estão relacionados ao eficiente sistema de escoamento da produção e à abundância de silos que armazenam os grãos após a colheita.

02) A democratização da posse da terra após o "boom" do agronegócio constitui a principal causa do avanço dos fatos destacados no texto.

03) Os produtos agrícolas brasileiros de maior aceitação no mercado externo são o trigo e a laranja, e os da pecuária, a carne bovina, sendo a UE (União Europeia) o maior parceiro comercial do país.

04) A agropecuária familiar ocupa uma área menor que os estabelecimentos não familiares, todavia ela é responsável pela produção de alimentos destinados ao mercado interno.

05) A grande aceitação dos produtos oriundos da agropecuária, no mercado externo, está relacionada ao baixo consumo dos agrotóxicos, já que a legislação ambiental é rígida, objetivando, sobretudo, a preservação dos recursos hídricos.

Questões 33 e 34

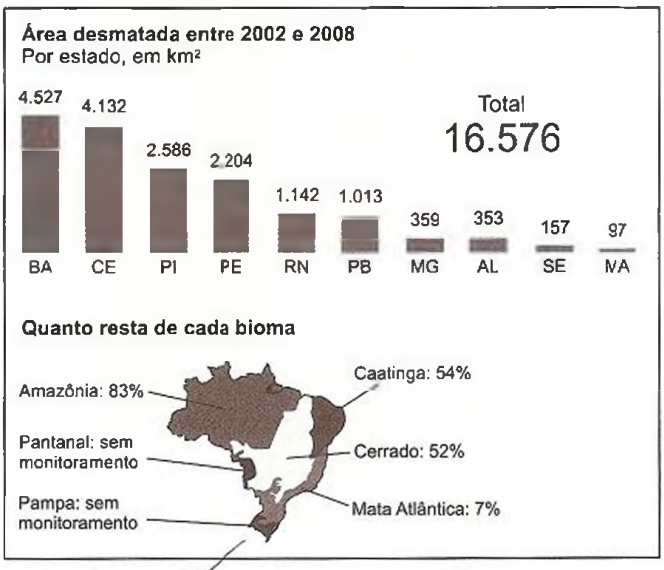

QUESTÃO 33

O bioma mais atingido, no início da colonização do Brasil, foi

01) o Cerrado, devido à produção de soja e à atividade pastoril.

02) o Pampa, com a criação do gado muar e o estabelecimento das charqueadas.

03) a Mata Atlântica, graças ao corte do pau-brasil e à agroindústria açucareira.

04) a Caatinga, com a pecuária extensiva e a civilização do couro.

05) a Amazônia, devido à exploração madeireira e de especiarias.

QUESTÃO 34

Os dados contidos no gráfico e no mapa permitem inferir que

01) o ritmo de desmatamento do Cerrado tem sido superior ao verificado na cobertura vegetal litorânea.
02) o bioma que vem sofrendo recentemente mais desmatamento, merecendo destaque no gráfico, é a Caatinga.
03) as ações de monitoramento têm permitido acompanhar o desmatamento em todos os biomas brasileiros.
04) a vegetação típica do semiárido nordestino está preservada, já que o interesse econômico na região é mínimo.
05) o extrativismo das chamadas drogas do sertão tem sido o principal responsável pelo desmatamento da Amazônia.

QUESTÃO 35

> O processo de urbanização que ocorreu no Brasil é decorrente da forte industrialização iniciada nas décadas de 1940 e 1950 e da brutal concentração de terras rurais com o desmantelamento da agricultura familiar, principalmente após a vigência do Estatuto da Terra e a proletarização do campo. (CHINAGLIA, 2010, p. C1).

O processo de urbanização ocorrido no Brasil, descrito no texto, está relacionado a diferentes fatos.

Quanto a esses fatos, marque com **V** as afirmativas verdadeiras e com **F**, as falsas.

( ) Valorização da agricultura familiar com mudanças introduzidas pelo Estatuto da Terra.
( ) Êxodo rural motivado pela estrutura fundiária originada no Brasil Colônia, com o estabelecimento do latifúndio monocultor.
( ) Novas oportunidades no mundo do trabalho, geradas pelo processo de industrialização.
( ) Favelização das cidades, com evidência cada vez maior das desigualdades sociais.
( ) Modernização das ferrovias, que se destacam, na atualidade, como elos de ligação campo — cidade.

A alternativa que indica a sequência correta, de cima para baixo, é a

01) F V V V F
02) F V V F V
03) V V F V V
04) F V F F V
05) V F V V F

QUESTÃO 36



Entre as alternativas referentes a exemplos da situação antiética representada na charge, aquela que é apontada frequentemente como responsável por estimular e manter essa situação é

01) o caixa-dois.
02) a cultura da impunidade.
03) a fraude nas licitações.
04) o nepotismo.
05) o superfaturamento de obras.

QUESTÃO 37

Brasil, Rússia, Índia e China constituem o grupo de países conhecido no cenário internacional atual como BRIC.

Esses países apresentam como um ponto em comum o fato de

01) apresentarem um PIB per capita posicionado entre os maiores do mundo.
02) possuírem, cada um deles, uma população constituída por uma única etnia.
03) terem sido as maiores vítimas da crise global de 2008.
04) serem, todos eles, considerados países emergentes.
05) viverem, todos eles, em um regime democrático.

QUESTÃO 38

A charge representa uma crítica

01) à situação de carência do operariado cubano.
02) ao culto ao guerrilheiro Ernesto Guevara, o Che.
03) ao embargo econômico imposto a Cuba pelos norte-americanos.
04) à fraqueza do regime cubano no enfrentamento com os Estados Unidos.
05) às ações do governo cubano no tratamento das dissidências.

QUESTÃO 39

> Boa vontade e respeito nem sempre são o bastante. Algumas vezes, até países amigáveis precisam entender que vão pagar um preço por desafiar os EUA. Muito provavelmente, essa ação vai funcionar. O Brasil vai ajustar sua posição. E o resto do mundo vai perceber. (RUBIN, 2010, p. A10).

O fragmento de texto, que sobressai o tom ameaçador de um artigo publicado originalmente na revista norte-americana *Newsweek* e reproduzido pela Folha de S. Paulo, representa uma reação a recentes acontecimentos da política brasileira, caracterizada pela independência em relação à liderança dos Estados Unidos.

Entre as posições tomadas pelo governo brasileiro, nesse contexto internacional, encontra-se

01) oposição ao governo recém-eleito em Honduras.
02) adesão à política de direitos humanos do governo cubano.
03) posicionamento em relação à política nuclear do Irã diferente à do governo norte-americano.
04) apoio às ações autoritárias do presidente colombiano Hugo Chávez.
05) preferência na compra de aviões militares franceses, em detrimento às aeronaves norte-americanas.

QUESTÃO 40



Provando que as verdadeiras obras de arte são eternas e exercem influência em outras manifestações culturais, o afresco "A criação de Adão" (1510), de Michelangelo Buonarroti, serviu, quinhentos anos depois, de inspiração ao cartunista brasileiro Angeli.

Com a charge "E Deus criou a mulher", o cartunista pretende

01) satirizar uma faceta do processo eleitoral brasileiro, no momento atual.
02) criticar o machismo da obra renascentista.
03) defender a importância do movimento feminista no Brasil.
04) questionar o gênero do primeiro ser humano criado por Deus.
05) situar-se como partidário do criacionismo.

* * *

Matemática / Raciocínio Lógico

Questões de 41 a 55

Instrução | Para responder a essas questões, identifique APENAS UMA ÚNICA alternativa correta e marque o número correspondente na Folha de Respostas.

QUESTÃO 41

No preparo de um determinado prato, os ingredientes M, N, P, Q e R devem ser utilizados de acordo com as seguintes regras:

- Se o ingrediente M for usado, então, necessariamente, P deverá ser usado.
- Se o ingrediente N for usado, então, necessariamente, Q e R deverão ser usados.
- Se o ingrediente R for usado, então, necessariamente, M ou Q deverão ser usados.

Nessas condições, desejando-se usar exatamente três desses ingredientes, o número máximo de opções distintas será

01) 2

02) 4

03) 6

04) 8

05) 10

QUESTÃO 42

Devido à grande incidência de casos de meningite e da gripe H1N1, foi feito um levantamento dentre 120 pessoas de uma comunidade quanto às vacinas que já haviam tomado.

Desse total, constatou-se que 42 pessoas haviam sido vacinadas contra a meningite, 66 pessoas contra a gripe H1N1 e que 42 pessoas ainda não haviam tomado nenhuma das duas vacinas.

Com base nesses dados, pode-se afirmar que a porcentagem de pessoas do grupo que tomou as duas vacinas é de

01) 40%

02) 36%

03) 32%

04) 28%

05) 25%

QUESTÃO 43

Em um dia de grande movimentação em uma delegacia de polícia, o tempo médio e o tempo mediano de espera para atendimento de um grupo de 10 pessoas foram, ambos, iguais a 12 minutos.

Sabendo-se que o conjunto ordenado de valores 4, 5, 5, 9, a, 14, 16, 18, b, 21 corresponde ao tempo de espera, em minutos, de cada uma dessas pessoas, pode-se concluir que b – a é igual a

01) 5

02) 6

03) 7

04) 8

05) 9

QUESTÃO 44

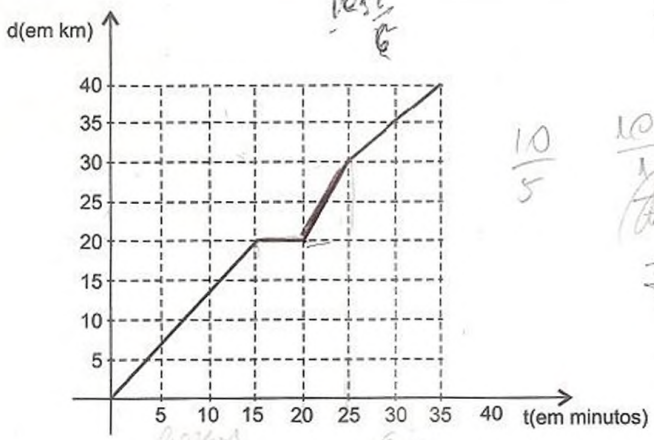

Para atender a uma chamada de emergência, uma viatura percorreu uma distância de 40km. Analisando-se o gráfico da função d(t), em que d é a distância percorrida pelo veículo em t minutos, pode-se concluir que a velocidade média desenvolvida pela viatura foi

01) 60km/h entre o décimo quinto e o vigésimo quinto minutos de percurso.
02) a mesma, nos primeiros 15 minutos e nos últimos 10 minutos de percurso.
03) maior nos últimos 10 minutos de percurso.
04) maior nos primeiros 15 minutos de percurso.
05) constante ao longo de todo o percurso.

QUESTÃO 45

Uma empresa constatou, em outubro de 2009, um déficit em suas finanças, pois, para uma receita de R$160 000,00, teve uma despesa de R$200 000,00. Tentando se recuperar dos prejuízos, estabeleceu metas na perspectiva de aumentar mensalmente sua receita, segundo uma progressão geométrica de razão $q = \frac{5}{4}$, e aumentar a despesa mensal segundo uma progressão aritmética de razão r = R$45 000,00.

Admitindo-se que as metas foram alcançadas, pode-se afirmar que o primeiro mês em que a receita superou a despesa foi

01) dezembro de 2009.
02) janeiro de 2010.
03) fevereiro de 2010.
04) março de 2010.
05) abril de 2010.

QUESTÃO 46

Após um assalto, várias testemunhas foram ouvidas, mas não houve consenso quanto à placa do automóvel usado pelo assaltante na sua fuga. Através das informações dessas testemunhas, concluiu-se que a placa do veículo era constituída de 3 vogais distintas e quatro algarismos também distintos, sendo que os dois últimos algarismos eram os dígitos 0 e 1.

Com base nesses dados, pode-se afirmar que o número de veículos a ser investigados é

01) 560
02) 1120
03) 3360
04) 6720
05) 8240

QUESTÃO 47

Apenas três candicatos X, Y e Z disputarão uma eleição, na qual só pode haver um vencedor. Ao analisar as intenções de voto da população, um instituto de pesquisa constatou que a chance de

- o candidato X vencer a eleição é o dobro da chance do candidato Y;
- o candidato Y vencer a eleição é dois terços da chance do candidato Z.

Assim, a probabilidade de vitória do candidato X ou do candidato Z é igual a

01) $\frac{2}{3}$

02) $\frac{3}{7}$

03) $\frac{7}{9}$

04) $\frac{9}{11}$

05) $\frac{11}{10}$

QUESTÃO 48

Segundo dados do IBGE, em 2006, aproximadamente 9,0% da bancada eleita para a Câmara Federal era composta por mulheres.

Supondo-se que, em 2010, esse número cresça para 12,5% e que essa porcentagem varie linearmente com o tempo, pode-se estimar que as mulheres serão maioria na Câmara Federal a partir das eleições de

01) 2066

02) 2062

03) 2058

04) 2054

05) 2048

QUESTÃO 49

Em uma partida de basquete, a bola é jogada para o alto,a partir do ponto B = (0, 3), descrevendo uma trajetória parabólica, que atinge altura máxima no ponto M = (3, 5), em direção ao aro de centro no ponto A = (k, k).

A partir desses dados e desprezando-se as dimensões do aro e da bola, conclui-se que o valor da constante k pertence ao intervalo

01) $\left[\frac{23}{5}, 5\right]$

02) $\left[\frac{21}{5}, \frac{23}{5}\right[$

03) $\left[\frac{19}{5}, \frac{21}{5}\right[$

04) $\left[\frac{17}{5}, \frac{19}{5}\right[$

05) $\left[3, \frac{17}{5}\right[$

QUESTÃO 50

Segundo as leis brasileiras de trânsito, são considerados infratores os motoristas que dirijam estando no organismo com uma concentração superior a 0,6 gramas de álcool por litro de sangue, o que equivale a uma lata de cerveja. Admite-se que a quantidade, em g/ℓ, de álcool remanescente no organismo de uma pessoa, a partir do instante t, em horas, em que ela pare de beber, pode ser estimado através da expressão $R(t) = k(0,5)^{t/2}$. Ingerindo 5 latas de cerveja, uma após outra e, desejando sair, imediatamente, ao volante do seu veículo, um motorista foi aconselhado, por amigos, a aguardar o tempo mínimo necessário para que não infrinja a lei.

Considerando-se log 2 = 0,30, pode-se concluir que esse tempo é de

01) 4h00min
02) 4h40min
03) 5h00min
04) 6h00min
05) 6h48min

QUESTÃO 51

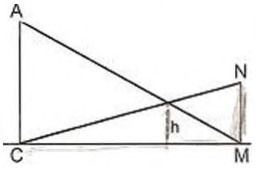

$\overline{CA} = 4$ m

$\overline{MN} = 2,4$ m

Os segmentos CA e MN, na figura, representam respectivamente, uma parede lateral de uma casa e um muro paralelo a essa parede, que ficaram abalados após alguns dias de fortes chuvas. Para evitar um desmoronamento, duas barras de ferro, representadas na figura pelos segmentos AM e CN, foram utilizadas para escorar a parede e o muro.

Sabendo-se que a casa fica em um terreno plano e que as duas barras se interceptam a h metros do solo, pode-se afirmar que o valor de h é

01) 1,45
02) 1,50
03) 1,72
04) 1,85
05) 1,90

QUESTÃO 52

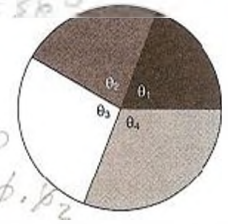

Quatro amigos resolveram repartir uma pizza circular, em porções, na forma de setores, diretamente proporcionais às suas respectivas idades.

Se essas idades somam 72 anos e seus numerais formam uma progressão aritmética de razão r = 4, então a tangente trigonométrica do menor dos ângulos θ_1, θ_2, θ_3, θ_4 é igual a

01) $\sqrt{3}$
02) $\frac{\sqrt{3}}{3}$
03) 0
04) $-\frac{\sqrt{3}}{2}$
05) $-\sqrt{3}$

QUESTÃO 53

Um professor propôs a seus alunos a construção de dois pluviômetros artesanais, de modelos diferentes, através dos quais pudessem aprender a calcular a quantidade de chuva ocorrida em uma localidade, num determinado espaço de tempo. Para tanto, foram utilizados dois recipientes, um cônico e um cilíndrico e, após uma chuva, verificou-se que a água recolhida pelo pluviômetro cônico havia atingido uma altura h = 8cm, preenchendo um certo espaço de um pequeno cone de geratriz g = 10cm.

Se essa água, colocada no pluviômetro cilíndrico atingir a mesma altura h = 8cm, então o raio do recipiente cilíndrico, em cm, é igual a

01) $\sqrt{6}$

02) $2\sqrt{3}$

03) $3\sqrt{2}$

04) $2\sqrt{6}$

05) $6\sqrt{2}$

QUESTÃO 54

O desenho de um palco circular a ser montado para a realização de um show beneficente foi feito em um sistema de coordenadas cartesianas a partir da equação $x^2 + y^2 - 6x - 8y - 200 = 0$.

Sabe-se que, dentre outras atrações, o show apresentará um desfile de modas e para demarcar as passarelas, são destacados, no desenho, três pontos da circunferência, P, Q e R, equidistantes dois a dois.

Dessa maneira, um modelo que desfile seguindo, uma única vez, o roteiro PQ, QR, RP, percorrerá, no palco, aproximadamente, k unidades de comprimento e, nessas circunstâncias, pode-se afirmar que o valor de $\frac{k}{5\sqrt{3}}$ é

01) 21

02) 18

03) 15

04) 12

05) 9

QUESTÃO 55

Um empréstimo feito através de um financiamento, a uma taxa de juros simples de 2%am, deve ser pago em duas parcelas nos valores de R$3 000,00 e R$5 000,00, com respectivos vencimentos para dois e quatro meses, contados a partir da data do empréstimo.

Diante da impossibilidade de fazer tais pagamentos, o devedor propôs ao credor a substituição das duas parcelas por uma única parcela a ser paga no prazo de seis meses, contados a partir da data do empréstimo.

Sendo aceita tal proposta, o valor, em reais, dessa parcela única será de

01) 8500

02) 8440

03) 8320

04) 8200

05) 8080

* * *

Noções de Direito

Questões de 56 a 70

Instrução | Para responder a essas questões, identifique APENAS UMA ÚNICA alternativa correta e marque o número correspondente na Folha de Respostas.

QUESTÃO 56

A Constituição Federal dispõe de quatro incisos, nos quais se encontram os objetivos fundamentais da República Federativa do Brasil.

Assim sendo, pode-se destacar como objetivo fundamental

01) promover a paz social.
02) promover o bem de todos, sem preconceitos de origem, raça, sexo, cor, idade e quaisquer outras formas de discriminação.
03) facilitar a todo cidadão, por todos os meios possíveis, o acesso aos cargos e funções públicas.
04) permitir que cada cidadão exerça as suas atividades independente de qualquer interferência governamental.
05) designar dia e hora para realização das reuniões do Congresso Nacional.

QUESTÃO 57

A Câmara de Deputados e o Senado Federal, juntos, compõem

01) a Assembleia Legislativa.
02) a Câmara de Defesa Nacional.
03) a Assembleia Constituinte.
04) o Congresso Nacional.
05) o Órgão de Defesa dos Direitos dos Cidadãos Consumidores.

QUESTÃO 58

De acordo com a Constituição Federal e com referência à Segurança Pública, é correto afirmar:

01) As Polícias Militares e os Corpos de Bombeiros militares são órgãos, também, responsáveis pelo exercício da segurança pública.
02) As Polícias Militares são auxiliares da Polícia Federal no exercício da Segurança Pública.
03) A Polícia Rodoviária Federal responsabiliza-se, exclusivamente, pelo trânsito de veículos pesados nas Rodovias Federais.
04) As Polícias Militares são setores exclusivos da administração dos Estados Federativos e não têm competência para Segurança Pública.
05) A Polícia Federal tem responsabilidade específica que não a Segurança Pública.

QUESTÃO 59

A manifestação unilateral de vontade da Administração Pública que, agindo nessa qualidade, tenha por fim imediato adquirir, resguardar, transferir, modificar, extinguir e declarar direitos, ou impor obrigações aos administrados ou a si própria, é denominada de

01) capacidade administrativa.
02) poder administrativo.
03) função administrativa.
04) atribuição administrativa.
05) ato administrativo.

QUESTÃO 60

A Administração Pública é regida por princípios, dentre os quais se pode destacar

01) publicidade e liberalidade.
02) razoabilidade e criatividade.
03) competitividade e legalidade.
04) impessoalidade e prioridade.
05) moralidade e publicidade.

QUESTÃO 61

Quando o Executivo escalona as funções de seus órgãos, ordena e revê a atuação de seus agentes, estabelecendo a relação de subordinação entre os servidores do seu quadro de pessoal, está exercendo o poder

01) de polícia.
02) disciplinar.
03) hierárquico.
04) regulamentar.
05) vinculado.

QUESTÃO 62

Os Policiais Militares do Estado da Bahia somente devem ter acesso ao quadro por meio de concurso público.

O seu vínculo empregatício é regido

01) pela Constituição Estadual.
02) por Estatuto próprio, aprovado por Lei específica — Lei nº 7.990/2001.
03) pela Consolidação das Leis do Trabalho — CLT.
04) por Decreto do Poder Executivo.
05) pelo Estatuto dos Servidores Públicos Federais, por ser instituição criada pela Constituição Federal.

QUESTÃO 63

Com relação ao Pacto Internacional dos Direitos Econômicos, Sociais e Culturais, é correto afirmar:

01) Adotado pela Resolução nº 2.200A (XXI), em 16 de dezembro de 1966, foi ratificado pelo Brasil em 24 de janeiro de 1992.
02) O Brasil não faz parte do Pacto Internacional dos Direitos Econômicos, Sociais e Culturais.
03) Todos os países são obrigados a participar do referenciado Pacto, acatando as suas disposições, independente de ratificação ou aceitação.
04) Não há obrigatoriedade de reconhecimento do direito de toda pessoa desfrutar o mais elevado nível de saúde física e mental pelos Estados partes do Pacto Internacional dos Direitos Econômicos Sociais e Culturais.
05) A educação primária não ficou contemplada pelo Pacto Internacional de Direitos Econômicos, Sociais e Culturais por entender os países participantes tratar de questão a ser assumida pelas Unidades governamentais de cada país.

QUESTÃO 64

Ninguém será sujeito da interferência na sua vida privada, na sua família, no seu lar ou na sua correspondência, nem a ataques à sua honra e reputação. Toda pessoa tem direito à proteção da lei contra tais interferências ou ataques.

Esta proteção encontra-se disposta

01) na Constituição Estadual.
02) no Código Civil Brasileiro.
03) no Código Penal Brasileiro.
04) na Declaração Universal dos Direitos Humanos.
05) na Doutrina.

QUESTÃO 65

A Lei Penal dispõe: ninguém pode ser punido por fato que lei posterior deixa de considerar crime, cessando em virtude dela a execução e os efeitos penais da sentença.

Tal disposição está relacionada com

01) aplicação da pena.
02) lei penal no tempo.
03) lei penal no espaço.
04) irretroatividade da Lei.
05) direito de defesa do acusado.

QUESTÃO 66

À luz do Código Penal, o cidadão que agredido fisicamente e ficando incapacitado para as suas ocupações habituais, por mais de trinta dias, foi vítima do crime de

01) atentado ao pudor.
02) atentado à integridade física.
03) lesões corporais de natureza leve.
04) lesões corporais de natureza levíssima.
05) lesões corporais de natureza grave.

QUESTÃO 67

Solicitar ou receber, para si ou para outrem, direta ou indiretamente, ainda que fora da função, ou antes, de assumi-la, mas em razão dela, vantagem indevida, ou aceitar promessa de tal vantagem.

Esse tipo de crime é identificado como

01) peculato.
02) estelionato.
03) corrupção passiva.
04) prevaricação.
05) concussão.

QUESTÃO 68

O policial militar sai em diligência, tentando capturar agente acusado de prática de ato delituoso. Tentando livrar-se da perseguição, há troca de tiros pelo que tomba o agente em óbito.

Nessa situação, com relação ao policial militar, há hipótese de

01) crime culposo.
02) exclusão de ilicitude por estado de necessidade.
03) crime doloso.
04) exclusão de ilicitude por estrito cumprimento de dever legal.
05) crime impossível.

QUESTÃO 69

Quando o agente vê a sua intenção de cometer o crime frustrada, por circunstâncias alheias à sua vontade, ocorre a figura penal de

01) arrependimento.
02) tentativa.
03) crime impossível.
04) crime consumado.
05) desistência voluntária.

QUESTÃO 70

A Lei nº 9.455/1997 prevê pena de reclusão de dois a oito anos para quem comete crime de tortura.

Essa pena é aumentada de um sexto, até um terço, na hipótese do referido crime ser cometido

01) por agente público, mediante sequestro.
02) mediante sequestro, com fim de obter informação, declaração ou confissão da vítima ou de terceira pessoa.
03) por agente público, em razão de discriminação racial ou religiosa.
04) contra criança, gestante, portador de deficiência para provocar ação ou omissão de natureza criminosa.
05) para provocar ação ou omissão de natureza criminosa, em razão de discriminação racial ou religiosa.