CONSESP Concursos
A alternativa correta em transparência, rapidez e confiança

SÓ ABRA QUANDO AUTORIZADO

LEIA COM ATENÇÃO AS INSTRUÇÕES ABAIXO

CONFIRA O SEU CADERNO

01. Este caderno de provas contém questões de múltipla escolha dispostas em ordem numérica, com apenas uma alternativa correta.
02. Confira seu caderno quando o Fiscal de Sala autorizar, pois não lhe será entregue outro, exceto no caso do item 3.
03. Se houver falhas: *folhas em branco, páginas trocadas, falta de questão, má impressão, levante o braço*. O Fiscal de Sala trocará seu caderno.
04. Confira se o caderno de questões corresponde ao cargo para o qual se inscreveu.

INSTRUÇÕES E CUIDADOS NO PREENCHIMENTO DA FOLHA DE RESPOSTAS

01. Confira cuidadosamente seus dados na Folha de Respostas, assine-a, e comunique ao Fiscal de Sala em caso de alguma divergência, não faça qualquer alteração em sua folha.
02. Use caneta esferográfica de tinta azul ou preta.
03. As Folhas de Respostas preenchidas a lápis, não serão aceitas.
04. Preencha todos os espaços corretamente, a Leitora Óptica é sensível a marcas escuras.
05. Ao terminar, verifique se todas as respostas foram marcadas, mais de uma resposta marcada ou rasurada, invalidará a questão.
06. Leia atentamente as instruções na Folha de Respostas.
07. Valem, exclusivamente, as respostas corretamente assinaladas na Folha de Respostas.

Como preencher:

ASSIM ■

	A	B	C	D
01	☐	☐	☐	☐
02	☐	☐	☐	☐
03	☐	☐	☐	☐
04	☐	☐	☐	☐
05	☐	☐	☐	☐
06	☐	☐	☐	☐
07	☐	☐	☐	☐
08	☐	☐	☐	☐

ATENÇÃO:

01. Use para rascunho as partes em branco do caderno.
02. Não será permitido qualquer outro material sobre a carteira, que não seja o da prova.

PREENCHIMENTO OBRIGATÓRIO **nº Insc. _____**

_____

Nome por extenso

CARGO: PROFESSOR DE ENSINO FUNDAMENTAL II – GEOGRAFIA

Este gabarito será destacado somente pelo Fiscal de Sala no momento da entrega da Prova

01	11	21	31	41	51	61	71	81	91	101	111
02	12	22	32	42	52	62	72	82	92	102	112
03	13	23	33	43	53	63	73	83	93	103	113
04	14	24	34	44	54	64	74	84	94	104	114
05	15	25	35	45	55	65	75	85	95	105	115
06	16	26	36	46	56	66	76	86	96	106	116
07	17	27	37	47	57	67	77	87	97	107	117
08	18	28	38	48	58	68	78	88	98	108	118
09	19	29	39	49	59	69	79	89	99	109	119
10	20	30	40	50	60	70	80	90	100	110	120

Os candidatos aprovados poderão obter o CERTIFICADO DE APROVAÇÃO deste concurso no site www.consesp.com.br mediante pagamento de taxa. O envio será feito após a homologação do resultado.

RASCUNHO

PROFESSOR DE ENSINO FUNDAMENTAL II – GEOGRAFIA

CONHECIMENTOS ESPECÍFICOS

01. O processo de participação social da mulher nas últimas décadas, tem colaborado para a diminuição da taxa de fecundidade e natalidade no país. Dentre os vários motivos, podemos afirmar que um dos principais responsáveis por essa redução na taxa de fecundidade foi
(A) devido ao maior tempo desprendido às redes sociais.
(B) graças à desigualdade de gênero e à violência contra a mulher.
(C) a mulher ter conquistado uma maior autonomia social no mercado de trabalho.
(D) a redução da atividade sexual devido à vida mais conturbada nas cidades.

---

02. Num mapa de escala gráfica representado por 1: 20.000.000, a capital São Luis se distancia 7 cm da capital baiana. Qual é a distância real em linha reta entre as duas capitais?
(A) 140 km
(B) 285, 7 km
(C) 310 km
(D) 1400 km

---

03. Apesar dos contrastes no seu clima, geografia e solos o Canadá é um dos mais importantes no comércio internacional representado por seus excelentes grãos, sementes oleosas, verduras e legumes, carnes e lacticínios.

Assinale a alternativa que explica como o Canadá consegue produzir cereais para gerar excedente para a exportação.
(A) A produção de cereais é feita em estufas que impedem o congelamento das plantas e diminui a incidência de pragas.
(B) Nas planícies centrais do sul do país, o frio é menos rigoroso e o solo de Prairie é fértil; a produção de cereais é realizada em grandes propriedades e muito mecanizada.
(C) O país desenvolveu pesquisas nanotecnológicas e transgênicas possibilitando cultivar em pequenas áreas, inclusive em áreas urbanas.
(D) Como no sul o inverno é rigoroso, a agricultura só é possível nas planícies de solo úmido do norte, realizadas em grandes propriedades mecanizadas e monocultoras.

---

04. Leia o texto e responda ao que se pede.

"Essa camada soma todos os ecossistemas da Terra. Inclui, portanto, todos os organismos vivos do Planeta desde as altas montanhas até o fundo do mar."

A camada da Terra citada no texto é a
(A) Biosfera.
(B) Hidrosfera.
(C) Litosfera.
(D) Crosta Terrestre.

---

05. Com referência aos mares, aponte a afirmativa <u>correta</u>.
(A) Os mares não fazem parte dos oceanos e são definidos como pequenas massas de água salgada.
(B) Os mares fechados estão no meio do continente, mas se liga ao oceano por um estreito.
(C) Os mares continentais não possuem ligação nenhuma com o oceano, diferente dos mares fechados.
(D) Os mares isolados não têm comunicação com o oceano, pois são resíduos de antigas bacias oceânicas que ficaram fechadas pelo relevo continental.

06. Leia o texto.

"Esse Plano constituiu em avanços de alguns setores da economia sendo quatro deles muito importantes, como: a energia, transportes, alimentação e indústrias de bases. Coordenado sob o governo de Juscelino Kubitschek (1956-1960) foi favorecido por avanços econômicos e industriais, uma vez que recebeu investimentos diretos estrangeiros."

Identifique o plano que adotou o bordão "50 anos em 5".
(A) Plano Cruzado.
(B) Plano Bresser-Pereira.
(C) Plano de Metas.
(D) Plano Collor.

---

07. No mapa abaixo são mencionadas duas correntes marítimas que se locomovem sobre o Japão. Observe-o e assinale a afirmação <u>correta</u>.

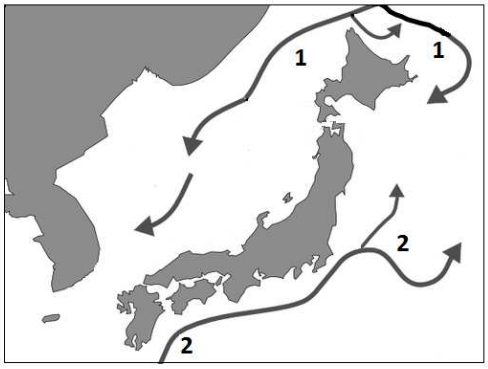

Fonte: Atlas Geográfico do Japão – Adaptado.

(A) A corrente marítima número 1 é a Derivação Pacífico Norte, enquanto que a número 2 representa a corrente fria Kuroshivo.
(B) A corrente de número 1 é a corrente fria Oyashio ou Kurile, originária do Oceano Glacial Ártico, por isso provoca o clima temperado frio com ocorrência de inverno muito frio no norte.
(C) O clima japonês recebe influência ao sul da corrente fria Oya Shivo ou Curilas provocando o clima temperado frio.
(D) O fluxo de água com características comuns no Japão são correntes quentes chamada de equatorial Norte, identificada pelo número 1.

---

08. Considere o texto a seguir.

"Criado em 1991, Brasil, Argentina, Paraguai e Uruguai assinaram o Tratado de Assunção, um acordo de livre-comércio. Quatro anos depois, aceitaram oficialmente a união aduaneira, além da participação de países como membros associados."

O texto faz referência
(A) ao MCCA.
(B) à ASEAN.
(C) à APEC.
(D) ao MERCOSUL.

---

09. Os recursos minerais encontrados no Brasil são explicados através das transformações geológicas do Planeta. Isso posto e, considerando as jazidas minerais, como o Quadrilátero Ferrífero, a Serra dos Carajás e o Maciço do Urucum, assinale a alternativa correspondente à formação na Era Geológica.
(A) Proterozoica.
(B) Paleozoica.
(C) Arqueozolco.
(D) Mesozoica.

10. Leia o texto a seguir de autoria de Lamoso, em seu livro *Exploração de minério de Ferro no Brasil e no Mato Grosso do Sul* (2015), correspondente a determinado espaço ferrífero.

"[...] foi mais intensamente explorado que Carajás, descoberto em 1967 (que se tornou um enclave destinado à exportação) [...] A isso se deve o processo de ocupação e povoamento do território brasileiro e à formação socioespacial que acabou desenhando a área *core* da industrialização inicial no eixo Rio-São Paulo, mercado para o qual foi extremamente importante a exploração dessas reservas no abastecimento das usinas siderúrgicas."

Nas alternativas a seguir, assinale aquela que indica uma das principais jazidas de extração de minério de ferro do Brasil.
(A) Quadrilátero Ferrífero, em Minas Gerais.
(B) Carbonífera do Sul, Rio Grande do Sul.
(C) Maciço do Urucum, Mato Grosso do Sul.
(D) Vale do Rio Trombetas, no Pará.

---

11. O território australiano possui mais de 21 milhões de habitantes vivendo na região sudeste, local que também se encontra as indústrias. O clima é contrastado, uma vez que em determinados estados há variação de temperatura entre 7º no inverno e 40º no verão. A aridez é predominante na maior parte, por isso há somente dois principais rios, enquanto outros aparecem temporariamente.

Dessa forma, observe o mapa da Austrália a seguir e assinale a alternativa que identifica <u>corretamente</u> os climas predominantes no país-continente.

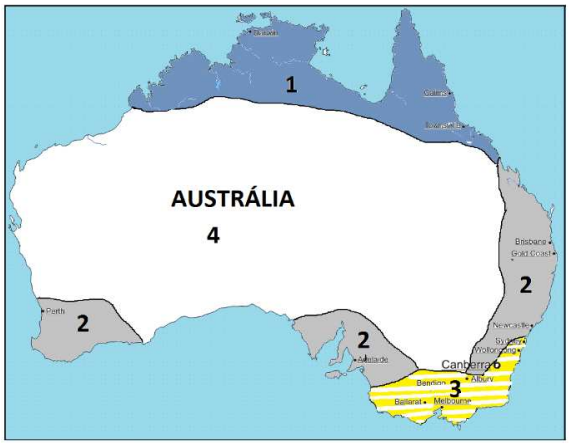

(A) 1 – Polar / 2 – Semiárido / 3 – Temperado Mediterrâneo / 4 – Desértico.
(B) 1 – Árido e Semiárido / 2 – Temperado Mediterrâneo / 3 – Temperado Oceânico / 4 – Tropical.
(C) 1 – Tropical / 2 – Temperado Mediterrâneo / 3 – Temperado Oceânico / 4 – Árido e Semiárido.
(D) 1 – Temperado Mediterrâneo / 2 – Árido e Semiárido / 3 – Tropical / 4 – Temperado Oceânico.

---

12. Leia o texto.

"Quando se retira a cobertura vegetal do solo, este fica exposto às chuvas, escoando superficialmente, o que antes era filtrado. O processo também transporta partículas de solo e provoca sulcos profundos."

A erosão referida no texto é denominada de
(A) Eólica.
(B) Pluvial.
(C) Marinha.
(D) Voçoroca.

13. Leia o texto.

"A mobilidade de pessoas, mercadorias e matérias-primas no mundo foi viabilizada em virtude de evoluções e inovações ocorridas nos meios de transportes, como no transporte aéreo, por exemplo".

Dentre as alternativas a seguir, assinale a única que <u>não</u> se relaciona ao transporte aéreo.
(A) É considerado um dos transportes mais seguros e cômodos da atualidade.
(B) Tem elevada capacidade de carga, com facilidade para transportar cargas pesadas e grandes volumes.
(C) A principal infraestrutura é o aeroporto, local de grande espaço físico que proporciona a decolagem e aterrissagem.
(D) Na tentativa de baratear ainda mais os valores dos translados, empresas fabricantes de aviões pretendem criar modelos com capacidades de transportar até 800 pessoas de uma só vez.

---

14. Leia o trecho de uma reportagem.

"O grupo extremista basco ETA entregou oficialmente neste sábado [08/04/2017] às autoridades francesas uma lista de esconderijos de seus depósitos, levando a polícia francesa a encontrar de 3,5 toneladas de armas, explosivos e material do grupo. [...] Fundados há 43, anos a organização exige a independência do País Basco e da Navarra."

O globo, 08/04/2017.

De acordo com a reportagem, assinale a alternativa que indica a região reivindicada pelo povo basco para a criação de um novo país.
(A) Área da Inglaterra e parte do País de Gales.
(B) Escócia no extremo norte de Grã-Bretanha.
(C) Península da Crimeia de maioria russa.
(D) Parte do norte da Espanha e do sudoeste da França.

---

15. No mundo todo é possível encontrar diversas fontes de energia, sendo elas renováveis ou não. O Brasil é um potencial energético obtido por usinas hidrelétricas, uma vez que é mais barato para produzir. Não obstante, também tem capacidade em energia solar, eólica, fóssil, nuclear e de biomassa.

Sobre os principais tipos de energia produzidos no Brasil, assinale a alternativa <u>incorreta</u>.
(A) As usinas hidrelétricas e nucleares são formas de produção de energia renovável, enquanto a termoelétrica produz energia não renovável.
(B) A produção de carvão mineral é destinada à geração de energia termoelétrica como matéria-prima direcionada às siderúrgicas.
(C) A usina nuclear tem um alto custo tecnológico e um alto risco em utilizar minerais atômicos para gerar energia.
(D) A usina hidrelétrica tem um alto custo de implantação, porém produz energia mais barata que as usinas termoelétricas e nucleares.

---

16. Analise as alternativas a seguir, e indique a única <u>incorreta</u>.
(A) Os planaltos e Chapadas da Bacia do Paraná se estendem pelos estados de Mato Grosso, Mato Grosso do Sul, São Paulo, Paraná, Santa Catarina e Rio Grande do Sul.
(B) Nas áreas de clima equatorial é comum o surgimento de florestas de coníferas devido à intensa umidade.
(C) O domínio do clima tropical tem duas estações durante o ano: uma chuvosa no verão e outra seca no inverno.
(D) O clima tropical úmido ocorre em uma faixa estreita do litoral, em que predomina a vegetação de mata Atlântica.

17. "Os rios da Europa funcionam como limites, vias de transportes e comércio e fontes de sustento. Em comparação às regiões tropicais, como no Brasil, os rios da Europa possuem menor volume e extensão."

Dessa forma aponte a alternativa que corresponde aos rios da Europa demarcados com os números 1, 2, 3, 4 e 5, conforme apresentado na imagem.

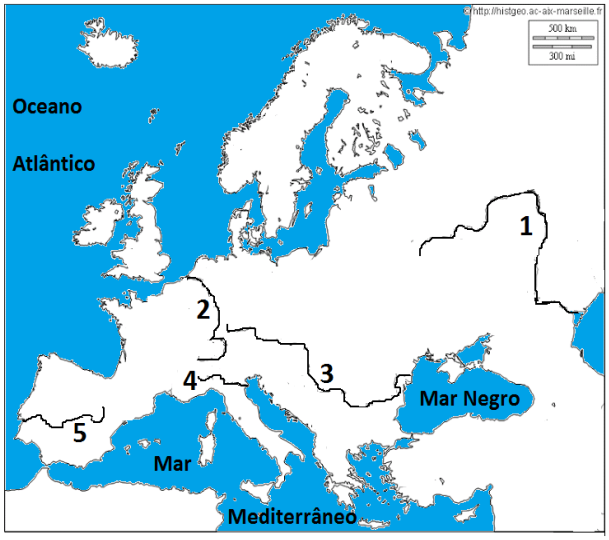

(A) 1 – Rio Danúbio / 2 – Rio Elba / 3 – Rio Pó / 4 – Rio Tejo / 5 – Rio Loire.
(B) 1 – Rio Reno / 2 – Rio Pó / 3 – Rio Ródano / 4 – Rio Tejo / 5 – Rio Volga.
(C) 1 – Rio Volga / 2 – Rio Reno / 3 – Rio Danúbio / 4 – Rio Pó / 5 – Rio Tejo.
(D) 1 – Rio Volga / 2 – Rio Danúbio / 3 – Rio Loire / 4 – Rio Elba / 5 – Rio Reno.

---

18. No Brasil, há dois períodos importantes quando se fala de industrialização no século XX, a Era Vargas e a Era JK. Assinale a alternativa que apresenta a característica de uma dessas fases da industrialização brasileira.
(A) Durante a Era Vargas, houve a revolução industrial brasileira propriamente dita, com a implantação da indústria de base.
(B) O Plano de Metas foi o programa implantado por Getúlio Vargas que criou a Petrobras.
(C) A desindustrialização ocorreu a partir da década de 1930, pois todo o território paulista já estava industrializado.
(D) Na Era Vargas, houve uma demanda muito grande com o capital externo, pois a entrada de multinacionais foi exagerada e Vargas perdeu o controle da dívida externa.

---

19. Diferente dos oceanos, os mares são subdivididos, de acordo com sua dimensão e posição geográfica. Nas alternativas a seguir, indique a afirmação <u>correta</u> quanto ao tipo de mar e à localização.
(A) São denominados mares fechados ou isolados, por serem lagos salgados no meio do continente, formados por restos de antigos mares que estão secando, também são chamados de residuais.
(B) Mares são considerados uma grande massa de água salgada localizados em quase todo o Planeta.
(C) O Mar Morto, situado no Oriente Médio recebe esse nome devido às mortes de refugiados que tentaram atravessá-lo.
(D) Mares abertos são aqueles que ocorrem em alto-mar, onde a interferência do continente é quase nula.

20. Observe o mapa abaixo e assinale a alternativa que apresenta a intervenção antrópica que ocorreu.

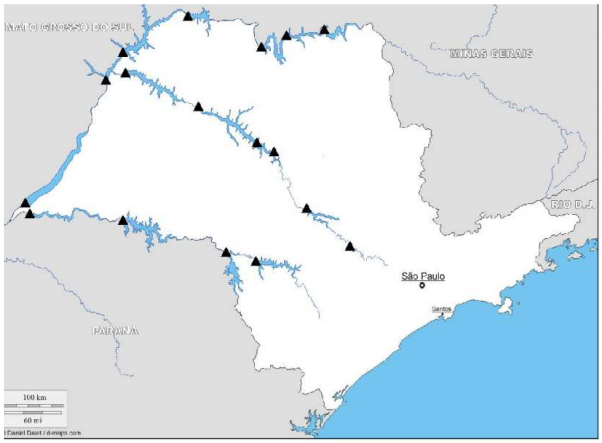

(A) Voçorocas nos cursos dos rios.
(B) Fornecimento de água para os grandes centros urbanos.
(C) Mineração, lavoura e criação de gado, que derrubaram a vegetação ripária, também conhecida como mata ciliar.
(D) Construção de hidrelétricas para o fornecimento de energia.

CONHECIMENTOS EDUCACIONAIS

21. No que diz respeito à expansão do acesso ao ensino superior privado, é afirmado que Plano de Desenvolvimento da Educação promove inovações consideráveis no mecanismo de financiamento do estudante do ensino superior não-gratuito, por meio de uma alteração
(A) no programa de criação de Universidades Públicas.
(B) nos cursos de menor duração na área de humanas, visando a necessidade que os alunos com baixo poder aquisitivo tem de chegar ao mercado de trabalho.
(C) no Sistema de Seleção Unificada (SISU).
(D) no Funcionamento do Fundo de Financiamento ao Estudante do Ensino Superior (FIES).

---

22. Com relação às afirmações trazidas no Plano de Desenvolvimento da Educação, analise o fragmento a seguir.

"Até 2005, _____ era apenas um exame, aplicado a cada dois anos, a uma amostra de alunos de cada estado, acompanhado de um questionário. Apesar de limitado, tratava-se de ferramenta útil, que permitia acompanhar o desempenho médio dos alunos e estabelecer correlações estatísticas entre esse desempenho e um conjunto de variáveis apuradas pelo questionário."

Assinale a alternativa que completa <u>corretamente</u> a lacuna desse fragmento.
(A) o Sistema de Avaliação da Educação Básica (SAEB)
(B) a Avaliação Nacional da Alfabetização (ANA)
(C) o Exame Nacional do Ensino Médio (ENEM)
(D) o Exame Nacional para Certificação de Competências de Jovens e Adultos (Encceja)

23. Em conformidade com a Lei Federal nº 13.005, a União promoverá a realização de pelo menos 2 (duas) conferências nacionais de educação até o final do decênio, precedidas de conferências distrital, municipais e estaduais, articuladas e coordenadas pelo Fórum Nacional de Educação, instituído nesta Lei, no âmbito do Ministério da Educação. Nesse sentido, além da atribuição já mencionada, o Fórum Nacional de Educação:
    I. acompanhará a execução do PNE e o cumprimento de suas metas.
    II. promoverá a articulação das conferências nacionais de educação com as conferências regionais, estaduais e municipais que as precederem.
    III. realizará reuniões semestrais com secretários de educação, buscando identificar dificuldades e estabelecer metas.
    IV. promoverá encontros e palestras com o objetivo de capacitar os profissionais de educação em programa de Formação Continuada nacional.
    V. destinará recursos estaduais para a manutenção das Instituições Educacionais.

    Está correto, APENAS, o que se afirma em
    (A) II, IV e V.
    (B) I e II.
    (C) I, III e V.
    (D) III, IV e V.

---

24. De acordo com as afirmações trazidas na Lei Federal nº 9.394/96, é correto afirmar que
    (A) é dever da escola garantir a matrícula dos menores, a partir dos três anos de idade, no ensino fundamental.
    (B) compete aos Estados e aos Municípios, em regime de colaboração, e com a assistência da União, zelar, junto aos pais ou responsáveis, pela frequência à escola.
    (C) as instituições escolares do setor privado não estão sujeitas à autorização de funcionamento e avaliação de qualidade pelo Poder Público.
    (D) a educação básica tem por finalidades ofertar principalmente meios para o educando progredir no trabalho.

---

25. Afirma-se no artigo 8º do Plano Nacional de Educação que os Estados, o Distrito Federal e os Municípios deverão elaborar seus correspondentes planos de educação, ou adequar os planos já aprovados em lei, em consonância com as diretrizes, metas e estratégias previstas neste PNE, no prazo de:
    (A) 10 (dez) anos, contado da publicação desta Lei.
    (B) 12 (doze) anos, contado da publicação desta Lei.
    (C) 1 (um) ano, contado da publicação desta Lei.
    (D) 3 (três) anos, contado da publicação desta Lei.

---

26. O processo por meio do qual diversos sujeitos sociais implementam ações concretas baseadas na noção de competência é nomeado por Ramos (2001) como:
    (A) processo de restruturação pedagógica.
    (B) desenvolvimento qualificado de competências.
    (C) mecanismos de verificação e monitoramento.
    (D) institucionalização de sistemas de competência.

---

27. A Lei Federal nº 8.069/90, que dispõe sobre o Estatuto da Criança e do Adolescente, afirma em seu artigo 110 que
    (A) nenhum adolescente será privado de sua liberdade sem o devido processo legal.
    (B) a criança e adolescente é livre de responsabilidades fiscais e civis.
    (C) será permitido ao adolescente realizar atividades laboral desde que estas sejam comprovadamente necessárias para sua subsistência.
    (D) a criança e/ou adolescente deverá participar de reforços educacionais constantes.

28. Afirma-se no artigo 6º do Plano Nacional de Educação que a União promoverá a realização de pelo menos 2 (duas) conferências nacionais de educação até o final do decênio, precedidas de conferências:
    (A) internacionais de âmbito pedagógico, com objetivos educacionais comuns.
    (B) governamentais, que estabelecerão as regras para a Educação para todos.
    (C) nacionais e mundiais, que organizarão e buscarão padronizar a Educação.
    (D) distrital, municipais e estaduais, articuladas e coordenadas pelo Fórum Nacional de Educação.

---

29. De acordo com a afirmativa de Macedo (2005), a lógica da exclusão se apoia na lógica das
    (A) intermediações.
    (B) pedagogias mal elaboradas.
    (C) classes.
    (D) análises deterministas.

---

30. Analise o fragmento a seguir.

    "O objetivo da educação pública é, portanto, promover _____. A regra vale tanto para instituições de ensino como para indivíduos."

    Assinale a alternativa que, de acordo com o Plano de Desenvolvimento da Educação, completa corretamente essa lacuna.
    (A) autonomia
    (B) interdisciplinaridade
    (C) regulamentação da aprendizagem
    (D) socialização