NÍVEL SUPERIOR

PORTUGUÊS

TEXTO I

Trem - Bala
Ana Carolina Vilela

Não é sobre ter todas as pessoas do mundo pra si
É sobre saber que em algum lugar alguém zela por ti
É sobre cantar e poder escutar mais do que a própria voz
É sobre dançar na chuva de vida que cai sobre nós

É saber se sentir infinito
Num universo tão vasto e bonito é saber sonhar
Então, fazer valer a pena cada verso
Daquele poema sobre acreditar

Não é sobre chegar no topo do mundo e saber que venceu
É sobre escalar e sentir que o caminho te fortaleceu
É sobre ser abrigo e também ter morada em outros corações
E assim ter amigos contigo em todas as situações

A gente não pode ter tudo
Qual seria a graça do mundo se fosse assim?
Por isso, eu prefiro sorrisos
E os presentes que a vida trouxe pra perto de mim

Não é sobre tudo que o seu dinheiro é capaz de comprar
E sim sobre cada momento sorriso a se compartilhar
Também não é sobre correr contra o tempo pra ter sempre mais
Porque quando menos se espera a vida já ficou pra trás
Segura teu filho no colo
Sorria e abrace teus pais enquanto estão aqui
Que a vida é trem-bala, parceiro
E a gente é só passageiro prestes a partir

Laiá, laiá, laiá, laiá, laiá
Laiá, laiá, laiá, laiá, laiá

Segura teu filho no colo
Sorria e abrace teus pais enquanto estão aqui
Que a vida é trem-bala, parceiro
E a gente é só passageiro prestes a partir

01. (Concurso Milagres/2018) Em uma leitura geral do texto, podemos inferir que:

I - Trata-se de uma temática universal e atemporal inerente ao ser – o existencialismo humano frente à fugacidade da vida.

II – Contraditório a tudo que representa o homem contemporâneo, o texto traça o caminho percorrido no mundo capitalista e realça o verdadeiro sentido da vida.

III – Reflete a cosmovisão individual de sua compositora e transformou-se em um grande sucesso devido, entre outras coisas, à melodia intimista e simples.

A) I e II estão corretas.

B) I e III estão corretas.

C) II e III estão corretas.

D) Apenas III está correta.

E) Todas estão corretas.

02. (Concurso Milagres/2018) A estrofe que melhor justifica o título é:

A) A primeira.

B) A sexta

C) A terceira.

D) A quinta

E) A segunda.

03. (Concurso Milagres/2018) No verso: *É sobre saber que em algum lugar alguém zela por ti.*, a oração em destaque é classificada como:

A) Subordinada adjetiva restritiva.

B) Subordinada adverbial causal.

C) Subordinada substantiva subjetiva.

D) Subordinada adverbial concessiva.

E) Subordinada substantiva objetiva direta.

TEXTO II

04. (Concurso Milagres/2018) Estabelecendo uma relação entre o texto Trem Bala e a Tirinha do Texto II, podemos inferir que:

A) Manolito é o retrato do "servo" moderno que a revolução industrial criou, representa o que é negado pela compositora.

B) Mafalda fica perplexa e lamenta a personalidade de Manolito, da mesma forma a compositora se depara com os valores morais.

C) A letra da música e a mensagem da charge refletem o mundo do capital, aquele que criou nas pessoas uma necessidade imensa de garantir seu sustento.

D) A vida não tem espaço no mundo onde os jornais trazem a cotação dos valores econômicos; essa é a principal mensagem - implícita, simples, objetiva e dolorosamente verdadeira apresentada nos textos em questão.

E) Outra característica a que os textos apontam é a desvalorização das coisas imateriais.

05. (Concurso Milagres/2018) Marque a opção em que a passagem bíblica estabelece o diálogo com os textos I e II:

A) Não estejais inquietos por coisa alguma; antes as vossas petições sejam em tudo conhecidas diante de Deus pela oração e súplica, com ação de graças. (9 – Filipenses 4:6)

B) Porque eu bem sei os pensamentos que tenho a vosso respeito, diz o SENHOR; pensamentos de paz, e não de mal, para vos dar o fim que esperais. (2 – Jeremias 29:11)

C) Não atentando nós nas coisas que se vêem, mas nas que se não vêem; porque as que se vêem são temporais, e as que se não vêem são eternas.(2 Coríntios 4:18)

D) Ainda que eu fale as línguas dos homens e dos anjos, se não tiver amor, serei como o bronze que soa ou como o címbalo que retine. (I Coríntios 13:1)

E) Se o sábio lhes der ouvidos, aumentará seu conhecimento, e quem tem discernimento obterá orientação (Provérbios 1:5).

CONHECIMENTOS GERAIS

06. (Concurso Milagres/2018) "A violência doméstica geralmente possui motivação fútil. Alcoolismo, drogadição e questões financeiras são fatores exacerbadores, mas é o machismo revelado no sentimento cotidiano de posse que determina a maioria absoluta de casos do tipo."Ela estava de saía curta, chegou em casa fora do horário combinado ou não havia feito a comida na hora certa. Estas são principais afirmações dos agressores que vêem as mulheres como objetos de sua propriedade, e ainda tentam culpá-las pelo ocorrido. Tudo isso é fruto do mais puro machismo", afirma a promotora." (Promotora Ana Lara Camargo de Castro atua em uma Vara especializada na defesa de mulheres vítimas de violência. Publicado em - https://www.geledes.org.br - 05/07/2014)

O G1- CE, de 19 de junho de 2018, noticiou o índice de julgamentos de ações de violência doméstica registradas no Tribunal de Justiça do Ceará. Sobre tal fato, é correto afirmar:

A) Tribunal de Justiça do Ceará (TJCE) registrou o maior índice de atendimento de processos relacionados à violência doméstica e familiar contra a mulher entre os tribunais do país em 2017. Segundo relatório do Conselho Nacional de Justiça (CNJ), divulgado nesta segunda-feira (19), o órgão cearense julgou 17.257 processos da Lei Maria da Penha no ano passado.

B) A taxa de atendimento à demanda no TJCE foi de 239% dos processos. Além disso, o órgão recebeu 7.224 novas ações judiciárias de violência contra mulher. Ou seja, a quantidade de decisões proferidas pelos juízes do estado foi mais do que o dobro de novos casos recebidos.

C) Graças a ações positivas, o Tribunal de Justiça do Ceará (TJCE) registrou umabaixa significativa no atendimento de processos relacionados à Lei Maria da Penha. Segundo dados do Conselho Nacional de Justiça (CNJ), divulgado nesta segunda feira, as ocorrências de violência doméstica servem de termômetro para o nível geral de violência.

D) As alternativas A e B estão corretas;

E) A, B e C não condizem com a realidade cearense.

07. (Concurso Milagres/2018) Pós-graduação faz mal à saúde

(por Thomaz Wood Jr. — publicado 10/06/2018 – adaptado)

"Segundo a Coordenadoria de Aperfeiçoamento de Pessoal de Nível Superior, o Brasil tinha, em 2017, 2,2 mil programas de doutorado, 3,4 mil de mestrado acadêmico e 703 de mestrado profissional. Conforme compilação da revista *Galileu*, em 2016 foram defendidas quase 80 mil teses e dissertações, metade delas na Região Sudeste. [...]

O índice é relevante, porque a formação em pós-graduação impulsiona a pesquisa e o desenvolvimento. Para os indivíduos, há uma relação direta e positiva entre formação, emprego e salário.

Nas últimas décadas, o título de doutor, antes reservado a cientistas, tornou-se objeto de desejo de professores não pesquisadores ansiosos para garantir emprego e melhores salários e por profissionais do mercado interessados em alternativas de carreira supostamente mais estáveis ou recompensadoras.

Entretanto, para muitos o sonho do título transforma-se em pesadelo. Orientadores distantes, infraestrutura

precária para desenvolvimento da dissertação ou da tese e falta de apoio financeiro podem fazer dos anos de pós-graduação um martírio intransponível.

Além disso, os candidatos enfrentam as dificuldades inerentes ao processo: os desafios de assimilar e dominar o estado da arte do conhecimento e construir uma contribuição científica e, cada vez mais, a exigência de gerar um impacto prático. Afinal, formar um mestre ou um doutor custa muito dinheiro, geralmente dinheiro público.

Assim, de um lado, os pós-graduandos precisam atender a parâmetros globais de qualidade em seu trabalho e, de outro, enfrentam formação básica deficiente e falta de recursos, fruto de idiossincrasias locais. Equilibrar a equação não é trivial. Para um número significativo de candidatos, a produção de uma dissertação ou tese é uma transição sofrida, cheia de expectativas e dúvidas, um fosso escuro do qual não há certeza de emergir.

A pós-graduação é, por tudo isso, um contexto propício para gerar doenças psicossomáticas. De fato, estudos científicos sobre o tema indicam que doutorandos constituem população especialmente sujeita a ansiedade e depressão. O mal afeta os trópicos e muito além."

De acordo com as ideias do texto, é correto afirmar, <u>EXCETO</u>:

A) A equação de difícil equilíbrio se estabelece no paradoxo entre as especificidades locais e as exigências globais;

B) Os adoecimentos próprios da pós-graduação são típicos de países pobres e subdesenvolvidos como o Brasil;

C) Títulos que antigamente eram posses exclusivas de pesquisadores hoje estão popularizados por questões outras;

D) As doenças psicossomáticas têm, em grande parte, origem nos estudos exaustivos e condições adversas;

E) A principal fonte dos estudos *stricto sensu* é dinheiro público.

08. (Concurso Milagres/2018) "Ceará vacinou 94,71% do público-alvo na campanha nacional de vacinação contra a gripe, alcançando a meta estabelecida pelo Ministério da Saúde, de 90% dos grupos prioritários. Em termos percentuais, o Ceará é o estado do Nordeste com maior cobertura e homogeneidade e o terceiro do Brasil." (<u>https://g1.globo.com/ce/ceara/noticia</u> - adaptado). São grupos prioritários na meta de vacinação, <u>EXCETO</u>:

A) Crianças de 06 meses a 5 anos;

B) Gestantes;

C) Trabalhadores da educação e saúde;

D) Indígenas;

E) Idosos.

09. (Concurso Milagres/2018) Observe com atenção a receita culinária apresentada a seguir:

Bolo de goma

INGREDIENTES
02 xícaras de goma;
02 ovos;
½ xícara de óleo;
01 colher de café de fermento;
01 colher de café de sal.

MODO DE FAZER

Ferva o leite com o óleo, e despeje sobre a goma, o fermento e o sal. Bata as claras

em neve, junte as gemas e despeje sobre a goma escaldada, Asse em forma untada e polvilhada com farinha de trigo. Leve ao forno até dourar. Bom apetite!

Essa receita do "Bolo de Goma", também conhecida como "Bolo do Piauí" nos dá a convicção de que comer é um ato que envolve fatores econômicos, sociais, geográficos, históricos, religiosos e culturais. A escolha dos ingredientes, o preparo dos alimentos e a maneira de servir identificam o grupo social e ajudam a estabelecer uma identidade cultural. No caso apresentado acima, demonstra:

A) uma estreita relação de culturas, onde se incorpora de ingredientes oriundos de tradições culinárias distintas e ingredientes múltiplos.

B) uma receita espontânea, incorporada aos padrões culinários da colônia.

C) um ritual de servir, vinculado aos costumes e formalismos religiosos do povo africano.

D) uma maneira de manusear ingredientes próprios do extrativismo, associado ao estilo nômade dos ciganos.

E) uma demanda de identidade cultural, pelo uso de produtos originados e cultivados em áreas sertanejas.

10. (Concurso Milagres/2018) Cada cultura tem suas virtudes, seus vícios, seus conhecimentos, seus modos de vida, seus erros, suas ilusões. Na nossa atual era planetária, o mais importante é cada nação aspirar a integrar aquilo que as outras têm de melhor, e a buscar a simbiose do melhor de todas as culturas. A França deve ser considerada em sua história não somente segundo os ideais de Liberdade-Igualdade-Fraternidade promulgados por sua Revolução, mas também segundo o comportamento de uma potência que, como seus vizinhos europeus, praticou durante séculos a escravidão em massa, e em sua colonização oprimiu povos e negou suas aspirações à emancipação. Há uma barbárie europeia cuja cultura produziu o colonialismo e os totalitarismos fascistas, nazistas, comunistas. Devemos considerar uma cultura não somente segundo seus nobres ideais, mas também segundo sua maneira de camuflar sua barbárie sob esses ideais. (Edgard Morin. Le Monde, 08.02.2012. Adaptado.)

No texto citado, o pensador contemporâneo Edgard Morin desenvolve:

A) uma apologia ao caráter absolutista dos valores morais, históricos e culturais da Revolução Francesa;

B) um ato de reflexão crítica acerca do contato entre a cultura ocidental e outras culturas e do quanto a "cultura oficial" se distancia dos processos formadores de suas identidades;

C) um posicionamento eloquente e laudatório sobre a reverberação dos ideais da Revolução Francesa para os novos rumos da sociedade;

D) posicionamentos em que se defende a preservação intacta de cultura como forma de evitar a massificação e a desidentidade;

E) elogios sobre os grandes impactos de determinadas atitudes humanísticas que garantem a preservação humana de forma igualitária.

11. (Concurso Milagres/2018) Em notícia veiculada no G1CE, de 19 de junho do corrente ano, CNH digital passa a valer no estado Ceará. Para utilizar tal documento, é necessário:

A) Caso já possua a versão impressa, no estado do Ceará, basta ir ao órgão responsável, pagar uma taxa e solicitar a nova versão;

B) Independente de categoria e tempo de expedição da carteira impressa, todo habilitado tem livre acesso à versão digital;

C) Há restrição para os habilitados que possuem carteira vencendo com menos de 120 dias;

D) Com a nova versão da CNH digital, a versão impressa passa a não mais valer dentro do espaço de 24 meses;

E) Para obter uma CNH digital, o primeiro é preciso ter a CNH impressa no formato atual, com QR code. Quem tem a versão antiga, precisará pedir uma segunda via ou renovar a impressa para, então, solicitar a digital.

12. (Concurso Milagres/2018) Dadas as informações abaixo sobre notícias veiculadas no Ceará, marque a falsa:

A) Cerca de 20 detentos fogem de penitenciária em Juazeiro do Norte, no Ceará**;**

B) O índice de violência diminui no estado, população alerta para os fins eleitoreiros que estes dados comportam;

C) Ceará tem 83 municípios em alerta ou risco para dengue, zika e chikungunya;

D) Mostra Sesc exibe e premia produções cearenses;

E) Laboratório registra tremor de terra de magnitude 1,8 em Cascavel, no Ceará.

13. (Concurso Milagres/2018) Observe a charge a seguir e estabeleça a relação com as informações contidas abaixo, marque a opção que melhor estabelece diálogo com a mensagem passada pela charge:

A) somos hoje uma nação que, tendo tomado consciência de si mesma e de seus destinos, procura (se é que já não o encontrou) o caminho para se afirmar e realizar-se na plenitude de suas forças. Nenhum acontecimento, nenhuma pressão externa seria capaz (creio eu) de nos desviar dos rumos que essa consciência, as nossas possibilidades e o constante esforço para aproveitá-las já nos traçaram. Por certo que não é esse caminho fácil de percorrer, não só devido às oscilações e conflitos, no plano internacional, como também em face das contradições internas e da diversidade de aspectos e tendências regionais. (http://www.revistas.usp.br/revhistoria/article/view/123250/119605 adaptado)

B) para se atingir um patamar mais consistente, será necessária uma visão mais orgânica e retrospectiva, capaz de avaliar e refletir sobre experiências prévias. Tal estágio será tanto mais distante e inatingível quanto mais as pastas de cultura forem entregues a artistas e intelectuais consagrados que, na

falta de um passado de administradores e de vontade política, tenderem a se comportar como "medalhões", julgando-se autorizados a orientar a ação de governo por linhas que sigam apenas suas preferências pessoais. Isso sem mencionar - pior ainda - aqueles secretários que são escolhidos "à força" porque nenhum partido tenha se interessado por uma área tão pouco atrativa na partilha do orçamento e dos cargos politicamente compensadores. Esses dirigentes "de ocasião" com facilidade aspiram a marcar sua presença com projetos "de impacto", que, na maioria das vezes, consistem em "reinventar a roda". (São Paulo Perspec. vol.15 no.2 São Paulo Apr./June 2001 – adaptado)

C) A paisagem cultural só se enriquece e se diversifica consistentemente no longo prazo, fruto de processos de aprendizado e transmissão que alargam o repertório de gosto, a sensibilidade ao fazer artístico e o bolsão de amadorismo em que navega a maioria das pessoas que se sentem participantes desse pequeno universo. São esses processos que, em grande parte, dilatam socialmente as práticas amadoras, entendidas como o viveiro em que germinam e se consolidam as trajetórias que levam ao profissionalismo em artes e outras expressões culturais. (Idem);

D) Para que o Estado efetue, de forma concreta, a proteção à cultura em seu sentido antropológico, sendo esta toda manifestação de um determinado grupo de pessoas, é necessário que exista vinculo fundamental com o principio basilar do ordenamento jurídico brasileiro, o principio da dignidade da pessoa humana. Relaciona-se com o questionamento feito por quem inicia o estudo dos direitos culturais, se deveria o Estado tutelar de forma isonômica, tudo que é entendido como cultura. Pois mesmo neste sentido tão amplo de cultura, o Estado deve dispensar proteção a manifestações de cunho degradante ao ser humano, como por exemplo praticas voltadas simplesmente a finalidade de lucro, relativizando o valor do ser humano; (www.direitosculturais.com.br/download.php?id=124)

E) Se nos detivermos na realidade brasileira podemos perceber o quanto as políticas culturais avançaram no sentido de contemplar a diversidade cultural do país, com destaque para a esfera federal da gestão púbica da cultura no Brasil. A última década foi especialmente estimulante tanto para o debate quanto para a implementação de políticas e gestões públicas de cultura focadas em abarcar a diversidade cultural.(http://culturadigital.br/politicaculturalcasaderuibarbosa/files/2014/06/Alice-Pires-de-Lacerda.pdf).

14. (Concurso Milagres/2018) Observe as informações sobre o município de Milagres e responda o que se pede:

I – De acordo com as informações do último censo, a população do município gira em torno de pouco mais de vinte e oito mil pessoas;

II - Os números registrados no IDEB registram que a educação do município é muito superior a média;

III – O percentual da população do município com rendimento nominal mensal per capita de até 1/2 salário mínimo é de 12,1 %.

A) I e II são verdadeiras;

B) I e III são verdadeiras;

C) II e III são verdadeiras;

D) Todas são verdadeiras;

E) Todas são falsas.

15. (Concurso Milagres/2018) Nos últimos cinquenta anos têm acontecido um reconhecimento, pequeno embora, dos valores e direitos das comunidades e etnias "de margem", que entre outros motivos, parte das agremiações e instituições de sindicatos e organização destes. A luta é constante e as barreiras ainda se mostram intransponíveis. Em 2014, aproximadamente em 24 Estados do Brasil cadastrou mais de 3500 comunidades quilombolas. É considerado Comunidade Quilombola o agrupamento de pessoas étnico-raciais, segundo critérios de auto atribuição, com trajetória histórica própria, dotados de relações territoriais específicas e com ancestralidade negra relacionada com a resistência à opressão histórica sofrida. A Constituição Federal do Brasil (1988) brasileiro reconhece a identidade dos quilombolas e o seu direito fundamental à:

A) praticar livremente sua opção religiosa e obedecer a suas tradições ritualísticas;

B) liberdade de expressar-se culturalmente;

C) posse definitiva das terras que estejam ocupando;

D) instituir sua própria escola onde seus valores e preceitos sejam respeitados;

E) liberdade de expressar-se artisticamente em sua língua de origem.

MÉDICO VETERINÁRIO

16. (Concurso Milagres/2018) Sobre o PNCEBT, Programa Nacional de Controle e Erradicação da Brucelose e Tuberculose, mais precisamente no tocante à Brucelose, julgue os itens abaixo e assinale o INCORRETO:

A) Os testes laboratoriais considerados de Triagem para Brucelose pela legislação são: Antigeno Acidificado Tampponado-AAT e Teste do Anel de Leite-TAL;

B) Os testes laboratoriais considerados Confirmatórios para Brucelose pela legislação são: 2-mercaptoetanol-2ME e Fixação de Complemento-FC;

C) O certificado de propriedade monitorada para brucelose e tuberculose será atribuído para fazendas de gado de leite e corte;

D) O PNCEBT estabelece exigências de diagnóstico para efeito de trânsito interestadual de animais destinados à Reprodução;

E) A vacinação contra Brucelose ocorre nas bezerras de 3 a 8 meses de idade com a vacina B-19;

17. (Concurso Milagres/2018) Sobre a Tuberculose Bovina, julgue os itens abaixo e assinale o CORRETO:

A) O teste da prega ano-caudal pode ser utilizado como prova de triagem, tanto em gado de corte quanto de leite;

B) O teste cervical simples é a prova de rotina em gado de leite devido à sua boa sensibilidade;

C) Considera-se que a sensibilidade do teste cervical simples é menor do que da prega caudal;

D) Novo teste de tuberculinização poderá ser realizado após um período de 30 dias do teste anterior;

E) O teste cervical comparativo é exame de triagem para animais reagente ao teste da prega ano-caudal;

18. (Concurso Milagres/2018) O material ideal para o isolamento de Brucella sp é o proveniente do aborto. Entre os materiais de eleição destacam-se, exceto:

A) Feto e anexos fetais;

B) Exsudato vaginal;

C) Leite;

D) Fezes, urina e descarga nasal;

E) Animais necropsiados ou colheita em abatedouro;

19. (Concurso Milagres/2018) Assinale a alternativa INCORRETA no que diz respeito ao destino de animais positivos para Brucelose ou Tuberculose:

A) É necessário fazer a necropsia, utilizando sempre os EPIs (Equipamentos de Proteção Individual);

B) No caso da Brucelose, pode ser feito o abate sanitário em estabelecimento que possua SIF- Serviço de Inspeção Federal;

C) A destruição dos animais deve ser acompanhada pelo serviço oficial de Defesa Sanitária Animal;

D) Na necessidade de descontaminação de materiais (instrumentos, vestimentas, etc.), recomenda-se a fervura por 30 minutos ou ainda imersão em desinfetantes químicos;

E) A destruição deve ser feita por método que assegura uma morte rápida sem espalhamento de sangue;

20. (Concurso Milagres/2018) São doenças de eleição para diagnóstico diferencial para Febre Aftosa, EXCETO:

A) Estomatite Vesicular;

B) Língua Azul;

C) Rinotraqueite Infecciosa Bovina-IBR

D) Mamilite Herpética Bovina

E) Leucose Enzoótica

21. (Concurso Milagres/2018) Assinale a alternativa correta sobre a estratégia de vacinação contra a febre aftosa vigente no estado do Ceará:

A) Todos os animais nas duas etapas de vacinação;

B) Machos na primeira etapa e todos os animais na segunda;

C) Animais acima de 6 meses nas duas etapas;

D) Única etapa com todos os animais e duração de 60 dias;

E) Todos os animais na primeira etapa e animais até 24 meses de idade na segunda;

22. **(Concurso Milagres/2018) A definição de doença vesicular, foi atualizada pela Instrução Normativa nº 44, de 02 de Outubro de 2007, conforme padrões internacionais da OIE. Das alternativas a seguir, assinale a INCORRETA:**

A) Caso descartado de febre aftosa: animal já sadio, após a cicatrização das lesões da enfermidade;

B) Caso provável de doença vesicular: constatação pelo serviço veterinário oficial de animais apresentando sinais clínicos compatíveis com doença vesicular;

C) Caso descartado de doença vesicular: todo caso suspeito, que após investigação, não possui sinais clínicos compatíveis com doença vesicular;

D) Caso ou foco de febre aftosa: registro em uma unidade epidemiológica, de pelo menos um animal positivo para a enfermidade;

E) Caso suspeito de doença vesicular: notificação apresentada ao serviço veterinário oficial indicando a possibilidade de existência de um ou mais animais apresentando sinais clínicos compatíveis com doença vesicular;

23. (Concurso Milagres/2018) Sobre o ciclo estral das vacas, assinale a alternativa CORRETA:

A) A vaca ovula de 8 a 12 horas após os sinais de comportamento de cio aparecerem;

B) A duração do dia é o determinante primário para estimular a sazonalidade nas regiões temperadas do mundo;

C) Bovinos situados próximos da linha do equador tendem a perder a maior parte, senão toda, da sazonalidade;

D) Programas de iluminação artificial podem antecipar a entrada das vacas em atividades regulares de ciclo estral em 60 a 90 dias , quando realizados de forma correta;

E) O ciclo estral é comumente definido como inicio coma ovulação e término no dia anterior à próxima ovulação, durando em média na espécie bovina 25 dias;

24. (Concurso Milagres/2018) Quando se pensa em uma criação intensiva de gado leiteiro, deve-se atentar para o conforto dos animais nas instalações, objetivando assim bem-estar dos animais e consequentemente aumento de produção. Sobre instalações para gado de leite, assinale a alternativa CORRETA:

A) Cercas de arame farpado para contenção dos animais, principalmente as vacas em lactação;

B) Exposição aos raios solares nas horas mais quentes do dia, facilitando a secagem do piso;

C) Drenagem eficiente do terreno, evitando acúmulo de água;

D) Piso de calçamento em pedra tosca facilitando a higienização;

E) Ser exposta correntes de ar frio, evitando assim doenças respiratórias;

25. (Concurso Milagres/2018) Você foi chamado para atuar numa pequena comunidade de assentados vivendo em áreas de risco de proliferação de doenças. Neste assentamento são criados equinos e bovinos. Dentre as alternativas abaixo, qual enumera as zoonoses que você deve ter mais atenção na comunidade:

A) Raiva, Mormo, Tristeza Parasitária

B) Mastite, Tuberculose, Leptospirose

C) Mormo, Brucelose, Tuberculose

D) Listeriose, Anaplasmose, Leucose Enzoótica

E) EEB, Campilobacteriose, Leishmaniose

26. (Concurso Milagres/2018) Dentre as vantagens do exame ultrassonográfico nos animais domésticos, podemos citar, EXCETO:

A) Auxilia nas biotécnicas aplicadas à reprodução animal;

B) Realiza diagnóstico em órgãos não visualizados em outros exames de imagem, como raio-x, por exemplo;

C) Trata-se de uma prática não invasiva, na maior parte dos pacientes não é necessário sedação;

D) Pode causar pequenas lesões na pele devido a radiação emitida pelo aparelho;

E) Pode ser feita nas propriedades rurais, hípicas, haras, etc.;

27. (Concurso Milagres/2018) A Inseminação Artificial é a técnica onde se deposita o sêmen do macho dentro do útero da fêmea, sendo assim bastante empregada na reprodução

animal. Sobre a Inseminação Artificial, marque a alternativa INCORRETA:

A) Possibilita utilizar touros no rebanho, mesmo depois de mortos;

B) Pode ser implantada em qualquer tipo de rebanho, mesmo sem escrituração zootécnica;

C) Diminui o gasto com a manutenção de reprodutores;

D) Aumenta o melhoramento genético do rebanho, com uso de touros provados;

E) Evita a proliferação de doenças infecciosas reprodutivas no rebanho;

28. (Concurso Milagres/2018) A ciclicidade reprodutiva de uma fêmea depende da atividade ovariana, e esta por sua vez depende de fatores externos que podem alterar a vida reprodutiva normal. Dentre os fatores que podem influenciar nessa atividade, assinale a alternativa INCORRETA:

A) Incidência de raios solares (fotoperíodo);

B) Nutrição;

C) Efeito Macho;

D) Pelagem;

E) Idade;

29. (Concurso Milagres/2018) O Cio é o período em que as fêmeas bovinas encontram-se receptivas aos machos, resultando na cópula (monta). São sinais de cio em vacas, EXCETO:

A) Cauda elevada e inquietação;

B) Apetite depravado, troncos, pedras, etc.;

C) Discreto aumento da temperatura corporal;

D) Corrimento vulva cristalino;

E) Diminuição do apetite;

30. (Concurso Milagres/2018) O período de gestação médio normal é:

I) Bovino: 300 dias
II) Caprino: 159 dias
III) Suíno: 114 dias

Marque a alternativa CORRETA:

A) Todas

B) Apenas I

C) Apenas II

D) Apenas III

E) Apenas I e II

31. (Concurso Milagres/2018) Os Cães clinicamente acometidos pela cinomose encontram-se com as seguintes características epidemiológicas, EXCETO:

A) Falta de vacinação ou doses incompletas;

B) Vacinas inapropriadas;

C) Colostro materno com títulos adequados de anticorpos;

D) Histórico de exposição a cães infectados;

E) Imunossupressão;

32. (Concurso Milagres/2018) Sobre o tratamento da Leishmaniose Visceral Canina, julgue as alternativas abaixo:

I) Os cães tratados são potencialmente não infectantes;

II) O tratamento gera cura parasitológica;
III) As recidivas podem ocorrer e, por isso, os pacientes (cães) devem ser continuamente monitorados;

Marque a alternativa CORRETA:

A) Todas
B) Apenas I
C) Apenas II
D) Apenas I e II
E) Apenas I e III

33. (Concurso Milagres/2018) Sobre os sinais clínicos da Leishmaniose, julgue as alternativas a seguir:

I) A leishmaniose pode gerar desde animais assintomáticos até quadros graves que podem levar à morte do animal;

II) A manifestação da doença está relacionada ao padrão de resposta imune do organismo do hospedeiro infectado;

III) Todos os animais infectados desenvolvem os sinais clínicos da doença, mesmo ela tendo uma evolução lenta e crônica;

Marque a alternativa CORRETA:

A) Apenas I e II
B) Apenas II e III
C) Apenas I e III
D) Apenas II
E) Todas

34. (Concurso Milagres/2018) A Erliquiose Monocítica Canina (EMC) é uma patologia que acomete cães pela presença de um hemoparasita chamado de *Ehrlichia canis*. Em que fase da doença é mais produtiva a pesquisa do Hemoparasito no hospedeiro?

A) Em todas as fases
B) Na fase crônica
C) Na fase subclínica
D) Na fase aguda
E) Na fase terminal

35. (Concurso Milagres/2018) Qual das alternativas abaixo contém apenas fármacos capazes de curar a infecção em cães com Erliquiose, lembrando que a infecção representa a presença do agente no organismo hospedeiro?

A) Imidocarb e Tetraciclina
B) Enrofloxacina e Minociclina
C) Doxiciclina e Cloranfenicol
D) Sulfa e Cloranfenicol
E) Minociclina e Cloranfenicol

36. (Concurso Milagres/2018) Avalie a figura abaixo e marque a resposta que correlaciona as imagens anatômicas reprodutivas do macho as espécies de animais as quais estes pertencem (marque a resposta CORRETA).

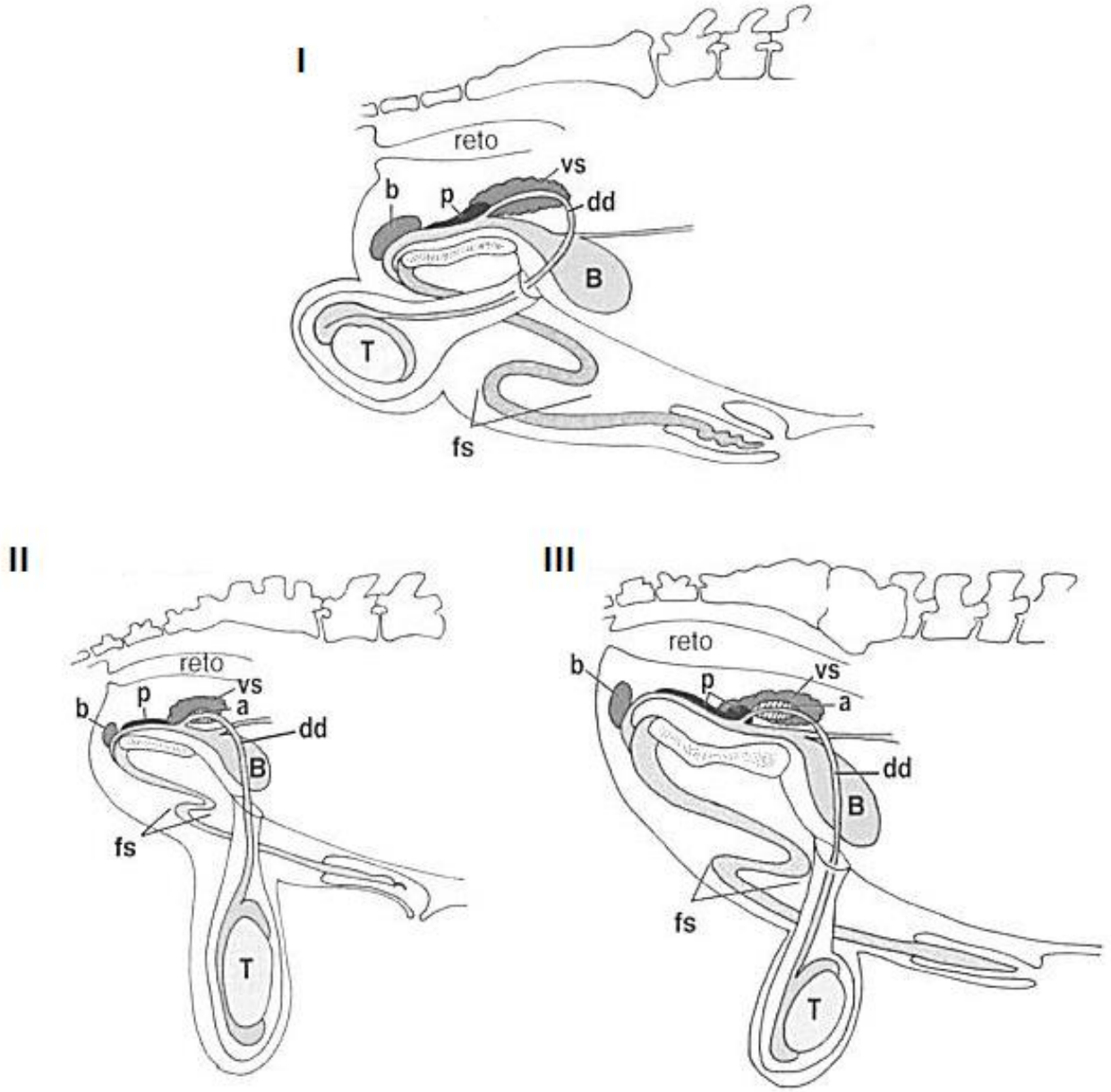

Figura 1. Diagrama esquemático da anatomia reprodutiva do macho. T, testículo; B, bexiga urinária; dd, ducto deferente; a, ampola; vs, glândula vesicular; p, próstata; b, glândula bulbouretral; fs, flexura sigmoide. Figura editada.

Fonte: FRANDSON, R.D.; WILKE, W.L.; FAILS, A. D. Anatomia e fisiologia dos animais de fazenda. 7°. ed. Rio de Janeiro: Guanabara Koogan, 2016.

A) Suíno (I); Ovino (III); Bovino (II).

B) Suíno (I); Ovino (II); Bovino (III).

C) Suíno (II); Ovino (I); Bovino (III).

D) Suíno (II); Ovino (III); Bovino (II).

E) Suíno (III); Ovino (II); Bovino (I).

37. (Concurso Milagres/2018) A pena para quem infringir o Art. 32. (Praticar ato de abuso, maus-tratos, ferir ou mutilar animais silvestres, domésticos, nativos ou exóticos) da Lei Federal nº 9.605/98 (Lei de Crimes Ambientais) é:

A) Reclusão de um ano a cinco anos.

B) Detenção de seis meses a um ano, e multa.

C) Reclusão, de um a três anos, e multa.

D) Detenção, de três meses a um ano, e multa.

E) Detenção, de um a três anos, ou multa, ou ambas cumulativamente.

38. (Concurso Milagres/2018) Avalie a figura abaixo e marque a resposta que correlaciona as imagens ao útero da vaca e da porca, respectivamente.

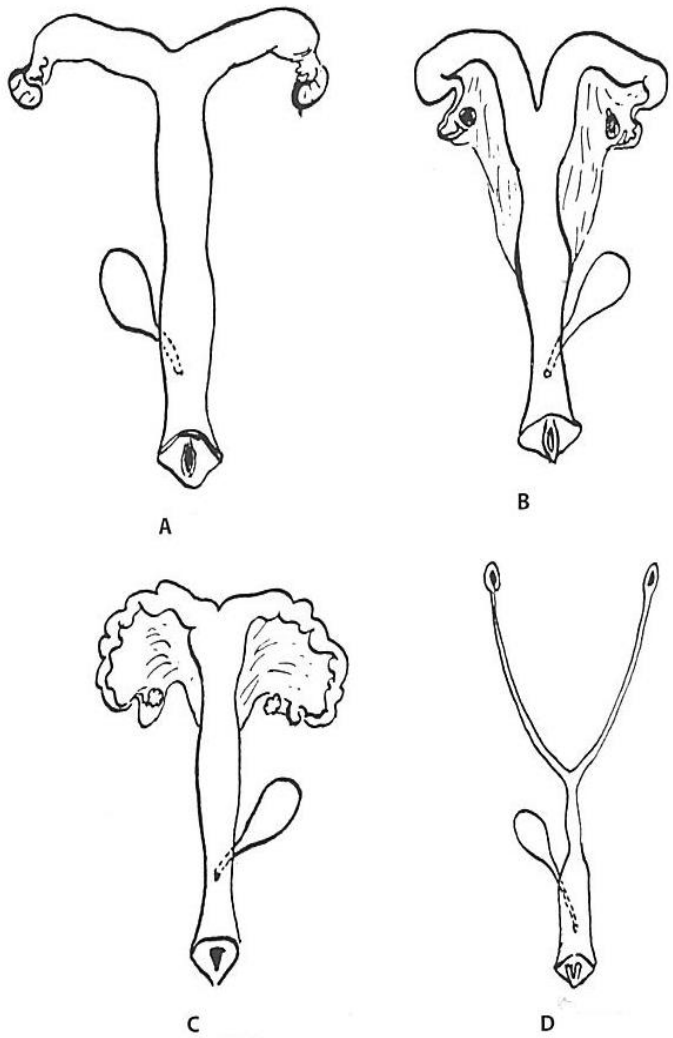

Figura 2. Formatos comparativos do útero de animais. Figura editada.

Fonte: FRANDSON, R.D.; WILKE, W.L.; FAILS, A. D. Anatomia e fisiologia dos animais de fazenda. 7ª. ed. Rio de Janeiro: Guanabara Koogan, 2016.

Assinale a alternativa CORRETA:

A) A e D
B) A e C
C) B e D
D) C e D
E) B e C

39. (Concurso Milagres/2018) Parasita hematófago que acomete principalmente ovinos e caprinos. Os animais com carga parasitária elevada podem apresentar os seguintes sinais clínicos, edema submandibular ou papeira, severa anemia, perda de peso e apetite, podendo levar o animal a morte. Esta enfermidade é provocada por qual espécie de nematódeo?

A) *Haemonchus contortus.*

B) *Strongyloides papillosus.*

C) *Moniezia.*

D) *Fasciola hepática.*

E) *Cooperia curticei.*

40. (Concurso Milagres/2018) De acordo com a questão anterior, o parasito no hospedeiro se localiza principalmente no:

A) Retículo.

B) Omaso.

C) Abomaso.

D) Rúmen.

E) Intestino delgado.

41. (Concurso Milagres/2018) Em relação ao sistema respiratório, as aves utilizam para:

I) Vocalização.
II) Termorregulação.
III) Trocas gasosas.

Assinale a alternativa CORRETA:

A) I.

B) II.

C) I e III.

D) I, II e III.

E) II e III.

42. (Concurso Milagres/2018) Podemos citar como exemplo de doenças ocasionadas por bactérias:

A) Febre catarral maligna e Botulismo.

B) Tétano e Leucose enzoótica.

C) Artrite encefalite caprina e Leptospirose.

D) Rinite micótica em ovinos e Tuberculose bovina.

E) Actinomicose e Linfadenite caseosa.

43. (Concurso Milagres/2018) Avalie a figura abaixo e correlacione os números indicados aos nomes das particularidades correspondentes, marcando a alternativa CORRETA.

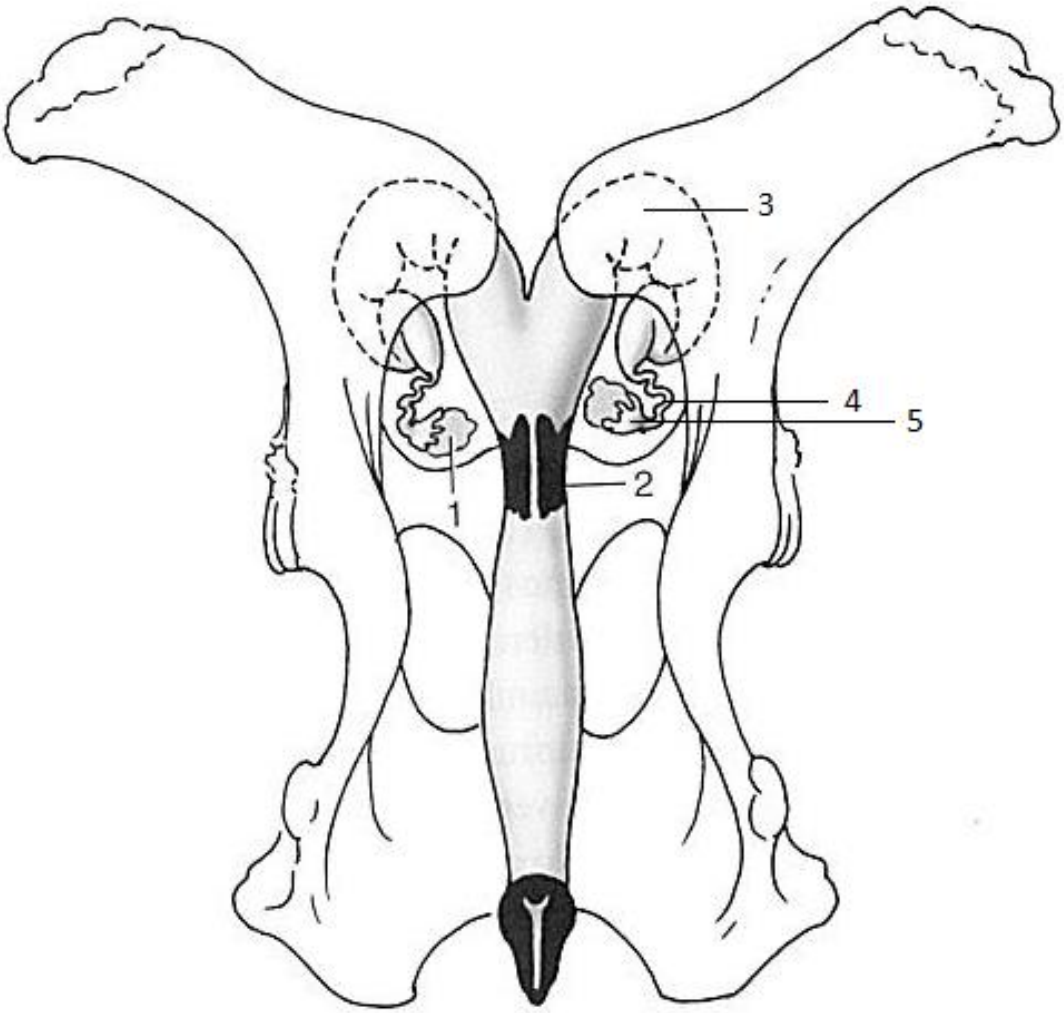

Figura 3. Vista dorsal da pelve óssea e órgãos reprodutivos (não gravídicos) relacionados em bovinos. Figura editada.

Fonte: DYCE, K.M.; SACK, W. O.; WENSING, C.J.G. Tratado de anatomia veterinária. 4ª ed. Rio de Janeiro: Elsevier, 2010.

A) 1 - Ovário; 2 - Cérvix; 3 - Corno uterino; 4 - Tuba uterina; 5 - Infundíbulo.

B) 1 - Ovário; 2 - Cérvix; 3 - Corpo do útero; 4 - Infundíbulo; 5 - Tuba uterina.

C) 1 - Ovário; 2 - fórnix; 3 - Tuba uterina; 4 - Infundíbulo; 5 - Corno uterino.

D) 1 - Ovário; 2 - fórnix; 3 - Corpo do útero; 4 - Tuba uterina; 5 - Infundíbulo.

E) 1 - Ovário; 2 - fórnix; 3 - Corno uterino; 4 - Tuba uterina; 5 - Infundíbulo.

44. (Concurso Milagres/2018) ***A Instrução Normativa nº 50, de 24 de setembro de 2013 lista as doenças de animais de notificação obrigatória imediata de qualquer caso suspeito.***

I) Estomatite vesicular

II) Peste suína clássica

III) *Doença de Newcastle*

IV) *Língua azul*

V) *Scrapie*

Assinale a alternativa que indica a sequência CORRETA:

A) I e II

B) I e III

C) II, III e IV

D) I, II, III e V

E) Todas

45. (Concurso Milagres/2018) Com relação à osteologia, avalie a figura abaixo e marque a resposta que correlaciona os números indicados na imagem aos nomes dos ossos correspondentes (Marque a alternativa CORRETA).

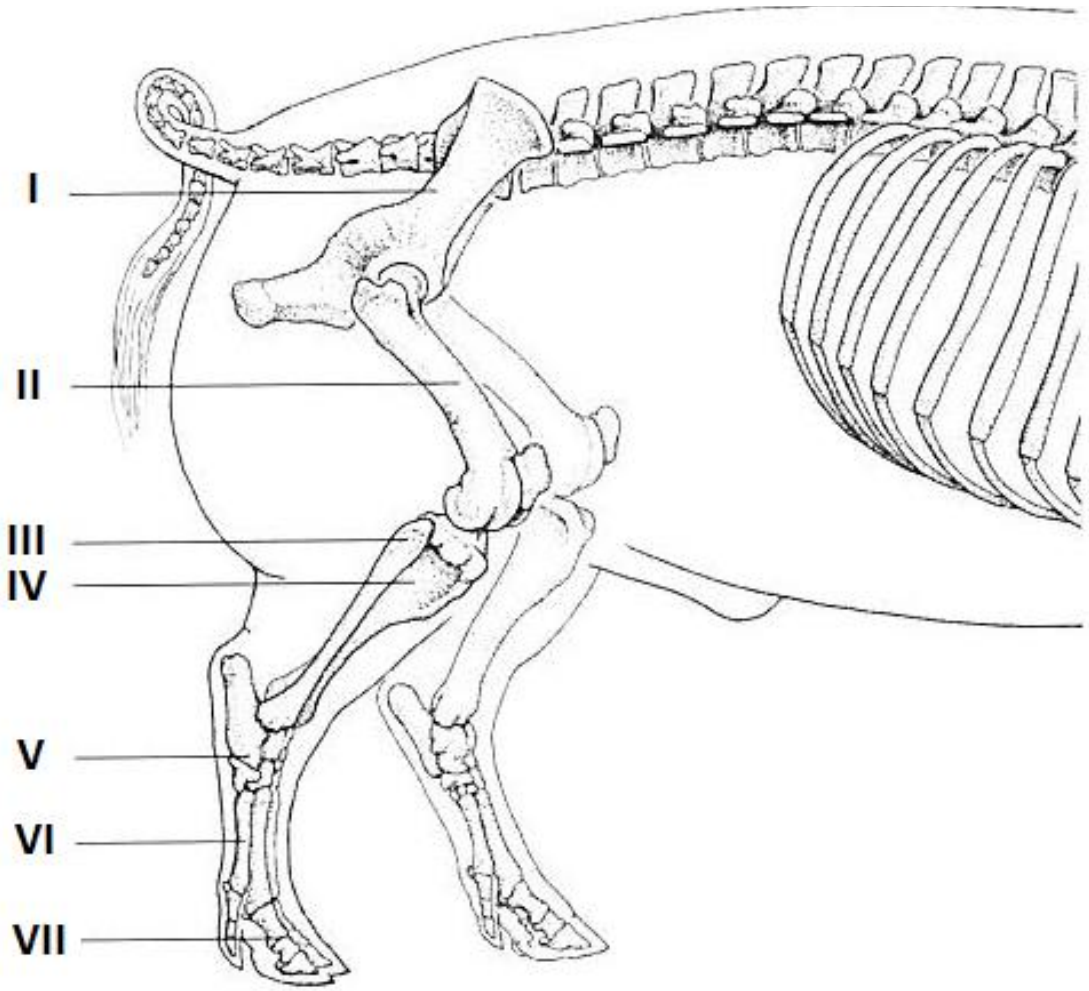

Figura 4. Esqueleto do membro pélvico do suíno: ossos (representação esquemática). Figura editada.

Fonte: KÖNIG, H.E.; LIEBICH, H.G. Anatomia dos animais domésticos: texto e atlas colorido. 6°. ed. Porto Alegre: Artmed, 2016.

A) I – Ossos coxais; II – Fêmur; III – Tíbia; IV – Fíbula; V – Ossos tarsais; VI – Falanges; VII – Ossos metatarsais.

B) I – Ossos coxais; II – Fêmur; III – Fíbula; IV – Tíbia; V – Ossos tarsais; VI – Ossos metatarsais; VII – Falanges.

C) I – Ossos coxais; II – Fêmur; III – Fíbula; IV – Tíbia; V – Ossos metatarsais; VI – Ossos tarsais; VII – Falanges.

D) I – Ossos coxais; II – Fêmur; III – Tíbia; IV – Fíbula; V – Ossos metatarsais; VI – Ossos tarsais; VII – Falanges.

E) I – Ossos coxais; II – Fêmur; III – Tíbia; IV – Fíbula; V – Ossos tarsais; VI – Falanges; VII – Ossos metatarsais.