CORPO DE BOMBEIROS MILITAR

CONCURSO PÚBLICO PARA FORMAÇÃO DE CADASTRO DE RESERVA PARA O CARGO DE ALUNO-A-SOLDADO DO CORPO DE BOMBEIROS MILITAR

EDITAL N.º 006/2022-SEPLAG/SESP/MT E AS DEVIDAS ALTERAÇÕES

Cargo:

ALUNO-A-SOLDADO DO CORPO DE BOMBEIROS MILITAR DO ESTADO DE MATO GROSSO

CADERNO DE PROVA

Nome do Candidato

Gerência de Exames e Concursos

I N S T R U Ç Õ E S

LEIA COM ATENÇÃO

1. Este Caderno de Prova, com páginas numeradas de **01** a **23**, é constituído de uma **Prova Objetiva** com **60 (sessenta)** questões de múltipla escolha, cada uma com 5 (cinco) alternativas, assim distribuídas:

01 a **47 – Grupo I: Conhecimentos Básicos**
48 a **51 – Grupo II: Conhecimentos de Legislação**
52 a **60 – Grupo III: Conhecimentos Específicos**

2. Caso o Caderno de Prova esteja incompleto ou tenha qualquer defeito de impressão, solicite ao fiscal que o substitua.

3. Sobre a Marcação do Cartão de Respostas da Prova Objetiva

As respostas das questões deverão ser transcritas com caneta esferográfica de tinta azul ou preta não porosa, fabricada em material transparente, para o Cartão de Respostas, que será o único documento válido para correção. O Cartão de Respostas não será substituído por erro ou dano do candidato.

3.1. Para cada questão existe apenas uma alternativa que a responde acertadamente. Para a marcação da alternativa escolhida no **CARTÃO DE RESPOSTAS, pinte completamente** o círculo correspondente.

*Exemplo: Suponha que para determinada questão a alternativa **C** seja a escolhida.*

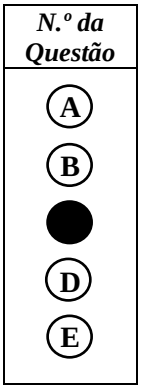

3.2. Será invalidada a questão em que houver mais de uma marcação, marcação rasurada ou emendada, ou não houver marcação.

3.3. Não rasure nem amasse o **CARTÃO DE RESPOSTAS**.

4. Todos os espaços em branco, neste caderno, podem ser utilizados para rascunho.

5. A duração da prova é **4h**, já incluído o tempo destinado ao preenchimento do **CARTÃO DE RESPOSTAS**.

6. Somente após decorridas **2h30min** do início da prova, o candidato, depois de entregar seu Caderno de Prova e seu Cartão de Respostas, poderá retirar-se da sala de prova. O candidato que insistir em sair da sala de prova antes desse tempo deverá assinar Termo de Ocorrência declarando sua desistência do concurso.

7. Será permitida a saída de candidatos levando o Caderno de Prova somente **na última meia hora** de prova.

8. Na página **23** deste Caderno de Prova, encontra-se a **Folha de Anotação do Candidato**, a qual poderá ser utilizada para a transcrição das respostas das questões objetivas. Essa folha poderá ser levada pelo candidato para posterior conferência com o gabarito somente após decorridas **2h30min** do início da prova.

9. Após o término da prova, o candidato deverá, obrigatoriamente, entregar ao fiscal o **CARTÃO DE RESPOSTAS** devidamente preenchido e assinado (nos espaços próprios).

GRUPO I – CONHECIMENTOS BÁSICOS

HISTÓRIA DE MATO GROSSO

QUESTÃO 01

Desde os inícios da década de 1740, a monarquia portuguesa discutia a possibilidade da fundação de uma vila na região do Guaporé. Algo que somente veio a ocorrer quando da criação da Capitania de Mato Grosso e a chegada do primeiro governador e capitão-general Dom Antônio Rolim de Moura. Em 1752, foi então fundada a vila na região do Guaporé e que se tornaria a capital da nova Capitania de Mato Grosso. Qual era esta vila?

[A] Vila de Nossa Senhora do Livramento
[B] Vila de Sant'Ana da Chapada dos Guimarães
[C] Porto Velho
[D] Vila Bela da Santíssima Trindade
[E] Poconé

QUESTÃO 02

O período regencial que realizou a transição entre o 1º e o 2º Reinado foi marcado pela acirrada luta pelo poder entre os grupos liberais e conservadores. Em diversos momentos, aconteceram conflitos beligerantes nas províncias. Na madrugada de 30 de maio de 1834, ao som de tiros e palavras de repúdio contra os portugueses, cerca de oitenta revoltosos partiram do Campo do Ourique e tomaram o Quartel dos Guardas Municipais. A ordem era saquear a casa dos portugueses e matar cada um que se colocasse em seu caminho, levando como troféu a orelha de cada inimigo morto. Esse movimento ocorrido em Cuiabá ficou conhecido como Rusga. Qual associação participou ativamente na articulação desse movimento?

[A] Academia dos sábios
[B] Sociedade Filantrópica
[C] Irmandade de São Benedito
[D] Sociedade Auxiliar da Indústria
[E] Sociedade dos Zelosos da Independência

QUESTÃO 03

A colonização do Estado de Mato Grosso, ocorrida entre os anos de 1964 e 1985, durante o regime militar, ainda que não se diferencie enquanto à imposição dos interesses de um grupo hegemônico ao restante da sociedade de outras iniciativas anteriores de ocupação do território mato-grossense, trouxe profundas transformações em Mato Grosso especialmente nas regiões compreendidas pela Amazônia Legal. Entre essas mudanças, é correto destacar como principais:

[A] Êxodo rural em direção às cidades e diminuição da mineração.
[B] Crescimento populacional e aumento do número de cidades.
[C] Enfraquecimento da produção industrial e avanço do agronegócio.
[D] Expansão da malha ferroviária e crescimento do desmatamento.
[E] Surgimento de uma nova elite política e maior proteção às populações indígenas.

QUESTÃO 04

Em outubro de 1994, Dante Martins de Oliveira foi eleito, em primeiro turno, governador do Estado de Mato Grosso. O político mato-grossense já tinha sido eleito deputado federal em 1982, bem como foi ministro do Desenvolvimento Agrário do Governo José Sarney. Dante de Oliveira ganhou notoriedade nacional em decorrência de um fato ocorrido durante seu mandato de deputado. Qual foi este fato?

[A] Era o principal articulador do escândalo de corrupção conhecido como "Anões do Orçamento.
[B] Foi o primeiro mato-grossense a ser eleito presidente da Câmara dos Deputados.
[C] Propôs emenda constitucional de eleição direta para presidente da República.
[D] Renunciou ao mandato de deputado para assumir, como interventor, a prefeitura da cidade de Cuiabá.
[E] Liderou a bancada de mato Grosso no processo de divisão do estado.

QUESTÃO 05

Durante o governo de Getúlio Vargas (1930-1945), especialmente durante o período do Estado Novo (1937-1945), ocorreu uma política de ocupação e colonização do território nacional voltada para áreas de baixa densidade populacional, entre elas o Mato Grosso. Como ficou conhecida essa política?

[A] Brasil para os brasileiros
[B] Soldados da Borracha
[C] Calha Norte
[D] Marcha para o Oeste
[E] Terra para todos

GEOGRAFIA DE MATO GROSSO

QUESTÃO 06

Os fluxos migratórios dirigidos para Mato Grosso provenientes das mais diferentes áreas do país contribuíram para a incorporação de novos valores e modalidades de uso da terra, com formas diferenciadas de produção do espaço. As formas tradicionais de organização social e produtiva, oriundas das culturas indígenas e dos primeiros exploradores que aqui se fixaram, passaram a conviver com outras identidades culturais e formas de produção que hoje caracterizam a diversidade sociocultural mato-grossense. Assim, as diferentes paisagens culturais produzidas ao longo da formação do território contam a história do povoamento do estado e evidenciam as tradições e os interesses de cada grupo colonizador.

(MORENO, Gislaine. **Geografia de Mato Grosso:** território, sociedade, ambiente. Cuiabá: Entrelinhas, 2005. Adaptado).

Sobre a peculiaridade de o território mato-grossense ser um mosaico cultural, numere a coluna da direita de acordo com a da esquerda.

1. Municípios do norte do Araguaia e alguns do sudeste mato-grossense	( )	Ocorrem identidades culturais relacionadas com os primórdios da ocupação do território, sobressaem características indígenas, negras e dos colonizadores europeus.
2. Municípios do centro sul mato-grossense	( )	Sobressai a influência cultural dos migrantes sulistas, principalmente paranaenses e na sequência dos paulistas.
3. Municípios do norte mato-grossense	( )	Apresenta características típicas da influência cultural dos migrantes nordestinos, e também de mineiros e goianos.

Assinale a sequência correta.

[A] 2, 3, 1
[B] 1, 2, 3
[C] 3, 2, 1
[D] 2, 1, 3
[E] 1, 3, 2

QUESTÃO 07

De acordo com dados de 2017 da Companhia Mato-Grossense de Mineração (Metamat), Mato Grosso é responsável por 87,2% da produção nacional de diamantes ao ano, com 49 mil quilates, sendo que a produção nacional é de 56 mil quilates. Em relação ao ouro, o Estado conta com a produção de cerca de 10 toneladas por ano, enquanto o total produzido no Brasil é de 81 toneladas no mesmo período. Além do diamante, os mato-grossenses também ostentam o título de campeões na produção de calcário agrícola, com sete milhões de toneladas ao ano, e de reservas de granito, sendo elas em Alta Floresta, Apiacás e Jaciara.

(Disponível em: https://www.geoscan.com.br/blog/mineracao-no-estado-do-mato-grosso/. Acessado em: 17/12/2021.Adaptado)

As principais regiões produtoras de ouro podem ser divididas em Baixada Cuiabana, região sudoeste e região norte do estado de Mato Grosso. Marque a alternativa que apresenta o grande foco atual de mineração dos últimos anos, na região norte mato-grossense.

[A] Alto Paraguai, Tangará da Serra, Barra do Garças e Matupá.
[B] Barra do Garças, Serra de São Vicente, Cáceres e Nobres.
[C] Matupá, Mirassol D'Oeste, Diamantino e Aripuanã.
[D] Peixoto de Azevedo, Matupá, Aripuanã e Alta Floresta.
[E] Cocalinho, Peixoto de Azevedo, Apiacás e Alto Paraguai.

QUESTÃO 08

Dentre os 5.565 municípios brasileiros, Cuiabá detém o 92º melhor Índice de Desenvolvimento Humano Municipal (IDHM), incluindo-se no último segmento da lista das 100 cidades do país com melhores condições de renda per capita, longevidade e educação. A avaliação foi feita pelo Instituto de Pesquisa Econômica Aplicada (Ipea) e divulgada no "Atlas do Desenvolvimento Humano nas Regiões Metropolitanas Brasileiras". O IDH é um índice concebido para orientar as políticas de inclusão social e de desenvolvimento em todo o mundo. Em contraste com o Produto Interno Bruto (PIB), índice utilizado para análises econômicas, o IDH tem foco na qualidade de vida humana, classificando-a de 0 a 1 em cinco faixas: desenvolvimento muito baixo, baixo, médio, alto e muito alto. Conforme o estudo do Ipea e confirmado pelos dados disponibilizados pelo IBGE, com valores referentes ao ano de 2010, Cuiabá detém IDHM de 0,785, valor que se situa na faixa de alto desenvolvimento.

(Fonte: http://g1.globo.com/mato-grosso/noticia/2014/11/desenvolvimento-humano-de-cuiaba-e-um-dos-100-mais-altos-do-pais-diz-ipea.html. Acesso em: 11/01/2022. Adaptado.)

Com um IDHM de 0,768, melhor índice após o da capital, é um município apontado com um dos melhores indicadores de qualidade de vida em Mato Grosso. O texto faz referência ao município de

[A] Nova Mutum.
[B] Lucas do Rio Verde.
[C] Sorriso.
[D] Sinop.
[E] Rondonópolis.

QUESTÃO 09

Leia os textos.

TEXTO I

O processo de ocupação do território que hoje constitui Mato Grosso remonta ao século XVI, quando, por força do Tratado de Tordesilhas, toda a área oeste do Brasil, onde se insere o atual território de Mato Grosso, pertencia à Coroa espanhola, que empreendeu expedições de reconhecimento, com algumas tentativas de ocupação. Porém, com o avanço português, através das chamadas Entradas e Bandeiras, o espaço que hoje constitui o estado de Mato Grosso passou a ser ocupado e assim foi se definindo os seus limites políticos e administrativos ao longo dos ciclos econômicos. A rigor, o processo de ocupação de Mato Grosso, que foi iniciado nos séculos XVI e XVII, primeiramente por espanhóis e depois por bandeirantes, só foi efetivada no início do século XVIII, com a descoberta de ouro nas minas de Cuiabá. Conforme os ciclos econômicos iam modificando-se a ocupação ia progredindo, assim sendo, os municípios do estado de Mato Grosso com data de criação mais antigos são Cuiabá (1727) e Vila Bela da Santíssima Trindade (1752), hoje o estado conta com um total de 141 municípios, sendo os municípios de Ipiranga do Norte e Itanhangá os últimos a serem criados no ano de 2000.

(MORENO, Gislaine et. al. **Geografia de Mato Grosso**: território, sociedade, ambiente. Cuiabá: Entrelinhas, 2005. Adaptado.)

TEXTO II

A Assembleia Legislativa, por intermédio do deputado Valdir Barranco (PT), no ano de 2019, realizou uma audiência pública para discutir o Projeto de Lei Complementar nº 137/2015, que define novas regras para criação de municípios no território brasileiro. Em Mato Grosso, segundo Barranco, existem pelo menos 18 distritos aptos a serem emancipados.

(Fonte: https://www.al.mt.gov.br/midia/texto/proposta-que-define-novas-regras-a-criacao-de-municipios-e-debatida-na-assembleia-legislativa/visualizar. Acesso em: 11/01/2022. Adaptado.)

Para que haja efetivamente a emancipação de um distrito para o patamar de município, em Mato Grosso, deve-se seguir os critérios de

[A] apresentar viabilidade econômica e administrativa, ter no mínimo 3 mil habitantes e realizar plebiscito.
[B] ter no mínimo 5 mil habitantes e realizar estudo de viabilidade econômica, política e urbana, com apresentação de plebiscito.
[C] realizar plebiscito e apresentar estudo de viabilidade econômica, política e socioambiental.
[D] realizar estudo de viabilidade financeira, administrativa, urbana e ter no mínimo 4 mil habitantes.
[E] ter no mínimo 6 mil habitantes e realizar estudo de viabilidade econômica, política, socioambiental e urbana.

QUESTÃO 10

Localizado na região Centro Oeste do Brasil, Mato Grosso tem uma extensão territorial de 903.207.050 km², é o terceiro maior estado do país, ficando atrás somente do Amazonas e do Pará. Apresenta segundo o IBGE uma população estimada de 3.567.234 pessoas para 2021. Apresenta uma área urbana de 519,7 km² que o coloca no 11º lugar no ranking de estados com maior mancha urbana. Apresenta 141 municípios, sendo a capital em Cuiabá que está no centro geodésico da América Latina, localizada exatamente no meio do caminho entre o Atlântico e o Pacífico, ou seja, em linha reta é o ponto mais central do continente. Tal local foi calculado por Marechal Rondon durante suas expedições pelo estado e é marcado com um monumento, o obelisco da Câmara dos Vereadores.

(Disponível em: http://www.mt.gov.br/geografia. Acessado em: 10/12/2021. Adaptado)

O estado de Mato Grosso faz fronteira com a Bolívia (a oeste) e limites territoriais com os estados de Goiás (a leste), Pará (ao norte), Amazonas (a noroeste), Mato Grosso do Sul (ao sul), apresentando ao nordeste e oeste, respectivamente, limites com

[A] Tocantins e Acre.
[B] Acre e Tocantins.
[C] Tocantins e Rondônia.
[D] Rondônia e Tocantins.
[E] Roraima e Tocantins.

LÍNGUA PORTUGUESA

Instrução: Leia o texto a seguir para responder às questões de 11 a 13.

A segurança pública e a sociedade

Aos olhos do povo, parece ser a Polícia a única responsável pela segurança da sociedade, quando em verdade tem essa instituição somente a função mais árdua de todas, vez que atua na linha de frente em prevenção ao crime ou na garimpagem de criminosos e na execução das leis penais, a fim de torná-las efetivas ao exigir o cumprimento das regras sociais e solucionar os seus conflitos. [...]

Agora que a epidemia da insegurança se alastrou por todo o Brasil, a própria sociedade se mostra preocupada com o problema e até já comunga com o preceito constitucional de que a segurança pública é responsabilidade de todos, e com isso já se formam movimentos diversos que objetivam maior interatividade com a Polícia para uma consequente união de forças de combate ao crime. [...]

Entretanto, essa necessária e importante interação ainda aparece de maneira emperrada, pois existe a tradição arraigada no seio de grande parte da sociedade em generalizar, colocando-se como regra ao invés da exceção, que a Polícia é ineficiente e criminosa, que todo policial é ignorante, arbitrário, violento e irresponsável, quando em verdade, de uma maneira geral, tais entendimentos não passam de pensamentos ilógicos e insensatos [...].

A eficiência do trabalho policial está intimamente ligada ao bom relacionamento entre cidadãos e policiais. Um deve ver e sentir o outro no valor da amizade, como elemento de apoio, de confiança nos seus recíprocos atos. Os policiais dependem da iniciativa e da cooperação das pessoas e estas dependem da proteção dos policiais. [...].

(MARQUES, A.J.M. Disponível em: https://www.algosobre.com.br/interesse-publico/a-seguranca-publica-e-a-sociedade.html. Acesso em: 30/10/21.)

QUESTÃO 11

O texto é bastante rico em adjetivos, flexionados nas variadas formas. Adjetivos uniformes são aqueles que apresentam somente uma forma para o gênero masculino e para o feminino. Assinale o trecho que **NÃO** apresenta adjetivo uniforme.

[A] *que a Polícia é ineficiente e criminosa*
[B] *essa necessária e importante interação*
[C] *não passam de pensamentos ilógicos e insensatos*
[D] *todo policial é ignorante, arbitrário, violento e irresponsável*
[E] *e até já comunga com o preceito constitucional*

QUESTÃO 12

Assinale o trecho que revela a tese defendida pelo autor sobre o assunto abordado no texto.

[A] *existe a tradição arraigada no seio de grande parte da sociedade em generalizar, colocando-se como regra ao invés da exceção, que a Polícia é ineficiente e criminosa, que todo policial é ignorante, arbitrário, violento e irresponsável [...].*

[B] *Aos olhos do povo, parece ser a Polícia a única responsável pela segurança da sociedade.*

[C] *tem essa instituição somente a função mais árdua de todas, vez que atua na linha de frente em prevenção ao crime ou na garimpagem de criminosos e na execução das leis penais [...].*

[D] *A eficiência do trabalho policial está intimamente ligada ao bom relacionamento entre cidadãos e policiais.*

[E] *Agora que a epidemia da insegurança se alastrou por todo o Brasil, a própria sociedade se mostra preocupada com o problema [...].*

QUESTÃO 13

Os mecanismos de coesão sequencial são utilizados para que as partes e as informações do texto possam ser articuladas e relacionadas, proporcionando sentido. Assinale a alternativa em que há relação de sentido **INCORRETAMENTE** exemplificada por trecho do texto.

[A] Adversidade → *Entretanto, essa necessária e importante interação ainda aparece de maneira emperrada [...].*

[B] Explicação → *tem essa instituição somente a função mais árdua de todas, vez que atua na linha de frente em prevenção ao crime ou na garimpagem de criminosos e na execução das leis penais [...].*

[C] Adição → *Os policiais dependem da iniciativa e da cooperação das pessoas e estas dependem da proteção dos policiais.*

[D] Finalidade → *na execução das leis penais, a fim de torná-las efetivas ao exigir o cumprimento das regras sociais e solucionar os seus conflitos.*

[E] Consequência → *aparece de maneira emperrada, pois existe a tradição arraigada no seio de grande parte da sociedade em generalizar, colocando-se como regra ao invés da exceção, que a Polícia é ineficiente e criminosa [...].*

Instrução: Leia o texto a seguir para responder às questões 14 e 15.

A linguagem corporal é uma forma de expressão tão poderosa quanto as palavras – em alguns casos, sua força é até maior. Afinal, você pode tentar passar uma ideia diferente da que está sentindo através da fala, mas, se não for um especialista no assunto, dificilmente vai conseguir disfarçar os sinais que o seu corpo transmite. Ou seja, não é só a nossa boca que comunica: nossos gestos, olhares, expressões e posturas também. Um simples cruzar de pernas, uma mão colocada próximo da boca e uma contração na testa podem dizer muito mais sobre você e a sua situação de momento do que se pode imaginar. Não à toa, a linguagem não verbal é um dos elementos analisados pelas autoridades policiais para saber se um suspeito está mentindo ou não durante um depoimento, por exemplo.

(Disponível em: htpps://fia.com.br/blog/linguagem corporal. Acesso em: 12/11/2021.)

QUESTÃO 14

Considerando as ideias e os aspectos linguísticos do texto, analise as afirmativas.

I- Na linha 1, a expressão *tão poderosa quanto* indica um comparativo de igualdade.

II- A palavra *Afinal*, na linha 2, é uma preposição que pode ser substituída por Finalmente.

III- Com o uso dos pronomes *você, nossa* e *nossos,* o autor intende maior aproximação com o leitor.

IV- A locução adverbial *Não à toa* (linha 6) significa que não foi ao acaso, ao léu.

Estão corretas as afirmativas

[A] I, III e IV, apenas.

[B] I e IV, apenas.

[C] II e III, apenas.

[D] I, II, III e IV.

[E] II e IV, apenas.

QUESTÃO 15

Leia o trecho: *Ou seja, não é só a nossa boca que comunica: nossos gestos, olhares, expressões e posturas também.*

Assinale a alternativa que apresenta corretamente a justificativa para o uso das vírgulas.

[A] A primeira vírgula isola expressão explicativa e as demais separam termos coordenados em uma oração.
[B] A primeira vírgula separa um aposto e as demais indicam supressão de um verbo na oração.
[C] A primeira vírgula isola um vocativo e as demais separam orações coordenadas.
[D] A primeira vírgula separa expressão intercalada e as demais indicam supressão de palavras.
[E] A primeira vírgula separa uma expressão explicativa e as demais isolam orações coordenadas.

Instrução: Leia o texto a seguir para responder às questões de 16 a 18.

Primeiro surge a preocupação com um problema. Depois vêm as tentativas de resolvê-lo em pensamento. Quando você se dá conta, a mente passou o dia (ou a noite) acelerada, estudando mil cenários que podem nem acontecer. Essa ação tem nome – ansiedade – e integra a natureza humana, pois nos torna capazes de enfrentar desafios. Mas vira um transtorno quando toma conta da rotina, fazendo a gente carregar o peso do mundo nas costas.

[...]

Entre as boas medidas a serem tomadas para voltar aos trilhos está a adoção de hábitos saudáveis. "Cuide de seu sono, pratique atividades físicas, procure se alimentar de modo adequado e, se possível, busque tratamento", afirma o psiquiatra A. C. A. Mas seja gentil com você. Tente não se cobrar demais, porque é andando que se aprende o caminho.

(AIKAWA, Romy. Revista TODOS. 10/21.)

QUESTÃO 16

A respeito das ideias e dos recursos linguísticos e discursivos, marque V para as afirmativas verdadeiras e F para as falsas.

( ) Os termos *Primeiro* e *Depois* constituem operadores argumentativos que ligam partes do texto com ideia de enumeração.
( ) Os trechos *estudando mil cenários* e *a gente carregar o peso do mundo nas costas* exemplificam uma figura de linguagem denominada hipérbole.
( ) No primeiro parágrafo, é apresentada uma situação que pode prejudicar o ser humano e, no segundo, maneiras de resolvê-la.
( ) Os travessões (linha 3) podem ser substituídos por aspas para enfatizar o termo ansiedade.

Assinale a sequência correta.

[A] V, F, F, V
[B] V, V, V, F
[C] F, F, V, F
[D] F, V, F, V
[E] V, V, F, F

QUESTÃO 17

Nas frases *Primeiro surge a preocupação com um problema. Depois vêm as tentativas de resolvê-lo em pensamento*., a concordância dos verbos surgir e vir obedece à seguinte regra da norma culta da língua escrita:

[A] O verbo é usado mais frequentemente no plural se os sujeitos estiverem unidos por com.
[B] O verbo concorda em número e pessoa com o predicativo do sujeito.
[C] Se o sujeito é simples, o verbo concorda com ele em número e pessoa, mesmo se estiver anteposto a ele.
[D] Com sujeitos ligados por expressões correlativas, o verbo é usado no plural.
[E] Se o sujeito é composto, o verbo vai obrigatoriamente para o plural.

QUESTÃO 18

No segundo parágrafo, há inúmeras formas verbais que indicam aconselhamento ou instrução, a exemplo de *Cuide, pratique, seja*. Esse modo verbal é denominado

[A] futuro.
[B] subjuntivo.
[C] pretérito.
[D] indicativo.
[E] imperativo.

QUESTÃO 19

Uma língua apresenta variações porque é usada por falantes nativos em uma sociedade complexa, formada por diferentes grupos sociais, com diferentes hábitos linguísticos e diferentes graus de escolarização. Assim, ao longo do tempo, surgem as variedades linguísticas regionais, históricas, sociais e de registro.
Leia o trecho extraído de uma crônica de Carlos Drummond de Andrade.

[...] os pirralhos dobravam a língua diante dos pais, e se um se esquecia de arear os dentes antes de cair nos braços de Morfeu, era capaz de entrar no couro. Não devia também se esquecer de lavar os pés, sem tugir nem mugir. Nada de bater na cacunda do padrinho, nem de debicar os mais velhos, pois levava tunda.

A linguagem desse trecho revela a variedade linguística caracterizada pelo uso de

[A] palavras e expressões em desuso atualmente, denominada histórica.
[B] termos que variam de acordo com o local onde vivem os falantes, denominada geográfica.
[C] jargões próprios de um grupo de profissionais, denominada social.
[D] gírias próprias de um grupo com interesses comuns, denominada social.
[E] linguagem informal, com presença de oralidade, denominada registro.

QUESTÃO 20

Os pronomes relativos têm basicamente a função de unir orações cujas ideias se complementam e, com isso, evitar repetições desnecessárias. Quanto ao uso do pronome relativo, preposicionado ou não, assinale a alternativa que apresenta junção correta das orações.

[A] As professoras são muito prestativas. O diretor me falou de algumas professoras. → As professoras a quem o diretor me falou são muito prestativas.
[B] O ginásio de esportes pertence à prefeitura. As atividades de lazer dos soldados realizam-se nesse ginásio. → O ginásio de esportes, a que se realizam as atividades de lazer dos soldados, pertence à prefeitura.
[C] O policial militar foi muito gentil. Pedi ao policial militar informações sobre o concurso.→ O policial militar a quem pedi informações sobre o concurso foi muito gentil.
[D] Os advogados apresentaram-me provas do ocorrido. Eu acredito na veracidade dessas provas. → Os advogados apresentaram-me provas do ocorrido de cuja veracidade eu acredito.
[E] Paciência e sabedoria são ingredientes em nossa vida. Necessitamos de ingredientes em nossa vida.→ Paciência e sabedoria são ingredientes que necessitamos em nossa vida.

FÍSICA

QUESTÃO 21

Ao disparar para cima com uma pistola, o projétil sobe numa trajetória vertical com uma velocidade inicial de 200 m/s. Desprezando-se o efeito da resistência do ar, a altura máxima atingida pelo projétil, em relação à pistola, é:

Dado: aceleração da gravidade = 10 m/s^2

[A] 4000 m
[B] 1000 m
[C] 500 m
[D] 3000 m
[E] 2000 m

QUESTÃO 22

Ao se ligar uma resistência projetada para funcionar em 220 V numa diferença de potencial de 110 V, a potência dissipada, em relação ao seu funcionamento em 220 V, será:

[A] 2 vezes menor.
[B] 4 vezes menor.
[C] igual.
[D] 2 vezes maior.
[E] 4 vezes maior.

QUESTÃO 23

A água é comumente utilizada para o controle de temperatura de motores de automóveis, pois ela possui, como propriedade,

[A] alto calor específico.
[B] baixo coeficiente de autodifusão.
[C] alta viscosidade.
[D] baixo coeficiente de dilatação.
[E] constante dielétrica nula.

QUESTÃO 24

No foco de um incêndio, a temperatura é de 925 °C. A variação de comprimento de um objeto de aço (cujo coeficiente linear de dilatação térmica é $1{,}4 \times 10^{-5}$ °C^{-1}) de 1 m de largura será, aproximadamente,

[A] 1 milímetro.
[B] 1 metro.
[C] 1 micrômetro.
[D] 1 centímetro.
[E] 1 decímetro.

QUESTÃO 25

Na perícia de um incêndio, verificou-se que, numa rede de 127 V, um disjuntor de 50 A havia desarmado. A resistência elétrica da fiação, nesse caso, atingiu o valor de:

[A] 7,5 Ω
[B] 1,2 Ω
[C] 2,5 Ω
[D] 50 Ω
[E] 0,4 Ω

QUESTÃO 26

A pressão da água num hidrante, situado ao nível do solo, que é alimentado por uma caixa d'água situada no alto de um prédio, a 30 metros de altura, é de:

[A] 5 atm
[B] 3 atm
[C] 1 atm
[D] 0,4 atm
[E] 0,1 atm

Dados: 1 atm = 1×10^5 Pa
g = 10 m/s^2

QUESTÃO 27

Do ponto de vista termodinâmico, a transferência de calor do Sol até a Terra pode ser classificada como

[A] irradiação, na forma de ondas eletromagnéticas.
[B] condução, pela agitação térmica das moléculas do meio.
[C] convecção, pelo transporte da matéria.
[D] arrastamento, pelo vento solar.
[E] gravitacional, pela diferença de massa entre o Sol e a Terra.

QUESTÃO 28

A taxa da vistoria técnica em shows ou eventos realizada pelo Corpo de Bombeiros Militar do Estado de Mato Grosso é calculada conforme o exemplo mostrado no simulador de taxas a seguir:

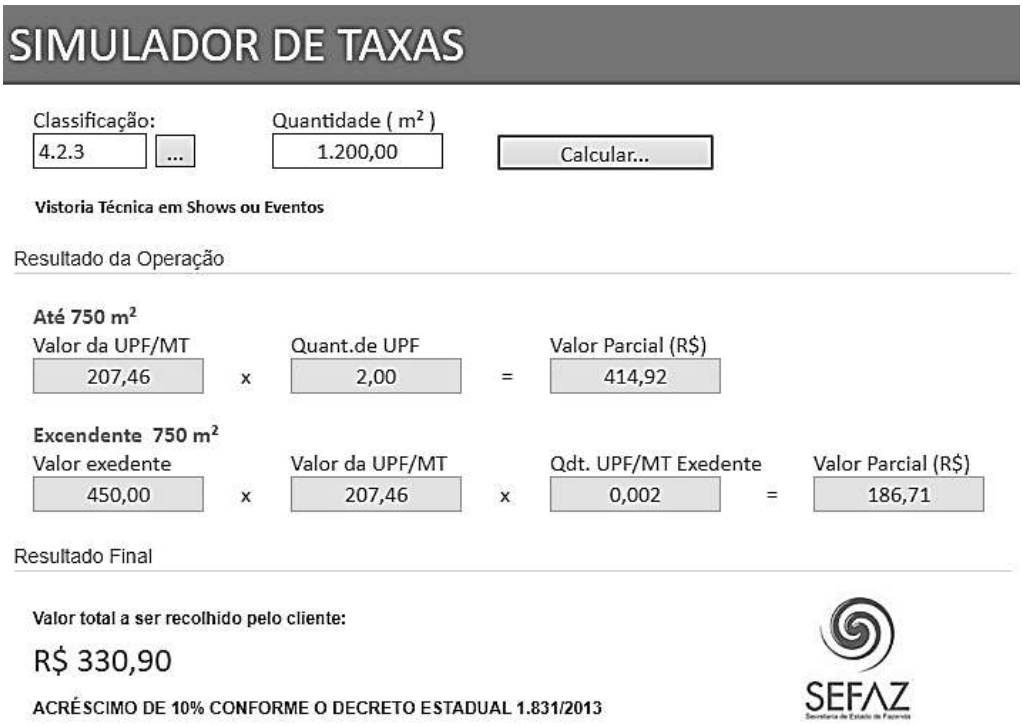

Considere que o valor da UPF/MT (Unidade Padrão Fiscal/Mato Grosso) é R$ 207,46 e que, para esse tipo de vistoria, a quantidade de UPF é sempre 2,00 para área até 750 m^2 e 0,002 para área excedente a 750 m^2. Qual o valor total a ser recolhido pelo cliente para uma área de 1.000,00 m^2, sabendo que esse valor total corresponde à média dos valores parciais mais o acréscimo de 10% sobre essa média?

[A] R$ 233,39
[B] R$ 300,82
[C] R$ 259,33
[D] R$ 285,26
[E] R$ 270,73

QUESTÃO 29

Para combater um incêndio florestal numa área de 10.000 m^2, uma equipe de bombeiros iniciou os trabalhos às 14 horas, 34 minutos e 43 segundos e terminou às 18 horas, 5 minutos e 28 segundos. Qual o tempo de combate gasto para a extinção desse incêndio?

[A] 4 horas, 29 minutos e 15 segundos.
[B] 3 horas, 30 minutos e 45 segundos.
[C] 4 horas, 39 minutos e 11 segundos.
[D] 3 horas, 29 minutos e 15 segundos.
[E] 4 horas, 30 minutos e 45 segundos.

QUESTÃO 30

Em determinado período, a brigada de incêndio florestal conseguiu extinguir o fogo de três áreas em um parque florestal, a primeira com 1,5 ha, a segunda com 0,1 km^2 e a terceira com 27.000 m^2. Qual a área total atendida pela brigada?

[A] 142 dam^2
[B] 142 ha
[C] 1.420.000 m^2
[D] 1.420 hm^2
[E] 14,2 ha

QUESTÃO 31

No exercício de 2020, foram enviadas para a caixa de mensagens do Corpo de Bombeiros Militar de Mato Grosso um total de *x* mensagens. Os meses com maior volume de mensagens recebidas foram julho, agosto e setembro, e a média foi de 14 mensagens por mês, conforme apresentado na seguinte tabela:

TABELA MENSAGENS RECEBIDAS – POR MÊS

MÊS	TOTAL
Janeiro	9
Fevereiro	13
Março	13
Abril	13
Maio	6
Junho	8
Julho	20
Agosto	y
Setembro	30
Outubro	15
Novembro	7
Dezembro	15

A partir dessas informações, qual o número *y* de mensagens recebidas no mês de agosto?

[A] 18
[B] 19
[C] 17
[D] 20
[E] 22

QUESTÃO 32

De 2016 a 2018, o Estado de Mato Grosso registrou a soma de 411 ataques contra Instituições Financeiras (IF), representados por incidência na área de cada Região Integrada de Segurança Pública (RISP) de Mato Grosso, instituídas pelo Decreto Estadual nº 183/2015, como se observa na tabela seguinte:

Tabela – Ocorrências contra Instituições Financeiras (IF) por Região Integrada de Segurança Pública (RISP) em MT entre 2016/2018

Ocorrências por CR's no MT	2016	2017	2018	TOTAL
RISP 1 – Cuiabá	46	66	64	**176**
RISP 2 – Várzea Grande	13	19	23	**55**
RISP 4 – Rondonópolis	9	$5x$	$4y$	**35**
RISP 3 – Sinop	11	$2x$	$3y$	**27**
RISP 14 – Nova Mutum	4	7	14	**25**
RISP9 – Alta Floresta	3	10	3	**16**
RISP 11 – Primavera do Leste	2	3	11	**16**
RISP 6 – Cáceres	1	5	8	**14**
RISP 7 – Tangara da Serra	5	0	7	**12**
RISP 12 – Pontes e Lacerda	3	1	8	**12**
RISP 5 – Barra do Garças	4	2	3	**9**
RISP15 – Guarantã do Norte	3	4	2	**9**
RISP 10 – Vila Rica	0	1	1	**2**
RISP 13 – Água boa	0	0	2	**2**
RISP 8 – Juína	1	0	0	**1**
Total	**105**			**411**

Fonte: SROP – PM PJC (Adaptada)

A partir das informações dadas, assinale a alternativa que apresenta a diferença entre o total de ocorrências de 2018 em relação ao total de 2017.

[A] 40
[B] 41
[C] 42
[D] 39
[E] 38

QUESTÃO 33

Em uma pesquisa realizada sobre a percepção dos policiais militares do Estado de Mato Grosso quanto a sua valorização profissional, obteve-se o seguinte conjunto de dados: {3,5; 3,5; 3,7; 3,3; 3,9; 3,5; 3,5; 3,2; 3,0; 3,7; 3,8; 5,2}. Assinale a alternativa que apresenta a mediana desse conjunto.

[A] 3,4
[B] 3,6
[C] 3,7
[D] 3,8
[E] 3,5

QUESTÃO 34

Para ingresso no Corpo de Bombeiros do Estado de Mato Grosso, alguns testes devem ser realizados, dentre eles o Teste de Aptidão Física (TAF), cujo protocolo de aplicação é apresentado a seguir:

1. O Teste de Aptidão Física constará de 5 (cinco) exercícios, que obedecerá a seguinte sequência:
1.1. Corrida de 12 (doze) minutos;
1.2. Barra Fixa (flexão/sustentação);
1.3. Abdominal Remador;
1.4. Meio Sugado;
1.5. Natação 100m.

Na realização de todos os testes físicos, o candidato terá apenas uma tentativa para execução do exercício. Será considerado aprovado no Teste de Aptidão Física somente o candidato que alcançar, na soma dos pontos dos exercícios dos itens 1.1 ao 1.5, nota igual ou superior a 15 (quinze) pontos, não podendo tirar nota inferior a 1 em qualquer dos exercícios, de acordo com as tabelas a seguir:

Masculino					
Nota	Corrida (12 min)	Barra Fixa (repetições)	Meio Sugado (repetições)	Abdominal Remador (remador)	Natação 100m (tempo)
5	2800	8	16	47	Até 1’40”
4	2700	7	15	45	De 1’41” a 1’50”
3	2600	6	14	43	De 1’51” a 2’00”
2	2500	5	13	41	De 2’01” a 2’15”
1	2400	4	12	39	De 2’16” a 2’30”

Feminino					
Nota	Corrida (12 min)	Barra Fixa (tempo em isometria)	Meio Sugado (repetições)	Abdominal Remador (remador)	Natação 100m (tempo)
5	2400	15”	13	37	Até 2’00”
4	2300	14”	12	35	De 2’01” a 2’10”
3	2200	13”	11	33	De 2’11” a 2’20”
2	2100	12”	10	31	De 2’21” a 2’35”
1	2000	11”	9	29	De 2’36” a 2’50”

Na corrida, na barra fixa, no meio sugado, na abdominal remador e na natação 100m, o candidato José fez, respectivamente, 2800, 4, 14, 41 e 1’55”, enquanto a candidata Maria fez 2200, 11”, 10, 35 e 2’05”. A partir dessas informações, assinale a afirmativa correta.

[A] Os candidatos foram reprovados.
[B] Maria fez 1 ponto a mais que José.
[C] José fez 1 ponto a mais que Maria.
[D] José fez 15 pontos.
[E] Maria fez 15 pontos.

QUESTÃO 35

Em 2007, a cidade de Jacksonville, nos Estados Unidos, recebeu um caminhão especial para incêndios em aeroportos, que carrega 22.800 litros de água, o que daria para encher uma piscina que mede 5,4 m de comprimento, 3,5 m de largura e

Obs.: Considere o valor da profundidade com uma única casa decimal.

[A] 1,4 m de profundidade.
[B] 1,1 m de profundidade.
[C] 1,3 m de profundidade.
[D] 1,2 m de profundidade.
[E] 1,5 m de profundidade.

QUESTÃO 36

Nove médicos da Polícia Militar, todos de igual eficiência, trabalhando 6 horas por dia no Ambulatório Central, atendem 54 soldados por dia. O número de soldados que serão atendidos por 6 desses médicos, trabalhando 8 horas por dia, durante uma semana de 6 dias, será igual a

[A] 269
[B] 288
[C] 326
[D] 302
[E] 259

QUESTÃO 37

Considere que o Samu, em determinado período, atendeu 3135 ocorrências. Desse total, em relação ao tipo de acidente atendido, x foram motociclísticos, y traumas, z automobilísticos, v atropelamentos e w ciclísticos. Os números desses acidentes são diretamente proporcionais a 33, 13, 6, 3 e 2, respectivamente. A partir dessas informações, assinale a afirmativa **INCORRETA**.

[A] Foram atendidos 720 acidentes do tipo trauma.
[B] Foram atendidos 1815 acidentes do tipo motociclístico.
[C] Foram atendidos 330 acidentes do tipo automobilístico.
[D] Foram atendidos 165 acidentes do tipo atropelamento.
[E] Foram atendidos 110 acidentes do tipo ciclístico.

RASCUNHO

QUÍMICA

QUESTÃO 38

A sacarina, cuja fórmula estrutural plana é visualizada abaixo, é uma substância cerca de 300 vezes mais doce que a sacarose (açúcar de mesa). Supondo que este edulcorante seja consumido na forma molecular, assinale a alternativa correta que apresenta a quantidade de matéria (em mols) de sacarina e a quantidade de enxofre, em miligramas, presentes em 457,5 mg de sacarina.

Dados: H=1; C=12; N=14; O =16; S=32
Constante de Avogadro = $6,0 \times 10^{23}$

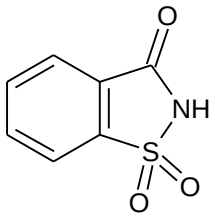

FÓRMULA ESTRUTURAL PLANA DA SACARINA

[A] $2,5 \times 10^{23}$ e 0,08
[B] $1,5 \times 10^{21}$ e 80
[C] $3,0 \times 10^{22}$ e 800
[D] $4,5 \times 10^{20}$ e 0,08
[E] $6,0 \times 10^{20}$ e 80

QUESTÃO 39

Considerando conceitos de ligações covalentes e polaridade molecular, assinale a alternativa que apresenta apenas moléculas apolares.

[A] H_2, CCl_4, CO_2
[B] CH_3Cl, HI, CH_4
[C] H_2O, SO_2, H_2S
[D] HF, HBr, $CHCl_3$
[E] HCl, H_2, CO_2

QUESTÃO 40

Analise as seguintes reações em solução aquosa:

I- $Pb(NO_3)_2 + K_2CrO_4 \rightarrow PbCrO_4 + 2\ KNO_3$
II- $FeCl_3 + 3\ NaOH \rightarrow Fe(OH)_3 + 3\ NaCl$
III- $BaNO_3 + NaOH \rightarrow Ba(OH)_2 + NaNO_3$
IV- $2\ AgNO_3 + K_2CrO_4 \rightarrow Ag_2CrO_4 + 2\ KNO_3$
V- $MgCl_2 + 2\ NaOH \rightarrow Mg(OH)_2 + 2\ NaCl$

Considerando os produtos de cada reação, somente não formará precipitado na reação:

[A] V
[B] IV
[C] I
[D] II
[E] III

QUESTÃO 41

Tendo em mente as propriedades observadas na tabela periódica, marque V para as afirmativas verdadeiras e F para as falsas.

( ) Os elementos do Grupo 1A, os metais alcalinos, sofrem reações similares com água e formam compostos do tipo MOH (M= Li, Na, K).

( ) Os elementos do Grupo 2A, os metais alcalinos terrosos, sofrem reações com a água e formam compostos do tipo MOH(M= Mg, Ca, Sr, Ba).

( ) Os elementos do Grupo 7A, os halogênios, sofrem reações similares com metais e outros não metais.

( ) Considerando a família 4A, apenas C e Si reagem com outros elementos para formar compostos semicondutores.

Assinale a sequência correta.

[A] V, F, F, V
[B] F, V, F, V
[C] V, F, V, F
[D] F, V, V, F
[E] V, V, F, F

QUESTÃO 42

Observe a fórmula estrutural plana da molécula do ácido acético.

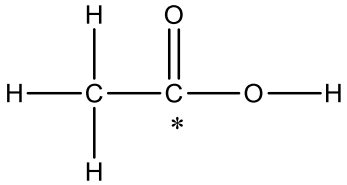

Nessa estrutura, há:

[A] 2 átomos de carbono com hibridização sp
[B] 2 átomos de carbono com hibridização sp^3
[C] 1 átomo de carbono com hibridização sp^2
[D] 2 átomos de carbono com hibridização sp^2
[E] 1 átomo de carbono com hidridização sp e outro com hidridização sp^3

QUESTÃO 43

Considerando conceitos de forças intermoleculares, observe os seguintes grupos de moléculas:

I- Moléculas de Metano Líquido (CH_4)
II- Moléculas de água e metanol (H_2O e CH_3OH)
III- Moléculas de Bromo e água (Br_2 e H_2O)

Assinale a alterativa que descreve corretamente o tipo de interação possível entre pares de moléculas, com base na estrutura e nas características de cada espécie.

[A] Somente na solução III, a interação ocorre por forças dipolo-dipolo permanente.
[B] Nas soluções I e III, as interações ocorrem pelas mesmas forças dipolo-dipolo permanente.
[C] Nas soluções I e II, as interações ocorrem somente por ligações de hidrogênio.
[D] Somente na solução II, a interação ocorre por ligações de hidrogênio e forças de dispersão.
[E] As soluções I, II e III apresentam interação somente por forças dipólo-dipólo permanente.

QUESTÃO 44

Considere a fórmula estrutural plana do cetoprofeno, um fármaco com ação anti-inflamatória, analgésica e antitérmica, indicado para tratar inflamações e dores diversas.

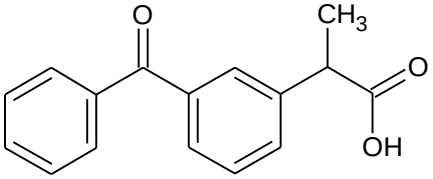

Fórmula estrutural plana do cetoprofeno

Nessa molécula, pode-se observar as seguintes funções orgânicas:

[A] cetona e ácido carboxílico.
[B] aldeído e álcool.
[C] cetona e álcool.
[D] éster e cetona.
[E] aldeído e cetona.

PRINCÍPIOS DE ÉTICA E FILOSOFIA

QUESTÃO 45

Leia o texto.

"Recebe o qualificativo de crítica porque, de fato, é uma consciência permanentemente atenta em denunciar as influências a que está submetida e criticá-las. É crítica no sentido etimológico da palavra, portanto procede à 'crise', isto é, à separação dos fatores atuantes, e capaz de apreciar a significação de cada um, a força da respectiva motivação e, de modo geral, o resultado deles, expresso nos julgamentos a que é levada em virtude da sua inclusão no contexto histórico, onde assentam os fundamentos de suas atitudes e de seu modo de pensar. Está sempre interessada em descobrir os determinantes do seu conteúdo, porque sabe que eles existem e tem por tarefa lógica distingui-los e avaliá-los. É, pois, um pensamento constantemente ocupado na indagação sobre a legitimidade dos seus enunciados, à procura das influências que os explicam, cuja revelação consciente é a finalidade que impõe a si mesma".

(VIEIRA PINTO, A. *Consciência e Realidade Nacional*: volume I. Rio de janeiro: Contraponto, 2020)

Assinale a afirmativa que caracteriza a consciência crítica.

[A] Considera que as ações prescindem dos condicionamentos sociais.
[B] Assume os dados científicos como base do conhecimento verdadeiro.
[C] Estabelece critérios inalteráveis para avaliação do pensamento e das ações.
[D] Formula juízos peremptórios acerca do conhecimento.
[E] Investiga os pressupostos do pensamento.

QUESTÃO 46

Em relação ao totalitarismo, marque V para as afirmativas verdadeiras e F para as falsas.

( ) A separação entre Estado e sociedade é uma das características dos regimes totalitários.
( ) O totalitarismo, segundo Hannah Arendt, difere essencialmente da tirania e do despotismo.
( ) A ideologia totalitária apresenta uma explicação indiscutível acerca do curso histórico.
( ) No totalitarismo, o terror é uma forma de ação governamental.

Assinale a sequência correta.

[A] V, V, V, V
[B] F, V, V, V
[C] F, F, F, F
[D] F, F, V, F
[E] V, V, F, V

QUESTÃO 47

Leia o texto.

"O que perde o homem pelo contrato social é sua liberdade natural e um direito ilimitado a tudo que o tenta e que ele pode atingir; o que ele ganha é a liberdade civil e a propriedade de tudo o que possui."

(ROUSSEAU, J. J. *O contrato social*. Porto Alegre, RS: L&PM, 2013.)

Considerando o texto e a concepção contratualista em Rousseau, é correto afirmar:

[A] A liberdade individual é limitada no estado de natureza.
[B] A propriedade privada é ilimitada no contrato social.
[C] A propriedade privada garante a igualdade social.
[D] O contrato social visa à preservação da liberdade.
[E] O contrato social implica a obediência ao governante.

GRUPO II – CONHECIMENTOS DE LEGISLAÇÃO

LEGISLAÇÃO DE INTERESSE BOMBEIRO MILITAR

QUESTÃO 48

Segundo o disposto na Lei Complementar Estadual nº 530/2014, que fixa o efetivo do Corpo de Bombeiros Militar (CBM) do Estado de Mato Grosso, assinale a afirmativa correta acerca de Praças.

[A] A ascensão funcional de Praça Militar é realizada pela promoção, que constitui ato administrativo destinado ao preenchimento seletivo das vagas para as graduações imediatamente superiores, com base em critérios legais.
[B] O Quadro de Praças do CBM é composto por militares estaduais e organizado nas graduações de soldado, cabo, terceiro sargento, segundo sargento, primeiro sargento e terceiro tenente.
[C] Ao militar estadual, que integra o Quadro de Praças do CBM, incumbe a prestação de serviços de prevenção e extinção de incêndios, proteção, busca e salvamento, exceto atividades relativas a perícias de incêndio.
[D] A reserva de vagas para candidatas do sexo feminino é assegurada em edital de concurso público para os Quadros de Praça do CBM, mas tal previsão não se aplica ao concurso público para os Quadros de Oficial do CBM.
[E] Compete ao Comandante-Geral do CBM, desde que previamente autorizado pelo Governador do Estado, promover a distribuição do efetivo de Oficiais e Praças na estrutura organizacional do CBM.

QUESTÃO 49

Em consonância com a Lei Estadual nº 10.076/2014, que dispõe sobre os critérios e condições que asseguram aos Oficiais e Praças da ativa da Polícia Militar e do Corpo de Bombeiros Militar do Estado de Mato Grosso acesso à hierarquia militar, mediante promoção, de forma seletiva, gradual e sucessiva, marque V para as afirmativas verdadeiras e F para as falsas.

( ) As promoções são efetuadas, regularmente, pelos critérios de antiguidade, merecimento e mérito intelectual.
( ) As promoções são efetuadas, em situações específicas, pelos critérios de ato de bravura, *post mortem* e por requerimento.
( ) Em casos extraordinários, pode haver promoção em ressarcimento de preterição.
( ) As Comissões de Promoção de Oficiais e de Praças são nomeadas por ato do Comandante-Geral pelo prazo de 01 (um) ano, vedada a renovação.

Assinale a sequência correta.

[A] F, V, F, F
[B] V, F, F, V
[C] F, V, V, F
[D] V, F, V, F
[E] F, V, V, V

LEGISLAÇÃO BÁSICA

QUESTÃO 50

Analise a seguinte situação hipotética:

Gentil da Silva Cortês, cidadão devidamente identificado, apresentou pedido de acesso à informação, mediante protocolo de requerimento dirigido ao Corpo de Bombeiros Militar do Estado de Mato Grosso, com fundamento na Lei nº 12.527/2011, referente ao relatório de inspeção técnica para averiguar condições de segurança contra incêndio e pânico, realizada pela corporação em estádio de esportes situado no Município.

De acordo com os ditames da referida Lei, que regula o acesso a informações, qual procedimento deverá ser adotado pela autoridade pública responsável?

[A] Deverá comunicar o interessado que apenas as informações divulgadas no sítio oficial da corporação na rede mundial de computadores (internet) são de acesso público.

[B] Deverá exigir do interessado que explique os motivos determinantes do requerimento para poder prestar a informação.

[C] Deverá negar o acesso à informação, visto que não restou demonstrado qualquer vínculo do interessado com o estádio de esportes.

[D] Deverá negar o pedido, porque o direito de acesso à informação não abrange as inspeções realizadas no exercício do poder de polícia do Estado.

[E] Deverá autorizar ou conceder o acesso imediato à informação de interesse público disponível.

QUESTÃO 51

Leia o seguinte trecho da notícia:

Segundo a denúncia, o acusado era tenente do Corpo de Bombeiros do DF e, em razão do cargo, tinha acesso total ao Depósito do Grupamento de Busca e Salvamento (CSA, CST e Ensino) do CBMDF. Após a constatação de divergência entre os equipamentos registrados e os que realmente estavam no depósito, foram realizadas buscas pelo site "Mercado Livre", que resultaram em produtos idênticos àqueles subtraídos do CBMDF, que estavam sendo vendidos em perfil com contato telefônico de empresa a ele vinculada - a BSB AVENTURA.

O réu apresentou defesa argumentando sua absolvição por ausência de provas.

O colegiado da Auditoria Militar entendeu que as provas juntadas ao processo, principalmente o laudo de busca e apreensão efetuada na casa do réu, bem como o depoimento do capitão que fez a conferência dos materiais, eram suficientes para sustentar que o réu cometeu o crime narrado na denúncia.

(...)

Inconformado, o réu recorreu. Contudo, os desembargadores entenderam que a sentença deveria ser integralmente mantida e concluíram que o crime restou comprovado "pela apreensão no domicílio do réu de diversos bens coincidentes com os extraviados da Corporação, que ele tentava vender na internet, e constatação de que ele possuía acesso livre e desvigiado ao depósito onde esses eram armazenados".

A decisão foi unânime.

(Fonte: Tribunal de Justiça do Distrito Federal. Disponível em: https://www.tjdft.jus.br/institucional/imprensa/noticias/2021/novembro/turma-mantem-condenacao-de-bombeiro-que-usou-cargo-para-furtar-bens-da-corporacao-para-vender-em-site. Acesso em: 13/12/2021).

Extrai-se da notícia que um bombeiro militar foi condenado pela subtração de bens do patrimônio da Administração Pública, aos quais teve acesso em razão do cargo. Sendo assim, a condenação decorre da prática do seguinte crime:

[A] Peculato

[B] Prevaricação

[C] Concussão

[D] Corrupção

[E] Condescendência criminosa

GRUPO III – CONHECIMENTOS ESPECÍFICOS

HISTÓRIA E ORGANIZAÇÃO DO CBMMT

QUESTÃO 52

Em relação às viaturas do Corpo de Bombeiros do Estado de Mato Grosso, qual dos veículos indicados é utilizado para apoio em operações de incêndio com capacidade para 30.000 litros de água?

[A] Unidade de Resgate
[B] Autoescaca Cimasa
[C] Auto Busca e Salvamento Leve
[D] Auto Tanque
[E] Daily 70C16.

QUESTÃO 53

No tocante ao uso de aeronaves pelo Corpo de Bombeiros do Estado de Mato Grosso, o AT-802F, utilizado nas linhas de frente de combate aéreo a incêndios florestais ao redor do mundo, possui capacidade máxima de armazenamento de água de

[A] 2.000 litros
[B] 3.000 litros
[C] 1.000 litros
[D] 5.000 litros
[E] 6.000 litros

RELAÇÕES INTERPESSOAIS

QUESTÃO 54

Numerosos estudos buscaram explicitar as características essenciais para um líder. Isto porque a cada dia a capacidade de liderar pessoas vem sendo valorizada nos ambientes de trabalho, nas equipes. Numerosas teorias surgiram para explicar e conceituar liderança, suas habilidades, tipos e classificações. Uma delas é a ***abordagem situacional da liderança***. Baseando-se nos conceitos desta abordagem, assinale a afirmativa correta.

[A] Não se pode falar em quem é líder, mas sim em quem está líder.
[B] Os estudos conseguiram apontar características universais e exclusivas ao líder, como a fluência verbal.
[C] Na abordagem situacional, o líder emerge a partir da situação (circunstâncias e objetivos) posta, não importando qual o perfil do grupo a ser liderado.
[D] Líder é aquele que logra ser mais organizado para comandar o grupo.
[E] A principal e única função de um líder é ser representante do grupo.

QUESTÃO 55

Motivacão, do latim *movere*, significa se mover em direção a algo. Sendo assim, a motivação é o que ajuda na busca por metas e objetivos. Ao longo dos anos, muitos estudos foram desenvolvidos para explicar a motivação humana. Uma das teorias da motivação mais utilizada e aceita é a de Abraham Maslow. Sobre essa teoria, analise as afirmativas.

I- As necessidades humanas descritas por Maslow são: necessidades fisiológicas, higiênicas, sociais, de estima e automotivadoras.
II- A teoria da motivação de Maslow é conhecida como teoria da hierarquia das necessidades humanas.
III- A pirâmide de Maslow organiza as necessidades humanas em ordem hierárquica, da base ao topo.
IV- As necessidades fisiológicas e de estima são consideradas necessidades básicas e estão na base da pirâmide.

Estão corretas as afirmativas

[A] I, III e IV, apenas.
[B] I, II, III e IV.
[C] I, II e IV, apenas.
[D] III e IV, apenas.
[E] II e III, apenas.

NOÇÕES DE INFORMÁTICA

QUESTÃO 56

Em Segurança da Informação, o termo phishing é bastante comum. Sobre phishing, assinale a afirmativa correta.

[A] Copia as portas do sistema operacional.
[B] Executa exclusivamente fraudes por SMS.
[C] É um ataque para obter dados confidenciais.
[D] Possui adwares como base do seu código.
[E] Trata-se de teste de segurança autorizado.

QUESTÃO 57

A coluna da esquerda apresenta recursos do Ubuntu 20.04 desktop e a da direita, características de cada um. Numere a coluna da direita de acordo com a da esquerda.

1. Shotwell	( ) Loja de aplicativos
2. Rhythmbox	( ) Cliente de área de trabalho remota
3. Remmina	( ) Reprodutor de músicas
4. Ubuntu Software	( ) Organizador de fotos

Marque a sequência correta.

[A] 3, 2, 1, 4
[B] 4, 3, 2, 1
[C] 2, 1, 4, 3
[D] 4, 1, 3, 2
[E] 3, 2, 4, 1

NOÇÕES DE GESTÃO PÚBLICA

QUESTÃO 58

No regime jurídico-administrativo, encontram-se os Poderes da Administração, que consistem em prerrogativas conferidas ao Poder Público para assegurar o exercício de suas funções na busca do atendimento ao interesse público. Sobre tais Poderes, numere a coluna da direita de acordo com a da esquerda.

1. Poder hierárquico	( )	É o poder conferido ao administrador público de editar normas complementares à lei, permitindo a sua fiel execução.
2. Poder Regulamentar	( )	É o poder conferido ao administrador, a fim de distribuir e escalonar as funções dos órgãos públicos, ordenar e rever a atuação de seus agentes, exercendo faculdades de dar ordens e de fiscalizar, bem como as de delegar e avocar atribuições.
3. Poder de Polícia	( )	É o poder conferido à Administração Pública, que lhe permite punir a prática de infrações cometidas por servidores ou demais pessoas ligadas aos órgãos e serviços administrativos.
4. Poder Disciplinar	( )	É a atividade da Administração Pública, que se expressa por meio de atos normativos ou concretos, limitando ou disciplinando direito, interesse ou liberdade, ou condicionando a propriedade dos indivíduos mediante ações fiscalizadoras, preventivas e repressivas.

Marque a sequência correta.

[A] 2, 1, 4, 3
[B] 3, 4, 2, 1
[C] 4, 3, 2, 1
[D] 3, 1, 4, 2
[E] 2, 4, 1, 3

QUESTÃO 59

Em conformidade com as diretrizes constitucionais, incumbe ao Poder Público, na forma da lei, a prestação de serviços públicos,

[A] diretamente ou sob regime exclusivo de concessão, sempre através de licitação.
[B] diretamente ou sob regime de concessão ou permissão, sempre através de licitação.
[C] diretamente ou sob regime de concessão, permissão ou autorização, sempre através de licitação.
[D] diretamente ou sob regime exclusivo de permissão, através de licitação, exceto nos casos legais de inexigibilidade.
[E] diretamente ou sob regime de concessão ou permissão, dispensada a licitação sempre que a competição for inviável.

QUESTÃO 60

Leia o seguinte texto:

"Bens públicos são todos os bens que pertencem às *pessoas jurídicas de Direito Público,* isto é, União, Estados, Distrito Federal, Municípios, respectivas autarquias e fundações de Direito Público (estas últimas, aliás, não passam de autarquias designadas pela base estrutural que possuem), bem como os que, embora não pertencentes a tais pessoas, estejam afetados à prestação de um serviço público.

O conjunto de bens públicos forma o 'domínio público', que inclui tanto bens imóveis como móveis".

(MELLO, Celso Antônio Bandeira de. *Curso de Direito Administrativo*. 15 ed. São Paulo: Malheiros Editores, 2003).

Considerando a destinação atribuída aos bens públicos, os bens imóveis afetados a um serviço ou estabelecimento público, tais como as repartições públicas, são classificados pela legislação como bens

[A] de uso especial.
[B] de uso comum.
[C] dominicais.
[D] extraordinários.
[E] tradicionais.

EM BRANCO

CONCURSO PÚBLICO PARA FORMAÇÃO DE CADASTRO DE RESERVA PARA O CARGO DE ALUNO-A-SOLDADO DO CORPO DE BOMBEIROS MILITAR

CORPO DE BOMBEIROS MILITAR

FOLHA DE ANOTAÇÃO DO CANDIDATO

Questão	Alternativa	Questão	Alternativa	Questão	Alternativa
01		21		41	
02		22		42	
03		23		43	
04		24		44	
05		25		45	
06		26		46	
07		27		47	
08		28		48	
09		29		49	
10		30		50	
11		31		51	
12		32		52	
13		33		53	
14		34		54	
15		35		55	
16		36		56	
17		37		57	
18		38		58	
19		39		59	
20		40		60	

Esta folha é destinada para uso EXCLUSIVO do candidato.