POLÍCIA MILITAR DO ESTADO DE MATO GROSSO

CONCURSO PÚBLICO PARA FORMAÇÃO DE CADASTRO DE RESERVA PARA O CARGO DE ALUNO-A-OFICIAL DA POLÍCIA MILITAR DO QUADRO DE SAÚDE DO ESTADO DE MATO GROSSO

EDITAL N.º 005/2022-SEPLAG/SESP/MT E AS DEVIDAS ALTERAÇÕES

Cargo: ALUNO-A-OFICIAL DA POLÍCIA MILITAR DO QUADRO DE SAÚDE – DENTISTA

Área: CIRURGIÃO DENTISTA

CADERNO DE PROVAS

Nome do Candidato

Gerência de Exames e Concursos

I N S T R U Ç Õ E S

LEIA COM ATENÇÃO

1. Este Caderno de Provas, com páginas numeradas de **01** a **27**, é constituído de:

► uma **Prova Objetiva** com **60 (sessenta)** questões de múltipla escolha, cada uma com 5 (cinco) alternativas, assim distribuídas:

01 a **20 – Grupo I: Conhecimentos Gerais**
21 a **60 – Grupo II: Conhecimentos Específicos**

► uma **Prova de Redação.**

2. Caso o Caderno de Provas esteja incompleto ou tenha qualquer defeito de impressão, solicite ao fiscal que o substitua.

3. Sobre a Marcação do Cartão de Respostas da Prova Objetiva

As respostas das questões deverão ser transcritas com caneta esferográfica de tinta azul ou preta não porosa, fabricada em material transparente, para o Cartão de Respostas, que será o único documento válido para correção. O Cartão de Respostas não será substituído por erro ou dano do candidato.

3.1. Para cada questão existe apenas uma alternativa que a responde acertadamente. Para a marcação da alternativa escolhida no **CARTÃO DE RESPOSTAS, pinte completamente** o círculo correspondente.

*Exemplo: Suponha que para determinada questão a alternativa **C** seja a escolhida.*

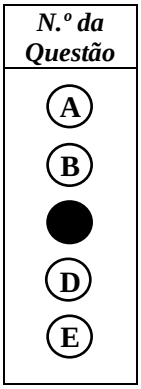

3.2. Será invalidada a questão em que houver mais de uma marcação, marcação rasurada ou emendada, ou não houver marcação.

3.3. Não rasure nem amasse o **CARTÃO DE RESPOSTAS** e a **FOLHA DE REDAÇÃO**.

4. Na elaboração da Redação, poderá ser usada para rascunho a página **26** deste Caderno, mas o texto definitivo deverá ser transcrito na **FOLHA DE REDAÇÃO**. Use caneta esferográfica de tinta azul ou preta não porosa fabricada em material transparente.

5. Não haverá substituição da **FOLHA DE REDAÇÃO** por erro do candidato.

6. Todos os espaços em branco, neste caderno, podem ser utilizados para rascunho.

7. A duração das provas é **4h30min**, já incluído o tempo destinado ao preenchimento do **CARTÃO DE RESPOSTAS** e à transcrição do texto definitivo da Redação para a **FOLHA DE REDAÇÃO**.

8. Somente após decorridas **2h30min** do início das provas, o candidato, depois de entregar seu Caderno de Provas, seu Cartão de Respostas e sua Folha de Redação, poderá retirar-se da sala de prova. O candidato que insistir em sair da sala de prova antes desse tempo deverá assinar Termo de Ocorrência declarando sua desistência do concurso.

9. Será permitida a saída de candidatos levando o Caderno de Provas somente **na última meia hora** de prova.

10. Na página **27** deste Caderno de Provas, encontra-se a **Folha de Anotação do Candidato**, a qual poderá ser utilizada para a transcrição das respostas das questões objetivas. Essa folha poderá ser levada pelo candidato para posterior conferência com o gabarito somente após decorridas **2h30min** do início da prova.

11. Após o término das provas, o candidato deverá, obrigatoriamente, entregar ao fiscal o **CARTÃO DE RESPOSTAS** e a **FOLHA DE REDAÇÃO** devidamente preenchidos e assinados (nos espaços próprios).

GRUPO I – CONHECIMENTOS GERAIS

LINGUA PORTUGUESA

QUESTÃO 01

A ambiguidade é um recurso muito usado na linguagem poética e em textos publicitários para garantir maior expressividade ou humor. É um uso intencional. Na charge abaixo, o contexto desfaz a ambiguidade, criando uma situação humorística.

(Disponível em: https://www.bing.com/images/search?q=ambiguidade. Acesso em: 10/12/21.)

Na linguagem do dia a dia, é muito comum o uso de duplo sentido, o que prejudica o entendimento. Assinale a frase em que a ambiguidade **NÃO** foi desfeita.

[A] O comandante falou, no refeitório, que todos gozariam férias em janeiro.
[B] A ajudante de cozinha auxiliou o cozinheiro com a apresentação do prato.
[C] Com febre e mal-estar, o soldado solicitou dispensa ao superior.
[D] Por ser tarde da noite, o policial deteve o suspeito em sua casa.
[E] O policial pediu à noiva que apanhasse o celular dele no carro.

Instrução: Leia o excerto a seguir para responder às questões de 02 a 04.

Imaginemos uma cena possível do cotidiano:
Um garoto vai para a escola levado de carro por seu pai. Ao sinal vermelho do semáforo, surge bem em frente um menino mirrado, com roupas surradas e um nariz de palhaço, fazendo um triste show circense de malabarismo. Outros dois também aproveitam a parada obrigatória para vender balas ou pedir moedas. Rapidamente, o vidro do carro sobe depois da ordem e do comentário do pai: *Está vendo, filho, é assim que começa. Daqui a alguns anos, esses moleques vagabundos que não querem estudar e trabalhar estarão roubando e matando. Isso não tem jeito de consertar*. Acende o verde e lá vai o garoto para escola um pouco assustado, mas aliviado: *Ainda bem que minha família é do bem.*
Está plantada a semente do preconceito social.

(CARDOSO, C.M. Fundamentos para uma educação na diversidade. In: https://acervodigital.unesp.br/bitstream/unesp/. Acesso em 20/10/2021.)

QUESTÃO 02

A respeito do trecho acima, assinale a afirmativa **INCORRETA.**

[A] A narrativa presente no trecho constitui um argumento para o autor fundamentar seu ponto de vista.
[B] A generalização feita pelo pai sobre o futuro dos meninos justifica haver tantas crianças infratoras.
[C] A frase final aponta que o preconceito social é criado também a partir de pequenas ações discriminatórias.
[D] O gênero textual mostra-se híbrido – argumentação e narrativa, atendendo ao propósito comunicativo.
[E] A frase que representa o pensar do garoto justifica o que está dito na última frase.

QUESTÃO 03

Analise as afirmativas sobre a fala do pai constante do excerto.

I- Emite um juízo de valor que considera os garotos como inferiores a ele em vários aspectos.

II- Mostra crença na desigualdade natural entre os seres humanos, considerando-se como possuidor da verdade absoluta e como padrão de comportamento de referência para todos.

III- Revela rejeição de culturas diferentes que, potencialmente, segundo ele, possam ameaçar o seu *status quo*.

IV- Considera os garotos seres semelhantes, porém inferiores, cópias imperfeitas de um modelo único, o que justifica a exclusão, a dominação, a exploração.

Estão corretas as afirmativas

[A] II e III, apenas.
[B] I, II e III, apenas.
[C] II e IV, apenas.
[D] I, III e IV, apenas.
[E] I, II, III e IV.

QUESTÃO 04

O uso adequado da vírgula auxilia na construção de textos mais claros, dirimindo, inclusive, ambiguidades. Leia a charge a seguir.

(Disponível em: https//br.pinterest.com/visaghair/plagiando. In: infoenem.com. 28-01-2016. Acesso em: 23/11/2021.)

A falta de vírgula antes da palavra *gente*, sintaticamente um vocativo, muda o sentido da frase, efeito intencionalmente buscado na charge. Em qual trecho do texto em análise, o uso da vírgula (ou das vírgulas) justifica-se pela mesma razão que deveria haver vírgula antes da palavra *gente*?

[A] *Acende o verde e lá vai o garoto para escola um pouco assustado, mas aliviado*
[B] *Rapidamente, o vidro do carro sobe depois da ordem e do comentário do pai*
[C] *Está vendo, filho, é assim que começa.*
[D] *Ao sinal vermelho do semáforo, surge bem em frente um menino mirrado, com roupas surradas e um nariz de palhaço, fazendo um triste show circense de malabarismo.*

[E] *Daqui a alguns anos, esses moleques vagabundos que não querem estudar e trabalhar estarão roubando e matando.*

Instrução: Leia o texto a seguir para responder às questões de 05 a 07.

Saber parar

Vamos começar pelo final, para ninguém aí querer pular para a última linha. A ansiedade é uma antiga conhecida da nossa espécie e tem uma função importante: preparar o corpo e a mente para decisões e ações ligeiras numa situação de forte estresse. Por exemplo, a de esbarrar com um predador faminto numa savana africana. A questão é que o ambiente e os desafios de hoje mudaram muito desde a Pré-História. Os predadores agora são outros e atendem pelo nome de excesso de estímulos – de informação, de tarefas, de metas.

Essas batalhas diárias podem deixar feridas, dor e dúvida. E o pior é que fomos ensinados a passar por cima de tudo isso e seguir pleníssimos, apesar do peso. Como se fôssemos máquina. E aí o mecanismo natural que nos salva de tantos perigos nunca tem trégua. Fica ligado constantemente, trazendo problemas e, muitas vezes, a necessidade de buscar ajuda profissional para ajustá-lo. Porque somos humanos.

Não sei bem de que forma chegamos até aqui, na normalização do ato de sorrir para o outro enquanto por dentro a gente chora. Deve ter a ver com nossa visão equivocada do que é ser forte. Achamos que só tem valor aquele que dá conta de tudo, supera limites, alcança o primeiro lugar. Se essas vitórias alcançam a saúde física e emocional do tal ser perfeito, poucos parecem se importar. Mas quem disse que precisa ser assim? Quem determinou que não podemos parar, desistir, recomeçar?

[...] O desacelerar pode estar na leitura de um livro, num gole de chá, em uma atividade física, em não fazer nada.[...]

(KEDOUK, Márcia. In: Revista TODOS, 10/2021.)

QUESTÃO 05

No penúltimo parágrafo, as duas perguntas feitas pela autora podem ser consideradas retóricas. O que justifica serem assim chamadas?

[A] Buscam obter uma informação nova para complementar os argumentos dados.
[B] Pretendem provocar ou reafirmar um ponto de vista ou refletir sobre o assunto abordado.
[C] Têm caráter mal-intencionado, com o propósito de usar as respostas contra quem as formulou.
[D] São usadas principalmente para ensinar a arte da eloquência, da linguagem.
[E] Exigem uma resposta imediata do interlocutor, sob pena de não ocorrer compreensão do texto.

QUESTÃO 06

Recursos coesivos são usados para conectar semanticamente as partes de um texto, são elementos que imprimem textualidade. Sobre elementos coesivos empregados, marque V para as afirmativas verdadeiras e F para as falsas.

( ) O advérbio *aí* (linha 1) refere-se a um local distante do autor, o polo do interlocutor/leitor do texto. Trata-se de uma coesão referencial exofórica.
( ) No trecho *Os predadores agora são outros*, o advérbio apresenta a mesma ideia de *hoje* (linha 4), em contraponto com a noção de *Pré-História* (linha 4).
( ) A expressão pronominal *tudo isso* (linha 8) retoma o sentido de *Os predadores* (linhas 4 e 5), expressão citada anteriormente no texto.
( ) No trecho *Não sei bem de que forma chegamos até aqui*, o advérbio *aqui* se contrapõe ao advérbio *aí* (linha 1), indicando o polo de quem escreveu o texto, também uma coesão referencial exofórica.
( ) A expressão *essas vitórias* (linha 13) retoma anaforicamente a ideia expressa na frase anterior.

Assinale a sequência correta.

[A] V, V, F, V, F
[B] V, F, F, V, V
[C] F, V, V, F, F
[D] F, F, V, V, F
[E] V, V, F, F, V

QUESTÃO 07

A respeito de formas verbais utilizadas no texto, assinale a afirmativa correta.

[A] As formas *é* (linha 1) e *são* (linha 5) pertencem ao verbo ser e estão empregadas no tempo presente do indicativo, mas em pessoas diferentes. Indicam estados positivos.

[B] A forma *fôssemos* (linha 8) pertence ao verbo ser, primeira pessoa do plural, do tempo presente do subjuntivo. Indica fato possível.

[C] As formas *mudaram* (linha 4), *disse* (linha 14) e *determinou* (linha 15) encontram-se no tempo pretérito mais que perfeito do indicativo. Indicam fato concluído.

[D] Na frase *Achamos que só tem valor aquele que dá conta de tudo, supera limites, alcança o primeiro lugar.*, todas as formas verbais, exceto a primeira – *Achamos*, encontram-se no presente do indicativo, indicando ação positiva.

[E] Em *Quem determinou que não podemos parar, desistir, recomeçar?*, as formas verbais *determinou* e *podemos* encontram-se no pretérito perfeito do indicativo. Indicam fato passado.

HISTÓRIA DE MATO GROSSO

QUESTÃO 08

Após um longo tempo de disputas territoriais e fronteiriças, as Coroas Ibéricas da Espanha e de Portugal firmaram em 1750 o Tratado de Madri em que se buscava solucionar esses conflitos. De um lado, Portugal cederia a posse da Colônia de Sacramento, em troca, o rei espanhol entregaria o território das missões jesuíticas além Uruguai, onde viviam cerca de 30 mil indígenas da etnia guarani. Além disso, uma comissão formada por representantes das duas monarquias deveria demarcar as fronteiras entre a América Espanhola e a Portuguesa. Qual o princípio jurídico que norteou as decisões do Tratado de Madri no que tange à demarcação das fronteiras entre as Coroas Ibéricas na América?

[A] *Ad hominem*

[B] *Imperium plenum*

[C] *Libertatem Populi*

[D] *Urbe et orbi*

[E] *Uti possidetis*

QUESTÃO 09

"Em 11 de novembro de 1864, uma canhoneira paraguaia aprisionou no Rio Paraguai o navio brasileiro *Marquês de Olinda*, seguindo-se a esse ato o rompimento das relações diplomáticas entre os dois países. As operações de guerra começaram efetivamente a 23 de dezembro de 1864 quando López lançou uma ofensiva contra Mato Grosso" (FAUSTO, Boris. *História do Brasil.* São Paulo: EDUSP, 1995). A Guerra do Paraguai foi resultado de múltiplos fatores dentre os quais a tensão geopolítica na Bacia do Prata. No que diz respeito ao Império brasileiro e ao Paraguai, quais eram os principais elementos de divergência entre esses governos?

[A] Questões de fronteira e a garantia de livre navegação no Rio Paraguai.

[B] A concorrência pelo comércio da erva mate e a fuga de escravos.

[C] As missões jesuítas e os tratados de livre comércio com os ingleses.

[D] A aliança do Império brasileiro com o caudilho argentino Rosas e o transporte de ouro mato-grossense pelo Rio Paraguai.

[E] A política imperial de anexação do Uruguai e o alinhamento econômico do Paraguai com os Estados Unidos.

QUESTÃO 10

A produção de erva-mate teve uma importância significativa na economia de Mato Grosso, especialmente no período compreendido entre o final da guerra com o Paraguai (1870) e a década de 1960. Neste ramo de atividade, teve relevante destaque a atuação da Companhia Mate Laranjeira que recebeu generosas concessões públicas para incentivar a produção mateira. Sobre a produção da erva-mate em Mato Grosso, é correto afirmar:

[A] Era uma produção extrativista voltada para a exportação principalmente para a Argentina.
[B] A plantação da erva-mate foi pioneira no uso de mão de obra de imigrantes no estado.
[C] O capital que financiou a atividade veio dos fazendeiros paraguaios cujas terras ficaram improdutivas devido à guerra.
[D] A organização da Companhia seguia os princípios das grandes companhias de comércio holandesas.
[E] A família imperial era o sócio majoritário dessa empresa.

GEOGRAFIA DE MATO GROSSO

QUESTÃO 11

Leia os textos.

TEXTO I

Um bloco rochoso de aproximadamente 12 metros de comprimento (equivalente ao tamanho de um ônibus) despencou do paredão da cachoeira do Véu de Noiva (no Parque Nacional de Chapada dos Guimarães) e deixou cinco pessoas feridas, duas delas em estado grave. O desastre aconteceu por volta das 12h30 de segunda-feira (21/04/2008) e por pouco não soterrou as cerca de 30 pessoas que estavam no local, várias delas sofreram escoriações. O paredão que despencou interrompeu o curso da queda d'água por alguns instantes, fazendo uma grande onda ao cair no riacho. Logo após o acidente o Instituto de Meio Ambiente e Recursos Naturais Renováveis (IBAMA) ordenou que o parque fosse fechado por tempo indeterminado.

(Fonte: https://www.gazetadigital.com.br/editorias/cidades/bloco-que-desabou-tinha-12m/175042. Acesso em: 10/01/2022.)

TEXTO II

Pela classificação de Ross (1996), o relevo de Mato Grosso apresenta três tipos de unidades geomorfológicas: os planaltos, as depressões e as planícies, que foram identificados em cinco grandes categorias e compartimentados em subunidades.

(MORENO, Gislaine et. al. *Geografia de Mato Grosso*: território, sociedade, ambiente. Cuiabá: Entrelinhas, 2005.)

De acordo com a classificação de Ross e a localização da estrutura rochosa abordada no texto I, esta estrutura pertence à unidade de Planalto em

[A] Intrusão.
[B] Bacia Sedimentar.
[C] Cinturão Orogênico.
[D] Cobertura Residual de Plataforma.
[E] Depressão.

QUESTÃO 12

Leia os textos.

Texto I

Por ser um grande exportador de matérias-primas e importador de produtos manufaturados, Mato Grosso necessita de uma infraestrutura de transporte capaz de suportar a demanda crescente de veículos e de carga, que garanta a entrada de produtos e o escoamento da produção. Porém, no estado a malha viária está muito aquém das necessidades, sendo um dos fatores responsáveis pela perda de competitividade da produção, além de insuficiente, a maior parte desta malha não apresenta a infraestrutura adequada de funcionamento. O estado conta com cinco eixos rodoviários federais e oito eixos rodoviários estaduais.

(MORENO, Gislaine. *Geografia de Mato Grosso:* território, sociedade, ambiente. Cuiabá: Entrelinhas, 2005. Adaptado).

Texto II

O deputado estadual Eduardo Botelho afirmou que a construção da 1ª Ferrovia Estadual vai possibilitar o crescimento da industrialização na Região Metropolitana de Cuiabá, por meio da implantação de um terminal na Capital, cujas obras já são consideradas a realização de um "sonho". A construção da ferrovia estadual prevê 730 quilômetros de linha férrea que vão interligar os municípios de Rondonópolis a Cuiabá, além de Rondonópolis com Nova Mutum e Lucas do Rio Verde, e que vão se conectar à malha nacional, em direção ao Porto de Santos (SP). "A baixada cuiabana tem vocação para a agricultura familiar, para força de trabalho e esperamos a industrialização para gerar emprego e renda para nosso povo. Se Deus quiser essa ferrovia vai alavancar a economia da baixada cuiabana e de todo o Estado de Mato Grosso", disse Eduardo Botelho.

(Disponível em: http://www.sinfra.mt.gov.br/-/17981944-eduardo-botelho-a-ferrovia-vai-alavancar-a-industrializacao-de-cuiaba-e-de-todo-estado-. Acessado em: 16/12/2021)

Sobre o assunto, analise as afirmativas.

I- O eixo ferroviário entre Rondonópolis e Cuiabá tem previsão de conclusão de obras e respectivo funcionamento no ano de 2025. Conta com previsão de início das obras para o ano de 2022, sendo executadas pela empresa Rumo S/A e ao menos 26 municípios que estão às margens do traçado da ferrovia serão beneficiados diretamente com a implantação da malha ferroviária.

II- Atualmente no estado existem duas empresas que possuem autorização para a prestação de serviço de transporte hidroviário. São as empresas Doerner & Cia. Ltda. e Centro Oeste Navegações Ltda., que juntas operam um total de 13 travessias, utilizando os rios Arinos, Juruena, Rio Verde, Apiacás, Roosevelt e Teles Pires, principalmente.

III- O principal modal de escoamento de grãos de Mato Grosso se dá pelas rodovias BR-163 (Cuiabá-Santarém) e BR-364 (Cuiabá-Porto Velho). No ano de 2021 a BR-364 completou 48 anos de existência, e conforme dados da empresa Rota do Oeste, a BR-163 apresenta um fluxo de 70 mil veículos circulando diariamente nesta rodovia, sendo 70% veículos de carga.

IV- A hidrovia Paraguai-Paraná está inserida nas bacias dos rios Cuiabá, Paraguai, Taquari, Negro e Miranda, sendo, desde o século XIX, uma via fluvial de transporte de grande papel na integração sul-americana. Porém, foi desativada no início do século XX, em função da implantação da estrada de ferro Noroeste do Brasil (NOB), ligando o sul de Mato Grosso à região sudeste do país.

Está correto o que se afirma em

[A] II e III, apenas.
[B] I, III e IV, apenas.
[C] I, II e III, apenas.
[D] II e IV, apenas.
[E] III e IV, apenas.

QUESTÃO 13

Sobre a classificação climática de Mato Grosso, marque V para as afirmativas verdadeiras e F para as falsas.

( ) Em Mato Grosso, onde as áreas mais elevadas são formadas por chapadas, a altitude associada à ventilação constitui o fator geográfico que mais influencia as variações de temperatura e pluviosidade.

( ) A classificação climática de Strahler divide o clima de Mato Grosso em três tipos Tropical Chuvoso de Floresta, de Savana, e Tropical de Altitude, enquanto que a classificação de Koppen classifica somente em Equatorial Quente-úmido e Tropical Seco-úmido.

( ) Mato Grosso, pela sua localização latitudinal, encontra-se na região tropical, onde a continentalidade, a extensão territorial, as variações do relevo e a circulação atmosférica influenciam na distribuição espacial da temperatura.

( ) A capital do estado, Cuiabá, caracteriza-se por clima tropical, com menos pluviosidade no inverno que no verão, de quatro a cinco meses secos, apresentando uma temperatura média acima dos 26°C e com uma pluviosidade média anual de 1.498 mm.

Assinale a sequência correta.

[A] F, V, V, F
[B] F, V, F, F
[C] V, V, V, V
[D] V, F, F, F
[E] V, F, V, V

PRINCÍPIOS DE ÉTICA E FILOSOFIA

QUESTÃO 14

Leia o texto.

"A técnica moderna introduziu ações de uma tal ordem inédita de grandeza, com tais novos objetos e consequências que a moldura ética antiga não consegue mais enquadrá-las. [...]. A presença do homem no mundo era um dado primário e indiscutível de onde partia toda ideia de dever referente à conduta humana: agora, ela própria tornou-se um objeto de dever – isto é, o dever de proteger a premissa básica de todo dever, ou seja, precisamente a presença de meros candidatos a um universo moral no mundo físico do futuro; isso significa, entre outras coisas, conservar este mundo físico de modo que as condições para uma tal presença permaneçam intactas".

(JONAS, H. *O princípio responsabilidade:* ensaio de uma ética para civilização tecnológica. Rio de Janeiro: Contraponto; Ed. PUC-Rio, 2006)

Considerando o trecho citado e as reflexões de Hans Jonas sobre o princípio da responsabilidade, é correto afirmar:

[A] As premissas das éticas antigas devem ser resgatadas uma vez que permitem repensar a inserção do ser humano na natureza e os impactos da ação humana no planeta.
[B] A responsabilidade ética na sociedade atual exige uma perspectiva antropocêntrica a fim de preservar a vida das gerações futuras.
[C] A separação entre ser humano e natureza, característica da sociedade moderna, permitiu colocar a natureza como objeto de responsabilidade ética.
[D] A ação ética na civilização tecnológica demanda uma responsabilidade coletiva que tome como base as futuras gerações.
[E] A ética da responsabilidade desconsidera a dignidade própria da natureza, mas defende o uso moderado dos recursos naturais a fim de preservar as condições materiais de vida das gerações futuras.

QUESTÃO 15

Leia o texto.

"Finalmente há um imperativo que, sem pôr no fundamento como condição qualquer outro objetivo a ser alcançado mediante uma certa conduta, ordena imediatamente essa conduta. Este imperativo é *categórico*. Ele não diz respeito à matéria da ação e ao que deve seguir-se dela, mas à forma e ao princípio do qual ela mesma decorre, e o essencialmente bom da ação consiste na disposição, seja qual for seu resultado. Este imperativo pode chamar-se de imperativo da *moralidade*".

(KANT, I. Fundamentação da metafísica dos costumes. In: MARCONDES, D. *Textos básicos de filosofia*. 2 ed. Rio de Janeiro: Jorge Zahar, 2000)

De acordo com o trecho e as características da ética kantiana, é correto afirmar:

[A] A lei moral é condicionada, em seu princípio, pela cultura.
[B] O imperativo moral deriva da experiência.
[C] A lei moral conduz à felicidade.
[D] O imperativo moral é *a priori*.
[E] A lei moral pondera as consequências da ação.

MATEMÁTICA

QUESTÃO 16

Observe o gráfico a seguir:

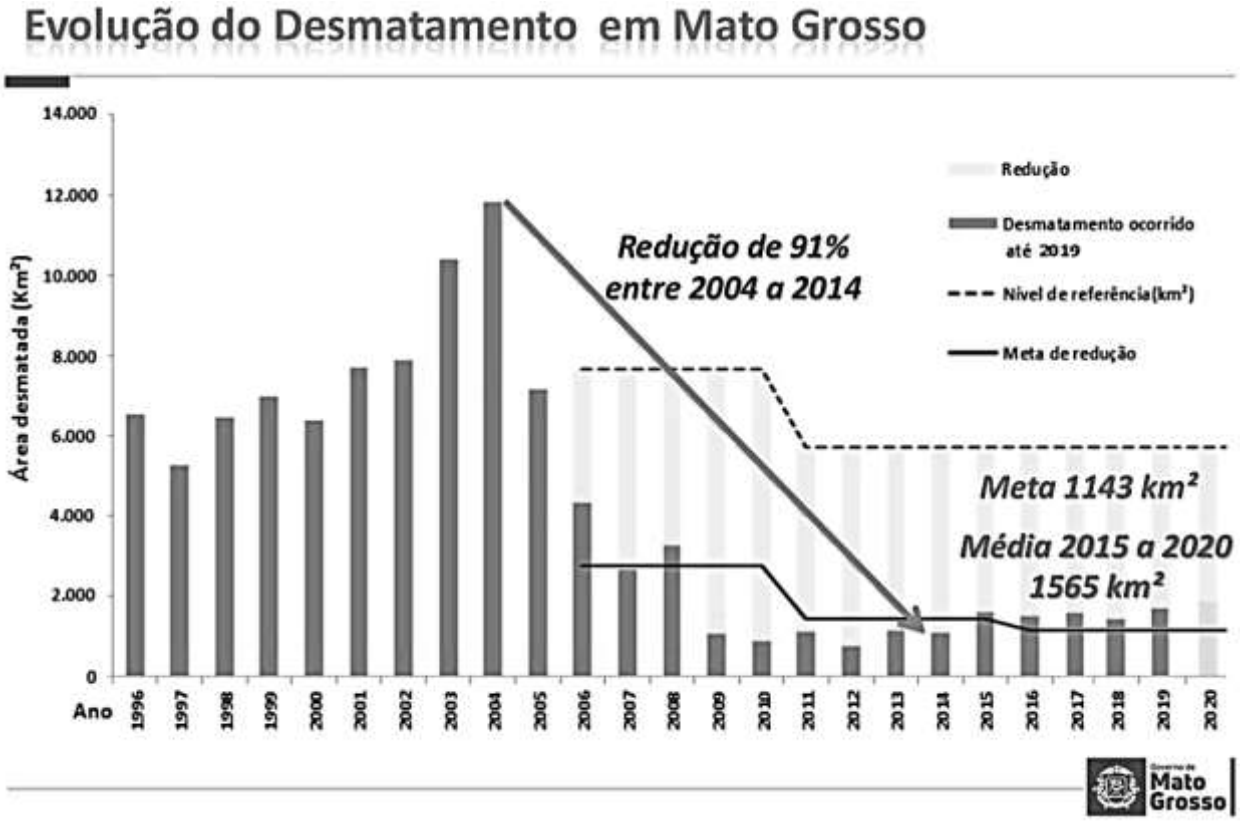

A partir dessas informações, admita que a área desmatada em 2021 corresponda à média calculada de 2015 a 2020. Em que ano a meta de 1.143 km^2 será alcançada, se a cada ano a área desmatada cair 31 km^2?

[A] 2040
[B] 2034
[C] 2036
[D] 2037
[E] 2035

QUESTÃO 17

Os gráficos a seguir constam do Anuário da Secretaria de Estado de Segurança Pública de Mato Grosso – 2019, e analisam os homicídios, Art. 121 do Código Penal, conforme a faixa etária da vítima (gráfico 2.1) e a proporção de homicídios por sexo (gráfico 2.2) em Mato Grosso no ano de 2019.

Gráfico 2.1 - Homicídio por faixa etária em Mato Grosso em 2019

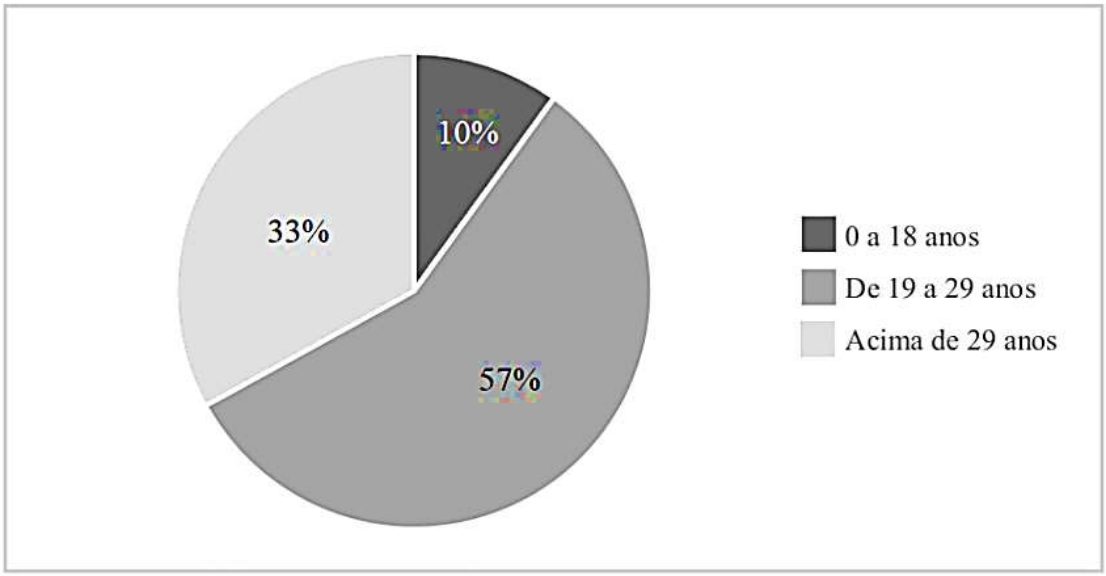

Fonte: relatórios SROP PJC PM e SINESP PJC
*Exceto morte por intervenção de agente do Estado.

Gráfico 2.2 – Proporção de Homicídios por sexo em Mato Grosso em 2019

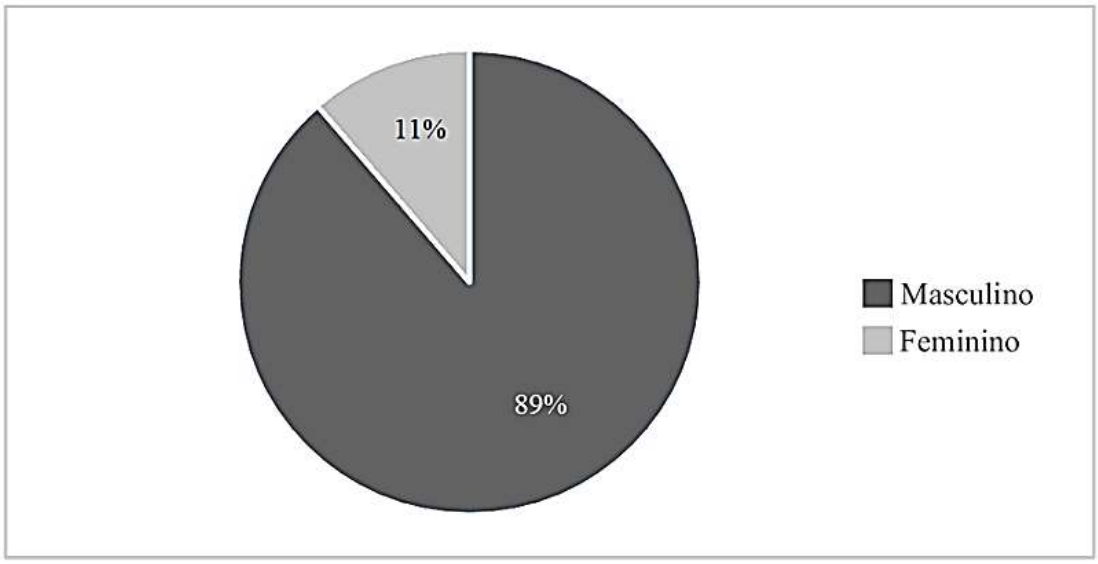

Fonte: relatórios SROP PJC PM e SINESP PJC
*Exceto morte por intervenção de agente do Estado.

Considere que no Gráfico 2.1, dos 10% da faixa etária de 0 a 18 anos, dos 57% da faixa etária de 19 a 29 anos e dos 33% da faixa etária acima de 29 anos, 4 em cada 5 pessoas, 17 em cada 19, e 10 em cada 11 das respectivas faixas eram do sexo masculino. A partir dessas informações, ao se escolher um caso aleatório, qual é a probabilidade de esse caso ser de uma pessoa do sexo feminino na faixa etária de 19 a 29 anos?

[A] 3%
[B] 2%
[C] 6%
[D] 8%
[E] 5%

QUESTÃO 18

O Quadro de Oficiais de Saúde da Polícia Militar (QOSPM) é composto por:

Postos	Quantidade
Coronel	02
Tenente-Coronel e Major	30
Capitão	25
Primeiro-Tenente e Segundo-Tenente	30
TOTAL	**87**

Assinale a alternativa que apresenta o número total de comissões que podem ser formadas com 4 membros do QOSPM, dentre os Coronéis, os Capitães ortopedistas e os Capitães odontólogos, que contenham pelo menos um Coronel e que não seja uma comissão formada apenas por médicos, nem apenas por odontólogos.

[A] 53
[B] 55
[C] 68
[D] 70
[E] 72

Dados:
- Dentre os Coronéis do QOSPM, um é médico e o outro é odontólogo;
- Dentre os Capitães do QOSPM, três são ortopedistas e três são odontólogos.

QUESTÃO 19

Um Perito Criminal, em seu trabalho sobre investigação em local de acidente de tráfego, pode necessitar calcular a distância de parada segura para veículos a motor (*DPS*). Para tanto, ele dispõe da seguinte fórmula:

$$DPS = V.T_p + \frac{V^2}{2.a}$$

Onde: T_p = Tempo de Reação/Percepção, em segundos;
V = Velocidade, em metros por segundo;
a = Fator de aceleração.

Qual é a velocidade, em metros por segundo, considerando DPS = 63 m, T_p = 2 s e a = 6 m/s^2?

[A] 16
[B] 18
[C] 17
[D] 19
[E] 20

QUESTÃO 20

De um grupo de 21 policiais, 9 participaram da operação Delta, 11 da operação Águia, 8 da operação Brasa, 4 das operações Delta e Águia, 3 das operações Águia e Brasa, 2 das operações Delta e Brasa e 1 não participou de qualquer das três operações. A partir dessas informações, assinale a alternativa que apresenta o número de policiais que participaram apenas da operação Brasa.

[A] 1
[B] 3
[C] 2
[D] 4
[E] 0

RASCUNHO

GRUPO II – CONHECIMENTOS ESPECÍFICOS

CONHECIMENTOS BÁSICOS EM SAÚDE PÚBLICA

QUESTÃO 21

Analise o quadro abaixo, que apresenta o indicador razão de mortalidade proporcional das populações dos países A, B, C e D.

	Razão de mortalidade proporcional por país (%)			
Idade (anos)	A	B	C	D
< 1	50	9	25	30
1 - 4	15	7	10	5
5 -19	10	4	5	10
20 - 49	12	10	40	15
50 ou mais	13	70	20	40

Com base nos valores percentuais e na proposta de Nelson de Moraes para interpretação desse indicador, os níveis de saúde das populações dos quatro países são, respectivamente:

[A] Muito baixo, regular, elevado, baixo.
[B] Elevado, baixo, regular, muito baixo.
[C] Baixo, elevado, muito baixo, regular.
[D] Baixo, regular, elevado, muito baixo.
[E] Muito baixo, elevado, regular, baixo.

QUESTÃO 22

O quadro abaixo apresenta as situações de violência interpessoal que são objeto de notificação compulsória no Brasil.

(Fonte: Ministério da Saúde, Brasil.)

O sistema de informação nacional, no qual o profissional de saúde e a unidade de saúde devem registrar a notificação obrigatória desses casos é:

[A] Informações Estatísticas de Segurança Pública (SNIESP).
[B] Enfrentamento à Violência Contra Pessoas (SNEVP).
[C] Violência Interpessoal (SNVI).
[D] Agravos de Notificação (SINAN).
[E] Vigilância de Violências e Acidentes (VIVA).

QUESTÃO 23

Com base em vivências e experiências de profissionais trabalhando em Unidades de Saúde, foi desenvolvida a Política Nacional de Humanização no âmbito do SUS. Essa política enfatiza

[A] maior monitorização sobre os profissionais pelos gestores, com criação de regras e delimitações, impedindo que erros na atenção e perda de foco por esses profissionais prejudiquem os usuários.

[B] maior conhecimento dos profissionais e dos usuários sobre a gestão da unidade, para que possam vigiar os atos da administração e denunciar eventuais desvios e condutas impróprias dos gestores.

[C] tornar o ambiente da unidade de saúde mais acolhedor e amistoso, para diminuir as queixas direcionadas à direção e à ouvidoria.

[D] delimitar os papéis dos diferentes atores no processo de atenção e recuperação de pacientes (profissionais, gestores e usuários) para que cada um respeite a função e o espaço do outro, sem intromissões ou interações que perturbem o bom desempenho dos profissionais.

[E] maior interação entre os gestores das unidades e os profissionais de saúde, além dos usuários e familiares, na criação de ambiente harmônico e no trabalho coletivo em prol da melhor recuperação do paciente.

QUESTÃO 24

Analise a figura abaixo, que apresenta a história natural de uma doença infecciosa, fazendo analogia com o conceito de iceberg.

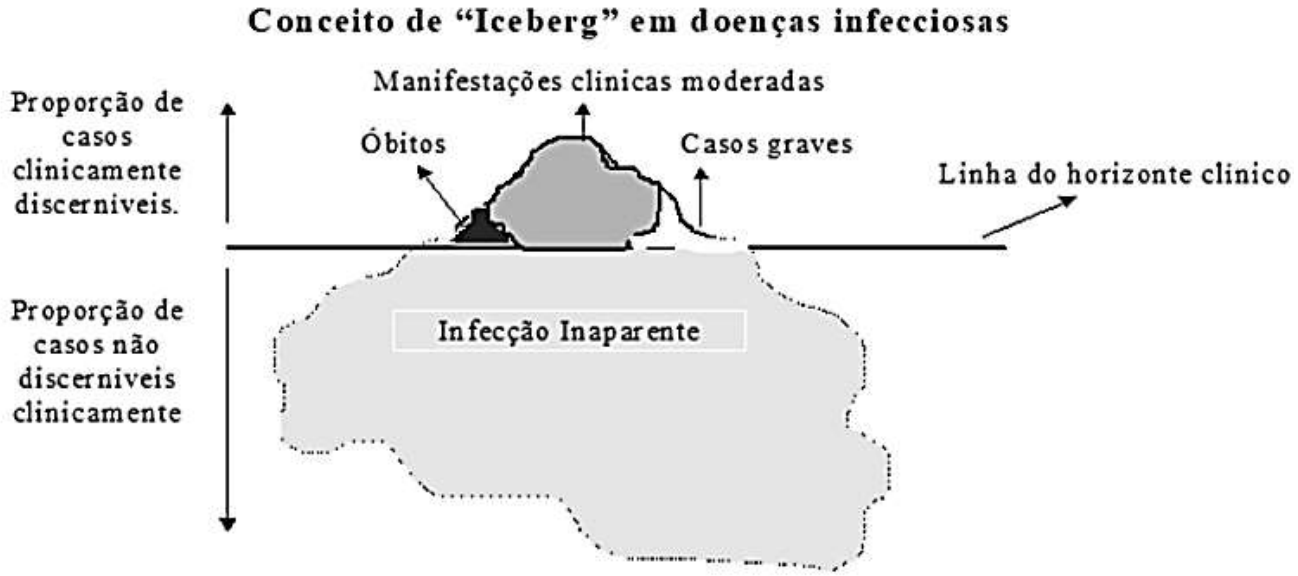

Fonte: Waldman EA (1998).

Considerando que a infecção pelo vírus SARS-Cov2, causador da COVID-19, representa exatamente esse perfil de história natural, é correto afirmar que a letalidade dessa virose é

[A] superestimada, por não se ter em conta o número real de óbitos entre os casos diagnosticados.

[B] superestimada, por não se ter em conta a proporção de casos não discerníveis clinicamente.

[C] subestimada, porque infecções inaparentes também aumentam risco de óbitos nesses pacientes.

[D] superestimada, porque casos graves e óbitos também ocorrem abaixo do horizonte clínico.

[E] subestimada, por não se ter em conta a proporção de casos não discerníveis clinicamente.

QUESTÃO 25

Em epidemiologia, os indicadores operacionais de saúde avaliam a qualidade dos serviços prestados aos pacientes com uma determinada doença e são calculados como medidas de frequência em saúde. Para concluir sobre a probabilidade de cura da doença em um determinado período de tempo, a abordagem temporal dessa medida de frequência deve ser feita em avaliação

[A] por coorte.

[B] ecológica.

[C] descritiva.

[D] por conglomerado.

[E] transversal.

FUNDAMENTOS BÁSICOS DE ODONTOLOGIA

QUESTÃO 26

A saúde periodontal é um pré-requisito da Odontologia integral bem-sucedida, e a preparação do periodonto para a Odontologia restauradora é fundamental para se alcançar a longevidade do tratamento. Sobre o tema, analise as afirmativas.

I- A infecção periodontal ativa deve ser tratada e controlada antes do início da Odontologia restauradora, estética e de implantes.

II- Forças traumáticas posicionadas sobre dentes com periodontite em progressão podem aumentar a mobilidade dentária, o desconforto e a perda de inserção.

III- A movimentação ortodôntica de dentes mal posicionados deve ser feita antes do tratamento periodontal, porque tem o tempo de duração diminuído devido à qualidade, quantidade e topografia do periodonto.

IV- Pelo fato de a terapia periodontal e restauradora ser situacional e específica para cada paciente, o plano de tratamento deve ser adaptável a alterações, dependendo de variáveis encontradas no curso do tratamento.

Estão corretas as afirmativas

[A] I, III e IV, apenas.
[B] I e III, apenas.
[C] I, II e IV, apenas.
[D] II e III, apenas.
[E] II e IV, apenas.

QUESTÃO 27

Jovem de 17 anos de idade, sexo feminino, compareceu ao serviço odontológico para avaliação. Após exame clínico, notaram-se na face oclusal dos dentes 46 e 36 pequenas manchas de coloração escura, fundo endurecido à sondagem, margens definidas e sem halo de mancha branca opaca e rugosa nas suas extremidades. Radiograficamente, estavam restritas à metade externa do esmalte. A paciente responde bem à higiene local. Considerando esse caso clínico, marque a alternativa que apresenta a hipótese diagnóstica provável.

[A] Lesão de cárie inativa.
[B] Lesão de cárie ativa.
[C] Lesão de cárie rampante.
[D] Lesão de cárie oculta.
[E] Lesão de cárie residual.

QUESTÃO 28

A respeito de biossegurança em Odontologia, assinale a afirmativa correta.

[A] A antissepsia do paciente deve ser iniciada pela região intrabucal, prosseguindo para a pele da região peribucal.
[B] Os processos de assepsia, quando executados em superfícies inanimadas, denominam-se desinfecção, podendo ser realizados com álcool 70%.
[C] A desinfecção de alto nível causa inativação de todas as formas de vida microbiana, incluindo esporos, vírus, bactérias e fungos.
[D] Os resíduos odontológicos potencialmente infectantes devem ser descartados em caixas sólidas identificadas com a cor cinza.
[E] Perfurador de Ainsworth é considerado material crítico no procedimento de desinfecção.

QUESTÃO 29

_____é um tipo específico de articulação fibrosa, que faz a união da raiz do dente ao seu alvéolo.

Assinale a alternativa que preenche corretamente a lacuna.

[A] Cementose
[B] Sindesmose
[C] Sharpey

[D] Intrusão
[E] Gonfose

QUESTÃO 30

A ergonomia é fundamental para o bem-estar do profissional de saúde no decorrer de sua carreira. Sobre ergonomia, assinale a afirmativa correta.

[A] A área útil de trabalho do profissional compreende um raio de 1,5 m, sendo o eixo a cabeça do paciente e onde devem estar organizados todos os itens que serão utilizados dentro da boca do paciente e também os dois mochos odontológicos: o do dentista e o do auxiliar.
[B] Um odontólogo destro deve ocupar a posição entre 1h e 4h para trabalhar de forma ergonômica em um consultório, segundo as normas de ergonomia padronizadas pela FDI e ISO (Federação Dentária Internacional e *International Organization for Standardization*).
[C] Ao realizar trabalhos na mandíbula, o cabeçote da cadeira odontológica deve ser posicionado para baixo; para a maxila, ele deve ser acomodado para cima, estando a cadeira odontológica na posição horizontal.
[D] O trabalho a quatro mãos pode representar um fator fundamental para a manutenção da posição ergonomicamente correta, na medida em que diminui a necessidade de movimentação do operador.
[E] Durante os procedimentos odontológicos, operador e auxiliar devem estar sentados, mantendo as pernas em 90° com as plantas dos pés apoiadas nos pés do mocho.

LEGISLAÇÃO POLICIAL MILITAR DE MATO GROSSO

QUESTÃO 31

De acordo com a Lei Complementar Estadual nº 555/2014, que dispõe sobre o Estatuto dos Militares do Estado de Mato Grosso, o militar estadual encontra-se na ativa em determinadas situações. Considere:

I- Ingressar na carreira militar e fazer dela profissão.
II- Ser aluno de órgãos militares de formação, habilitação, adaptação, estágio, aperfeiçoamento, graduação e pós-graduação.
III- Ser convocado após a reforma.
IV- Ser reincluído.

São situações em que o militar estadual encontra-se na ativa:

[A] I, II e IV, apenas.
[B] I, III e IV, apenas.
[C] I, II e III, apenas.
[D] III e IV, apenas.
[E] I e II, apenas.

QUESTÃO 32

Em conformidade com a Lei Complementar Estadual nº 408/2010, que institui o Sistema de Ensino da Polícia e do Corpo de Bombeiros Militar do Estado de Mato Grosso, os exames e testes obrigatórios para o ingresso nos cursos de formação são:

[A] Exame intelectual, exame médico-odontológico, teste de aptidão física e avaliação psicológica.
[B] Exame intelectual, exame médico-oftalmológico, teste de aptidão física e investigação social.
[C] Exame curricular, exame médico-oftalmológico, teste de aptidão física e avaliação psicológica.
[D] Exame curricular, exame médico-odontológico, teste de aptidão física e investigação social.
[E] Exame intelectual, teste de aptidão física, avaliação psicológica e investigação social.

QUESTÃO 33

Em matéria de punição disciplinar, conforme disposto no Decreto Estadual nº 1.329/1978 (Regulamento Disciplinar da PMMT), é correto afirmar:

[A] A advertência, por ser verbal, deve constar das alterações do punido, bem como ser registrada em sua ficha disciplinar.
[B] A detenção consiste no cerceamento da liberdade do punido, que deverá permanecer no local a ele determinado, normalmente o quartel, sem que fique, no entanto, confinado.
[C] A repreensão é a punição que não priva o punido da liberdade, nem precisa ser publicada em boletim.

[D] A prisão do oficial ou aspirante, a critério da autoridade que aplicou a punição, pode ser cumprida na própria residência do militar, quando não for superior a 24 (vinte e quatro) horas.
[E] As punições disciplinares de detenção e prisão não podem ultrapassar 45 (quarenta e cinco) dias.

QUESTÃO 34

Tendo em vista as disposições gerais da Lei Complementar Estadual nº 555/2014, que dispõe sobre o Estatuto dos Militares do Estado de Mato Grosso, é **INCORRETO** afirmar:

[A] O militar estadual atua junto à comunidade e nunca deverá ser instrumento para favorecimento de grupos ou instituições.
[B] São manifestações essenciais dos valores militares o espírito de corpo, expresso pelo orgulho do militar estadual pela organização onde serve.
[C] É dever fundamental do militar estadual dedicar-se integralmente à atividade militar estadual e à instituição a que pertence, mesmo com o risco da própria vida.
[D] Os atos dos militares estaduais verificados na conduta do dia a dia em sua vida privada poderão acrescer ou diminuir o seu bom conceito na vida funcional.
[E] É dever fundamental do militar estadual qualquer prestação de contas, ainda que com atraso, como condição essencial da gestão dos bens e direitos da coletividade.

QUESTÃO 35

Com base no Decreto Estadual nº 1.400/2012, que aprova o Regulamento de Uniformes da Polícia Militar do Estado de Mato Grosso (PMMT), assinale a afirmativa correta.

[A] É opcional o uso de plaqueta ou tarja de identificação de posto e nome ou graduação e nome, nos uniformes previstos no regulamento.
[B] O Diretor Setorial poderá, mediante proposta da Comissão de Uniformes da PMMT, alterar, criar ou extinguir uniformes de acordo com o momento.
[C] Não é permitido alterar as características dos uniformes, nem a esses sobrepor ou agregar peças, artigos, insígnias ou distintivos não previstos em regulamento ou em ato do Comandante-Geral.
[D] É proibido, em qualquer ocasião, o comparecimento de Oficiais e Praças fardados ou ostentando o distintivo policial militar padrão em reuniões e manifestações de caráter político-partidário.
[E] O uniforme operacional da PMMT é classificado como 2º uniforme, sendo de uso exclusivo para Oficiais.

CONHECIMENTOS DA ÁREA/ESPECIALIDADE

QUESTÃO 36

O processo para restaurações com materiais adesivos estéticos é complexo, uma vez que envolve a união dos materiais restauradores aos tecidos dentais. A respeito de adesão e restauração em resina composta de dentes posteriores, analise as afirmativas.

I- Em cavidades com profundidade de até 4 mm, resinas bulk fill podem ser inseridas em incrementos únicos. Isso se deve ao fato de que o stress de contração é minimizado por seu baixo grau de contração de polimerização e porque sua alta translucidez permite que a luz incidente penetre mais profundamente na resina.
II- A energia resultante de uma exposição de luz a 1.000 mW/cm^2 por 20 segundos é idêntica à energia de uma exposição a 500mW/cm^2por 40 segundos, assim o tempo de exposição de fotopolimerizadores com intensidade de luz menor pode ser compensada pelo aumento no tempo de exposição.
III- Adesivos odontológicos autocondicionantes de dois passos requerem que a dentina, após condicionamento com ácido fosfórico 37% por 15 segundos, seja mantida úmida para que ocorra a exposição de um emaranhado de fibras colágenas de modo a permitir a infiltração subsequente do adesivo.
IV- Após a instalação da matriz metálica e cunha nas faces mesial e distal, a inserção da resina composta em cavidades MOD é iniciada simultaneamente pelas caixas proximais, por meio da aplicação sucessiva de pequenos incrementos horizontais, fotoativados individualmente.

Está correto o que se afirma em

[A] II, III e IV, apenas.

[B] II e IV, apenas.
[C] I e II, apenas.
[D] I e IV, apenas.
[E] I, II e III, apenas.

QUESTÃO 37

Facetas são procedimentos realizados na face vestibular dos dentes para promover alteração de cor ou forma. A respeito de facetas indiretas, assinale a afirmativa correta.

[A] A espessura da peça é determinada pela coloração do substrato – quanto mais escurecido, maior a espessura de cerâmica necessária para mascará-lo.
[B] Dada a natureza conservadora do preparo, as etapas de acabamento, polimento e regularização dos ângulos devem ser dispensadas.
[C] A espessura da cerâmica é determinada pela profundidade do desgaste efetuado na estrutura dental remanescente.
[D] A expulsividade para incisal é crítica para os procedimentos de moldagem e cimentação da faceta, porque essa é a guia de inserção da peça.
[E] A curva reversa de Hollemback confere maior espessura do material nas margens proximais e deve ser confeccionada inclusive na borda incisal.

QUESTÃO 38

A decisão por reparar ou substituir restaurações de resina composta é um desafio que vários dentistas enfrentam no dia a dia da prática profissional. A respeito dos procedimentos de reparo em resina composta, analise as afirmativas.

I- O processo de reparo pode ser mais complicado em uma restauração antiga de resina composta, porque a quantidade de ligações duplas de carbono remanescentes diminui com o tempo.
II- O tratamento de superfície tem por finalidade remover a camada superficial alterada, aumentar a energia de superfície da resina envelhecida e ainda aumentar sua área com a criação de irregularidades.
III- A asperização de superfície deve ser realizada por meio de pontas diamantadas ou jateamento com óxido de alumínio.
IV- O condicionamento da resina com ácido fosfórico 37% promove alteração sobre o seu padrão morfológico, aumentando a força de união do reparo.

Está correto o que se afirma em

[A] II e IV, apenas.
[B] I, II e III, apenas.
[C] I, III e IV, apenas.
[D] I, II e IV, apenas.
[E] III, apenas.

QUESTÃO 39

Na última década, triplicou entre os jovens um problema conhecido como envelhecimento precoce dos dentes. A esse respeito, marque V para as afirmativas verdadeiras e F para as falsas.

( ) As lesões causadas pela erosão nos tecidos dentais são irreversíveis.
( ) Alimentos e bebidas ácidas, como refrigerante, energético, álcool e açúcar, quando consumidos em elevada frequência e de modo inadequado, facilitam a degeneração dos tecidos dentais.
( ) O pH crítico para dissolução do esmalte é 6,5.
( ) O estilo de vida também pode impactar, pois o estresse diário pode provocar alterações gástricas.

Assinale a sequência correta.

[A] F, V, V, V
[B] V, V, F, V
[C] F, F, V, F

[D] V, F, V, V
[E] F, V, F, F

QUESTÃO 40

Com os avanços da Odontologia, constatou-se que o uso do flúor é a medida de maior impacto e relevância para o controle da cárie dentária. Uma das razões principais para o sucesso do flúor é a facilidade e diversidade de suas formas de aplicação. A respeito do uso do flúor, marque V para as afirmativas verdadeiras e F para as falsas.

( ) Embora os métodos de liberação de flúor possam ser divididos em sistêmicos e tópicos, o modo primário de ação desse mineral resulta de atividade tópica na cavidade bucal.

( ) É necessário manter a exposição regular ao flúor, seja com o uso sistêmico ou tópico para manter sua concentração no ambiente bucal e na placa dentária.

( ) O uso tópico do flúor tem efeito na remineralização das lesões erosivas e também na prevenção do desenvolvimento futuro dessas lesões.

Assinale a sequência correta.

[A] F, F, F
[B] F,V, V
[C] F, F, V
[D] V, F, V
[E] V, V, F

QUESTÃO 41

A erupção parcial ou incompleta dos terceiros molares está frequentemente relacionada com a ocorrência de pericoronarites. Sobre os sinais e sintomas mais frequentes da pericoronarite, considere:

I- Presença de mau hálito
II- Inchaço da gengiva no local acometido
III- Dor no local
IV- Aumento do tamanho ou do número de linfonodos cervicais

São sinais e sintomas:

[A] III e IV, apenas.
[B] I, II e III, apenas.
[C] I, II e IV, apenas.
[D] I, II, III e IV.
[E] II e III, apenas.

QUESTÃO 42

Pessoas que sofrem de depressão costumam ter seu estilo de vida, suas emoções e tarefas diárias afetadas, além de se sentirem mais cansadas, infelizes e insatisfeitas com a vida pessoal e profissional, o que pode redundar em alterações bucais. Sobre o tema, analise as afirmativas.

I- Entre os sinais e sintomas bucais da depressão estão aumento no risco de desenvolver periodontite, sensações de queimação na boca e distúrbios na articulação temporomandibular.
II- Os fármacos utilizados no tratamento da depressão provocam diferentes graus de xerostomia e podem aumentar a probabilidade de cáries e outros problemas relacionados com a saúde oral.
III- O uso de anestésicos locais deve ser evitado por provocar sérias complicações na interação com medicamentos antidepressivos.

Está correto o que se afirma em

[A] I e II, apenas.
[B] I, II e III.
[C] I e III, apenas.
[D] II, apenas.
[E] II e III, apenas.

QUESTÃO 43

Em alguns distúrbios sistêmicos, hemorragias gengivais excessivas e de difícil controle ocorrem espontaneamente ou após irritação dos tecidos. A respeito de tratamento cirúrgico em pacientes com esses distúrbios, marque V para as afirmativas verdadeiras e F para as falsas.

( ) Em pacientes com trombocitopenia, a terapia periodontal deve ser direcionada para reduzir a inflamação através da remoção de irritantes locais para evitar a necessidade de tratamento mais agressivo.

( ) Durante a anamnese pré-cirúrgica, o histórico do paciente sobre sua família deve ser aprofundado, buscando alguma relação de hereditariedade das doenças, uma vez que todos os distúrbios de coagulação são hereditários.

( ) As manifestações hemorrágicas em pacientes que apresentam a doença de Von Willebrand são leves a moderadas e incluem facilidade de apresentar hematoma e sangramento de mucosa. Porém, em pacientes com esse distúrbio, sangramento anormal é observado após procedimentos cirúrgicos, como extração de dentes.

Assinale a sequência correta.

[A] F, F, V
[B] F, V, F
[C] V, F, V
[D] V, V, F
[E] F, F, F

QUESTÃO 44

A exposição ao risco de contaminação e disseminação do Sars-CoV-2 no contexto da assistência odontológica é elevada. A esse respeito, marque V para as afirmativas verdadeiras e F para as falsas.

( ) Alguns equipamentos rotatórios geram aerossóis e gotículas muito pequenas que permanecem suspensas no ar por períodos mais longos e colaboram com a disseminação da carga viral no ambiente.

( ) As medidas a serem tomadas na atenção odontológica em razão da pandemia envolvem não somente o reforço a todos os protocolos de biossegurança como também a redução do número de consultas e otimização do tempo clínico.

( ) Fazem parte das condições e fatores de risco às formas graves da doença identificados pelo Ministério da Saúde tabagismo, obesidade, miocardiopatias de diferentes etiologias, hipertensão arterial e imunodepressão.

Assinale a sequência correta.

[A] V, F, F
[B] F, V, F
[C] F, F, V
[D] V, V, F
[E] V, V, V

QUESTÃO 45

As imagens radiográficas, na prática odontológica, fornecem importantes informações sobre tecidos dentários e ósseos adjacentes, inacessíveis por meio de exames clínicos. Sobre o tema e considerando somente exames de Raios X, assinale a afirmativa correta.

[A] A radiografia panorâmica permite uma visão global de todas as estruturas com grandes detalhes e pouca distorção.
[B] A radiografia interproximal permite ao mesmo tempo o registro radiográfico das coroas dos dentes posteriores, superiores e inferiores.
[C] A radiografia panorâmica não é indicada para pacientes com pouca abertura bucal.
[D] A radiografia periapical da bissetriz em dentes posteriores possui menor distorção para verificação de altura de crista óssea alveolar.
[E] As lesões do periápice dental são melhor observadas na radiografia panorâmica.

QUESTÃO 46

A duração da ação anestésica é influenciada por vários fatores. A respeito da duração da ação da anestesia clínica em Odontologia, marque V para as afirmativas verdadeiras e F para as falsas.

( ) O aumento da vascularização na região de deposição do anestésico resulta em absorção mais lenta do anestésico local e duração maior da anestesia.

( ) A injeção intrapulpar deve ser usada com cautela, porque nessa técnica anestésica a absorção cardiovascular do anestésico local é mais rápida do que em outras técnicas.

( ) Inflamação, infecção ou dor no local de deposição da substância anestésica reduzem a profundidade e a duração esperada da anestesia.

( ) A raiz palatina dos molares superiores pode não ser adequadamente anestesiada, mesmo na presença de osso alveolar de espessura normal, quando essa raiz se inclina acentuadamente em direção à linha média do palato.

Assinale a sequência correta.

[A] V, F, F, V
[B] V, V, V, F
[C] F, V, F, F
[D] F, F, V, V
[E] F, V, V, V

QUESTÃO 47

Com a introdução da Odontologia Preventiva, a redução no número de perdas dentais e a consolidação dos implantes dentários, a demanda por próteses parciais removíveis diminuiu, porém em alguns casos ela ainda é uma alternativa viável, seja por questões biológicas, técnicas ou financeiras. Sobre nichos feitos em dentes pilares para próteses parciais removíveis, marque V para as afirmativas verdadeiras e F para as falsas.

( ) Os nichos devem ter ângulos internos arredondados e profundidade de 3,5 mm para que possam acomodar adequadamente o apoio metálico e impedir a rotação da prótese.

( ) Os nichos não devem ser feitos sobre o esmalte dental sadio, porque a exposição da dentina deixa o dente suscetível à cárie.

( ) Nichos são fundamentais para que os apoios transmitam corretamente as forças mastigatórias para os dentes pilares (longo eixo), prevenindo a incidência de resultantes laterais nocivas aos tecidos de sustentação periodontal.

( ) São feitos para proporcionar espaço suficiente para que apoios oclusais posteriores não atuem como contatos prematuros ou interferências oclusais nocivas aos dentes antagonistas.

Assinale a sequência correta.

[A] F, F, V, V
[B] V, V, V, F
[C] F, V, F, F
[D] V, F, F, V
[E] F, V, V, V

QUESTÃO 48

O capítulo XVI do Código de Ética trata do anúncio, propaganda e publicidades em odontologia. **NÃO** é considerada infração ética:

[A] Fazer publicidade e propaganda enganosa, abusiva, inclusive com expressões ou imagens de antes e depois, com preços, serviços gratuitos, modalidades de pagamento.
[B] Oferecer trabalho gratuito com intenção de autopromoção ou promover campanhas em troca de favores.
[C] Anunciar serviços profissionais como prêmio em concurso de qualquer natureza ou através de aquisição de outros bens pela utilização de serviços prestados.
[D] Criticar técnicas utilizadas por outros profissionais como sendo inadequadas ou ultrapassadas.
[E] Anunciar mais de duas especialidades registradas no Conselho.

QUESTÃO 49

O sistema mastigatório é considerado uma unidade funcional do corpo responsável pela mastigação, fala e deglutição, além do auxílio no paladar e respiração. Sobre os componentes anatômicos do sistema mastigatório e suas funções, numere a coluna da direita de acordo com a da esquerda.

1. Mandíbula
2. Eminência articular
3. Maxila
4. Articulação temporomandibular

( ) Proeminência óssea convexa, com grau de convexidade variável. Sua superfície determina a trajetória do côndilo quando a mandíbula está posicionada anteriormente.

( ) Não apresenta ligação óssea com o crânio e é sustentada pelos músculos, ligamentos e tecidos moles.

( ) Classificada como uma articulação ginglimoartrodial, composta e sinovial, formada pelo côndilo mandibular dentro da fossa mandibular do osso temporal.

( ) Considerado componente fixo do sistema mastigatório pelos ossos estarem intricadamente fusionados aos componentes que envolvem o crânio, é responsável por formar assoalho da cavidade nasal e da órbita, palato e rebordo alveolar.

Assinale a sequência correta.

[A] 1, 3, 4, 2
[B] 2, 1, 4, 3
[C] 2, 3, 1, 4
[D] 4, 2, 3, 1
[E] 2, 1, 3, 4

QUESTÃO 50

Qual é a característica anatômica da coroa do primeiro molar superior?

[A] Maior dente da boca.
[B] Cúspide VM e PM com mesmo volume.
[C] Possui 05 cúspides.
[D] Face Palatina é menor que a vestibular.
[E] Ponte de esmalte ligando cúspide MP a DV.

QUESTÃO 51

A ocorrência de traumatismo dentário é frequente em crianças e adolescentes. É primordial uma conduta célere para um melhor prognóstico. Sobre esse tipo de urgência, marque V para as afirmativas verdadeiras e F para as falsas.

( ) Fratura em esmalte é a perda parcial de esmalte. O fragmento deve ser armazenado em soro fisiológico para colagem (técnica de baixo custo e de resultados estéticos satisfatórios). Também pode ser feita a restauração convencional.

( ) Fratura coronária envolvendo esmalte, dentina e polpa: O atendimento de urgência deve ocorrer em até três horas após o trauma, com intervenções menos invasivas e melhor prognóstico.

( ) Fratura de coroa e raiz é a fratura de esmalte, dentina, cemento e polpa, podendo ocorrer tanto no sentido vertical como horizontal com presença de mobilidade. Se a fratura for no sentido vertical, pode-se manter o elemento radicular por meio de técnicas de reposicionamento dental. Na fratura horizontal, o único tratamento é a extração do elemento dentário.

( ) Fratura da parede e do processo alveolar atinge a parede óssea do alvéolo, envolvendo ou não o elemento dental. Deve-se realizar o reposicionamento do fragmento e contenção rígida ou semirrígida por quatro semanas. Há necessidade de acompanhamento odontológico depois de quatro, oito, 24 semanas a um ano.

Assinale a sequência correta.

[A] V, F, F, V
[B] V, V, V, V
[C] F, F, F, F
[D] F, V, V, F

[E] V, V, F, V

QUESTÃO 52

Para posicionar os modelos de diagnóstico e trabalho na odontologia, utilizam-se os articuladores, que têm como objetivos principais registrar

[A] a relação mandibular (dimensão transversal) e reproduzir os movimentos mandibulares, de acordo com os registros do articulador.

[B] as relações intermaxilares (dimensão horizontal e vertical) e reproduzir os movimentos mandibulares, de acordo com os registros do articulador.

[C] a relação maxilar (dimensão vertical de oclusão e relação central) e reproduzir os movimentos mandibulares, de acordo com os registros do articulador.

[D] as relações intermaxilares (dimensão vertical de oclusão e relação central) e reproduzir os movimentos mandibulares, de acordo com os registros obtidos no paciente.

[E] as relações intermaxilares (dimensão transversal) e reproduzir os movimentos mandibulares, de acordo com os registros obtidos no paciente.

QUESTÃO 53

Em 29 de janeiro de 2019, o Conselho Federal de Odontologia (CFO) editou e publicou a resolução 196/2019. Essa resolução traz em seu título o assunto:

"Autoriza a divulgação de autorretratos (selfie) e de imagens relativas ao diagnóstico e ao resultado final de tratamentos odontológicos, e dá outras providências".

Sobre o assunto, marque V para as afirmativas verdadeiras e F para as falsas.

( ) Fica autorizada a divulgação de autorretratos (selfies) de cirurgiões-dentistas, acompanhados de pacientes ou não, desde que com autorização prévia do paciente ou de seu representante legal, através de Termo de Consentimento Livre e Esclarecido.

( ) Fica autorizada a divulgação de antes, durante e depois dos procedimentos realizados.

( ) É permitido utilizar imagens ou vídeos de cursos nas redes sociais (bastidores, ambiente clínico, procedimentos, tratamentos).

( ) Em todas as publicações de imagens e/ou vídeos, deverão constar o nome do profissional e o seu número de inscrição, sendo vedada a divulgação de casos clínicos de autoria de terceiros.

Assinale a sequência correta.

[A] V, F, F, V

[B] V, V, V, V

[C] F, F, F, F

[D] F, V, V, F

[E] V, V, F, F

QUESTÃO 54

Homem de 48 anos de idade queixa-se de dor no dente 27, ao morder. O paciente relata ter realizado um procedimento no dente há uma semana. Ao exame clínico, observa-se restauração no referido dente com contato prematuro. Os testes térmicos mostram respostas positivas (normais) e a dor é provocada quando se realiza a percussão vertical. O tratamento indicado para esse caso é:

[A] Instrumentação dos canais radiculares e medicação intracanal.

[B] Terapia antibiótica e proservação.

[C] Ajuste da oclusão e acompanhamento.

[D] Apicectomia e proservação.

[E] Pulpectomia e restauração definitiva.

QUESTÃO 55

A confecção de próteses parciais removíveis (PPR) constitui importante ferramenta para reabilitação oral. Para esse passo, é fundamental o uso de delineador. Qual a função primária de um delineamento?

[A] Limitar a movimentação dos apoios.

[B] Preparar áreas planificadas.

[C] Planificar as modificações das estruturas orais necessárias para fabricação das PPR.

[D] Distribuir as forças inseridas.

[E] Tornar convergentes apoios internos e retentores.

QUESTÃO 56

Um homem de 22 anos de idade procurou o cirurgião-dentista para a realização de exodontia do dente 26. Para tal procedimento, foi anteriormente feito um Raio-X da região, que constatou a necessidade real da exodontia e a proximidade das raízes com o seio maxilar. Após a extração, o cirurgião-dentista executou uma manobra fundamental e percebeu que, ao realizar a pressão nasal, o ar da cavidade produzia bolhas e vapores na aproximação do espelho clínico junto ao alvéolo. No caso apresentado, o diagnóstico, a conduta de tratamento e os cuidados pós-operatórios são, respectivamente:

[A] Realização de manobra de Valsalva; osteomielite; tratamento imediato do alvéolo com curetagem e estímulo de formação de coágulo, e realização de sutura em X; prescrição de analgésico e antibioticoterapia de amplo espectro, uso tópico de descongestionante nasal, recomendação ao paciente que evite assoar o nariz, faça higiene bucal e evite pressão negativa, e reavaliação da cavidade.

[B] Realização de manobra de Chompret; osteomielite; tratamento imediato do alvéolo com curetagem e estímulo de formação de coágulo, e realização de sutura oclusiva, com o máximo de aproximação de bordas; prescrição de analgésico e antibioticoterapia de amplo espectro, uso tópico de descongestionante nasal, recomendação ao paciente que evite assoar o nariz, faça higiene bucal e evite pressão negativa, e reavaliação da cavidade.

[C] Realização de manobra de Valsalva; comunicação bucossinusal; tratamento imediato do alvéolo com curetagem e estímulo de formação de coágulo, e realização de sutura em X; prescrição de analgésico e anti-inflamatório, uso tópico de descongestionante nasal, recomendação ao paciente que evite assoar o nariz, faça higiene bucal e pressão negativa, e reavaliação da cavidade.

[D] Realização de manobra de Chompret; comunicação bucossinusal; tratamento imediato do alvéolo com curetagem e estímulo de formação de coágulo, e realização de sutura oclusiva, com o máximo de aproximação de bordas; prescrição de analgésico e anti-inflamatório, uso tópico de descongestionante nasal, recomendação ao paciente que evite assoar o nariz, faça higiene bucal e evite pressão negativa, e reavaliação da cavidade.

[E] Realização de manobra de Valsalva; comunicação bucossinusal; tratamento imediato do alvéolo com curetagem e estímulo de formação de coágulo, e realização de sutura oclusiva, com o máximo de aproximação de bordas; prescrição de analgésico e antibioticoterapia de amplo espectro, uso tópico de descongestionante nasal, recomendação ao paciente que faça higiene bucal, evite assoar o nariz e pressão negativa, e reavaliação da cavidade.

QUESTÃO 57

Para atendimento odontológico em pacientes portadores de distúrbios cardíacos, deve-se respeitar o manejo clínico diferencial. Sobre o assunto, analise as afirmativas.

I- O controle da ansiedade pode ser realizado por via oral, por exemplo, com a administração de benzodiazepínicos de ação curta.

II- A administração de anestésicos associados a vasoconstritores adrenérgicos é indicada em pacientes com histórico de infarto agudo do miocárdio há menos de dois meses.

III- A prilocaína, utilizada como solução anestésica, promove analgesia e controle eficaz da hemorragia, mas é contraindicada para pacientes hipertensos, mesmo em doses pequenas.

IV- A quantidade de epinefrina e norepinefrina liberada endogenamente no caso de paciente estressado por um efeito anestésico insuficiente é significativamente maior que a concentração existente nos anestésicos em tubetes com epinefrina 1:100 000.

Está correto o que se afirma em

[A] I, III e IV, apenas.

[B] I e II, apenas.

[C] II e III, apenas.

[D] I e IV, apenas.

[E] II, III e IV, apenas.

QUESTÃO 58

A bulimia é uma síndrome caracterizada por padrão de hiperfagia seguida por condutas compensatórias inapropriadas para evitar o ganho de peso, como a regurgitação autoinduzida, o uso abusivo de laxantes, diuréticos, anorexígenos, dietas severas e prática excessiva de exercícios físicos. A partir dessa definição de bulimia, analise as afirmativas.

I- A neutralização dos ácidos gástricos imediatamente após o vômito, com a utilização de antiácidos, é medida preventiva eficaz que minimiza perdas estruturais nos dentes.

II- Os índices de cárie em pacientes bulímicos são diretamente associados à frequência de vômitos, a despeito do padrão da hiperfagia e da presença de xerostomia.

III- O tratamento odontológico de pacientes com desordens alimentares é, muitas vezes, iniciado tardiamente, e, mesmo após a cura/controle da desordem alimentar, a perda de estrutura dental é irreversível.

Está correto o que se afirma em

[A] I e III, apenas.
[B] III, apenas.
[C] I e II, apenas.
[D] II, apenas.
[E] I, II e III.

QUESTÃO 59

Paciente adulta jovem buscou UBS apresentando lesões nos lábios, fratura da coroa do dente 21 com exposição pulpar, escoriações, arranhões e edemas nos membros superiores e inferiores. Sobre a conduta correta que o cirurgião-dentista deve desempenhar, analise as afirmativas.

I- Realizar imediatamente a restauração do dente 21.

II- Realizar exames físicos intra e extrabucais e radiográfico.

III- Indagar sobre a história do trauma, buscando elementos que possam caracterizar sua causa.

IV- Indicar que a paciente procure a assistente social da unidade, caso suspeite de violência doméstica.

Está correto o que se afirma em

[A] I e IV, apenas.
[B] II e III, apenas.
[C] I e II, apenas.
[D] I, III e IV, apenas.
[E] II, III e IV, apenas.

QUESTÃO 60

A respeito de medicamentos anti-inflamatórios, analise as afirmativas.

I- Anti-inflamatórios esteroidais são também chamados de corticosteroides e inibem a ação da enzima fosfolipase A2, o que resulta em redução da expressão de prostaglandinas e proteínas ligadas ao processo inflamatório.

II- Anti-inflamatórios não esteroidais inibem a enzima ciclo-oxigenase relacionada à formação de prostaglandina e tromboxanos, substâncias com papel essencial no processo inflamatório e da dor.

III- Os anti-inflamatórios não esteroidais são contraindicados na insuficiência cardíaca grave, uma vez que podem afetar a função renal, provocando retenção de água e sal.

Está correto o que se afirma em

[A] I e II, apenas.
[B] II, apenas.
[C] I e III, apenas.
[D] I, II e III.
[E] III, apenas.

REDAÇÃO

Instrução: Leia atentamente os textos de apoio.

Qualquer experiência que envolva fãs e devotos com intensa paixão e emoção está a um passo do fanatismo. O termo *fanatismo*, do latim *fanaticus***,** "o que pertence a um templo (fanum)", foi utilizado a partir do século XVIII para se referir a pessoas que seriam partidárias extremistas, exaltadas e acríticas de uma causa religiosa ou política. O grande perigo do fanatismo consiste na certeza absoluta e incontestável que o devoto tem a respeito de suas verdades. Detentor de uma certeza que lhe foi revelada por uma divindade ou por um líder (portanto, não uma verdade qualquer, mas A verdade), o fanático não age com a razão quando defrontado com posições diferentes ou questionamentos daquilo que defende. São características do fanatismo a irracionalidade, o autoritarismo e o agir passional, frequentemente agressivo.

(CUNHA, Magali. Disponível em: https://www.cartacapital.com.br/blogs/dialogos-da-fe/ha-alguma-coisa-boa-no-fanatismo/. Acesso em 10/12/2021.)

O significado mais comum do conceito de fanatismo diz respeito a um excesso de admiração ou zelo cego e veemente em relação a alguma coisa, é um sentimento de cuidado excessivo que não raramente produz desprezo e intolerância para com qualquer elemento diferente em qualquer campo ou domínio a que esteja associado. A forma de fanatismo que mais frequentemente vem à mente de quem ouve esta expressão é o fanatismo religioso, que pode ser verificado tanto na história do cristianismo no ocidente quanto nas guerras provocadas por diversos grupos radicais muçulmanos no Oriente Médio durante os séculos XX e XXI, por exemplo.

Outra forma de fanatismo, no entanto, veio à luz ainda no início do século XX e demonstrou ser tão perigosa e resistente quanto o fanatismo religioso, perdurando até o presente século: o fanatismo político. Nele, em nome da adesão a um partido, uma ideologia ou um movimento político, abolem-se os limites humanos na política enquanto divinizam-se tanto certas concepções políticas quanto os indivíduos que as encarnam. Nesse sentido, o fanatismo político acaba por assemelhar-se ao fanatismo religioso, onde a ideologia ou o indivíduo que a encarna assumem o lugar de Deus, detentor da verdade absoluta.

(SCHNAELTER, Matheus Maia. Disponível em: https://www.infoescola.com/comportamento/fanatismo/. Acesso em: 13/12/2021.)

E torcer no futebol surge como o mais novo fundamento para atitudes antissociais e violências, não só contra simpatizantes dos times "inimigos", mas também contra determinados grupos étnicos, mulheres, homossexuais e migrantes. Os hooligans e os membros das torcidas organizadas no Brasil são evidentemente sujeitos fanáticos.

Num tempo de perplexidade, em que olhamos para as conquistas da humanidade, por um lado, mas vemos, por outro, os homens exibindo sua face mais cruel, é muito importante analisar as várias das diversas faces que o fanatismo adquiriu ao longo do tempo e em contextos distintos. Numa época de homens-bomba, atentados terroristas, manifestações racistas, ações extremistas, pensar o fanatismo é atual, relevante e urgente.

(PINSKY, Jaime e BASSANEZI, Carla. Disponível em: https://www.tribunapr.com.br/blogs/opiniao/o-fanatismo-na-historia/. Acesso em: 14/12/2021.)

PROPOSTA DE REDAÇÃO

Os estudiosos costumam apontar quatro principais justificativas ideológicas adotadas por fanáticos: as religiosas, as racistas, as políticas e as esportivas. Escolha um desses tipos de fanatismo e produza um texto dissertativo-argumentativo, discutindo, também com exemplos, a questão: Como não se influenciar pelo fanatismo?

Lembre-se de que clareza, coesão, coerência e correção gramatical devem estar presentes em seu texto.

Atenção: Não assine seu texto.

PÁGINA DE RASCUNHO

01
02
03
04
05
06
07
08
09
10
11
12
13
14
15
16
17
18
19
20
21
22
23
24
25
26
27
28
29
30

POLÍCIA MILITAR DO ESTADO DE MATO GROSSO

CONCURSO PÚBLICO PARA FORMAÇÃO DE CADASTRO DE RESERVA PARA O CARGO DE ALUNO-A-OFICIAL DA POLÍCIA MILITAR DO QUADRO DE SAÚDE DO ESTADO DE MATO GROSSO

FOLHA DE ANOTAÇÃO DO CANDIDATO

Questão	Alternativa	Questão	Alternativa	Questão	Alternativa
01		21		41	
02		22		42	
03		23		43	
04		24		44	
05		25		45	
06		26		46	
07		27		47	
08		28		48	
09		29		49	
10		30		50	
11		31		51	
12		32		52	
13		33		53	
14		34		54	
15		35		55	
16		36		56	
17		37		57	
18		38		58	
19		39		59	
20		40		60	

Esta folha é destinada para uso EXCLUSIVO do candidato.