METROCAPITAL
Soluções

PREFEITURA MUNICIPAL DE NOVA ODESSA/SP

CONCURSO PÚBLICO 01/2023

ENFERMEIRO SOCORRISTA

CADERNO DE QUESTÕES

PROVA OBJETIVA

Leia atentamente as instruções abaixo

1. PROVA E FOLHA DE RESPOSTAS

Além deste Caderno de Prova, contendo 50 (cinquenta) questões objetivas, você receberá do Fiscal de Sala:

- 01 (uma) Folha de Respostas destinada às respostas das questões objetivas. Confira se seus dados estão corretos.

2. TEMPO

- 03 (três) horas é o tempo disponível para realização da prova, já incluído o tempo para marcação da Folha de Respostas da prova objetiva;

- **01 (uma) hora** após o início da prova é possível, retirar-se da sala levando o caderno de prova;

3. INFORMAÇÕES GERAIS

- As questões objetivas têm 05 (cinco) alternativas de resposta (A, B, C, D, E) e somente **uma** delas está correta;

- Verifique se seu caderno está completo, sem repetição de questões ou falhas. Caso contrário, informe imediatamente o Fiscal da Sala, para que sejam tomadas as devidas providências;

- Confira seus dados pessoais na Folha de Respostas, especialmente nome, número de inscrição e documento de identidade e leia atentamente as instruções para preenchimento;

- O preenchimento das respostas da prova objetiva é de sua responsabilidade e não será permitida a troca de Folha de Respostas em caso de erro de marcação pelo candidato;

- Marque, na folha de respostas, com caneta de tinta azul ou preta, a letra correspondente à alternativa que você escolheu.

- Reserve tempo suficiente para o preenchimento de suas respostas. Para fins de avaliação, serão levadas em consideração apenas as marcações realizadas na Folha de Respostas da prova objetiva, não sendo permitido anotar informações relativas às respostas em qualquer outro meio que não seja o caderno de prova;

- Ao se retirar, entregue a Folha de Respostas preenchida e assinada ao Fiscal de Sala.

SERÁ ELIMINADO do presente certame o candidato que:

a) for surpreendido, durante as provas, em qualquer tipo de comunicação com outro candidato;

b) portar ou usar, qualquer tipo de aparelho eletrônico (calculadoras, bips/pagers, câmeras fotográficas, filmadoras, telefones celulares, smartphones, tablets, relógios, walkmans, MP3 players, fones de ouvido, agendas eletrônicas, notebooks, palmtops ou qualquer outro tipo de computador portátil, receptores ou gravadores) seja na sala de prova, sanitários, pátios ou qualquer outra dependência do local de prova;

c) se ausentar da sala em que se realizam as provas levando consigo o Caderno de Questões e/ou a Folha de Respostas;

d) se recusar a entregar a Folha de Respostas, quando terminar o tempo estabelecido;

e) não assinar a Lista de Presença e/ou a Folha de Respostas.

LÍNGUA PORTUGUESA
TEXTO

O ator

O homem chega em casa, abre a porta e é recebido pela mulher e os dois filhos, alegremente. Distribui beijos entre todos, pergunta o que há para jantar e dirige-se para o seu quarto. Vai tomar um banho, trocar de roupa e preparar-se para algumas horas de sossego na frente da televisão antes de dormir. Quando está abrindo a porta do seu quarto, ouve uma voz que grita: - Corta! O homem olha em volta, atônito. Descobre que sua casa não é uma casa, é um cenário. Vem alguém e tira o jornal e a pasta das suas mãos. Uma mulher vem ver se a sua maquiagem está bem e põe um pouco de pó no seu nariz. Aproxima-se um homem com um *script* na mão dizendo que ele errou uma das falas na hora de beijar as crianças.
- O que é isso? - pergunta o homem. - Quem são vocês? O que estão fazendo dentro da minha casa? Que luzes são essas?
- O que, enlouqueceu? - pergunta o diretor. - Vamos ter que repetir a cena. Eu sei que você está cansado, mas...
- Estou cansado, sim senhor. Quero tomar meu banho e botar meu pijama. Saiam da minha casa. Não sei quem são vocês, mas saiam todos! Saiam!
O diretor fica parado de boca aberta. Toda a equipe fica em silêncio, olhando para o ator. Finalmente o diretor levanta a mão e diz:
- Tudo bem, pessoal. Deve ser estafa. Vamos parar um pouquinho e...
- Estafa coisa nenhuma! Estou na minha casa, com a minha... A minha família! O que vocês fizeram com ela? Minha mulher! Os meus filhos!
O homem sai correndo entre os fios e os refletores, à procura da família. O diretor e um assistente tentam segurá-lo. E então ouve-se uma voz que grita: - Corta! Aproxima-se outro homem com um *script* na mão. Descobre que o cenário, na verdade, é um cenário. O homem com um *script* na mão diz:
- Está bom, mas acho que você precisa ser mais convincente.
- Que-quem é você?
- Como, quem sou eu? Eu sou o diretor. Vamos refazer esta cena. Você tem que transmitir melhor o desespero do personagem. Ele chega em casa e descobre que sua casa não é uma casa, é um cenário. Descobre que está no meio de um filme. Não entende nada.
- Eu não entendo...
- Fica desconcertado. Não sabe se enlouqueceu ou não.
- Eu devo estar louco. Isto não pode estar acontecendo. Onde está minha mulher? Os meus filhos? A minha casa?
- Assim está melhor. Mas espere até começarmos a rodar. Volte para a sua marca. Atenção, luzes...
- Mas que marca? Eu não sou personagem nenhum. Eu sou eu! Ninguém me dirige. Eu estou na minha própria casa, dizendo as minhas próprias falas...
- Boa, boa. Você está fugindo um pouco do *script*, mas está bom.
- Que *script*? Não tem *script* nenhum. Eu digo o que quiser. Isto não é um filme. E mais, se é um filme, é uma porcaria de filme. Isto é simbolismo, ultrapassado. Essa de que o mundo é um palco, que tudo foi predeterminado, que não somos mais do que atores... Porcaria!
- Boa, boa. Está convincente. Mas espere começar a filmar. Atenção...
O homem agarra o diretor pela frente da camisa.
- Você não vai filmar nada! Está ouvindo? Nada! Saia da minha casa.
O diretor tenta livrar-se. Os dois rolam pelo chão. Nisto ouve-se uma voz que grita:
- Corta!

Luís Fernando Veríssimo

QUESTÃO 01

O humor no texto 'O ator', de Luís Fernando Veríssimo, é provocado:

(A) pela repetição de uma situação inacreditável que envolve o personagem principal.

(B) por brigas em um set de filmagem entre o diretor e um ator.

(C) pela atitude da equipe do *set* de filmagem.

(D) por um *script* mal feito.

(E) pela atuação ruim do personagem principal no filme.

QUESTÃO 02

Considere o trecho: "O diretor e um assistente tentam segurá-lo." O pronome 'lo', em 'segurá-lo', se refere:

(A) aos fios.

(B) aos refletores.

(C) ao homem que sai correndo.

(D) ao homem com um script na mão.

(E) ao cenário.

QUESTÃO 03

É sinônimo da palavra ‘estafa’:

(A) estufa.

(B) animação.

(C) fadiga.

(D) pressa.

(E) raiva.

QUESTÃO 04

Considere o trecho: "O homem olha em volta, atônito. Descobre que sua casa não é uma casa, é um cenário. Vem alguém e tira o jornal e a pasta das suas mãos. Uma mulher vem ver se a sua maquiagem está bem e põe um pouco de pó no seu nariz." Os pronomes possessivos em "sua maquiagem" e "seu nariz":

(A) indicam uma posse do homem e uma da mulher, respectivamente.

(B) são ambíguos, mas a ambiguidade é resolvida pelo contexto.

(C) são ambíguos, e não é possível saber a quem se referem.

(D) indicam posses de um referente diferente daquele de "sua casa" e "suas mãos".

(E) indicam uma posse da mulher e uma do homem, respectivamente.

QUESTÃO 05

No trecho ”Finalmente o diretor levanta a mão e diz: – Tudo bem, pessoal. Deve ser estafa”, a palavra “pessoal”, separada por vírgula do restante da frase, corresponde a um:

(A) adjunto adverbial.

(B) adjunto adnominal.

(C) sujeito expletivo.

(D) vocativo.

(E) agente da passiva.

QUESTÃO 06

Considere a seguinte sentença: “Não sabe se enlouqueceu ou não.”

Em relação à classe gramatical, as palavras "não", "se" e "ou" são, respectivamente:

(A) substantivo, conjunção, conjunção.

(B) advérbio, preposição, conjunção.

(C) advérbio, conjunção, preposição.

(D) advérbio, conjunção, conjunção.

(E) substantivo, preposição, preposição.

QUESTÃO 07

Observe as seguintes sentenças:

I. Eles se beijaram.

II. Mário suicidou-se.

III. Vende-se carro.

A palavra ‘se’ em cada uma das sentenças dadas é, respectivamente:

(A) I. pronome reflexivo; II. partícula integrante de verbo pronominal; III. partícula apassivadora.

(B) I. pronome reflexivo; II. pronome reflexivo; III. partícula apassivadora.

(C) I. conjunção; II. partícula integrante de verbo pronominal; III. partícula expletiva.

(D) I. partícula expletiva; II. partícula expletiva; III. partícula integrante de verbo pronominal.

(E) I. partícula apassivadora; II. partícula apassivadora; III. pronome reflexivo.

QUESTÃO 08

Considere o seguinte excerto:

"_ reuniões ocorriam sempre _ segundas-feiras. Maria não sabia o que fazer. Estava doente _ semanas e precisava trabalhar. Dia após dia, a situação se tornava ainda pior. Ela queria voltar _ vida normal."

Assinale a alternativa que preenche as lacunas corretamente.

(A) As; as; há; à.

(B) Às; às; a; à.

(C) As; as; a; a.

(D) Às; às; há; a.

(E) As; às; há; à.

QUESTÃO 09

Assinale a alternativa em que a sentença está pontuada corretamente.

(A) A casa é muito muito grande.

(B) Ele era tímido, eu extrovertida.

(C) As coisas, porém não saíram como foram planejadas.

(D) As atividades foram realizadas no prazo, e serão entregues na próxima semana.

(E) A vizinhança está, desconfiada, segundo o ocorrido.

QUESTÃO 10

Considere as seguintes sentenças:

I. Se ao menos ele tivesse dinheiro…

II. Queria saber se Maria foi à festa no fim de semana.

III. Lamento se o entristeci.

A palavra 'se' em cada uma das sentenças dadas é, respectivamente:

(A) I. conjunção condicional; II. conjunção integrante; III. conjunção condicional.

(B) I. conjunção condicional; II. conjunção integrante. III. conjunção integrante.

(C) I. conjunção integrante; II. conjunção integrante; III. conjunção integrante.

(D) I. conjunção integrante; II. conjunção condicional; III. conjunção condicional.

(E) I. conjunção condicional; II. conjunção condicional; III. conjunção condicional.

MATEMÁTICA E RACIOCÍNIO LÓGICO

QUESTÃO 11

Em relação aos conjuntos numéricos, o conjunto dos números reais, denotado por R pode ser definido como sendo a união entre os conjuntos dos números naturais, inteiros, racionais e irracionais. Ao comparar dois conjuntos, podemos nos deparar com diversas relações.

I - $\mathbb{Q} \subset \mathbb{R}$

II - $(\mathbb{N} \cup \mathbb{Q}) \supset \mathbb{R}$

III - $\mathbb{R} = \mathbb{Z} \cap I$

IV - $\mathbb{R} = \mathbb{Q} \cup I$

Sobre as notações acima é correto que:

(A) I e II são verdadeiras.

(B) I e IV sao falsas.

(C) Apenas IV é verdadeira.

(D) Apenas I é verdadeira.

(E) II e III são falsas.

QUESTÃO 12

Duas ou mais figuras são consideradas semelhantes quando existe proporção entre as medidas dos seus lados. Considere então dois retângulos semelhantes com as seguintes dimensões: (Figura 1: Largura 4,8cm e comprimento 7,2cm), (Figura 2: Largura 10,56cm e comprimento **x**cm). A medida x em metros é:

Figura 1

Figura 2

(A) 0,1672

(B) 0,1598

(C) 0,1584

(D) 0,1436

(E) 0,1328

QUESTÃO 13

Antônio tem certo apreço por jogos de vídeo game. Sua mãe permite que jogue todos os dias depois do colégio, ou seja, das 13h às 18h, aos fins de semana ele joga em um horário diferente, das 08h às 12h. A mãe de Antônio, intrigada quis saber quantas horas em média ele passa diariamente jogando vídeo game, logo chegou a conclusão que essa média M está no seguinte intervalo:

(A) $2h < M < 3h$

(B) $3h < M < 4h$

(C) $4h < M < 5h$

(D) $5h < M < 6h$

(E) $7h < M < 8h$

QUESTÃO 14

Para realizar um serviço 3 operários foram contratados e entregaram a obra em um prazo de 5 dias, trabalhando 8 horas por dia. Se a quantidade de operários fosse aumentada para 7, trabalhando 5 horas por dia, a quantidade de horas trabalhadas ao término do serviço seria aproximadamente:

(A) 7h

(B) 12h

(C) 17h

(C) 22h

(D) 27h

QUESTÃO 15

Em uma situação de empréstimo a juros simples um capital de R$ 30.000,00 com uma taxa de 2,3% a.m. gerou um montante de R$ 54.840,00. Nessas condições o período dessa transação foi de:

(A) Mais de 4 semestres.

(B) Mais de 6 semestres.

(C) Mais de 8 semestres.

(D) Mais de 9 semestres.

(E) Mais de 10 semestres.

QUESTÃO 16

No sistema de coordenadas abaixo estão representadas as retas g e f. Essas retas definem de forma gráfica um sistema linear, e de acordo com as classificações desses sistemas quanto ao número de soluções podemos classificá-lo como:

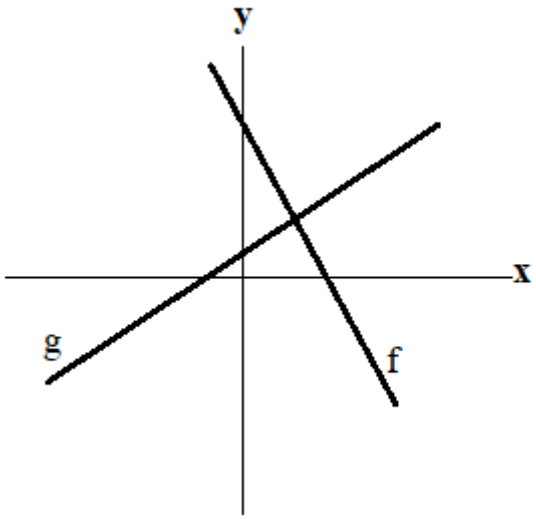

(A) SPI (Sistema possível e indeterminado).

(B) SC (Sistema coincidente).

(C) SI (Sistema impossível).

(D) SPD (Sistema possível e determinado).

(E) SO (Sistema oblíquo).

QUESTÃO 17

Sobre o sólido abaixo sabe-se que seu volume é igual a 540 cm³ e que o diâmetro da base vale 12 cm. Logo a altura do sólido vale:

(Considere $\pi = 3$)

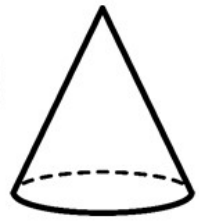

(A) 9 cm

(B) 11 cm

(C) 13 cm

(D) 15 cm

(E) 17 cm

QUESTÃO 18

Juliana pretende diminuir seus gastos mensais em 20% devido a um planejamento futuro onde precisará de parte de seu ordenado. Suas despesas são controladas, de forma que é possível ver o gráfico que as representa mês a mês.

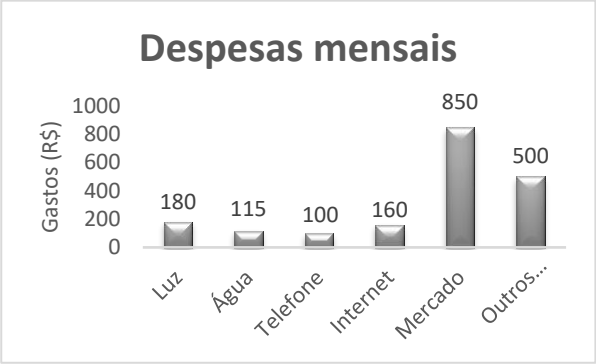

Para conseguir atingir seu objetivo a despesa mensal deverá estar próxima de:

(A) R$ 1.520,00

(B) R$ 1.525,00

(C) R$ 1.530,00

(D) R$ 1.535,00

(E) R$ 1.540,00

QUESTÃO 19

No esquema abaixo temos a representação de dois sólidos geométricos, um prisma reto de base quadrada e um cilindro, cujas medidas estão indicadas em centímetros.

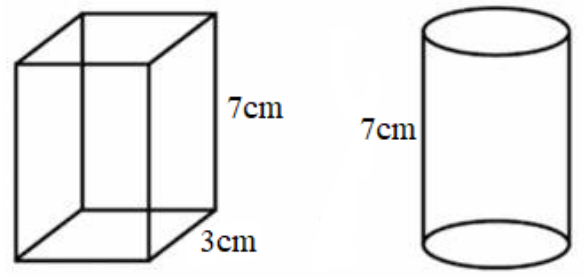

Sabendo que o volume dos dois sólidos são iguais, e adotando a medida de $\pi = 3$ a medida do diâmetro do cilindro é:

(A) 3,5 cm

(B) $\sqrt{3}$ cm

(C) $2 + \sqrt{3}$ cm

(D) $2\sqrt{3}$ cm

(E) $2 - \sqrt{3}$cm

QUESTÃO 20

O fornecimento de água aos funcionários em uma empresa é feito de forma usual, ou seja, em galões de 20 litros acoplados a um bebedouro. Visando a economia em gastos na empresa, a equipe administrativa resolveu avaliar a quantidade de água consumida, e para base de cálculo foi usado o copo de 300 ml. A intenção inicial era descobrir a porcentagem de água consumida em relação ao total fornecido mensalmente, mas para isso era preciso saber quanto um copo representava em relação a um galão de água. Logo a porcentagem do copo encontrada foi de:

(A) 0,015 %

(B) 0,15 %

(C) 1 %

(D) 1,5 %

(E) 15 %

NOÇÕES DE INFORMÁTICA
QUESTÃO 21

Sobre o MS Windows 7, assinale a alternativa que apresenta uma sequência correta de comandos para excluir um arquivo.

(A) Selecione o arquivo > pressione “F8”

(B) Selecione o arquivo > pressione “Shift”

(C) Selecione o arquivo > pressione “Delete”

(D) Selecione o arquivo > pressione “Tab”

(E) Selecione o arquivo > pressione “Alt Gr”

QUESTÃO 22

Sobre o MS PowerPoint 2010, considere os itens a seguir:

I – Na guia “Revisão” não é possível verificar anotações e comentários feitos na apresentação, além de verificar a ortografia da apresentação.

II – Não é possível inserir “Clip-Art” no MS PowerPoint 2010.

III – É possível inserir formas ou imagens através da ferramenta “SmartArt” no MS PowerPoint 2010.

IV – Através do slide mestre é possível alterar o estilo e formatação de todos os demais slides da apresentação de uma só vez.

V – O recurso “Testar Intervalos” se encontra na guia “Apresentação de Slides”, no conjunto “Configurar”.

Assinale a alternativa que apresenta apenas os itens **VERDADEIROS**.

(A) Apenas os itens I, III e IV são verdadeiros.

(B) Apenas os itens I, II, III e V são verdadeiros.

(C) Apenas os itens II, IV e V são verdadeiros.

(D) Apenas os itens III e V são verdadeiros.

(E) Apenas os itens IV e V são verdadeiros.

QUESTÃO 23

Sobre o MS Word 2016, assinale a alternativa que apresenta corretamente a combinação de teclas (atalho) utilizada para abrir a janela de configuração de impressão.

(A) Ctrl + P

(B) Alt + F4

(C) Ctrl + V

(D) Shift + P

(E) Alt + P

QUESTÃO 24

Sobre o MS Windows 7, considere os itens a seguir:

I – Os “Gadgets” no MS Windows 7 ficam presos na barra lateral não permitindo o usuário redimensionar ou movê-los.

II – A “Barra de Alternância de Tarefas” do MS Windows 7 não é interativa.

III – A “Central de Ações” do Windows 7 fornece alertas e notificações de segurança, manutenção e solução de problemas no MS Windows 7.

IV – O Microsoft Windows 7 reconhece o arquivo por sua extensão.

V – O “Bloco de Notas” é um aplicativo de criação, visualização e edição de texto simples.

Assinale a alternativa que apresenta apenas os itens **FALSOS**.

(A) Apenas os itens III e IV são falsos.

(B) Apenas os itens II, III e V são falsos.

(C) Apenas os itens II, IV e V são falsos.

(D) Apenas os itens I e II são falsos.

(E) Apenas os itens III e I são falsos.

QUESTÃO 25

Sobre o MS Windows 7, assinale a alternativa que apresenta uma sequência correta de comandos para desligar o computador.

(A) "Iniciar" > "Desligar" > "Ok".

(B) "Iniciar" > "Desligar" > "Reiniciar".

(C) "Iniciar" > "Desligar" > "Opções de Entrada".

(D) "Iniciar" > "Painel de Controle" > "Desligar".

(E) "Iniciar" > "Segurança" > "Desligar".

CONHECIMENTOS ESPECÍFICOS

QUESTÃO 26

Sobre o atendimento à emergência de infarto do miocárdio, assinale a alternativa correta.

(A) Os pacientes deverão permanecer em jejum nas primeiras 6 horas.

(B) A temperatura axilar deverá ser anotada uma vez ao dia.

(C) Na primeira hora, após a oclusão coronariana, todos os pacientes deverão apresentar sinais vitais normais.

(D) Após a admissão do paciente na Unidade de Terapia Intensiva (UTI), a frequência cardíaca deverá ser registrada a cada 12 horas.

(E) A pressão arterial, após a admissão do paciente na UTI, deverá ser anotada a cada 6 horas.

QUESTÃO 27

Sobre a insuficiência cardíaca congestiva (ICC), analise as afirmativas a seguir.

I. A maior parte dos pacientes portadores de ICC apresentam quadro de hipertensão arterial ou doença coronariana, como condição antecedente subjacente.

II. Embora, em geral, a saturação de oxigênio seja normal, ocorre cianose do tipo periférico.

III. Pacientes em repouso no leito devem receber tratamento especial para prevenção do tromboembolismo.

Está correto o que se afirma em:

(A) III, apenas.

(B) II e III, apenas.

(C) I, apenas.

(D) I, II e III.

(E) I e III, apenas.

QUESTÃO 28

P.S., 35 anos, ao retornar do trabalho, sofreu um acidente grave que o levou a um quadro de politraumatismo. Os socorristas foram acionados e, para a estabilização do paciente, adotaram o protocolo de atendimento recomendado pela ATLS (*Advanced Trauma Life Support*). Trata-se de uma metodologia (protocolo ABCDE) sequencial que auxilia os socorristas a priorizarem as intervenções necessárias para estabilizar um paciente em situação de trauma. Sobre o uso do protocolo ABCDE na avaliação primária do trauma, assinale a alternativa correta.

(A) "**B**" refere-se à avaliação e tratamento da circulação sanguínea.

(B) "**A**" corresponde à avaliação e manutenção das vias aéreas.

(C) "**E**" está relacionado à avaliação e correção da respiração.

(D) "**C**" trata-se da avaliação neurológica para detectar lesões cerebrais ou medulares.

(E) "**D**" exposição completa do paciente para detectar outras lesões ou condições que possam afetar o tratamento.

QUESTÃO 29

A hipertensão é a doença crônica mais comum no mundo. Em gestantes, o controle da hipertensão é essencial, pois na gravidez a pressão alta está relacionada ao risco de:

(A) Eclampsia.

(B) Arritmias fetal.

(C) Obesidade congênita.

(D) Câncer gestacional.

(E) Defeitos congênitos cardíacos.

QUESTÃO 30

Estão entre as principais manifestações de disfunção respiratória, EXCETO:

(A) Sinais de exaustão iminente.

(B) Sudorese.

(C) Prostração.

(D) Sibilos.

(E) Hipotireoidismo.

QUESTÃO 31

Um paciente de 28 anos foi admitido na sala de emergência após sofrer um acidente de bicicleta. Ele relatou ter perdido o controle e caído, batendo a cabeça no asfalto. Ao chegar à emergência, consciente, o paciente apresentava dor de cabeça intensa, náusea e vômitos. Durante o exame físico, foi constatado epistaxe unilateral de fluxo moderado. O termo epistaxe refere-se a:

(A) sangramento pelo nariz.

(B) sangramento pelo ouvido.

(C) sangramento pelos olhos.

(D) hematoma intenso na face.

(E) hemorragia cerebelar.

QUESTÃO 32

Com a queimadura, a pele atingida perde a sua função de barreira semipermeável as perdas de água por evaporação. Estas perdas podem ser desprezíveis em queimaduras menores, contudo, nas graves podem atingir até 200 ml/h. Segundo os protocolos de Suporte Avançado de Vida, a fórmula mais utilizada para a determinação do volume a ser administrado na reposição volêmica em 24 horas é nomeada Equação/Fórmula de:

(A) Harris-Benedict.

(B) Parkland.

(C) Cockcroft-Gault.

(D) Henderson-Hasselbalch.

(E) Friedewald.

QUESTÃO 33

Sobre o choque hipovolêmico, assinale a alternativa INCORRETA.

(A) No choque, é possível que a pressão arterial seja mantida pelo débito cardíaco e pela resistência vascular periférica.

(B) A taquicardia é uma resposta característica à redução do volume intravascular.

(C) Se a perda de sangue for lenta e gradual e se o paciente estiver deitado, nenhuma variação na frequência cardíaca será observada até a perda 4 litros de sangue (no adulto).

(D) Para a ressuscitação de um paciente em estado de choque hemorrágico, é importante o conhecimento da fisiologia normal e das respostas à perda sanguínea.

(E) Pacientes com hemorragias volumosas requerem rápida correção do déficit de volume para evitar quadros irreversíveis.

QUESTÃO 34

Pacientes que sofrem de doenças agudas que causam dispneia e hipoxemia necessitam de cuidados intensivos para tentar reverter o quadro, evitando assim a necessidade de intubação endotraqueal e ventilação mecânica. Sobre a monitoração e intervenções de enfermagem mais importantes no tratamento de pacientes com sinais de insuficiência respiratória, ainda não intubados, assinale a alternativa INCORRETA.

(A) Deve-se manter o paciente em posição supina, sem cabeceira elevada, para evitar a dispneia.

(B) Deve-se ensinar e encorajar respirações profundas e técnicas de tosse mais eficaz.

(C) O enfermeiro deve estar atento à piora da saturação em relação à concentração de oxigênio usada.

(D) A monitorização envolve observar o padrão e a frequência respiratória, além do desconforto respiratório do paciente.

(E) Deve-se manter equipamentos e drogas para intubação, aspirador e material de reanimação preparado.

QUESTÃO 35

A gasometria arterial é utilizada no diagnóstico de insuficiência respiratória, seja pela hipoxemia, caracterizada pela pressão parcial de oxigênio arterial (PaO_2) _____ ou pela retenção de CO_2 (_____), caracterizada pela pressão parcial de CO_2 arterial _____ .

As lacunas são corretamente e sequencialmente preenchidas por:

(A) abaixo de 40 mmHg; hiperpoxia; acima de 35 mmHg.

(B) acima de 45 mmHg; hiperxemia; abaixo de 45 mmHg.

(C) abaixo de 60 mmHg; hipercapnia; acima de 45 mmHg.

(D) abaixo de 35 mmHg; hipercapnia; acima de 75 mmHg.

(E) acima de 60 mmHg; hiperxemia; abaixo de 45 mmHg.

QUESTÃO 36

Após um acidente de carro, S. B., 32 anos, gestante, precisou passar por um parto de emergência. Após o nascimento, o recém-nascido foi monitorado intensivamente devido ao risco de dano neurológico. Para isso, cinco parâmetros (frequência cardíaca, esforço respiratório, tônus muscular, reatividade à aspiração e cor da pele) foram avaliados nos primeiros minutos de vida para atribuição do índice nomeado:

(A) Apgar.

(B) Barthel.

(C) Duke.

(D) Wells.

(E) Índice de Gravidade Simplificado APACHE (SAPS).

QUESTÃO 37

A Regra dos nove é amplamente utilizada por médicos e enfermeiros na avaliação de determinadas emergências. É correto afirmar que a Regra dos nove atua, principalmente, na avaliação do(a):

(A) segurança hospitalar.

(B) problema renal.

(C) extensão da queimadura.

(D) problema cardíaco.

(E) hemorragia interna.

QUESTÃO 38

P.S.S., 38 anos, no terceiro trimestre de gestação, deu entrada na emergência do hospital relatando que não sentia movimentos do bebê há mais de 48 horas. Após a análise médica e exames clínicos, foi constatada a morte fetal, provavelmente vinculada à gestação prolongada. Como conduta, P.S.S. decidiu pela indução do parto e misoprostol foi administrado. Considerando as informações fornecidas, assinale a alternativa INCORRETA.

(A) A forma de aplicação mais recomendada do misoprostol é por via vaginal.

(B) A sensibilidade uterina ao misoprostol reduz com a idade gestacional e, portanto, a dose deve ser maior quanto menos avançada a gestação.

(C) Não se deve utilizar ocitocina dentro das seis horas seguintes ao uso do misoprostol.

(D) Deve-se verificar a contagem de plaquetas e os fatores de coagulação antes da administração do misoprostol.

(E) Considerando o caso citado, na maior parte dos casos, a expulsão do feto ocorre nas primeiras 24 horas.

QUESTÃO 39

Na emergência do hospital foi admitida uma criança de 6 anos, acompanhada pelo responsável, vítima de acidente de que resultou em 16% do corpo queimado. No exame físico, foi constatada destruição da epiderme e parte da derme, com a formação de bolhas e exsudação. A superfície abaixo das bolhas era molhada, brilhante, avermelhada, com sensibilidade exagerada ao toque, exposição ao ar e a mudanças de temperatura. Durante o monitoramento da criança, percebeu-se a cura em 13 dias.

Considerando as informações apresentadas, é correto afirmar que esse paciente apresenta queimadura de:

(A) terceiro grau.

(B) quarto grau.

(C) primeiro grau.

(D) segundo grau.

(E) terceiro e quarto grau.

QUESTÃO 40

Um paciente de 45 anos de idade foi admitido na sala de emergência com sintomas de falta de ar, dor torácica e tosse seca há três dias. Ele não tinha histórico de doenças crônicas e não estava em uso de medicações. O enfermeiro responsável pelo atendimento avaliou o paciente e decidiu aplicar o _____ para determinar a probabilidade de tromboembolismo pulmonar. A partir das respostas do paciente e do valor obtido, o enfermeiro constatou risco de embolia pulmonar e contatou o médico imediatamente para confirmação de diagnóstico. A lacuna é corretamente preenchida por:

(A) Escore de Wells.

(B) Índice de Karnofsky.

(C) Índice de Charlson.

(D) Escore de Framingham.

(E) Escore de Glasgow.

QUESTÃO 41

Certo paciente, com insuficiência respiratória aguda grave, com suplementação de oxigênio (Fração Inspirada de Oxigênio, FiO_2 > 70 %), apresentou a seguinte condição:

DADOS DO PACIENTE

P_{O_2} de 45 mmHg.

Oximetria de 75%.

P_{CO_2} de 75 mmHg.

pH = 6,80.

Considerando as informações apresentadas, assinale a alternativa correta.

(A) A Fração Inspirada de Oxigênio pode ser reduzida para 60 %.

(B) A condição do paciente é normal.

(C) O paciente necessita de ventilação mecânica.

(D) A suplementação de oxigênio pode ser aumentada para 100%.

(E) A hipercapnia é uma resposta resultante da suplementação de oxigênio em pacientes.

QUESTÃO 42

A intubação é realizada pelo médico com assistência da enfermagem. Geralmente, é um procedimento de urgência, exceto em situações em que é feita de forma eletiva. A seguir são apresentas indicações emergenciais de intubação traqueal, exceto em um caso, em que a indicação é classificada como eletiva. Assinale a alternativa que apresenta a indicação eletiva de intubação traqueal.

(A) Refratariedade à ventilação não invasiva.

(B) Choque grave e refratário.

(C) Anestesia geral.

(D) Queimadura envolvendo as vias aéreas.

(E) Obstrução respiratória alta.

QUESTÃO 43

Trata-se de um dispositivo utilizado como ferramenta auxiliar em emergências médicas, projetado para uso em crianças. Ele é usado em situações em que a dosagem de medicamentos para crianças precisa ser determinada rapidamente. Como as crianças têm diferenças significativas em seu tamanho corporal em relação aos adultos, a dosagem de medicamentos e tratamentos pode variar de acordo com o peso e a altura da criança. Assim, o dispositivo é organizado em seções coloridas que correspondem a intervalos específicos de peso e altura da criança, onde cada seção colorida inclui informações sobre dosagens de medicamentos, fluidos e equipamentos de ressuscitação. O dispositivo descrito é nomeado:

(A) Régua de Glasgow.

(B) Régua de estesiômetro.

(C) Régua de Goniometria.

(D) Régua de Penrose.

(E) Régua de Broselow.

QUESTÃO 44

São planos de conduta comuns mediante diagnóstico de gravidez ectópica, EXCETO:

(A) Plano expectante (abordagem de espera).

(B) Tratamento clínico.

(C) Laparoscopia.

(D) Laparotomia.

(E) Histerectomia.

QUESTÃO 45

Os enfermeiros devem estar familiarizados com os fármacos amplamente utilizados em situações emergenciais, para que ele possa prestar cuidados efetivos aos pacientes em situações críticas. São fármacos utilizados em emergências e paradas cardiorrespiratórias, EXCETO:

(A) Adrenalina.

(B) Anfotericina.

(C) Atropina.

(D) Dopamina.

(E) Dobutamina.

QUESTÃO 46

Após o diagnóstico de parada cardíaca, as compressões torácicas devem ser imediatamente iniciadas até a chegada da equipe médica. O número recomendado de compressões por minuto é de:

(A) 100 a 120, de 5 cm de profundidade.

(B) 80 a 100, de 10 cm de profundidade.

(C) 110 a 150, de 3 cm de profundidade.

(D) 130 a 150, de 3 cm de profundidade.

(E) 70 a 90, de 2 cm de profundidade.

QUESTÃO 47

O enfermeiro possui um papel essencial na prevenção do suicídio, através da identificação precoce de sinais de alerta, implementação de intervenções preventivas e orientação de pacientes e familiares sobre medidas de segurança. O Centro de Valorização da Vida (CVV), em parceria com o Sistema Único de Saúde e Ministério da Saúde, oferece atendimento voluntário e gratuito para todas as pessoas que necessitam de apoio emocional, mantendo total sigilo. O enfermeiro pode orientar os pacientes e familiares a buscar o CVV como um recurso importante para ajudar na prevenção do suicídio, entre outras medidas necessárias. O acesso ao CVV é simples, o pode ocorrer através do seguinte número de telefone:

(A) 190.

(B) 197.

(C) 101.

(D) 192.

(E) 188.

QUESTÃO 48

Sobre a conduta em casos de afogamento, segundo os protocolos de Suporte Avançado de Vida, analise as afirmativas a seguir.

I. Todos os pacientes pediátricos vítimas de submersão, mesmo que assintomáticos, devem ser transportados para o hospital, devido à possibilidade de aparecimento tardio de sintomas respiratórios.

II. Vítima de afogamento grau 2 não requer oxigenioterapia, tampouco internação.

III. Todos os pacientes com parada cardiorrespiratória devem ser transportados para o hospital, pois deverão receber esforços de ressuscitação por período mais prolongado.

Está correto o que se afirma em:

(A) I e III, apenas.

(B) I, II e III.

(C) III, apenas.

(D) II, apenas.

(E) I e II, apenas.

QUESTÃO 49

Sobre emergências envolvendo queimaduras, assinale a alternativa INCORRETA.

(A) A extensão de uma queimadura é definida pela porcentagem de superfície corporal queimada.

(B) Na queimadura de 2° grau, geralmente, não se formam bolhas e a derme não é destruída. Acontece apenas edema discreto, eritema e dor. Nesta classificação as lesões curam-se entre o 5° e 10° dia.

(C) A acidose metabólica está quase sempre presente durante os estágios iniciais de uma queimadura grave.

(D) As queimaduras leves podem, em geral, ser tratadas ambulatorialmente.

(E) No tratamento inicial do paciente queimado pesquisa-se as vias aéreas e, se necessário, realiza-se a intubação orotraqueal.

QUESTÃO 50

Sobre a gravidez ectópica, analise as afirmativas a seguir.

I. Trata-se de uma condição em que o óvulo fertilizado se implanta na cavidade uterina, porém em uma camada espessa de endométrio, o que dificulta o desenvolvimento do blastocisto.

II. A dor e o sangramento vaginal são os sintomas mais importantes da gravidez ectópica. Em quase todos os casos a dor está presente. O sangramento pode ser de pequena monta e/ou irregular, as vezes após pequeno atraso da menstruação.

III. A duplicação dos níveis séricos de βHCG (beta do hormônio gonadotrófico coriônico) em 48 horas sinaliza uma gravidez com desenvolvimento normal. Caso tal duplicação não ocorra, trata-se de falha no desenvolvimento da gestação, podendo tratar-se tanto de uma gravidez ectópica como de um aborto.

Está correto o que se afirma apenas em:

(A) I e II.

(B) III.

(C) II e III.

(D) I.

(E) I e III.