PREFEITURA MUNICIPAL DE BAURU
Secretaria Municipal de Administração
Departamento de Recursos Humanos

Prova Objetiva

Edital nº 08 de 20/04/2023

PROVA OBJETIVA
AGENTE EM GESTÃO ADMINISTRATIVA E SERVIÇOS – ALMOXARIFE

NOME:_____
Nº INSCR._____

INSTRUÇÕES

1- Preencha com caneta esferográfica de tinta azul ou preta, fabricada de material transparente, de maneira legível, os dados de **IDENTIFICAÇÃO** solicitados no Caderno de Prova (Nome Completo e Número de Inscrição) e assine no Cartão Resposta.

2- Verifique se a sequência da numeração das folhas do Caderno de Prova está correta (18 páginas). **Após a orientação do fiscal sobre a conferência da prova, este não será substituído sob qualquer alegação**.

3- **A PROVA OBJETIVA** contém **50 (cinquenta)** questões objetivas, com **04 (quatro) alternativas** (A, B, C e D), valendo **2,00 (dois pontos)** cada, devendo o candidato obter no **mínimo 60% de acerto** para ser aprovado.

4- No Cartão Resposta, as questões estão representadas pelos seus respectivos números. Preencha, **FORTEMENTE**, com caneta esferográfica (tinta azul ou preta), toda a opção de sua escolha, sem ultrapassar as bordas. Conforme modelo abaixo.

Exemplo: Questão 01 - A



5- **O Cartão Resposta será o único documento válido para correção e NÃO será substituído em hipótese alguma, salvo se detectado erro ocasionado pela coordenação do Concurso.**

6- **NÃO RASURE** o Cartão Resposta e **NÃO MARQUE MAIS DE UMA ALTERNATIVA**, caso contrário, o cartão ou a questão poderão ser **ANULADOS**. Evite deixar questões sem respostas.

7- Para o correto preenchimento do Cartão Resposta aguarde a orientação do fiscal.

8- Não faça perguntas aos examinadores, a interpretação das questões faz parte da Prova.

9- No decorrer da Prova não será permitida qualquer espécie de consulta bem como qualquer comunicação externa e interna e entre os candidatos.

10- A Prova terá duração de **03 (três) horas** e ao terminá-la entregue ao fiscal o Caderno de Prova completo, juntamente com o Cartão Resposta.

11- A saída da sala só poderá ocorrer depois de decorrida 01 (uma) hora de início da Prova. A não observância desta exigência acarretará a exclusão do Concurso.

12- O candidato que permanecer na sala de prova até 01 (uma) hora antes de seu término, poderá levar consigo o Caderno de Prova.

13- O gabarito será publicado no dia **04/07/2023**, e a Classificação Final a partir do dia **29/07/2023** no Diário Oficial de Bauru.

01		**26**	
02		**27**	
03		**28**	
04		**29**	
05		**30**	
06		**31**	
07		**32**	
08		**33**	
09		**34**	
10		**35**	
11		**36**	
12		**37**	
13		**38**	
14		**39**	
15		**40**	
16		**41**	
17		**42**	
18		**43**	
19		**44**	
20		**45**	
21		**46**	
22		**47**	
23		**48**	
24		**49**	
25		**50**	

Concurso Público para o Cargo de Agente em Gestão Administrativa e Serviços – ALMOXARIFE

CONHECIMENTOS ESPECÍFICOS

01) Saber administrar um Almoxarifado é importante para qualquer organização, pois é o local de guarda de materiais, que representam grandes quantias de valores. Fazem parte do perfil do Almoxarife as atribuições:

I. Manter a acuracidade do estoque.
II. Manter a limpeza e arrumação de todo ambiente.
III. Analisar operações de crédito bancário para aquisição de materiais.
IV. Receber para a guarda e proteção os materiais adquiridos pela empresa.

É **CORRETO** o que se afirma em:

A) I e II apenas.
B) III e IV apenas.
C) I, II e IV apenas.
D) I, II, III e IV.

02) Os métodos de avaliação de estoques devem ser aplicados toda vez que o material do almoxarifado é requisitado e/ou embarcado.

Assinale a alternativa que apresenta **CORRETAMENTE** o método utilizado por empresas que trabalham com materiais perecíveis ou com data de vencimento, como os alimentos, produtos químicos e farmacêuticos e que embarcam primeiro as quantidades de um item com data de vencimento mais próxima.

A) First In First Out (FIFO).
B) Last In First Out (LIFO).
C) First Exhaust First Out (FEFO).
D) Preço médio ou média ponderada móvel.

03) Sobre os produtos perecíveis:

I. Os produtos perecíveis são classificados como: produtos perecíveis pré-embalados e produtos perecíveis não embalados.
II. Não há necessidade de se fazer o transporte de produtos perecíveis em caminhões refrigerados e fechados, o caminhão aberto também pode fazer o transporte desse tipo de carga.
III. São considerados produtos perecíveis os produtos alimentícios, alimentos in natura, produtos semipreparados ou produtos preparados para o consumo que, pela sua natureza ou composição, necessitam de condições especiais de temperatura para sua conservação.

É **CORRETO** o que se afirma em:

A) I, apenas.
B) I e III, apenas.
C) II e III, apenas.
D) I, II e III.

04) Por questão de segurança, um almoxarifado precisa ser organizado de uma maneira que facilite a movimentação das pessoas e dos equipamentos. No que se refere a organização de um almoxarifado:

I. Não devem existir produtos atrapalhando a passagem em corredores, portas e saídas de emergência.
II. Por medidas de segurança, a regra geral é que as mercadorias sejam armazenadas distantes, no mínimo 50 centímetros das paredes e 1 metro das luminárias, mas essas distâncias variam de acordo com o material.
III. Espaço físico do almoxarifado para o armazenamento dos itens deve ser proporcional ao uso dos porta-paletes, dos equipamentos de movimentação dos materiais e das ruas para movimentação de pessoas e equipamentos.

É **CORRETO** o que se afirma em:

A) I, apenas.
B) I e II, apenas.
C) II e III, apenas.
D) I, II e III.

05) Com relação ao Centro de Consolidação marque a alternativa **CORRETA**.

A) O Centro de Consolidação é aquele que fica em um local estratégico perto dos clientes. Isso permite manter estoques em quantidades suficientes para atender às necessidades desses clientes, principalmente quando se trata de uma localidade afastada dos grandes centros.
B) O Centro de Consolidação é aquele em que as mercadorias chegam em pequenos volumes vindas de diversos locais diferentes, onde são reembalados e agrupados em paletes ou contêineres, formando grandes volumes para serem transportados aos clientes.
C) O Centro de Consolidação é aquele no qual os materiais são recebidos de diversos locais, em grandes quantidades. Depois são reembalados, formando pequenos volumes para serem entregues aos clientes.
D) O Centro de Consolidação é aquele que reúne vários materiais adquiridos de fornecedores para alimentar a linha de produção de uma empresa, que são transformados durante o processo produtivo.

06) Sobre a Nota Fiscal, analise as afirmativas a seguir.

I. Ao ler a Nota Fiscal percebe-se que existem dados que não correspondem à realidade da carga que chegou no almoxarifado, pois vieram itens que não foram pedidos, gerando uma situação de "não conformidade". Dependendo da política praticada pela

empresa, o pedido poderá ser recusado totalmente ou o almoxarife poderá optar em receber a carga parcialmente, devolvendo apenas a parte da carga com problemas.
II. Tanto a devolução total ou parcial de uma carga, é preciso registrar as informações do que aconteceu no canhoto da Nota Fiscal para formalizar a recusa. Isso também precisa ser registrado no conhecimento de transporte de cargas.
III. Quando uma carga chega é importante observar na Nota Fiscal alguns itens que são importantes e comparar com o pedido de compras, que são: valor do produto, quantidade do produto, descrição referente à marca do produto, peso, dados do remetente, dados do destinatário, impostos, descrição do volume transportado, classificação fiscal.

É **CORRETO** o que se afirma em:

A) I, apenas.
B) I e II, apenas.
C) II e III, apenas.
D) I, II e III.

07) Os materiais perigosos ou que exigem cuidados especiais devem ficar bem sinalizados no almoxarifado. A sinalização é classificada conforme sua classe e são essenciais para a segurança dos profissionais, pois determinam o modo de como cada item deve ser manuseado, armazenado, embalado e transportado. Sobre as classes de materiais perigosos, analise as afirmativas a seguir.

I. Classe 3: são os líquidos inflamáveis e podem ser muito perigosos, pois, dependendo do produto podem iniciar um incêndio.
II. Classe 2: são os explosivos e podem ser muito perigosos, pois, dependendo do produto podem contaminar o meio ambiente.
III. Classe 1: são os gases e podem ser muito perigosos, pois, dependendo do produto, podem intoxicar ou pegar fogo.

É **CORRETO** o que se afirma em:

A) I, apenas.
B) I e II, apenas.
C) II e III, apenas.
D) I, II e III.

08) Quando o material que chega no almoxarifado é conferido de forma visual, utilizando-se de alguns modos de contagem como: manual, por amostragem, pesagem ou medição, dizemos que essa é uma:

A) Conferência Qualitativa.
B) Conferência Quantitativa.
C) Conferência de Rotina.
D) Conferência Quali-quanti.

09) A estocagem é o momento da guarda do material no estoque, analise as afirmativas a seguir.

I. Ao guardar o material, o almoxarife deve colocar o material nas prateleiras, sendo o mais leve na parte superior e os mais pesados nas prateleiras inferiores.
II. Os materiais com validade devem ser controlados para não expirarem no estoque.
III. Os itens que requerem aclimatização devem ser tratados adequadamente, conforme instruções do fabricante, normas da Associação Brasileira de Normas Técnicas (ABNT) e Instituto Nacional de Metrologia (Inmetro).
IV. Produtos químicos e tóxicos não precisam receber tratamento especial.

É **CORRETO** o que se afirma em:

A) I e II apenas.
B) III e IV apenas.
C) I, II e III apenas.
D) I, II, III e IV.

10) Modal é o deslocamento de carga através de um meio de transporte. Sobre modal analise as afirmativas a seguir.

I. O modal marítimo é principalmente utilizado no transporte internacional ou a longo curso, os principais produtos a serem transportados são os granéis sólidos e granéis líquidos.
II. O modal aéreo é adequado para longas distâncias e grandes quantidades, tem um custo menor com o frete e os principais produtos a serem transportados são: minério de ferro, cal, bobinas de aço e grãos.
III. O modal ferroviário é usado principalmente no transporte de mercadorias de alto valor agregado, pequenos volumes, perecíveis com urgência na entrega e animais.

É **CORRETO** o que se afirma em:

A) I, apenas.
B) I e II, apenas.
C) II e III, apenas.
D) I, II e III.

11) São equipamentos para manuseio de materiais:

A) Contêineres, caçamba, blocagem.
B) Paletes, estrados, gaiola.
C) Drive-in, cantilever, alavanca com rodas.
D) Carrinho tartaruga, carro plataforma, porta-palete.

12) Disposição física dos equipamentos, pessoas e materiais de maneira mais adequada ao processo produtivo, significando a colocação racional dos diversos elementos combinados para proporcionar a movimentação dos seus itens é a definição **CORRETA** de:

A) Porta-palete.
B) Flow-rack.
C) Arranjo físico.
D) Tanselevador.

13) As _____ são cargas de materiais homogêneos, transportadas em grandes quantidades, sem embalagens. O material transportado pode estar no estado sólido, líquido ou gasoso.

Assinale a alternativa que preenche **CORRETAMENTE** a lacuna do trecho acima.

A) Cargas especiais.
B) Cargas granéis.
C) Cargas gerais.
D) Cargas perigosas.

14) Entende-se por picking by light:

A) É atividade de separação de materiais que se utiliza mecanismos de luzes instalados nas estruturas de armazenagem, onde são iluminados somente o local onde se deve retirar o material, podendo também informar o quanto deve ser retirado.
B) É atividade de separação de materiais guiado por um comando de voz computadorizado que informa onde estão os itens a serem retirados e as quantidades.
C) É atividade de separação de materiais utilizando uma pistola de RFID onde aparece em sua tela informações sobre os materiais que precisam ser separados.
D) É atividade de separação de materiais sem utilização da tecnologia onde a coleta de materiais é feita item a item, um de cada vez e o pedido separado é apenas de um único cliente.

15) Ao trabalhar em um almoxarifado, uma das atividades que o almoxarife mais tem contato é com a unitização da carga. Sobre a unitização da carga, analise as afirmativas a seguir.

I. A unitização da carga tem a finalidade de facilitar a movimentação da mercadoria, protegê-la, agilizar os processos de carga e descarga, otimizar o espaço ocupado no almoxarifado e aumentar a produtividade e a velocidade das operações.
II. As características consideradas para unitizar a carga são: peso, volume, dimensões do produto, perecibilidade, fragilidade, periculosidade, estado físico e possibilidade de compatibilização.
III. Paletização, autounitização, blocagem, pré-lingagem e conteinerização são formas de unitizar a carga.

É **CORRETO** o que se afirma em:

A) I, apenas.
B) I e II, apenas.
C) II e III, apenas.
D) I, II e III.

16) As _____são elementos básicos para a paletização e uso racional de espaço, e atendem aos mais diversos tipos de cargas. São estruturas constituídas por perfis em L, U, tubos modulares e perfurados, dispostos de modo a formar estantes, berços ou outros modos de sustentação.

Assinale a alternativa que preenche **CORRETAMENTE** a lacuna do trecho acima.

A) Embalagens.
B) Estruturas de armazenagem.
C) Caçambas.
D) Áreas externas.

17) Dentre as funções descritas no perfil do almoxarife estão o recebimento e separação de materiais. Sobre as funções do almoxarife, analise as afirmativas a seguir.

I. Quando o material chega, o almoxarife precisa conferir para evitar erros relacionados às quantidades, avarias ou até mesmo o recebimento de um material totalmente diferente do adquirido.
II. O almoxarife precisa registrar a entrada do material, esse registro pode ser feito de modo manual, anotado em papel ou informatizado, digitando no computador ou passando scanner no código de barras ou leitor de QR Code, dependendo do porte do almoxarifado.
III. Ao receber um pedido para ser separado, o almoxarife deve identificar a localização do material no almoxarifado, registrar sua saída e prepará-los para deixar o almoxarifado.

É **CORRETO** o que se afirma em:

A) I, apenas.
B) I e II, apenas.
C) II e III, apenas.
D) I, II e III.

18) De acordo com os Símbolos e Etiquetas, analise as afirmativas a seguir.

I. Os símbolos nas embalagens servem para mostrar como manusear e movimentar corretamente o produto embalado.
II. Trazem informações importantes de como: número do pacote, tamanho da caixa, peso líquido, peso bruto e outras informações necessárias.
III. Com as informações dos símbolos e etiquetas consegue-se saber as quantidades adequadas para empilhamentos máximos e mínimos, posições corretas, alturas, pesos, resistências, evitando danos e acidentes.

É **CORRETO** o que se afirma em:

A) I, apenas.
B) I e II, apenas.

C) II e III, apenas.
D) I, II e III.

19) As embalagens que entram em contato direto com o produto são chamadas de:

A) Embalagem Primária.
B) Embalagem Secundária.
C) Embalagem Terciária.
D) Embalagem Quaternária.

20) Sobre o estoque, analise as afirmativas a seguir.

I. O estoque mínimo determina a quantidade de material que existe no estoque, destinado a cobrir eventuais atrasos no suprimento.
II. O estoque médio é a soma do estoque mínimo e da metade do lote de compra.
III. O estoque máximo é a quantidade de vezes, em determinado período, que o estoque médio que a empresa mantém é vendido.

É **CORRETO** o que se afirma em:

A) I, apenas.
B) I e II, apenas.
C) II e III, apenas.
D) I, II e III.

LÍNGUA PORTUGUESA

Texto: A traição das elegantes

"As fotos estão sensacionais, mas algumas das elegantes não souberam posar" – confessou Ibrahim Sued a respeito da reportagem em cores sobre as "Mais Elegantes de 1967" publicada em Manchete.
A verdade é mais grave, e todos a sentem: as "Mais Elegantes" estão às vezes francamente ridículas, às vezes com um ar de boboca e jeca, às vezes simplesmente banais. A culpa não será de Ibrahim, nem do fotógrafo, nem da revista, nem das senhoras; o que aconteceu é misterioso, desagradável, mas completamente indisfarçável: alguém ou, digamos, Algo, Algo com maiúscula, fez uma brincadeira de mau gosto, ou talvez, o que é pior, uma coisa séria e não uma brincadeira; como se fossem as três palavras de advertência que certa mão traçou na parede do salão de festim de Baltazar; apenas não escreveu nas paredes, mas nas próprias figuras humanas, em seus olhos e semblantes, em suas mãos e seus corpos: "Deus contou o dia de teus reinos e lhes marcou o fim; pesado foste na balança, e te faltava peso; dividido será teu reino".
Oh, não, eu não quero ser o profeta Daniel da Rua do Riachuelo; mas aconteceu alguma coisa, e essas damas que eram para ser como símbolos supremos de elegância e distinção, mitos e sonhos da plebe, Algo as carimbou na testa com o "Manê, Tekel, Farés" da vulgaridade pomposa e fora de tempo. Oh, digamos que escapou apenas uma e que há uma outra que não está assim tão mal. Mas as doze restantes (pois desta vez

são catorze) que aura envenenada lhes tirou o encanto, e as deixou ali tão enfeitadas e tão banais, tão pateticamente sem graça, expostas naquelas páginas coloridas como risíveis manequins em uma vitrina de subúrbio?

Que aconteceu? Ninguém pode duvidar da elegância dessas damas, mesmo porque muitas não fazem outra coisa a não ser isto: ser elegantes. Elas são parte do patrimônio emocional e estético da Nação, são respeitadas, admiradas, invejadas, adoradas desde os tempos de "Sombra"; vivem em nichos de altares invisíveis, movem-se em passarelas de supremo prestigio mundano – e subitamente, oh! ai! ui! um misterioso Satanás as precipita no inferno imóvel da paspalhice e do tédio, e as prende ali, com seus sorrisos parados, seus olhos fixos a fitar o nada, estupidamente o nada – quase todas, meu Deus, tão "Shangai", tão "Shangai" que nos inspiram uma certa vergonha – o Itamarati devia proibir a exportação desse número da revista para que não se riam demasiado de nós lá fora!

Não sou místico; custa-me acreditar que algum Espírito Vingador tenha feito esse milagre contrário. A culpa será talvez da "Revolução", que tornou os ricos tão seguros de si mesmos, tão insensatos e vitoriosos e ostentadores e fátuos que suas mulheres perderam o desconfiômetro, e elas envolvem os corpos em qualquer pano berrante que melífluos costureiros desenham e dizem – "a moda é isto" – e se postam ali, diante da população cada vez mais pobre, neste país em que mínguam o pão e o remédio, e se suprimem as liberdades – coloridas e funéreas, ajaezadas, e ocas, vazias e duras, sem espírito e sem graça nenhuma.

Há poucos meses, ao aceno de uma revista americana, disputaram-se algumas delas a honra de serem escolhidas, como mocinhas de subúrbio querendo ser "misses", e no fim apareceram numas fotos de publicidade comercial, prosaicamente usadas como joguetes de gringos espertos. Desta vez é pior: não anunciaram nada a não ser a inanidade de si mesmas tragicamente despojadas de seus feitiços.

Direi que a derrota das "Mais Elegantes" não importa… Importa! As moças pobres e remediadas, a normalista, a filha do coronel do Exército que mora no Grajaú, a funcionária da coletoria estadual de Miracema, a noiva do eletricista – todas aprenderam a se mirar nessas deusas, a suspirar invejando-as, mas admirando-as; era o charme dessas senhoras, suas festas, suas viagens, suas legendas douradas de luxo que romantizavam a riqueza e o desnível social; eram aves de luxo que enobreciam com sua graça a injustiça fundamental da sociedade burguesa.

Elas tinham o dever de continuar maravilhosas, imarcescíveis, magníficas. É possível que pessoalmente assim continuem; mas houve aquele momento em que um vento escarninho as desfigurou em plebéias enfeitadas, em caricaturas de si mesmas, espaventosas e frias.

Quero frisar que dessas senhoras são poucas as que conheço pessoalmente, e lhes dedico a maior admiração e o mais cuidadoso respeito. Não há, neste caso, nenhuma implicação pessoal. Estou apenas ecoando um sentimento coletivo de pena e desgosto, de embaraço e desilusão: nossas deusas apareceram de súbito a uma luz galhofeira, ingrata e cruel; sentimo-nos traídos, desapontados, constrangidos, desamparados e sem fé.

É duro confessar isto, mas é preciso forrar o coração de dureza, porque não sabemos se tudo isso é o fim de uma era ou o começo de uma nova era mais desolada e difícil de suportar.

Rubem Braga

21) A respeito do Gênero textual de "A traição das elegantes" podemos afirmar que é caracterizado por linguagem do cotidiano, com texto discursivo e que retrata a criticidade. Tais características estão **CORRETAMENTE** presentes na seguinte alternativa:

A) Descrição.
B) Crônica.
C) Dissertação.
D) Artigo de Opinião.

22) Leia o excerto a seguir:

"Quero frisar que dessas senhoras são poucas as que conheço pessoalmente, e lhes dedico a maior admiração e o mais cuidadoso respeito. Não há, neste caso, nenhuma implicação pessoal. Estou apenas ecoando um sentimento coletivo de pena e desgosto, de embaraço e desilusão: nossas deusas apareceram de súbito a uma luz galhofeira, ingrata e cruel; sentimo-nos traídos, desapontados, constrangidos, desamparados e sem fé. É duro confessar isto, mas é preciso forrar o coração de dureza, porque não sabemos se tudo isso é o fim de uma era ou o começo de uma nova era mais desolada e difícil de suportar." No período sublinhado compreendemos que:

A) Há empatia por parte do narrador em relação às senhoras, supondo que se trata de uma situação corriqueira.
B) Há um sentimento humano de bondade por parte do narrador em relação às mulheres elegantes.
C) Há um descrédito por parte do narrador, supondo que a situação tende a perdurar.
D) As críticas humanas se referem que para o autor é pouco comum mulheres elegantes cometerem gafes ao se alimentar.

Leia o fragmento extraído para responder as questões de nº 23 e nº 24 que se referem a compreensão de Morfologia (Classe de Palavras):

"Há **poucos** meses, ao aceno de uma revista americana, disputaram-se algumas **delas** a honra de serem escolhidas, como mocinhas de subúrbio querendo ser "misses", e no fim apareceram numas fotos de publicidade comercial, prosaicamente usadas como joguetes de gringos espertos."

23) O termo **poucos**, no fragmento apresentado tem a correta denominação em classes de palavras como:

A) Substantivo.
B) Pronome.
C) Advérbio.
D) Preposição.

24) O termo em negrito, **delas** destacado no fragmento retirado do texto, está **CORRETAMENTE** classificado em:

A) Substantivo.
B) Pronome.
C) Substantivo.
D) Preposição.

Leia o excerto extraído do texto para responder as questões de nº 25, nº 26 e nº 27 que se referem a correta compreensão de palavras e vocabulário:

"Não sou místico; custa-me acreditar que algum Espírito Vingador tenha feito esse milagre contrário. A culpa será talvez da "Revolução", que tornou os ricos tão seguros de si mesmos, tão insensatos e vitoriosos e **ostentadores** e fátuos que suas mulheres perderam o desconfiômetro, e elas envolvem os corpos em qualquer pano berrante que melífluos costureiros desenham e dizem – "a moda é isto" – e se postam ali, diante da população cada vez mais pobre, neste país em que mínguam o pão e o remédio, e se **suprimem** as liberdades – coloridas e funéreas, **ajaezadas**, e ocas, vazias e duras, sem espírito e sem graça nenhuma."

25) O termo **ostentadores** no contexto do excerto tem a seguinte compreensão descrita:

A) Alardeadores.
B) Pilantras.
C) Humildes.
D) Destemidos.

26) O termo em destaque, **suprimem** tem o mesmo significado de:

A) Emitir.
B) Ressaltar.
C) Propagar.
D) Extinguir.

27) Em "As fotos **estão** sensacionais, mas algumas das elegantes não souberam posar" – confessou Ibrahim Sued a respeito da reportagem em cores sobre as "Mais Elegantes de 1967" publicada em Manchete." O verbo destacado está no:

A) Presente do modo indicativo.
B) Pretérito mais que perfeito.
C) Futuro do Presente.
D) Futuro do Pretérito.

28) Leia o seguinte fragmento: "Há poucos meses, ao aceno de uma revista americana, disputaram-se algumas delas a honra de serem escolhidas, como mocinhas de subúrbio querendo ser "misses", e no fim apareceram numas fotos de publicidade comercial, prosaicamente usadas como joguetes de gringos espertos." A **CORRETA** a utilização da pontuação aspas (") justifica-se, quando se:

A) Pretende finalizar um período do texto.
B) Deseja enfatizar palavras ou expressões.
C) Utiliza o ponto de reticências para dar continuidade à ideia discorrida.
D) Necessita de justificar as ideias do narrador.

INFORMÁTICA

29) Uma forma fácil de ordenar dados, está demonstrada no recurso a seguir. O mesmo organiza as informações do almoxarifado de uma empresa, controlando a quantidade de itens em estoque. Este recurso está presente no Microsoft Word, um dos editores de texto mais utilizados. Qual é o nome deste recurso?

Controle de Estoque		
Produto	**Fabricante**	**Quantidade em estoque**
teclado	Positivo	6
mouse	Dell	2

A) Sumário.
B) Mala direta.
C) Etiquetas.
D) Tabela.

30) O Microsoft Excel utiliza-se de gráficos para exibir e organizar informações. Qual é o nome do gráfico que consta na imagem a seguir?

	A	B	C	D
1	**Relação de itens em estoque**			
2		**janeiro**	**fevereiro**	**março**
3	lápis	32	15	5
4	caneta	25	14	3
5	borracha	10	10	10
6	**Total Geral de itens em estoque por mês**	**67**	**39**	**18**

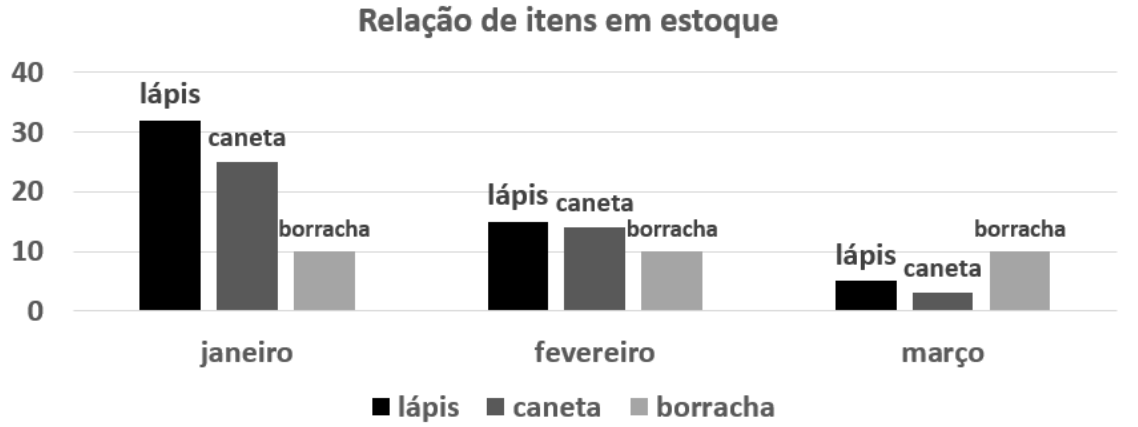

A) Gráfico de Colunas.
B) Gráfico de Linhas.
C) Gráfico de Pizza ou Rosca.
D) Gráfico de Radar.

31) Uma das melhores formas para visualizar e compreender informações é através de um gráfico. Faça uma análise dos dados contidos no exemplo a seguir, construído no Microsoft Excel, e assinale a opção **CORRETA**:

	A	B	C	D
1	**Relação de itens em estoque**			
2		**janeiro**	**fevereiro**	**março**
3	lápis	32	15	5
4	caneta	25	14	3
5	borracha	10	10	10
6	**Total Geral de itens em estoque por mês**	**67**	**39**	**18**

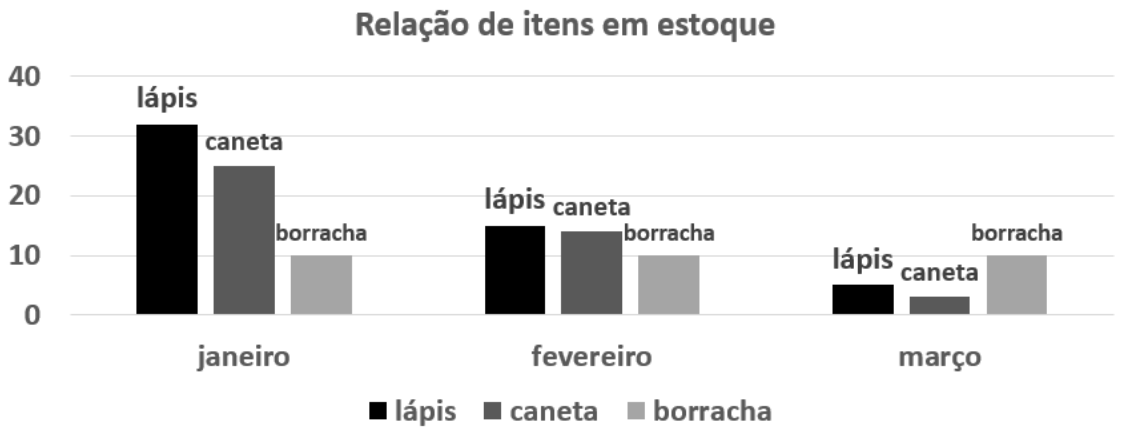

A) Nos meses de janeiro a março houve uma queda no número de itens em estoque referentes a lápis e caneta.
B) Nos meses de janeiro a março houve um aumento no número de itens em estoque referentes a caneta e lápis.
C) Nos meses de janeiro a março houve uma queda no número de itens em estoque referentes a borracha.
D) Nos meses de janeiro a março houve uma queda no número de itens em estoque referentes a caneta e borracha.

32) Planilha de dados no Microsoft Excel: Na imagem a seguir, temos dados referentes a diversos itens em estoque. Os números estão em suas respectivas células, referenciados por colunas (uso de letras) e linhas (uso de números). Para calcular o "Total geral de itens em estoque por mês", em outubro, em 68 itens, usou-se uma "fórmula". Qual é a fórmula **CORRETA** para se obter este valor?

	A	B	C	D
1	**Relação de itens em estoque**			
2		**agosto**	**setembro**	**outubro**
3	sabonetes	26	14	26
4	pacotes de papel higiênico	10	14	32
5	pacotes de papel toalha	15	10	10
6	**Total Geral de itens em estoque por mês**	**51**	**38**	**68**

A) =(B1+B2+B3)
B) =SOMA(B2:C3)
C) =MEDIA(B2:B7)
D) =SOMA(D3:D5)

33) O recurso Tabela está presente no Microsoft Word. É uma forma fácil de ordenar dados, o mesmo organiza as informações. Este recurso usa linhas e colunas em sua estrutura. No exemplo a seguir, a tabela é composta por quantas linhas e quantas colunas?

Controle de Estoque			
Produto	**Data da entrada**	**Fabricante**	**Quantidade em estoque**
Caneta Bic	05/06/2023	Dell	12
Resma de Papel	08/06/2023	Report	2

A) Quatro linhas e quatro colunas.
B) Três linhas e quatro colunas.
C) Três linhas e uma coluna.
D) Apenas quatro colunas.

34) O e-mail (correio eletrônico) é utilizado dentro de uma empresa para o envio de mensagens e documentos. O funcionário da empresa, deve enviar, via e-mail, ao seu superior, o arquivo referente ao relatório de estoque. Nas telas a seguir, consta a aparência padrão do "Gmail", para a escrita e envio de e-mails. Qual é o botão **CORRETO**, que deve ser clicado, para a inclusão do relatório, no e-mail.

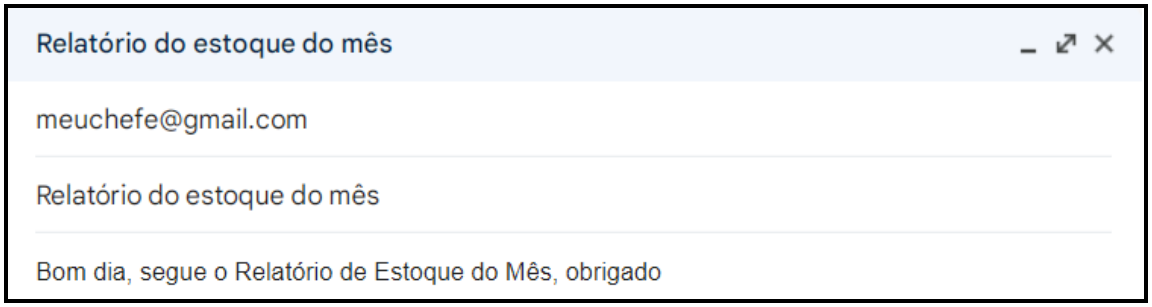



A) inserir assinatura.
B) anexar arquivos.
C) alternar modo confidencial.
D) enviar.

35) É preciso pensar na real necessidade de se imprimir um documento (economizar recursos)! Os programas disponibilizam uma "opção de impressão" na qual o usuário pode escolher o tamanho adequado do papel e optar entre usar "mais ou menos" tinta ou toner (tinta em pó usada em impressoras). Na tela a seguir, que se refere a propriedades de impressora, quais são, respectivamente, as opções **CORRETAS** que representam estas possibilidades?

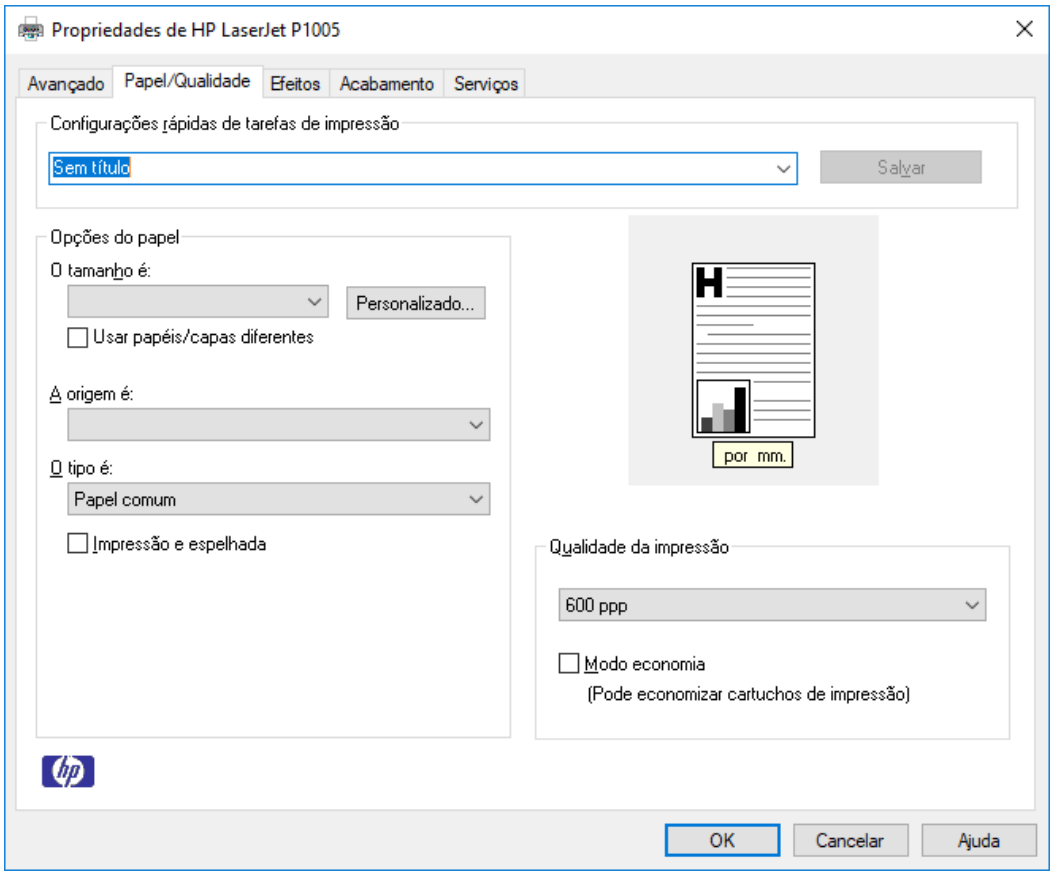

A) Configurações rápidas de tarefas de impressão - Opções do papel (opção: Impressão e espelhada).
B) Opções do papel (opção: O tipo é) - Opções do papel (opção: Impressão e espelhada).
C) Opções do papel (opção: Impressão e espelhada).
D) Opções do papel (opção: O tamanho é) - Qualidade da impressão (opção: Modo economia).

36) O almoxarife da empresa concluiu o relatório de estoque do mês. Através de um editor de textos, criou as tabelas com os dados, já com o editor de planilhas, criou os gráficos, tudo para posteriormente criar uma apresentação e exibir as informações. Qual é o programa **CORRETO** a seguir, a ser utilizado, para se criar essa apresentação em "slides"?

A) Microsoft PowerPoint ou LibreOffice Impress.
B) Microsoft Word ou LibreOffice Writer.
C) Microsoft Excel ou LibreOffice Calc.
D) Microsoft Access ou LibreOffice Base.

MATEMÁTICA

37) Uma escala termométrica é um conjunto de valores construído para medir temperaturas. Entre elas, estão a escala Fahrenheit (símbolo F) e a escala Celsius (símbolo C), ambas com subdivisões chamadas graus. A relação entre os valores de uma determinada temperatura medida nessas duas escalas é dada pela proporção:

$$\frac{C}{5} = \frac{F-32}{9}$$

Uma câmara fria deve ser regulada para 15ºC (15 graus na escala Celsius), porém o dispositivo interno de regulagem de temperatura nessa câmara utiliza a escala Fahrenheit. Assim, nesse marcador a temperatura deverá ser ajustada para:

A) 84,6ºF.
B) 59ºF.
C) 33,4ºF.
D) - 9,4ºF aproximadamente.

38) Uma embalagem cheia de molho de tomate pesa 10kg. Quando metade do molho que ela contém é consumida, a mesma embalagem com a metade do molho restante pesa 5,125kg. Daí, pode-se concluir que a embalagem vazia pesa:

A) 62,5g.
B) 125g.
C) 250g.
D) 375g.

39) Uma pessoa precisa estimar a altura de um armário posicionado num pátio ensolarado. Não há escada por perto e o único instrumento de medida é uma régua de 30cm. Com essa régua, a pessoa mede o comprimento da sombra do armário projetada no chão e encontra 4,95m. Depois, posiciona a régua na vertical, próxima ao armário, e mede a sombra dela no chão, encontrando 45cm. Conclui que a altura aproximada do armário é:

A) 2,475m.
B) 2,7m.
C) 3,30m.
D) 7,425m.

40) O consumo de cimento utilizado nas atividades de uma empresa de construção civil vem aumentando de forma constante a uma taxa de 0,5 tonelada por ano possibilitando-nos descrever esse fato pela função Q=0,5t onde Q representa a quantidade de cimento em toneladas e t representa o tempo em anos. A respeito dessa função, podemos afirmar que:

A) A função possibilita prever que no quarto ano de atividades da empresa o consumo de cimento será de 2 toneladas.
B) O gráfico de Q=0,5t é uma curva denominada parábola.
C) A função Q=0,5t é decrescente pois a taxa de crescimento é menor do 1.
D) Q=0,5t é uma função exponencial.

41) Um refrigerador foi adquirido por R$980,00 e será vendido com 20% de lucro. Caso o(a) comprador(a) pague à vista, ser-lhe-á concedido um desconto de 5% sobre o valor de venda e, neste caso, o preço final do refrigerador será:

A) R$ 1117,20.
B) R$ 1127,00.
C) R$ 1176,00.
D) R$ 1058,40.

42) Um supermercado atacadista vende café a R$25,00 o quilo e está fazendo uma promoção do tipo "leve 3 e pague 2". O valor a ser pago por 100 quilos desse café nessa promoção é:

A) R$ 825,00.
B) R$ 850,00.
C) R$ 1650,00.
D) R$ 1675,00.

43) Por questões sazonais e também em função de estratégias de negociação, o preço do quilo de feijão no Supermercado Boa Compra oscilou ao longo de 2022 da seguinte forma:

Preço (R$)	**Meses**
6,00	Janeiro e Fevereiro
10,00	Março, Abril, Maio, Junho e Julho
5,00	Agosto e Setembro
8,00	Outubro, Novembro e Dezembro

Podemos dizer que ao longo do ano de 2022, no Supermercado Boa Compra o quilo do feijão custou, em média:

A) R$ 7,25.
B) R$ 10,00.
C) R$ 7,50.
D) R$ 8,00.

LEGISLAÇÃO

44) Marque a alternativa **CORRETA** de acordo com a Lei Municipal nº 4.830/2002:

A) O Regime de Previdência de que trata a Lei Municipal nº 4.830/2002, de filiação facultativa, será mantido exclusivamente pelas contribuições do Município.
B) O Conselho Fiscal constitui órgão fiscal.
C) O Presidente da FUNPREV pode fazer parte, ao mesmo tempo, do Conselho Curador ou do Conselho Fiscal.
D) A FUNPREV, tem por objetivo gerir, com exceção do auxílio-doença, o regime de previdência social dos servidores públicos municipais efetivos da Administração Direta, Autárquica, Fundacional e da Câmara Municipal de Bauru, com base em normas gerais de contabilidade, de modo a garantir o seu equilíbrio financeiro e atuarial.

45) Conforme previsto no art. 5º, XXXIV, da Constituição Federal, são a todos assegurados, independentemente do pagamento de taxas:

A) O direito de petição apenas ao Poder Executivo em defesa de direitos ou contra ilegalidade ou abuso de poder.
B) O direito de petição aos Poderes Públicos em defesa de direitos ou contra ilegalidade ou abuso de poder.
C) O direito de petição aos Poderes Públicos contra ilegalidade, mas não contra abuso de poder.
D) O direito de petição apenas ao Poder Legislativo em defesa de direitos ou contra ilegalidade ou abuso de poder.

46) Marque a alternativa **CORRETA** de acordo com a Constituição Federal:

A) O subsídio dos Vereadores será fixado pelas respectivas Câmaras Municipais em cada legislatura para a subsequente.
B) O total da despesa com a remuneração dos Vereadores não poderá ultrapassar o montante de vinte por cento da receita do Município.
C) A eleição do Presidente da República, do Vice-Presidente da República, do Governador, do Vice-Governador, do Prefeito, do Vice-Prefeito e dos Vereadores, para mandato de quatro anos, será feita mediante pleito direto e simultâneo realizado em todo o País.
D) A posse do Prefeito e do Vice-Prefeito será no dia 31 de dezembro do ano da eleição.

47) De acordo com a Lei Municipal nº 5.804/2009, a Administração anulará seus atos inválidos, de ofício ou por provocação de pessoa interessada, salvo quando:

A) Da irregularidade resultar qualquer prejuízo.
B) Ultrapassado o prazo de 15 (quinze) anos contado de sua produção.
C) Forem passíveis de convalidação.
D) Quando for do seu interesse.

48) Marque a alternativa **CORRETA** a respeito das responsabilidades, de acordo com a Lei Municipal nº 3.781/1994:

A) As sanções penais, civis e administrativas não poderão cumular-se.
B) A responsabilidade civil decorre apenas de ato omissivo doloso do servidor que resulte em prejuízo a terceiros.
C) O servidor responde penal e administrativamente pelo exercício irregular de suas atribuições, mas não civilmente.
D) Tratando-se de dano causado a terceiros, responderá o servidor perante a Fazenda Municipal, em ação regressiva.

49) Marque a alternativa **CORRETA** a respeito dos vereadores, de acordo com a Lei Orgânica do Município de Bauru:

A) Os Vereadores são invioláveis por suas opiniões, palavras e votos no exercício do mandato e na circunscrição do Município.
B) Cada Vereador deverá fazer declaração de seus bens apenas ao término do seu mandato, a qual será arquivada na Diretoria de Apoio Legislativo.
C) O vereador não poderá utilizar licença-gestante.
D) Não perderá o mandato o vereador cujo procedimento for declarado incompatível com o decoro parlamentar.

50) Marque a alternativa **CORRETA** de acordo com a Lei Municipal nº 1.574/1971:

A) É possível atribuir ao funcionário, serviços diversos dos inerentes ao seu cargo, além das funções de chefia e direção e as comissões legais.
B) As nomeações serão feitas em caráter efetivo nos casos específicos declarados em lei, de livre nomeação e exoneração.
C) Salvo os casos previstos na Lei, o funcionário que interromper o exercício por mais de trinta dias consecutivos ficará sujeito à pena de demissão por abandono de cargo.
D) Não são considerados de efetivo exercício para todos os efeitos legais, os dias em que o funcionário estiver afastado do serviço em virtude de férias.