CONCURSO PÚBLICO PARA PESSOAL TÉCNICO–ADMINISTRATIVO EM EDUCAÇÃO

EDITAL PRH Nº 10/2022, de 7 de janeiro de 2022

Instruções

É proibido qualquer tipo de comunicação e/ou utilização de equipamentos eletrônicos durante prova.

Verifique se a prova contém todas as questões.

Ao receber a Folha de Respostas, certifique-se de que seus dados estejam corretos. Se necessário, solicite ao fiscal as devidas correções na Ata de Prova.

Leia atentamente cada questão e assinale na Folha de Respostas a alternativa que mais adequadamente a responde.

A Folha de Resposta NÃO pode ser dobrada, amassada, rasurada, manchada ou conter qualquer registro fora dos locais destinados às respostas.

A maneira correta de assinalar a alternativa na Folha de Resposta é cobrindo, totalmente, com caneta esferográfica de tinta azul ou preta, o espaço a ela correspondente, conforme indicado na ilustração ao lado.

Assistente em Administração

Anote aqui o seu gabarito, em seguida, dobre e destaque na linha pontilhada.

Língua Portuguesa

1	2	3	4	5	6	7	8	9	10

Legislação

11	12	13	14	15	16	17	18	19	20

Conhecimentos Específicos

21	22	23	24	25	26	27	28	29	30	31	32	33	34	35	36	37	38	39	40	41	42	43	44	45	46	47	48	49	50

LÍNGUA PORTUGUESA

Leia o texto **Vaca em campo** para responder às questões **1** e **2**.

Vaca em campo

Quem nunca reuniu os amigos para "fazer uma vaquinha" com um objetivo comum? Na década de 1920, a "vaquinha" era para ajudar jogadores de futebol. A expressão nasceu num tempo em que a maioria dos atletas não recebia salário. Para dar uma força ao time, os torcedores arrecadavam entre si doações para os jogadores. E a vaca entrou na história por causa do jogo do bicho, pois é o animal representado pelo número 25 – o mais alto do jogo – e ficou associada ao prêmio máximo pago aos jogadores. Será que o "drible da vaca" rendia um "bicho" extra?

(Revista de História da Biblioteca Nacional, nº 39, dez. 2008)

1 Dos trechos listados, a seguir, qual ilustra, exemplarmente, o título do texto?

a) "a vaquinha".
b) "o drible da vaca".
c) "E a vaca entrou na história".
d) "rendia um bicho extra".
e) "é o animal representado pelo número 25".

2 Em função da natureza linguística de sua composição (aspectos lexicais, sintáticos, tempos verbais, relações lógicas, estilo), os textos se organizam em tipos textuais que abrangem categorias conhecidas como narração, argumentação, exposição/dissertação, descrição, injunção. Considerando essa informação, é correto afirmar que, do ponto de vista da composição, o texto

a) equilibra argumentação e injunção, com o uso de argumentos e sequências imperativas que buscam o convencimento do leitor.
b) equilibra narração e exposição, já que apresenta indicação circunstancial de tempo e lugar e traz um tema.
c) é predominantemente descritivo, com indicação circunstancial de lugar e caracterização de objetos.
d) equilibra exposição e injunção, com a presença de sequências imperativas.
e) é predominantemente expositivo, visto que apresenta sequências explicitamente explicativas.

3 Considerando a língua padrão escrita, a forma verbal que completa adequadamente a tirinha é:



(DAVIS, J. *Garfield um charme de gato*. Porto Alegre: L&PM, 2007, p.111)

a) dava
b) daria
c) ia dar
d) começava a dar
e) acabava dando

As questões **4** e **5** têm como base o *outdoor* a seguir.

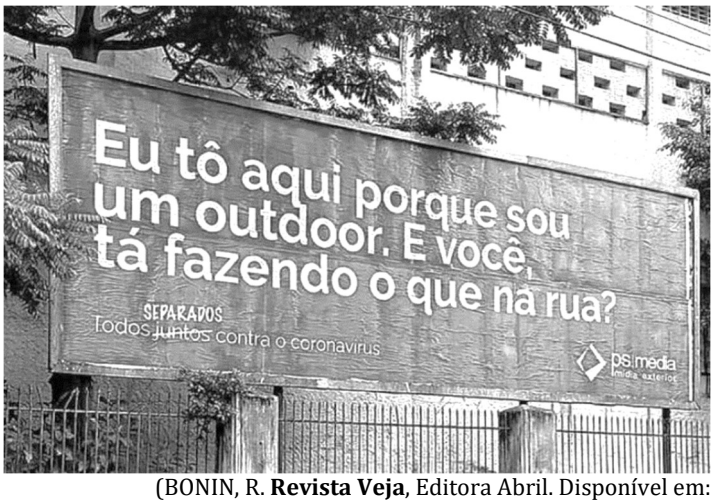

(BONIN, R. **Revista Veja**, Editora Abril. Disponível em: https:veja.abril.com.br/coluna/radar/empresa-de-outdoors-entra-na-campanha-contra-o-virus-fique-em-casa. Acesso em: 24 jan. 2022)

4 Sobre o texto da campanha publicitária, é correto afirmar que:

a) há uma inadequação no que diz respeito à variedade linguística usada e o contexto discursivo.
b) os autores da campanha seguem a prescrição da gramática normativa, para melhor explicar a função do *outdoor*.
c) a variedade linguística usada evidencia que os autores da campanha não se preocupam se o seu público entende a mensagem veiculada.
d) o distanciamento proposital da variedade padrão tem um efeito positivo – o público é tratado com intimidade; a linguagem coloquial tenta envolvê-lo.
e) o uso de marcas de oralidade compromete o entendimento do leitor, logo o texto não satisfaz o objetivo da campanha.

5 Sobre o texto do *outdoor*, pode-se afirmar que:

I. O conteúdo veiculado estimula a desunião, como comprova o uso do adjetivo **separados**.
II. Há um processo de antropomorfização, isto é, o *outdoor* adquire características humanas, assume-se como **eu** e se dirige ao público.
III. O advérbio de lugar **aqui** remete para o substantivo **rua**.
IV. Não há relação entre o falante, o *outdoor*, e o advérbio **aqui**.

Dentre essas afirmativas, estão corretas somente:

a) III e IV
b) I e II
c) II e III
d) I e IV
e) II e IV

Leia o texto, a seguir, para responder à questão **6**.

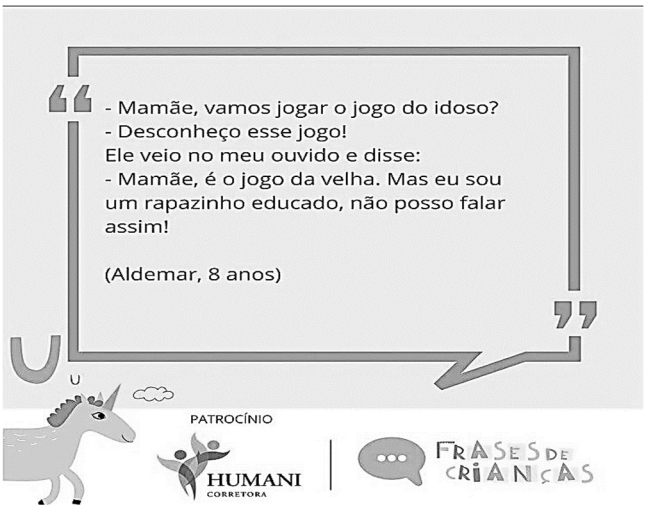

(FRASESDECRIANÇA. **Craque da Bocha**. Instagram: @frasesdecrianca. Disponível em: https://instagram.com/frasesdecriancas. Acesso em: 26 jan. 2022)

6 Pode-se afirmar que a substituição da expressão "jogo da velha" por "jogo do idoso":

a) evidencia a competência comunicativa do garotinho.
b) assinala a percepção do garotinho em relação ao grau de formalidade da situação.
c) põe em destaque que o garotinho desconsidera a possibilidade de explorar o uso de sinônimos.
d) mostra que, para o garotinho, "jogo da velha" e "jogo do idoso" são brincadeiras distintas.
e) demonstra que o garotinho vivencia uma situação de conflito diante das possibilidades que a língua lhe oferece.

As questões **7**, **8** e **9** têm como base o texto a seguir.

O vírus da gripe pode estar em muitos lugares.
Só que você não vê.
Lave as mãos frequentemente.
(Campanha do Ministério da Saúde veiculada na *Revista Nova Escola*, nº 230, mar. 2010)

7 O uso do imperativo na campanha publicitária do Ministério da Saúde se justifica porque o Ministério:

a) entende que a ação proposta é habitual.
b) expressa o desejo de que algo se realize imediatamente.
c) refere-se a uma ação futura incerta.
d) dirige-se, diretamente, a seu interlocutor para lhe dar um conselho.
e) quer conferir maior realismo ao que propõe.

8 Assinale a opção em que todas as palavras obedecem à mesma regra de acentuação gráfica que justifica o acento de **vírus**.

a) álbum, café, obstáculo
b) tênis, júri, bônus
c) cadáver, lápis, vê
d) câncer, míope, ímã
e) vênus, táxi, baía

9 O texto da campanha publicitária **não** terá seu sentido alterado se se substituir o conector **só que** por:

a) enquanto
b) porque
c) embora
d) e
e) mas

10 Em sequência, as palavras que completam corretamente as lacunas da tirinha, a seguir, são:

(SCHULZ, C. M. *Felicidade é...* Porto Alegre: L&PM, 2005, p. 82)

a) por que, por que, por quê, porque, por que.
b) porque, por que, por que, porque, por quê.
c) por quê, por quê, por quê, por que, por quê.
d) porque, porque, porquê, por quê, porque.
e) porquê, por que, por que, por que, porque.

LEGISLAÇÃO

11 A realização de um ato administrativo, com base no regime jurídico-administrativo, mas longe de sua finalidade, caracteriza:

a) desvio de função
b) incompetência do ato
c) ilegitimidade do ato
d) desvio de poder
e) inexistência de motivo

12 Nos termos do artigo 5° da Lei 8.112/90 aponte a opção que não se aplica como requisito básico para investidura em cargo público.

a) A aprovação em concurso público
b) A idade mínima de 18 anos
c) A Quitação com as obrigações militares e eleitorais
d) A nacionalidade brasileira
e) Aptidão física e mental

13 O ato administrativo complexo, realizado no âmbito do processo administrativo, que visa contratar obra pública, por meio de lançamento de Edital de licitação, caracteriza-se:

a) por ato discricionário
b) pela decisão de diversos agentes do mesmo órgão
c) com a autorização judiciária
d) por deliberação coletiva
e) pela conjunção de vontades de diversos órgãos

14 No que se refere ao servidor público, é correto afirmar:

a) a investidura ocorrerá com a posse.
b) a reversão e o retorno à atividade de servidor em disponibilidade far-se-ão mediante aproveitamento obrigatório em cargo de atribuições e vencimentos compatíveis com o anteriormente ocupado.
c) a reversão é a reinvestidura do servidor ao mesmo cargo de que fora demitido, uma vez reconhecida a ilegalidade da demissão.
d) a recondução é o retorno do servidor estável ao cargo anteriormente ocupado em decorrência de inabilitação em estágio probatório relativo a outro cargo ou da aposentadoria do anterior ocupante.
e) a reversão é o retorno do servidor aposentado por invalidez em algum cargo vago existente na Administração Pública quando a junta médica concluir não perdurarem os motivos que ensejaram o afastamento para a inatividade.

15 São princípios próprios ou específicos dos serviços públicos adequados, previstos na Lei 8.987/95:

a) continuidade, exclusividade, regularidade
b) especificidade, publicidade, moralidade, regularidade do serviço
c) regularidade, continuidade, eficiência, segurança, atualidade, generalidade, cortesia na sua prestação e modicidade das tarifas
d) atratividade, mutualismo e comutatividade
e) eficiência, publicidade e exclusividade das tarifas

16 As pessoas físicas, contratadas pela Administração Pública, por tempo determinado, por seleção pública simplificada, para atender à necessidade temporária de excepcional interesse público:

a) têm um vínculo de servidores públicos.
b) ocupam cargo efetivo.
c) ocupam cargo em comissão.
d) são consideradas agentes políticos.
e) têm um vínculo de emprego público.

17 Sobre a anulação do ato administrativo é correto afirmar:

a) o sujeito ativo da anulação é uma autoridade no exercício de funções e competências administrativas.
b) a anulação poderá ser declarada pela Administração Pública de maneira expressa.
c) somente a Administração Pública é competente para praticar a anulação administrativa.
d) o agente que anula o ato administrativo pode ser aquele que o produziu ou seu superior hierárquico.
e) opera-se com efeito *ex tunc.*

18 Sendo detentor de cargo efetivo, o servidor público, nos termos da lei 8.112/90,

a) mediante a publicação do ato de nomeação, entrará em estágio probatório.
b) independentemente de solicitação, receberá, por ocasião das férias, um adicional correspondente a 1/6 (um sexto) da remuneração do período das férias.
c) terá a gratificação natalina considerada para cálculo de vantagem pecuniária.
d) obterá a estabilidade com a realização de concurso público.
e) somente poderá perder o cargo em virtude de sentença judicial transitada em julgado ou processo disciplinar no qual lhe seja assegurada ampla defesa.

19 Servidores públicos são:

a) pessoas físicas que prestam serviços à União, ao Distrito Federal e às Entidades da Administração Indireta, com vínculo de emprego público e mediante remuneração paga pelos cofres públicos.
b) pessoas físicas que prestam serviços à União, ao Estado, Distrito Federal, aos Municípios e às Entidades da Administração direta e indireta, com vínculo estatutário e mediante remuneração paga, inclusive, pelos cofres públicos.
c) pessoas físicas eleitas que prestam serviços ao Estado, sem vínculo empregatício, e mediante remuneração paga pelas concessionárias.
d) pessoas físicas que prestam serviços às Autarquias Federais e Estaduais, com vínculo empregatício e mediante remuneração paga pelas concessionárias.
e) pessoas físicas aprovadas em concurso público e detentores de emprego público e remuneração paga pelos cofres públicos.

20 Sobre o processo administrativo:

a) São capazes, para fins de processo administrativo, os maiores de dezoito anos, ressalvada previsão especial em ato normativo próprio.
b) São legitimadas como interessadas, no processo administrativo, pessoas físicas e jurídicas legalmente constituídas.
c) O processo administrativo somente se inicia por ato de ofício da Administração Pública.
d) A Administração Pública pode recusar o recebimento de documentos, devendo o servidor informar o interessado.
e) São legitimados, no processo administrativo, somente aqueles que tenham iniciado o processo e têm direitos ou interesses que possam ser afetados pela decisão a ser adotada.

CONHECIMENTOS ESPECÍFICOS

21 As organizações, enquanto sistemas estruturados de pessoas que se juntam para alcançar objetivos comuns, compartilham de algumas características próprias, EXCETO:

a) têm uma finalidade: as organizações apresentam objetivos.
b) são formadas por acionistas: detentores das ações ou cotas das empresas.
c) são compostas por pessoas: responsáveis pelas atividades e decisões.
d) possuem uma estrutura: delimita o comportamento e a forma de funcionamento.
e) utilizam recursos: humanos, materiais, tecnológicos, naturais ou financeiros, para desenvolvimento de suas atividades.

22 Sobral e Peci (2008) colocam que "A administração é um processo na medida em que consiste em um conjunto de atividades e tarefas relacionadas a fim de atingir um objetivo comum".

Sobre o processo de administração, é correto afirmar:

a) as funções da administração permanecem as mesmas, independentemente do tipo de organização ou do nível organizacional ao qual se referem.
b) as funções da administração são executadas de forma inter-relacionada e sequencial, sendo preciso realizar uma por vez para se chegar ao objetivo previsto. Essas funções são: planejar, comunicar, executar, dirigir e avaliar, nessa ordem.
c) o processo organizacional considera aspectos funcionais, dimensionais, comunicacionais e interativos para o alcance dos objetivos individuais.
d) a organização é a função da administração responsável pela direção e os processos de gestão de pessoas, é uma função que exige ação e controle.
e) o planejamento é a função da administração que assegura que os objetivos estão sendo alcançados, monitorando todas as atividades.

23 A Gestão de pessoas é a área da administração responsável pelas políticas e práticas relacionadas aos indivíduos que formam a organização e sua abordagem foi se modificando ao longo do tempo. Sobre essa mudança, é correto afirmar:

a) a gestão de pessoas é sinônimo de departamento pessoal, local no qual se processa folha de pagamento e verifica o cumprimento da carga horária de trabalho dos funcionários, sendo essa sua única função.
b) a gestão de pessoas surge no contexto da Revolução Industrial. Nessa época, seu principal objetivo era atrair talentos e desenvolver o capital intangível da organização por meio da gestão do conhecimento.
c) a gestão de pessoas tem importância estratégica na organização, com a aplicação de técnicas e conhecimentos específicos, busca atingir os objetivos organizacionais e a satisfação das pessoas envolvidas.
d) atualmente, todas as organizações reconhecem a importância da gestão de pessoas e adotam práticas inovadoras de desenvolvimento do capital humano.
e) os processos de gestão de pessoas permanecem os mesmos ao longo do tempo, são eles como: recrutamento, remuneração, treinamento e demissão.

24 Sobre recrutamento e seleção, pode-se dizer que:

I. Com base na descrição do cargo, o profissional definirá o perfil ideal do candidato e, a partir de então, é possível definir critérios de recrutamento e seleção.
II. O recrutamento pode ser interno, externo ou misto, isso significa que é preciso definir o local de busca do candidato, se dentro da organização, fora dela ou nos dois espaços.
III. A definição da técnica de seleção deve permitir comparar os diferentes candidatos com a finalidade de escolher o potencialmente mais capaz.

A opção verdadeira é:

a) Apenas I e II são corretas.
b) Apenas I é correta.
c) I, II e III são corretas.
d) Apenas II e III são corretas.
e) Apenas III é correta.

25 São técnicas de seleção:

a) internet, agência de empregos, entrevista, análise de currículo
b) entrevista, banco de currículos, provas escritas, dinâmica de grupo
c) testes práticos, testes psicológicos, banco de vagas, indicação
d) indicação, teste prático, *headhunters*, entrevista
e) entrevista, análise de currículo, testes práticos, dinâmica de grupo

26 A função da administração de planejar é responsável por indicar os caminhos e as diretrizes da organização. Ela está presente em todos os níveis organizacionais, entretanto, para cada nível, o papel do planejamento pode ser alterado. Assim, é correto afirmar:

a) no nível tático, o planejamento tem orientação para longo prazo, traça objetivos por departamentos e tem foco nas atividades rotineiras.

b) no nível estratégico, o planejamento tem forte orientação externa, orientação para longo prazo, traça objetivos gerais e planos para toda a organização.
c) no nível operacional, o planejamento tem foco no médio prazo, forte orientação externa e define procedimentos específicos do indivíduo.
d) nos níveis estratégico e operacional, o planejamento apresenta a mesma orientação externa, com foco no resultado e definições de curto prazo.
e) independente do nível organizacional, o planejamento deve ser feito para a organização como um todo e com foco no curto prazo.

27 O planejamento "não diz respeito a decisões futuras, mas às implicações futuras de decisões presentes". Essa afirmação é atribuída a Peter Druker. Com a ideia de que se precisa decidir agora para que o futuro almejado aconteça, é correto afirmar que:

a) o planejamento estratégico, normalmente, tem por base uma análise do ambiente, utilizando-se de ferramentas para identificar aspectos positivos e negativos no ambiente interno e externo.
b) ao definir seu MVV (missão, visão e valores), a organização tem claramente seu negócio conhecido e o bom desempenho organizacional está garantido.
c) estratégias são maneiras de se chegar ao objetivo organizacional e seguem sempre um padrão definido, podendo ser replicadas e testadas inúmeras vezes por todas as organizações.
d) os indicadores de desempenho são instrumentos essenciais para o acompanhamento do planejamento, eles são capazes de traçar objetivos e metas, por isso, devem ser guardados e restritos apenas aos analistas, sem qualquer tipo de feedback.
e) o planejamento estratégico é único e rígido, não devendo ser alterado, mesmo que o cenário seja diferente.

28 Em relação aos processos de gestão de pessoas, é correto afirmar:

a) manter e monitorar pessoas: são processos sem relação entre eles, têm por objetivo levantar indicadores de desempenho e treinar o pessoal para melhorá-los.
b) aplicar pessoas: consiste no treinamento das pessoas, para que elas possam melhorar o desempenho de suas atividades no cargo contratado.
c) recompensar pessoas: consiste no processo de acompanhar as atividades desenvolvidas pelos profissionais e controlar seus desempenhos.
d) desenvolver pessoas: tem a função de conservar as pessoas na organização e definir a remuneração adequada.
e) agregar pessoas: consiste no recrutamento e seleção, tem por objetivo trazer pessoas para a organização.

29 Relacione as principais influências da Administração com as instituições/movimentos que a inspiraram. Depois, marque a alternativa que contém a sequência correta.

I. Filósofos
II. Igreja Católica
III. Instituição Militar
IV. Economistas liberais

( ) Controle e unidade de comando
( ) Livre concorrência
( ) Organização vertical e hierarquia de autoridade
( ) Separar o essencial do acessório, ter foco

a) I, II, III e IV
b) IV, II, III e I
c) III, IV, II e I
d) II, III, I e IV
e) III, I, IV e II

30 "Taylor voltou-se para racionalização do trabalho, estendendo-se à definição de princípios de Administração aplicáveis a todas as situações". (CHIAVENATO, 2006). A partir dessa afirmação sobre a Administração Científica, é correto afirmar que:

a) o Taylorismo é conhecido como modelo de administração baseado no ser humano, que tinha como foco a eficiência operacional e a satisfação do trabalhador.
b) os princípios da Administração Científica eram planejamento, execução, unidade de comando, controle e desenvolvimento humano.
c) o homem era visto como homem econômico, ou seja, tinha um papel social, interagindo com os grupos.
d) a racionalização do trabalho, por Taylor, pode ser entendida no estudo dos tempos e movimentos, os trabalhos eram divididos e o operário treinado exaustivamente para executar no menor tempo possível.
e) a racionalização do trabalho tem importante contribuição na gestão dos processos, pois analisa o comportamento dos funcionários e sua motivação para o trabalho.

31 Publicado em 1960, o clássico livro *The Human Side of Enterprise*, de Douglas McGregor, sistematizou e apresentou duas concepções sobre o comportamento humano que repercutiam nos estilos de liderança e gestão adotados pelas empresas, chamando-as de Teorias X e Y. Assinale a alternativa incorreta sobre os pressupostos dessas abordagens:.

a) A lógica de gestão da Teoria X é a centralização das decisões, ao contrário do papel de coordenador assumido pelo gestor na Teoria Y.
b) De acordo com a Teoria Y, as pessoas normalmente são esforçadas e se dedicam ao trabalho, contrariando a Teoria X, segundo a qual os funcionários tendem a ser indolentes e evitam as atividades laborativas.

c) As Teorias X e Y estão baseadas, respectivamente, nas abordagens do *homo economicus* e *homo complexus.*
d) A Teoria X baseia-se nos pressupostos da Administração Científica, diferindo-se da Teoria Y que adota a Administração por Objetivos como referencial.
e) A Teoria X propugna que as pessoas podem ser responsáveis e assumir responsabilidades no processo de trabalho.

32 Em 1961, foi publicado o livro *New Patterns of Management*, de autoria de Rensis Likert, que se tornaria uma obra de referência no campo dos estudos organizacionais. Na obra, foram estudados estilos de liderança e ações gerenciais, sendo a abordagem ainda bastante difundida. Sobre o tema, assinale a alternativa correta.

a) O processo decisório, no Sistema Autoritário Coercitivo, é centralizado, as comunicações são *top-down* e as relações são baseadas na desconfiança, fazendo uso de regimes disciplinares e regulamentos rígidos para controle dos funcionários.
b) No Sistema Participativo, os objetivos organizacionais são totalmente delegados, assim como o controle dos resultados, que podem ser sempre revistos para manutenção da harmonia entre os funcionários, a despeito dos interesses dos *stakeholders*.
c) No Sistema Consultivo, as recompensas aos funcionários são baseadas no simbolismo social, pois considera-se a importância da consulta como elemento de valorização e retribuição social.
d) No Sistema Autoritário Benevolente, as decisões operacionais podem ser delegadas e a ênfase disciplinar e nas punições é eliminada.
e) Os estilos de liderança são modelos definidos e estanques, sendo que apenas um *framework* deve ser adotado no contexto organizacional para não confundir os funcionários.

33 Considere as alternativas abaixo e assinale a incorreta.

a) O fluxograma representa os fluxos de processos e/ou materiais, contendo um início, indicação de sentido de movimentação e fim que são representados graficamente.
b) O *Just in Time*, originado do Sistema Japonês de Produção, não se aplica ao setor de serviços, ao contrário do *Kanban*.
c) A modelagem de processos organizacionais pode ser realizada por meio da metodologia do *Business Process Management* (BPM).
d) O organograma organizacional representa as estruturas hierárquicas das organizações, bem como os setores, unidades funcionais, cargos e relações.
e) Os *layouts* dos ambientes organizacionais podem ser classificados em posicionais e funcionais.

34 O Plano Diretor de Reforma do Aparelho de Estado (PDRAE), documento histórico do extinto Ministério da Administração e Reforma do Estado (MARE), apresentou a seguinte proposição sobre a reforma do estado brasileiro: "A reforma do Estado deve ser entendida dentro do contexto da redefinição do papel do estado, que deixa de ser o responsável direto pelo desenvolvimento econômico e social pela via da produção de bens e serviços, para fortalecer-se na função de promotor e regulador desse desenvolvimento" (Plano Diretor de Reforma do Aparelho de Estado, 1995, página 17). Assinale a alternativa correta sobre os efeitos da reforma de estado baseada no PDRAE no Estado brasileiro.

a) Adotou como norma a publicização das atividades do Núcleo Estratégico do Estado.
b) O setor de Produção de Bens e Serviços para o Mercado, área até então de atuação exclusiva da União, foi privatizada com a Emenda Constitucional nº. 19 de 1998, sendo a Telebrás um exemplo.
c) A reforma proporcionou a associação das formas de gestão burocrática e gerencial nas atividades do Núcleo Estratégico do Estado.
d) Incluiu a possibilidade de Organizações Sociais atuarem em Atividades Exclusivas do Estado.
e) Os Serviços Não-Exclusivos de estado passaram a ter maior flexibilidade para atuação com o mercado, como a criação de regimes jurídicos próprios para a força de trabalho.

35 Sobre a Administração Pública no Brasil, assinale a alternativa correta.

a) A burocracia foi adotada com a Constituição de 1998, causando o inchaço da máquina estatal.
b) Pode-se identificar a administração gerencial em diversos períodos históricos anteriores à década de 1990, pois o país sempre foi liberal.
c) O patrimonialismo teve fim no Brasil com o Brasil Império.
d) O gerencialismo e a burocracia podem ser identificados em diversos órgãos e níveis da federação, o que não elimina práticas patrimonialistas.
e) A criação do DASP, na década de 1930, acabou com as práticas patrimonialistas no Brasil.

36 Considerando a Administração de Materiais na Administração Pública, assinale a alternativa incorreta.

a) Tombamento é o procedimento de registro e incorporação de bens patrimoniais a órgãos da Administração Pública, sendo imprescindível o registro numérico do bem por meio de plaqueta para identificação, localização e controle.
b) Inventário físico é o procedimento de controle para verificar os equipamentos e materiais permanentes em uso ou em estoque nos órgãos públicos, podendo ser rotativo ou periódico.
c) O Termo de Responsabilidade e a Guia de Transferência de Material são imprescindíveis nas movimentações do patrimônio público.
d) Tombamento é o procedimento de registro e incorporação de bens patrimoniais a órgãos da Administração Pública, sendo o registro numérico realizado conforme as características do bem e de acordo com a avaliação de custo/benefício.
e) A alienação e o comodato são formas de baixa patrimonial na Administração Pública.

37 A gestão de materiais na Administração Pública deve ter como princípio evitar o desperdício e maximização do uso dos bens patrimoniais. Sobre a classificação de materiais e respectivas ações gerenciais, assinale a alternativa incorreta.

a) A classificação de um bem como de material permanente ou de consumo é uma classificação predominantemente contábil, pois diz respeito à natureza da despesa no Sistema Integrado de Administração Financeira do Governo Federal (Siafi).
b) Os materiais nos estoques podem ser classificados como perigosos, sendo a periculosidade atribuída conforme risco apresentado durante o manuseio ou transporte.
c) A perecibilidade é uma forma de classificação dos materiais que considera as propriedades físico-químicas e a possibilidade de deterioração antes do uso/consumo final.
d) A classificação XYZ avalia o quanto os materiais são indispensáveis para o desempenho da organização, considerando também a criticidade e importância operacional.
e) A classificação ou curva ABC se refere à sequência de materiais mais utilizados, que devem estar dispostos nos *layouts* dos estoques conforme facilidade de acesso, manuseio, transporte e operacionalização pelos órgãos finalísticos.

38 Os gestores públicos precisam de dados e informações para o processo de tomada de decisão. Os gráficos têm o papel de sintetizar informações. Alguns equívocos, contudo, podem ser cometidos no processo de elaboração de gráficos, comprometendo os dados e as informações apresentados. Ao analisar os gráficos, assinale a alternativa correta.

GRÁFICO A **GRÁFICO B**

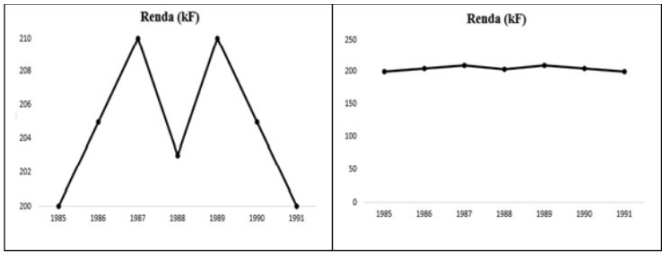

Fonte: BESSON, Jean-Louis. **A Ilusão das Estatísticas**. São Paulo: Unesp, 1992.

a) O gráfico em 'M' representa uma forma inadequada de apresentar a evolução da renda anual, sendo corrigido no gráfico de linha
b) A escala do gráfico "A" não começa em zero e os intervalos da escala são diferentes nos gráficos, o que altera a disposição das informações, fazendo crer que há maior flutuação na renda em "A"..
c) O gráfico "A" representa uma economia em crise, contrastando com o gráfico "B" que retrata atividade econômica estável e, portanto, renda também estável.
d) Os gráficos não adotam as normas da Associação Brasileira de Normas Técnicas (ABNT) na formatação, pois os títulos deveriam estar na parte superior em fonte Arial ou Times New Roman e tamanho 10.
e) Os gráficos estão com fundo branco e em moeda 'kF' em vez de 'R$'.

39 Sobre a utilização de gráficos para apresentação visual dos dados, assinale a alternativa incorreta quanto às boas práticas.

a) Gráficos em três dimensões devem ser utilizados apenas quando há três dimensões a representar, o que exclui gráficos em pizza.
b) Deve-se sempre iniciar a escala do eixo Y em zero.
c) Gráficos em pizza são recomendados sempre que possível, pois não há problemas de dimensionamento das participações em visualizações em duas dimensões.
d) É recomendada a não utilização de dois eixos Y.
e) A escala dos gráficos pode distorcer as informações, então é importante ter atenção ao construir gráficos comparativos.

40 Maria passou no concurso e foi alocada no setor de compras da universidade. Foi solicitada à Maria a classificação dos materiais a serem comprados para um laboratório de pesquisa, mas somente seriam comprados os materiais de consumo. Assinale a alternativa que corresponde unicamente a materiais de consumo.

a) Computador, cadernos, canetas, lápis
b) Livros, grampeador, cadernos, canetas, lápis, estante de aço
c) Tinta para impressora, livros, estante de aço, grampeador
d) Estante de aço, computador, grampeador, tinta para impressora
e) Lápis, grampeador, cadernos, canetas, tinta para impressora

41 Com relação a noções sobre sistema operacional, identifique a alternativa correta, entre as seguintes.

a) Sistema operacional é um programa ou um conjunto de programas cuja função é gerenciar os recursos do sistema, fornecendo uma interface entre o computador e o usuário.
b) Sistema operacional é o núcleo do hardware do computador, o componente eletrônico essencial para seu funcionamento.
c) Os computadores mais modernos não precisam de sistemas operacionais, pois eles já possuem circuitos inteligentes que os substituem.
d) Todos os sistemas operacionais usados em empresas possuem uma licença comercial para uso e são pagos. No entanto, sistemas operacionais livres e gratuitos são promissores para uso, no futuro, por empresas.
e) A Internet é o principal exemplo de sistema operacional, interligando milhões de computadores em todo mundo.

42 O correio eletrônico, ou e-mail, é um sistema de comunicação baseado no envio e recebimento de mensagens eletrônicas através de computadores pela Internet. As alternativas a seguir estão relacionadas com esse tópico. Qual delas está correta?

a) O endereço eletrônico ufma@ufma.br é inválido, pois não se pode repetir o nome de utilizador igual ao nome do domínio.
b) O correio eletrônico é anterior à Internet e foi, de fato, uma ferramenta crucial para criá-la.
c) É seguro receber arquivos anexados em e-mails, pois eles só podem ser encaminhados quando livres de vírus.
d) Chamamos de SPAM aquele e-mail crucial e importante que o usuário manualmente identifica em sua caixa eletrônica.
e) A comunicação por e-mail é considerada síncrona, com a troca imediata de mensagens entre usuários.

43 Na figura seguinte, está sendo preparada uma apresentação de slides em um editor. Qual das alternativas, relacionadas a essa figura, está correta?

a) De acordo com a figura, o autor já criou quatro slides para essa apresentação. Três deles aparecem em miniatura na esquerda da figura e há um quarto slide, que aparece maior, à direita da figura.
b) Não é possível editar slides que já estão prontos. Depois de salvos, os slides são bloqueados para edição, como pode ser visto na figura.
c) O autor dos slides tem que ter cuidado, pois ele não pode mudar a cor ou tamanho do seu texto. Tal funcionalidade está restrita a editores de texto, não a editores de slides.
d) A apresentação da figura poderia ser enriquecida com diversos recursos. O autor poderia desenhar gráficos e diagramas, inserir objetos e formas, formatar texto e imagens ou ativar animações.
e) A figura descreve uma planilha eletrônica usada para representar informações em uma grade de dados bidimensional.

44 Atualmente, a Universidade Federal do Maranhão (UFMA) possui um convênio que permite a docentes, discentes e técnicos da UFMA utilizarem um serviço de armazenamento de arquivos na nuvem de uma grande empresa de tecnologia. Identifique qual é a alternativa correta, relacionada a tal serviço, entre as seguintes.

a) Quando se copia um arquivo para a nuvem, o usuário, obrigatoriamente, é informado em que computador o arquivo está sendo armazenado. Essa é uma das garantias oferecidas pelo serviço.
b) Legalmente, funcionários da UFMA não podem ter arquivos armazenados na nuvem por causa da Lei Geral de Proteção de Dados (LGPD) que entrou em vigor recentemente. Por isso, o referido serviço está sendo descontinuado.
c) É possível organizar a estrutura de pastas e arquivos na nuvem de forma bem parecida a como se organiza a estrutura de pastas e arquivos localmente em seu computador.
d) A principal vantagem de a UFMA usar um serviço de arquivos em nuvem é que, desta forma, é possível que o administrador do serviço acesse todos os arquivos de todos os usuários da UFMA com sua senha. Isso gera pouca privacidade, mas muita segurança.
e) Uma dificuldade imposta por serviços de armazenamento de arquivos em nuvem é que o usuário precisa manter uma cópia desses arquivos localmente em seu computador para que ele funcione. Apesar disso, o serviço é bem prático e simples.

45 Com relação ao conceito de software livre, qual das alternativas seguintes está correta?

a) Se o usuário modificar um software livre, fica vedada a possibilidade de distribuir cópias dessa versão modificada. No entanto, ele ainda pode fazer uso pessoal dessa versão modificada, desde que não envolva terceiros.
b) Software livre não pode ser comercial. O suporte a software livre é sempre gratuito, garantido pela licença.
c) A Universidade Federal do Maranhão (UFMA) não utiliza software livre em seus equipamentos por questões legais.
d) Uma confusão comum é das pessoas acreditarem que, em um software livre, há sempre a possibilidade de estudar como o programa funciona. Na verdade, o acesso ao código-fonte é opcional, dependendo do modelo de negócios do criador daquele software livre.
e) Para um programa ser considerado software livre, é requerido que os usuários tenham todas as liberdades de executar, copiar, distribuir, estudar, mudar e melhorar o software.

46 Um trabalhador recebe seu salário de acordo com a sua produção. Em 2021, de janeiro a maio, ele recebeu R$ 2.000,00, por mês; de junho a agosto, ele recebeu R$ 2.600,00, por mês e, de setembro a dezembro, R$ 3.000, 00, por mês. Podemos afirmar que o salário médio mensal desse trabalhador em 2021 foi de:

a) R$ 2530,00
b) R$ 2500,00
c) R$ 2600,00
d) R$ 2450,00
e) R$ 2550,00

47 Uma máquina produz peças para a indústria automotiva, com produção de 1.000 peças em 30 minutos. Devido à pandemia, houve a necessidade de aumentar a produção, e a empresa adquiriu outra máquina, mais potente, que consegue produzir 1.000 peças em 20 minutos. As duas máquinas, trabalhando juntas, produzirão 5.000 peças em aproximadamente:

a) 60 minutos
b) 45 minutos
c) 40 minutos
d) 35 minutos
e) 50 minutos

48 Para ir à universidade, Artur gasta 45 minutos, quando vai de carro (de carona com os amigos) e volta a pé. Já, quando vai e volta de carro, ele gasta 30 minutos. Considerando que, para cada meio de transporte utilizado, o tempo gasto para ir é igual ao tempo gasto para voltar, podemos afirmar que o tempo gasto para ele ir e voltar a pé é de:

a) uma hora e trinta minutos
b) uma hora dez minutos
c) uma hora
d) uma hora e quinze minutos
e) uma hora e vinte minutos

49 O salário mínimo de 2009 foi de R$ 465,00 e, em 2021, foi de R$ 1.100,00. Considerando que o índice de inflação (IPCA), acumulado no período de 2009 a 2021, foi de 111,55% (*Fonte: Calculadora do cidadão - Banco Central do Brasil*), podemos afirmar que o salário mínimo de 2021 ficou acima da inflação acumulada nesse período, em aproximadamente,

a) 10%
b) 7%
c) 15%
d) 12%
e) 5%

50 A tabela abaixo mostra os dados históricos do salário mínimo e do preço médio do litro de gasolina, em reais, de 2010 a 2021. Com base nessa tabela, o ano em que se podia comprar a maior quantidade de gasolina com um salário mínimo foi:

Ano	Salário (R$)	Preço gasolina (R$)
2010	510	2,58
2011	540	2,67
2012	622	2,74
2013	678	2,89
2014	724	2,98
2015	788	3,32
2016	880	3,73
2017	937	3,69
2018	954	4,20
2019	998	4,31
2020	1045	4,46
2021	1100	5,49

a) 2018
b) 2017
c) 2010
d) 2012
e) 2021

.