EMPRESA PARAIBANA DE COMUNICAÇÃO

CONCURSO PÚBLICO

008. PROVA OBJETIVA | NARRADOR ESPORTIVO

- Você recebeu sua folha de respostas e este caderno contendo 100 questões objetivas.
- Confira seus dados impressos na capa deste caderno e na folha de respostas.
- Quando for permitido abrir o caderno, verifique se está completo ou se apresenta imperfeições. Caso haja algum problema, informe ao fiscal da sala para a devida substituição desse caderno.
- Leia cuidadosamente todas as questões e escolha a resposta que você considera correta.
- Marque, na folha de respostas, com caneta de tinta preta, a letra correspondente à alternativa que você escolheu.
- A duração da prova é de 5 horas, já incluído o tempo para o preenchimento da folha de respostas.
- Só será permitida a saída definitiva da sala e do prédio após transcorridos 75% do tempo de duração da prova.
- Deverão permanecer em cada uma das salas de prova os 3 últimos candidatos, até que o último deles entregue sua prova, assinando termo respectivo.
- Ao sair, você entregará ao fiscal a folha de respostas e este caderno.
- Até que você saia do prédio, todas as proibições e orientações continuam válidas.

AGUARDE A ORDEM DO FISCAL PARA ABRIR ESTE CADERNO.

Nome do candidato

RG | Inscrição | Prédio | Sala | Carteira

FUNDAÇÃO vunesp

Confidencial até o momento da aplicação.

CONHECIMENTOS GERAIS

Língua Portuguesa

Leia a tira para responder às questões de números **01** e **02**.

(Caco Galhardo, "Daiquiri". *Folha de S.Paulo*, 21.01.2023)

01. Para o Professor Rocha, a frase do seu interlocutor, no segundo quadrinho, configura-se como uma

(A) crítica.

(B) ordem.

(C) injúria.

(D) sugestão.

(E) advertência.

02. Sem prejuízo de sentido ao texto, o trecho destacado na frase do primeiro quadrinho – **Mesmo sem chocolate**, minha barriga só cresce. – pode ser reescrito da seguinte forma:

(A) Porque sem chocolate.

(B) Inclusive sem chocolate.

(C) Realmente sem chocolate.

(D) Embora sem chocolate.

(E) Porventura sem chocolate.

Leia o texto para responder às questões de números **03** a **09**.

China, Índia e a nova ordem social

Há séculos a China é o país mais populoso do planeta. Na última década se tornou também o maior produtor industrial, maior exportador, com as maiores reservas internacionais e, em poder de compra, a maior economia. Mas, no dia 15, o governo anunciou o primeiro declínio populacional desde os anos 60. Naquela época foi algo episódico – consequência da fome –, mas agora será contínuo: em 2050, a população deverá ser 8% menor. A ONU projeta que a população da Índia ultrapassará a da China em abril, e crescerá até um pico, em 2064, de 1,7 bilhão, 50% maior que a da China. Isso não significa que a Índia conquistará as outras primazias da China. Mas tentará. E essa competição moldará o século 21.

A redução demográfica chinesa foi fabricada. Após a fome causada pelo "Grande Salto Adiante" maoísta, o Partido Comunista ativou suas políticas de controle, com a campanha "mais tarde, mais longo, menos" – adiar casamentos, ampliar o intervalo entre os filhos e ter menos filhos. Em 1980, implementou a política "um filho", envolvendo esterilizações e abortos forçados. O milagre econômico chinês resultou em parte da alteração abrupta na proporção entre adultos em idade de trabalho e crianças. Mas, agora que a população está envelhecendo, o peso dos idosos cobrará seu preço. A força de trabalho encolhe há anos, retesando a economia, e o sistema de seguridade está mal equipado. A mais ambiciosa política populacional da história foi não só um crime, mas está se provando um tiro no pé. O Partido reverteu sua política de natalidade, oferecendo dinheiro por mais filhos, acesso à fertilização in vitro e restringindo o aborto – mas sem sucesso.

No passado, a Índia também implementou controles draconianos, incluindo esterilizações em massa. Mas seu insucesso lhe dá agora vantagens comparativas. Sua população não só está crescendo, como é significativamente mais jovem que a da China. Metade tem menos de 30 anos. Com esse bônus demográfico – mais trabalhadores do que dependentes –, a Índia é uma das economias que cresceram mais rápido nos últimos anos, ultrapassou a do Reino Unido como a quinta maior, e até 2030 deve se tornar a terceira maior.

(Opinião. https://www.estadao.com.br/opiniao, 24.01.2023. Adaptado)

03. Em relação à redução demográfica da China, o editorial deixa claro que ela decorre de uma

(A) condição natural do país que, desde os anos 60, incentivava a natalidade.

(B) competição populacional com a Índia, que queria superá-la na economia.

(C) política populacional cuja finalidade era o equilíbrio econômico do país.

(D) tentativa política de superar economicamente os países do ocidente.

(E) exigência da ONU ao país cuja população aumentava sem controle.

04. O editorial ressalta que a Índia

(A) tem economia mais competitiva do que a da China, porque controla a natalidade.

(B) apresenta taxas equivalentes para os grupos de trabalhadores e de dependentes.

(C) terá, até 2064, uma maior população de idosos, perdendo seu bônus demográfico.

(D) poderia ter vantagens sobre a China, mas as esterilizações em massa fracassaram.

(E) possui vantagem com a população significativamente mais jovem que a da China.

05. O editorial é um gênero textual predominantemente

(A) argumentativo, com a análise da relação entre o contingente populacional e o desenvolvimento econômico dos países.

(B) narrativo, com o relato pormenorizado das situações vividas pelos países na busca pelo desenvolvimento social e econômico.

(C) descritivo, com a caracterização de dois países e da forma como crescem ao longo dos tempos as suas populações.

(D) expositivo, com a apresentação de dados com a intenção de mostrar a fragilidade social e econômica de dois países.

(E) injuntivo, com a interação com o leitor, mostrando que os dois países são altamente competitivos na área econômica.

06. No trecho do primeiro parágrafo – **Isso** não significa que a Índia conquistará **as outras primazias** da China. –, as expressões destacadas têm como referências, correta e respectivamente, as informações:

(A) a expectativa de controle da população da Índia; a vantagem econômica da Índia.

(B) a diminuição da população da China; a China ter a maior população do planeta.

(C) o anúncio do governo sobre a população chinesa; a vitimização da China pela fome.

(D) o crescimento da população da Índia; o potencial econômico da China.

(E) o declínio população da China e da Índia; a competição econômica entre China e Índia.

07. Há relação de coordenação entre as orações em:

(A) Naquela época foi algo episódico – consequência da fome –, mas agora será contínuo…

(B) A ONU projeta que a população da Índia ultrapassará a da China em abril…

(C) Isso não significa que a Índia conquistará as outras primazias da China.

(D) Após a fome causada pelo “Grande Salto Adiante” maoísta, o Partido Comunista ativou suas políticas de controle…

(E) … a Índia é uma das economias que cresceram mais rápido nos últimos anos…

08. Assinale a alternativa em que a colocação do pronome átono destacado está em conformidade com a norma-padrão.

(A) A China é o país mais populoso do planeta. **Se** tornou, na última década, o maior exportador.

(B) O insucesso das esterilizações na Índia agora tem dado-**lhe** vantagens comparativas.

(C) Anunciou-**se**, no dia 15, o primeiro declínio populacional da China desde os anos 60.

(D) Na Índia, também implementariam-**se** controles draconianos, com esterilizações em massa.

(E) A Índia é uma das economias que desenvolveram-**se** mais rápido nos últimos anos.

09. Na passagem do segundo parágrafo – Em 1980, implementou a política “um filho”, **envolvendo esterilizações e abortos forçados**. –, a oração destacada está corretamente reescrita em:

(A) ainda que envolvia esterilizações e abortos forçados.

(B) de que envolveu esterilizações e abortos forçados.

(C) que envolvia esterilizações e abortos forçados.

(D) caso envolvesse esterilizações e abortos forçados.

(E) onde envolvera esterilizações e abortos forçados.

Leia a tira para responder às questões de números **10** e **11**.



(Bill Waterson, *"O Melhor de Calvin"*. https://cultura.estadao.com.br/quadrinhos, 31.01.2023. Adaptado)

10. De acordo com a norma-padrão, as lacunas da tira devem ser preenchidas, respectivamente, com:

(A) Pendure ele … arranje-me

(B) Pendure-o … me arranje

(C) Pendure este … me arranja

(D) Pendure-o … arranje-me

(E) Pendure ele … me arranja

11. Na fala da mãe, os verbos empregados na forma imperativa exprimem sentido de

(A) desdém.

(B) carinho.

(C) ironia.

(D) pedido.

(E) hipótese.

12. Considere os títulos de matérias *online* dos veículos de comunicação:

- O _____ combate à corrupção (*Estadão*, 02.02.2023)
- Surto de H5N1 em mamíferos _____ receio de nova pandemia (*Superinteressante*, 27.01.2023)
- Cursinho promove aulões _____ para concurso no DF (*Correio Braziliense*, 02.02.2023)
- Professores municipais de Fortaleza decidem manter _____ (*Diário do Nordeste*, 02.02.2023)

De acordo com a ortografia oficial, as lacunas dos títulos apresentados devem ser completadas, respectivamente, com:

(A) mau … desperta … beneficientes… paralisação

(B) mal … desperta … beneficientes… paralização

(C) mau … disperta … beneficientes… paralização

(D) mal … disperta … beneficentes… paralização

(E) mau … desperta … beneficentes … paralisação

Leia o texto para responder às questões de números **13** e **14**.

A crônica foi um gênero literário brasileiro por excelência durante décadas, no tempo em que a imprensa reservava espaços generosos para que escritores como Rubem Braga, Fernando Sabino, Clarice Lispector e Otto Lara Resende se debruçassem sobre os mais desimportantes temas para revelar o que de mais sublime há na vida em suas crônicas. Drummond foi um desses autores, conforme ele mesmo escreve em *A Visita da Borboleta*: "Discorram meus colegas sobre assuntos graúdos, nacionais e internacionais, que hoje eu fico com as borboletas."

(https://www.estadao.com.br, 26.12.2020. Adaptado)

13. A passagem "se debruçassem sobre os mais desimportantes temas para revelar o que de mais sublime" revela que a crônica

(A) supera os demais gêneros literários por ser naturalmente sublime.

(B) é um gênero literário que, na essência, tem uma beleza limitada.

(C) tem a sua excelência alimentada pelos temas simples do cotidiano.

(D) tinha espaço demais na imprensa, sem que fosse esteticamente bela.

(E) poderia ter um impacto social maior, se seus temas fossem grandiosos.

14. Com a frase – "Discorram meus colegas sobre assuntos graúdos, nacionais e internacionais, que hoje eu fico com as borboletas." –, Drummond sugere que

(A) seu grande sonho seria escrever sobre assuntos sérios e não frivolidades.

(B) seus colegas trataram de assuntos graves, e a ele ficaram os mais leves.

(C) sua literatura é leve, perseguindo os exemplos de seus grandes colegas.

(D) suas borboletas representam uma visão contundente da humanidade.

(E) seus temas se distanciam da realidade, por isso são desimportantes.

Leia o texto para responder às questões de números **15** a **19**.

Ser cronista

Sei que não sou, mas tenho meditado ligeiramente no assunto.

Crônica é um relato? É uma conversa? É um resumo de um estado de espírito? Não sei, pois antes de começar a escrever para o Jornal do Brasil, eu só tinha escrito romances e contos.

E também sem perceber, à medida que escrevia para aqui, ia me tornando pessoal demais, correndo o risco de em breve publicar minha vida passada e presente, o que não pretendo. Outra coisa notei: basta eu saber que estou escrevendo para o jornal, isto é, para algo aberto facilmente por todo o mundo, e não para um livro, que só é aberto por quem realmente quer, para que, sem mesmo sentir, o modo de escrever se transforme. Não é que me desagrade mudar, pelo contrário. Mas queria que fossem mudanças mais profundas e interiores que não viessem a se refletir no escrever. Mas mudar só porque isso é uma coluna ou uma crônica? Ser mais leve só porque o leitor assim o quer? Divertir? Fazer passar uns minutos de leitura? E outra coisa: nos meus livros quero profundamente a comunicação profunda comigo e com o leitor. Aqui no jornal apenas falo com o leitor e agrada-me que ele fique agradado. Vou dizer a verdade: não estou contente.

(Clarice Lispector, *A descoberta do mundo*)

15. No texto, a autora deixa evidente que escrever crônicas é

(A) melancólico, porque a manifestação dos sentimentos pessoais reforça seus medos e suas angústias.

(B) alentador, porque consegue capturar a essência do público leitor e falar com ele sem medo de se mostrar.

(C) paradoxal, porque estabelece uma relação profunda com o leitor e, ao mesmo tempo, a leitura é breve.

(D) incômodo, porque a relação com o público leitor é superficial e, além disso, a escrita pessoal desagrada.

(E) inspirador, porque a intimidade com o leitor é muito maior do que com os leitores de romances e contos.

16. Em suas considerações, a autora confirma que

(A) escreve crônicas com o intuito de incomodar os leitores.

(B) prefere escrever romances e contos a escrever crônicas.

(C) ganha leitores de romances e contos ao escrever crônicas.

(D) está feliz com as mudanças que as crônicas lhe trouxeram.

(E) enxerga nas crônicas um modo mais complexo de ver a vida.

17. Identifica-se oração subordinada que expressa sentido de tempo em:

(A) Não sei, pois **antes de começar a escrever para o Jornal do Brasil**…

(B) … **à medida que escrevia para aqui**, ia me tornando pessoal demais…

(C) Outra coisa notei: basta eu saber **que estou escrevendo para o jornal**…

(D) Não é **que me desagrade mudar**, pelo contrário.

(E) Aqui no jornal apenas falo com o leitor **e agrada-me** que ele fique agradado.

18. De acordo com a norma-padrão, no trecho – Mas queria que **fossem** mudanças mais profundas e interiores que não **viessem** a se refletir no escrever. –, se a forma verbal “queria” for substituída por “quero”, as formas verbais destacadas devem ser substituídas, respectivamente, por:

(A) serão; vão

(B) eram; vinham

(C) são; vêm

(D) seriam; vissem

(E) sejam; venham

19. No trecho – Outra coisa notei: basta eu saber que estou escrevendo para o jornal, isto é, para algo aberto facilmente por todo o mundo… –, o sinal de dois-pontos e as vírgulas são empregadas, correta e respectivamente, com a finalidade de

(A) acrescentar um comentário e separar expressão corretiva.

(B) esclarecer uma informação e separar expressão explicativa.

(C) detalhar uma informação e separar expressão exemplificativa.

(D) corrigir um comentário e separar expressão explicativa.

(E) inserir um argumento contrário e separar expressão corretiva.

20. Duas pesquisas divulgadas recentemente apontam para um problema grave: a crescente desconfiança de parcelas da população brasileira em relação _____ vacinas. Tal resistência _____ elas, alimentada por desinformação, tem contribuído para a queda dos índices de cobertura vacinal no País. Nos últimos anos, as principais metas de imunização do calendário infantil não foram atingidas, um risco _____ saúde de milhões de crianças − e um alerta para as autoridades.

(Opinião. https://www.estadao.com.br/opiniao, 24.01.2023.Adaptado)

Em conformidade com a norma-padrão, as lacunas do texto devem ser preenchidas, respectivamente, com:

(A) às … à … a

(B) à … a … a

(C) às … a … à

(D) a … à … a

(E) as … à … à

21. Assinale a alternativa em que ambas as palavras estão acentuadas em conformidade com a norma-padrão.

(A) Solicitamos que os técnicos que **lêem** as provas em braile sejam alocados nas salas do segundo andar, onde **há** mais espaço.

(B) As **seqüências** de leitura permitiram que os jovens tivessem uma ampliação de conhecimentos sobre a literatura **romântica**.

(C) O **rítmo** dos trabalhos era tranquilo e, por essa razão, a produtividade da **fábrica** não exauria a capacidade física de seus funcionários.

(D) Era comum nos romances o amor proibido entre uma **plebéia** e um **príncipe**, o que implicava muitas reviravoltas até o final feliz do casal.

(E) A **saúva** é formiga presente em quase todos os **países** da América. Costuma cortar folhas e carregá-las para dentro de seus ninhos.

22. Considerando-se a especificidade da correspondência oficial e a norma-padrão, um enunciado adequado a um documento oficial é:

(A) É proibida que uma pessoa estranha ao setor entre sem a devida identificação.

(B) Encaminham-se, anexas, as procurações solicitadas na última reunião setorial.

(C) A maioria das decisões tomadas na reunião é bom para o andamento dos projetos.

(D) Esperam-se que hajam novos candidatos habilitados para a vaga que ficou ociosa.

(E) Foi elucidativo na reunião a ponderação do diretor sobre o pagamento de diárias.

23. Considerando-se a adequação do formato do texto ao gênero, o documento que segue o padrão ofício é

(A) a ata.

(B) o parecer.

(C) a portaria.

(D) o memorando.

(E) o requerimento.

24. Um ofício de um funcionário de nível técnico endereçado a um deputado deverá conter os seguintes Vocativo e Fecho, respectivamente:

(A) Senhor Deputado; Respeitosamente.

(B) Caro Deputado; Atenciosamente.

(C) Digníssimo Senhor Deputado; Respeitosamente.

(D) Ilustríssimo Deputado; Atenciosamente.

(E) Sua Excelência Senhor Deputado; Respeitosamente.

25. A correspondência oficial tem a sua linguagem marcada pela impessoalidade. Esse princípio está seguido em:

(A) Não há como não se irritar com a falta de compromisso da maioria das pessoas da equipe, que se mostram distantes, indiferentes e pouco interativas.

(B) Alguns funcionários têm pulado fora do barco quando os problemas aparecem, e não parecem interessados em vestir a camisa da repartição.

(C) Seguimos em frente com o atendimento ao público, dando show na prestação de serviços à comunidade, que tem sido muito parceira e irmã de todos.

(D) Meu relato traz um retrato fiel do que tenho encontrado na repartição, e fico feliz pelo compartilhamento detalhado de minhas impressões.

(E) Houve empenho da equipe para a identificação dos problemas recorrentes nas novas máquinas instaladas e posterior solução deles.

Raciocínio Lógico

26. Considere a seguinte afirmação:

Se subir a montanha é difícil, então a paisagem compensa.

Assinale a alternativa que contém uma equivalente lógica à afirmação apresentada.

(A) Subir a montanha é difícil e a paisagem compensa.

(B) Subir a montanha não é difícil e a paisagem não compensa.

(C) Se a paisagem não compensa, então subir a montanha não é difícil.

(D) Se subir a montanha é difícil, então a paisagem não compensa.

(E) Subir a montanha não é difícil ou a paisagem não compensa.

27. Considere verdadeiras as afirmações:

I. Todos os advogados são formados em Direito.

II. Alguns que se formaram em Direito não são advogados.

A partir dessas afirmações é logicamente verdadeiro que

(A) qualquer pessoa que se forma em Direito é um advogado.

(B) os advogados que não se formaram em Direito não podem ser juízes.

(C) há pessoas que se tornaram advogados sem serem formados em Direito.

(D) as pessoas que não são advogados não se formaram em Direito.

(E) há pessoas que se formaram em Direito e são advogados.

28. Uma enquete foi feita em um grupo de certo número de homens e 37 mulheres. O resultado da enquete apontou que 50 dessas pessoas possuem casa própria, que 7 homens não possuem casa própria e que 29 mulheres possuem casa própria. Com essas informações é correto afirmar que o número de pessoas que são homens ou não possuem casa própria é igual a

(A) 29.

(B) 36.

(C) 38.

(D) 43.

(E) 45.

29. Daniel, Rodrigo e Tadeu são amigos e suas idades são 32, 35 e 41 anos, não necessariamente nessa ordem. Um deles tem 1 filho, outro tem 2 e outro tem 4, não necessariamente nessa ordem. Daniel não é o mais velho. O filho único de Tadeu estuda na mesma escola infantil dos trigêmeos do amigo mais velho. O amigo mais novo tem um casal de filhos.

Sendo assim, é correto concluir que

(A) Daniel tem 4 filhos.

(B) Tadeu tem 32 anos.

(C) Rodrigo tem apenas 2 filhos.

(D) Daniel tem 35 anos.

(E) Rodrigo tem 41 anos.

30. Na sequência numérica 4, 2, 16, 8, 36, 18, 64, 32, 100, ..., o número 4 é o primeiro elemento. Mantendo-se o padrão da sequência, a diferença entre o 22º e o 20º termos é igual a

(A) 24.

(B) 26.

(C) 38.

(D) 42.

(E) 76.

31. Em um grupo de músicos há cantores, zabumbeiros e sanfoneiros. O diagrama lógico a seguir apresenta a distribuição desses músicos em relação às suas habilidades pessoais. Todas regiões do diagrama, incluindo as intersecções, têm representantes.

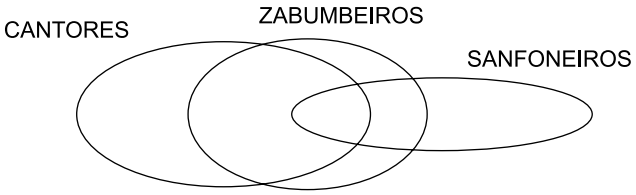

A partir das informações fornecidas pelo diagrama é correto afirmar que

(A) qualquer cantor que é zabumbeiro é também sanfoneiro.

(B) há pelo menos um sanfoneiro que é cantor e não é zabumbeiro.

(C) os sanfoneiros cantores também são zabumbeiros.

(D) não há zabumbeiro que seja apenas zabumbeiro.

(E) os zabumbeiros cantores não são sanfoneiros.

32. Em um escritório trabalham 10 funcionários, sendo 7 mulheres e 3 homens. A empresa sorteará 2 deles para tirarem férias no mês de julho. A probabilidade de se obter no sorteio duas mulheres, é um número entre

(A) 30 % e 35 %.

(B) 35 % e 40 %.

(C) 40 % e 45 %.

(D) 45 % e 50 %.

(E) 50% e 55 %.

33. Considere a seguinte afirmação: No próximo feriado a viagem será para a praia ou iremos para perto de uma represa.

Uma negação lógica para a afirmação apresentada é:

(A) No próximo feriado a viagem será ou para a praia ou iremos para perto de uma represa.

(B) No próximo feriado a viagem não será para a praia e iremos para perto de uma represa.

(C) No próximo feriado a viagem não será para a praia e não iremos para perto de uma represa.

(D) No próximo feriado a viagem não será para a praia ou não iremos para perto de uma represa.

(E) No próximo feriado a viagem será para a praia e não iremos para perto de uma represa.

34. Uma casa de lanches prepara sanduíches alterando entre 4 tipos de pães, 3 tipos de creme para passar no pão e 5 tipos diferentes de recheio. Até que se esgotem todas as possibilidades de sanduíches distintos contendo esses três ingredientes, essa casa de lanches não prepara sanduíches repetidos. Em um certo dia eles prepararam e venderam 89 sanduíches. O número de sanduíches que foram repetidos é igual a

(A) 29.

(B) 32.

(C) 48.

(D) 60.

(E) 66.

35. O piso de uma sala retangular de medidas 8 m e 6 m deve ser revestido com dois tipos de lajotas: uma delas no formato retangular, de lados medindo 25 cm e 10 cm, e a outra no formato quadrado, de lados medindo 20 cm. Metade da área do piso da sala deve conter um tipo de lajota e a outra metade deve conter o outro tipo de lajota. Desconsiderando os possíveis espaços entre as lajotas ao serem assentadas e também a distribuição delas na sala, o número mínimo total dessas lajotas, necessárias para o revestimento da sala, é igual a

(A) 1 400.

(B) 1 560.

(C) 1 620.

(D) 1 680.

(E) 1 740.

Noções de Informática

36. Tem-se uma pasta no Microsoft Windows 10, em sua configuração padrão, apenas com 4 subpastas. Assinale a alternativa que exibe, de forma correta, as 4 subpastas, ordenadas de forma ascendente, pelo nome.

(A) **Nome**
A
001
0100
B

(B) **Nome**
001
A
B
0100

(C) **Nome**
001
0100
A
B

(D) **Nome**
A
B
001
0100

(E) **Nome**
0100
A
B
001

37. Considere 2 pastas no Microsoft Windows 10, em sua configuração padrão, chamadas ARQUIVOS e PROJETOS. A pasta ARQUIVOS contém 2 arquivos texto, sendo Arquivo1.txt e Arquivo2.txt. A pasta PROJETOS está vazia.

Nome
ARQUIVOS
PROJETOS

Após selecionar a pasta ARQUIVOS com o botão principal do mouse, arrastá-la, sem soltar o botão, para a pasta PROJETOS e, finalmente, soltar o botão do mouse, a pasta PROJETOS conterá

(A) os arquivos Arquivo1.txt e Arquivo2.txt, apenas.

(B) os arquivos Arquivo1.txt e Arquivo2.txt, compactados em um único arquivo.

(C) a pasta ARQUIVOS, mas sem os arquivos Arquivo1.txt e Arquivo2.txt.

(D) a pasta ARQUIVOS e os arquivos Arquivo1.txt e Arquivo2.txt, todos no mesmo nível.

(E) a pasta ARQUIVOS e, dentro dela, seus arquivos Arquivo1.txt e Arquivo2.txt.

38. Tem-se uma pasta com apenas 1 arquivo no Microsoft Windows 10, em sua configuração original. Para gerar uma cópia desse arquivo, o usuário deve selecioná-lo com o botão principal do mouse e pressionar as teclas _____ e depois as teclas _____.

Assinale a alternativa que preenche, correta e respectivamente, as lacunas do texto.

(A) CTRL+X … CTRL+C

(B) CTRL+C … CTRL+V

(C) CTRL+C … CTRL+A

(D) CTRL+A … CTRL+V

(E) CTRL+V … CTRL+X

39. Considere o seguinte documento, editado no Microsoft Word 2016, em sua configuração original, com uma linha de texto, estando apenas a última palavra em itálico, sublinhado e negrito.

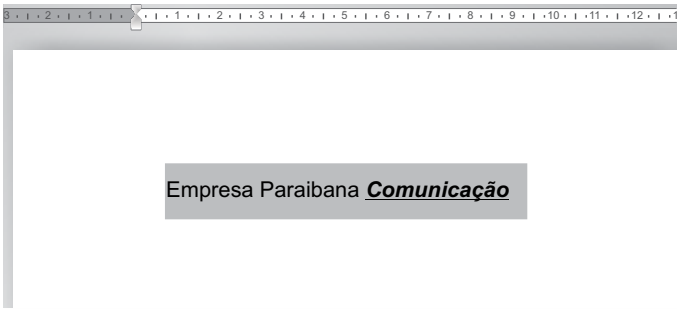

Conforme imagem anterior, ao se selecionar toda a linha, clicar no ícone Limpar Toda a Formatação e posicionar o cursor do mouse no final da linha, a próxima palavra a ser digitada estará

(A) sem nenhuma formatação.

(B) formatada em itálico, sublinhado e negrito.

(C) formatada em itálico e sublinhado, apenas.

(D) formatada em negrito, apenas.

(E) formatada em itálico, apenas.

40. Em um novo documento em branco, criado no Microsoft Word 2016, em sua configuração original, um usuário clicou no ícone sublinhado e digitou a palavra Empresa. Depois clicou novamente no ícone sublinhado, pressionou a barra de espaços, digitou a palavra Paraibana e pressionou a barra de espaços novamente. Finalmente clicou mais uma vez no ícone sublinhado e digitou a palavra Comunicação.

Assinale a alternativa que apresenta corretamente a aparência do texto digitado após as ações.

(A) Empresa Paraibana Comunicação

(B) Empresa Paraibana Comunicação

(C) Empresa Paraibana Comunicação

(D) Empresa Paraibana Comunicação

(E) Empresa Paraibana Comunicação

41. Usando o Linux, em sua configuração original, assinale a alternativa correta sobre o resultado do comando a seguir, considerando que o usuário tem todas as permissões para executá-lo.

ls > arquivo.txt

(A) Procura no diretório pelo arquivo arquivo.txt no diretório.

(B) Procura no diretório por arquivos com tamanho maior do que o arquivo arquivo.txt.

(C) Exibe o conteúdo do arquivo arquivo.txt.

(D) Armazena a listagem do conteúdo do diretório em uso no arquivo arquivo.txt.

(E) Marca o arquivo arquivo.txt como apenas leitura.

42. No Linux, em sua configuração original, existe uma árvore de diretórios dir1/dir2/dir3/dir4. O comando rmdir dir1/dir2/dir3/dir4 irá apagar

(A) os diretórios dir4, dir3, dir2 e dir1.

(B) os arquivos que existem no diretório dir4, apenas.

(C) o diretorio dir1, apenas.

(D) o diretório dir4, apenas, desde que esteja vazio.

(E) os diretorios dir1 e dir4, apenas.

43. Considere a seguinte estrutura de diretórios do Linux, em sua configuração original.

dir1/dir2/dir3/dir4

Estando dentro do dir3, ao digitar o comando *cd ..* e pressionar ENTER, o usuário será posicionado no diretório

(A) root

(B) dir1

(C) dir2

(D) dir3

(E) dir4

44. Considere a seguinte planilha, criada no Microsoft Excel 2016, em sua configuração original.

	A
1	aa
2	123aa
3	aa123
4	123aa123
5	123aa123aa123

Ao digitar, na célula A6, a função =CONT.SE(A1:A5;"aa"), o resultado será

(A) 1

(B) 2

(C) 3

(D) 4

(E) 5

45. A seguinte planilha foi criada no Microsoft Excel 2016, em sua configuração original.

	A	B
1	9	7
2	10	5
3	6	8

Ao inserir a função =MAIOR(A1:B3;1) na célula A4, o resultado é 10.

Assinale a alternativa que apresenta a função que deveria estar na célula A4 para exibir 9 como resultado.

(A) =MAIOR(A1:B3; 10)

(B) =MAIOR(A1:B3; 0)

(C) =MAIOR(A1:B3; 9)

(D) =MAIOR(A1:B3; -1)

(E) =MAIOR(A1:B3; 2)

46. Considere a seguinte planilha, criada no Microsoft Excel 2016, em sua configuração original.

	A	B
1	18/02/2023	

Assinale a alternativa com a fórmula a se adicionar na célula B1, para somar 2 dias ao conteúdo da célula A1 e mostrar, assim, 20/02/2023.

(A) =A1+(DIA(A1)+2)

(B) =DIA(A1)+2

(C) =A1+DIA(A1)

(D) =A1+HORA(48)

(E) =A1+2

47. Em uma apresentação de 10 slides, criada no Microsoft PowerPoint 2016, em sua configuração padrão, um usuário está com o Modo de Apresentação ativo, exibindo o slide 4. Considerando que não existem slides ocultos ou animações, a apresentação foi subitamente interrompida, voltando a exibir o modo de edição de slides.

Isso significa que foi pressionada a tecla

(A) END

(B) HOME

(C) PAGE DOWN

(D) ESC

(E) TAB

48. Usando o Microsoft PowerPoint 2016, em sua configuração padrão, um usuário iniciou o Modo de Apresentação e uma barra foi exibida, conforme imagem a seguir.

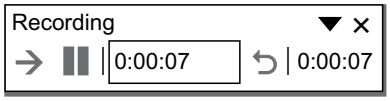

Esse usuário

(A) está reproduzindo um áudio inserido na apresentação.

(B) está reproduzindo um vídeo inserido na apresentação.

(C) iniciou o ensaio de sua apresentação, através da opção Testar Intervalos da guia Apresentação de Slides.

(D) está definindo a ordem de exibição das animações.

(E) exportou a apresentação em formato de vídeo.

49. Navegando na internet com o Google Chrome 104, em sua configuração padrão, um usuário abriu um web site, e a estrela que fica à direita na barra de endereços foi preenchida, conforme imagem a seguir.

Isso indica que esse web site

(A) é um site seguro.

(B) está marcado como favoritos.

(C) é um site não seguro.

(D) tem downloads efetuados ainda não abertos.

(E) está configurado como página inicial.

50. Em uma janela aberta do Google Chrome 104, em sua configuração original, a condição verdadeira para que as teclas CTRL+W tenham o mesmo efeito das teclas ALT+F4 é que haja

(A) apenas 1 aba aberta no Google Chrome.

(B) apenas 2 abas abertas no Google Chrome, e nenhuma delas seja a página inicial.

(C) apenas 2 abas abertas no Google Chrome, e uma delas seja a página inicial.

(D) 2 ou mais abas abertas no Google Chrome, e nenhuma delas seja a página inicial.

(E) 2 ou mais abas abertas no Google Chrome, e uma delas seja a página inicial.

Legislação

51. Com relação ao valor da "Sustentabilidade", com base no Código de Conduta e Integridade da Empresa Paraibana de Comunicação, é correto afirmar que

(A) por se tratar de empresa pública, não é recomendável que a empresa fortaleça a sua competitividade, com atenção no setor produtivo e no eixo econômico-social do Estado.

(B) deve ser garantido o incentivo à inovação e assegurada a utilização de tecnologias mais adequadas à gestão da empresa, sempre visando a aceleração de seu crescimento.

(C) a inovação em produtos, processos e modelo de negócios deve ser ponderada e mitigada quando comparados com empresas privadas, dado o caráter público da empresa.

(D) a sustentabilidade da empresa deve levar em conta aspectos regulatórios, ambientais e sociais, prescindindo-se a análise do viés econômico-financeiro.

(E) em respeito ao princípio do concurso público e da isonomia, não é incentivada medida de gestão da diversidade para o acesso aos empregos da empresa.

52. Considere que João é responsável pelo setor de compras da Empresa Paraibana de Comunicação (EPC) e, atendendo a determinação da Diretoria, conseguiu implementar práticas nas contratações que reduziram os custos da empresa com suprimentos. Para celebrar o atingimento das metas, pretende reunir a equipe e fazer uma pequena celebração.

Diante da situação hipotética e do Código de Conduta e Integridade da EPC, é correto afirmar que

(A) a celebração não poderá ser realizada na empresa, pois o Código de Conduta veda esse tipo de comportamento.

(B) a celebração poderá ocorrer, mas está vedado o consumo de bebidas alcoólicas nas dependências da empresa.

(C) a festividade poderá ocorrer na empresa e será permitido o uso moderado de bebidas alcoólicas.

(D) a festividade poderá ocorrer e será permitido o consumo de cigarro em ambiente de uso coletivo parcialmente fechado.

(E) a celebração ocorrerá, pois há disposição expressa no Código de Conduta e Integridade determinando a reserva de recursos para custeio de festividades dessa natureza pela empresa.

53. Considere a hipótese de que João presenciou suspeita que colega de trabalho praticou ato que afronta o Código de Conduta e Integridade da Empresa Paraibana de Comunicação (EPC).

Nessa situação ele deve

(A) apurar se a infração foi efetivamente praticada, pois a simples suspeita não deve subsidiar comunicação aos órgãos de controle interno.

(B) comunicar pessoalmente ao superior hierárquico ou a membro da Comissão de Ética, sem prejuízo de outros canais previstos no Código.

(C) comunicar, no prazo de 10 dias, a Gerência de Recursos Humanos.

(D) manter-se inerte e não apresentar denúncia.

(E) apresentar a denúncia imediatamente a membro da Comissão de Ética, garantida a ampla publicidade do processo investigatório.

54. De acordo com o Estatuto Social, a Empresa Paraibana de Comunicação (EPC) é uma

(A) empresa pública.

(B) sociedade de economia mista.

(C) sociedade limitada.

(D) fundação de direito privado.

(E) Secretaria de Estado.

55. Considere que Maria é ocupante do cargo de Diretora Presidente e viajará para representar a Empresa Paraibana de Comunicação (EPC) em evento mundial sobre comunicação governamental, motivo pelo qual precisará permanecer temporariamente afastada de suas atribuições. Durante o período de afastamento, de acordo com o Estatuto Social, Maria será substituída

(A) por agente designado especificamente para esse fim, por ato do Chefe do Poder Executivo.

(B) pelo Diretor da Empresa indicado pela Assembleia Geral de Acionistas.

(C) pelo Chefe de Gabinete da EPC.

(D) pelo Diretor de Mídia Impressa.

(E) pela Gerência Administrativa e Financeira, na pessoa do Gerente Administrativo e Financeiro.

56. A respeito da Assembleia Geral dos Acionistas da Empresa Paraibana de Comunicação (EPC), com base no Estatuto Social da empresa, assinale a alternativa correta.

(A) A Assembleia Geral dos Acionistas reunir-se-á, ordinariamente, quatro vezes ao ano.

(B) A Assembleia Geral será presidida pelo Chefe do Poder Executivo.

(C) A Assembleia Geral é órgão de deliberação colegiada, composta por cinco membros efetivos, cuja função é a de agilizar o processo de tomada de decisão, sendo competente a, privativamente, decidir sobre qualquer matéria de interesse social.

(D) A Assembleia Geral que os eleger fixará a remuneração do conselho fiscal, que não poderá ser inferior a dez por cento da que for atribuída em média, a cada diretor, não computados benefícios, verbas de representação e participação em lucros.

(E) Compete à Assembleia Geral desempenhar suas funções de monitoramento da gestão e direcionamento estratégico, sujeitos aos objetivos ditados pelo Governo.

57. Considere que Joana, empregada efetiva da Empresa Paraibana de Comunicação (EPC), passou a substituir a sua colega, Maria, que está gozando de férias e possui um salário maior. Nessa situação, com base no Regimento Interno da EPC, Joana

(A) receberá o mesmo salário de Maria, enquanto perdurar a substituição.

(B) permanecerá recebendo o seu salário, sem qualquer adicional.

(C) permanecerá recebendo o seu salário, acrescido de um adicional equivalente a 10% do salário de Maria, calculado *pro rata die*.

(D) receberá o mesmo salário de Maria, acrescido de um adicional equivalente a 10%, calculado *pro rata die*.

(E) receberá o seu salário em dobro, calculado *pro rata die.*

58. De acordo com o Regimento Interno da Empresa Paraibana de Comunicação (EPC), a competência para fiscalizar, por qualquer de seus membros, os atos dos administradores e verificar o cumprimento dos seus deveres legais e estatutários é

(A) do Conselho de Administração.

(B) da Presidência da EPC.

(C) da Assessoria Jurídica da EPC.

(D) da Assembleia Geral.

(E) do Conselho Fiscal.

59. De acordo com o Estatuto Social da Empresa Paraibana de Comunicação (EPC), o Núcleo de Compras e Patrimônio é competente para

(A) controlar e executar ações relacionadas à administração de bens permanentes e de material de consumo.

(B) planejar a utilização de materiais necessários à limpeza e conservação dos bens imóveis, móveis, equipamentos e utensílios.

(C) exercer o assessoramento direto do Diretor Presidente na sua representação política e social.

(D) monitorar e controlar a execução das atividades de abastecimento e manutenção dos veículos à disposição da EPC.

(E) gerenciar as contas da EPC, efetuando aplicações financeiras e resgates, transferências de recursos entre contas e demais ações relacionadas.

60. A respeito das progressões dos empregados da Empresa Paraibana de Comunicação (EPC), com base no Regimento Interno, assinale a alternativa correta.

(A) A progressão na carreira depende de prévia aprovação em concurso interno de provas e títulos.

(B) Para a progressão por desempenho, serão realizadas avaliações de desempenho semestralmente, em data a ser definida pela Gerência Administrativa e Diretoria Administrativa, Financeira e de Pessoas, com todos os empregados de cargos efetivos.

(C) Os critérios para a Progressão Horizontal se darão cumulativamente entre progressão por tempo de serviço e progressão por desempenho.

(D) A progressão horizontal se dará de forma não cumulativa com a progressão por tempo de serviço e ocorrerá independentemente da existência de disponibilidade financeira.

(E) Para a progressão por tempo de serviço, o participante deve estar no mesmo posto de trabalho por três anos ininterruptos e não ter sofrido processo disciplinar.

Atualidades

61. Fugindo de grupos radicais, dezenas de refugiados continuam chegando diariamente ao Aeroporto Internacional de Guarulhos (SP), na região metropolitana de São Paulo. Munidos com o visto humanitário, muitos deles entram no Brasil e, sem conseguir ajuda para a moradia ou trabalho, acabam montando acampamento no aeroporto. Ontem (25 out.), quando a reportagem da Agência Brasil visitou o aeroporto, uma centena deles continuava fazendo do Terminal 2 sua moradia.

(*Diário de Pernambuco*. https://bit.ly/3lqlDMI. 26.10.2022)

A notícia faz referência aos refugiados vindos

(A) da Índia.

(B) da África do Sul.

(C) do Líbano.

(D) do Afeganistão.

(E) do Egito.

62. Em julho de 2022, em Estocolmo (Suécia), António Guterres advertiu que “o bem-estar global está em perigo, em grande parte porque não cumprimos nossas promessas sobre o meio ambiente”.

(UNEP. https://bityli.com/CmmK3Q. 04.06.2022)

António Guterres tem papel de destaque no mundo político mundial e exerce o cargo de

(A) Primeiro ministro da Espanha.

(B) Secretário geral da ONU (Organização das Nações Unidas).

(C) Conselheiro da OEA (Organização dos Estados Americanos).

(D) Ministro do meio ambiente dos Estados Unidos.

(E) Presidente do México.

63. Os investimentos púbicos em infraestrutura vêm decrescendo há cerca de 50 anos, segundo dados do Observatório de Política Fiscal do IBRE/FGV. Segundo recente pesquisa da Confederação Nacional da Indústria (CNI), 73% dos entrevistados indicaram um setor, em especial, como o maior gargalo do setor de infraestrutura brasileiro.

(CNN. https://bit.ly/3JR8uXI. 26.11.2022. Adaptado)

Foi considerado o maior gargalo de infraestrutura o setor de

(A) telecomunicações, pela dificuldade de expansão do 5G.

(B) energia, pelo elevado custo da transmissão.

(C) saúde, com ênfase na deficiência de profissionais qualificados.

(D) saneamento básico, pela pequena oferta disponível.

(E) transportes, com ênfase para as más condições das rodovias.

64. Os primeiros dados que fazem parte do Censo Escolar da Educação Básica foram divulgados, nesta sexta-feira [16 set.], pelo Ministério da Educação.

(*Carta Capital*. https://bit.ly/3xa0862. 16.09.2022)

O Censo Escolar 2022 revelou que

(A) as redes oficiais concentram o maior número de alunos.

(B) a pré-escola atende 95% dos alunos na faixa etária de 6 anos.

(C) a internet está conectada em cerca de 30% da rede escolar brasileira.

(D) o Ensino Fundamental é predominantemente em período integral.

(E) a evasão escolar em todo o ensino básico foi inferior a 5%.

65. A energia, que vem crescendo muito no Brasil, é considerada uma fonte limpa que não produz resíduo ou poluição. Essa energia evitou a emissão de quase 28 milhões de toneladas de CO_2 (dióxido de carbono) na geração de eletricidade.

(*Agência Brasil*. https://bit.ly/3JZzJ2r. 25.12.2022)

A notícia faz referência à energia

(A) hidrelétrica.

(B) da biomassa.

(C) solar.

(D) maremotriz.

(E) geotérmica.

66. Após duas semanas de negociações, as autoridades comemoraram neste domingo [20 nov.] o fim da 27ª Conferência do Clima da ONU, a COP27, que aconteceu no Egito.

(*G1*. https://glo.bo/3XtnzBT. 20.11.2022)

Dentre as determinações tomadas na Conferência, destaca-se a

(A) decisão de atenuar as sanções aos países mais poluidores que geram os maiores impactos para as mudanças climáticas.

(B) liberação gradual do uso do carvão mineral, combustível fóssil muito criticado como principal vilão do aquecimento global.

(C) extinção do mercado internacional de carbono, considerado prejudicial à economia dos países industrializados.

(D) criação de um fundo para ajudar os países pobres que sofrem com os desastres causados pelas mudanças climáticas.

(E) revisão da obrigatoriedade de substituir fontes de energia fósseis por fontes renováveis conforme o Acordo de Paris.

67. A taxa anual de desmatamento do bioma em 2022 foi estimada em 10 689 km^2, segundo os dados oficiais divulgados nesta quarta-feira [14 dez.] pelo Instituto Nacional de Pesquisas Espaciais (INPE). Os dados apresentados mostram que, em 2022, houve aumento de 25% na devastação do bioma em relação ao ano passado. Este é o terceiro ano consecutivo de aumento da destruição.

(WWF. https://bit.ly/3YF9Mt8. 14.12.2022. Adaptado)

A notícia faz referência

(A) ao Pantanal.

(B) ao Cerrado.

(C) à Mata Atlântica.

(D) à Caatinga.

(E) aos Pampas.

68. Em um contexto internacional de alta tensão, muitos receiam que os dois países tenham iniciado um caminho que pode levar a uma crise diplomática, política e até militar, como já aconteceu no passado. A viagem da parlamentar à ilha que um dos países considera parte do seu território, uma província "rebelde", aumentou a tensão até níveis que não eram vistos há décadas.

(UOL. https://bit.ly/3YKjMkM. 09.08.2022. Adaptado)

A notícia faz referência à tensão entre

(A) Japão e China.

(B) Índia e Estados Unidos.

(C) Inglaterra e Índia.

(D) Japão e Inglaterra.

(E) Estados Unidos e China.

69. O Ministro da Saúde fez um pronunciamento em cadeia de rádio e TV na noite deste domingo [06 nov.] pedindo para que os pais e responsáveis vacinem as crianças contra essa doença. Segundo dados do Ministério, a campanha de vacinação que ocorreu em agosto e setembro deste ano [2022] vacinou menos de 70% do público-alvo, composto de crianças de zero a cinco anos. A meta é imunizar 95% das crianças nessa faixa etária em todo o país.

Esta campanha de vacinação é para reduzir os casos de

(A) poliomielite.

(B) HPV.

(C) difteria.

(D) catapora.

(E) caxumba.

70. Até 25 de dezembro [2022], 83,9% da população brasileira já havia sido recenseada, somando 87,7 milhões de domicílios particulares e mais de 178 milhões de pessoas. O censo 2022 está em campo realizando coletas desde 1º de agosto e continuará durante o mês de janeiro de 2023.

(*Valor*. https://glo.bo/3Yl9Ez5. 28.12.2022)

Os dados preliminares do Censo 2022 indicam que

(A) cerca de 40% da população brasileira habita na zona rural.

(B) os idosos já representam 20% do total da população.

(C) o total de habitantes do país é menor do que o esperado.

(D) a população das capitais dos estados permaneceu semelhante a 2015.

(E) as taxas de natalidade estão mais elevadas do que em 2010.

CONHECIMENTOS ESPECÍFICOS

71. Durante a transmissão de um programa "ao vivo" na TV, o apresentador esportivo está com dificuldades para decorar o texto a ser apresentado. Para ajudá-lo, os produtores colocam o texto escrito em uma cartolina logo à frente e ao lado da câmera. Além disso, os produtores deixam um papel com o mesmo texto camuflado perto da bancada. Essa técnica tem o nome de uma flor e é chamada

(A) Azaleia.

(B) Camélia.

(C) Dália.

(D) Hortênsia.

(E) Rosa.

72. No dia 16 de julho de 1983, o estádio do Maracanã foi palco de uma partida amistosa entre as seleções de voleibol do Brasil e da então União Soviética. O Brasil venceu por três *sets* a um, e o jogo foi disputado em uma quadra montada no centro do gramado do estádio. O grande desafio de vôlei teve a presença de mais de 95 mil pagantes e foi um marco na história do esporte e da mídia nacional. O amistoso foi transmitido no Brasil pela Rede

(A) Bandeirantes.

(B) Gazeta.

(C) Globo.

(D) Manchete.

(E) Record.

73. A seleção brasileira de basquete feminino conquistou o título do campeonato mundial na Austrália, em 1994, e a prata olímpica nos Jogos de Atlanta, em 1996. Anos depois, o treinador dessa equipe foi convidado para trabalhar como comentarista em diversas emissoras de televisão. O nome dele é

(A) Antônio Carlos Barbosa.

(B) Antônio Carlos Vendramini.

(C) José Alves dos Santos Neto.

(D) Miguel Angelo da Luz.

(E) Paulo Roberto Bassul Campos.

74. O programa "Hora da Ginástica" foi transmitido por diversas emissoras de rádio brasileiras, ininterruptamente, de 1932 a 1983, e foi comandado pelo professor

(A) Alfredo Colombo.

(B) Inezil Penna Marinho.

(C) Jacintho Francisco Targa.

(D) Manoel José Gomes Tubino.

(E) Oswaldo Diniz Magalhães.

75. As competições esportivas transmitidas pela TV têm utilizado o Árbitro Assistente de Vídeo ou VAR, que é a sigla em inglês para

(A) *Video Assistand Referee*.

(B) *Video Assistant Referee*.

(C) *Video Assistant Reference*.

(D) *Videos Assistands References*.

(E) *Videos Assistands Referees*.

76. "Ripa na chulipa e pimba na gorduchinha" é um bordão que ficou conhecido pela voz do locutor

(A) Fiori Gigliotti.

(B) José Carlos Araújo.

(C) José Silvério.

(D) Osmar Santos.

(E) Silvio Luiz.

77. O site da ACEPb informa que a associação é uma sociedade civil sem fins econômicos, com tempo de duração indeterminado, e sem qualquer discriminação de raça, cor, sexo ou religião. Fundada em 13 de maio de 1954, aprovada em assembleia em 21 de julho do mesmo ano, porém só registrada no cartório notarial e registral da capital do estado da Paraíba em 19 de setembro de 1957, é uma pessoa jurídica de direito privado, classificada como associação, nos termos da Constituição Federal, e dos artigos 44 I e 54 a 61 do Código Civil.

É a única entidade legalmente constituída reconhecida na Paraíba de utilidade Pública Estadual (Lei nº 3.811 de 14 de novembro de 1975), para a realização de credenciamento dos jornalistas, fotógrafos e radialistas esportivos do Estado da Paraíba, que inclui também todo o pessoal que atua na área técnica das coberturas esportivas.

A ACEPb tem, entre outros objetivos, representar e defender os direitos sociais dos seus associados junto a órgãos públicos, sindicatos, empresas, instituições, com federações, clubes esportivos profissionais ou amadores; ou credenciá-los para livre acesso a todas as suas dependências, inclusive estádios, ginásios e praças esportivas públicas ou privadas, etc., possibilitando-lhes exercer suas atividades profissionais em local de trabalho facilitado.

Logo, a ACEPb é a sigla da Associação dos

(A) Comunicadores Esportivos da Paraíba.

(B) Comentaristas Esportivos da Paraíba.

(C) Cronistas Esportivos da Paraíba.

(D) Comunicadores Esportivos do Estado da Paraíba.

(E) Comentaristas de Esportes do Estado da Paraíba.

78. O compositor Ary Barroso (1903-1964) teve destaque como narrador de futebol, sendo lembrado pelo uso de um instrumento musical em suas locuções esportivas, trata-se da

(A) corneta.

(B) cuíca.

(C) flauta.

(D) gaita.

(E) sanfona.

79. Em 2005, Diego Armando Maradona entrevistou Edson Arantes do Nascimento (Pelé) na estreia de um dos programas mais famosos da história da televisão argentina e mundial. Assinale a alternativa que apresenta o nome desse programa, que foi lembrado durante as homenagens pelo falecimento desses ídolos do esporte no Brasil, em 2020 e 2022.

(A) *Armando con amigos*.

(B) *La Noche del Diez*.

(C) *Maradona entrevista*.

(D) *Solo 10*.

(E) *Viva Diego!*.

80. O texto com informações complementares veiculado após uma matéria jornalística em uma emissora de rádio é chamado

(A) nota-pé.

(B) nota-coberta.

(C) nota-pelada.

(D) retranca.

(E) rubrica.

81. A sinuca foi uma das modalidades transmitidas pelo programa Show do Esporte da Rede Bandeirantes de Televisão. A atração ficou no ar entre os anos 1980 e 1990. Na época, a principal estrela da modalidade no Brasil era um famoso jogador, nascido em Itabuna, na Bahia, que chegou a enfrentar o inglês Steve Davis, chamado de o "Pelé da Sinuca" e ex-campeão mundial. Esse jogador baiano era conhecido como

(A) Baiano do Snooker.

(B) Bola 8.

(C) Joãozinho da Sinuca.

(D) Sérgio do Bilhar.

(E) Rui Chapéu.

82. Na televisão, os narradores apresentam um resumo estatístico, geralmente no final das competições esportivas, que pode ser analisado pela equipe de jornalismo ou mesmo pelos telespectadores. Esse resumo é conhecido no meio esportivo e midiático por um termo em inglês denominado

(A) *coach*.

(B) *fair*.

(C) *scout*.

(D) *stands*.

(E) *timeout*.

83. Considere o seguinte cenário:

Durante uma transmissão esportiva de futebol no rádio, são emitidas mensagens, semelhantes ao *spot*, de curta duração, com média entre cinco e sete segundos.

Essa forma de publicidade é chamada

(A) texto-foguete.

(B) roda.

(C) pantone.

(D) notinha PP.

(E) curtinha.

84. Para editar um programa esportivo, o radialista precisa, antes de começar, identificar o trecho de uma entrevista gravada pelo repórter e que será usado neste mesmo programa. Sendo assim, após a identificação, o radialista deve

(A) assinalar a cabeça de matéria e, depois, editar a reportagem sem a sonora solicitada para identificação.

(B) fazer a edição da sonora ou do depoimento gravado a ser utilizado no programa.

(C) regravar o depoimento a ser utilizado no programa, imediatamente, sem cortes e sem edição.

(D) pedir ao repórter que entregue a reportagem já editada, sem que ele (radialista) precise identificar o trecho de uma entrevista.

(E) ouvir o que está sendo transmitido "ao vivo" e gravar a sonora solicitada.

85. João Alves Jobim Saldanha (1917-1990) foi treinador da seleção brasileira de futebol masculino em um determinado período entre 1969 e 1970. Saldanha também era cronista esportivo e, logo no início de seu trabalho na seleção, os jogadores convocados por ele foram chamados de:

(A) As Feras do Saldanha.

(B) Os Craques Canarinhos.

(C) As Estrelas Amarelas.

(D) Os Gênios do Brasil.

(E) Os Mestres Tupiniquins.

86. Considere o seguinte caso: um profissional vai ilustrar uma reportagem que será exibida por um veículo de comunicação como a televisão ou a internet. Assinale a alternativa que apresenta um procedimento fora dos padrões éticos e de responsabilidade que devem ser adotados neste caso.

(A) Usar imagens do YouTube relacionadas à reportagem, sem checar sua veracidade.

(B) Produzir imagens por *softwares* de computação gráfica da equipe de produção.

(C) Usar imagens externas captadas por profissionais credenciados do veículo de comunicação.

(D) Usar imagens disponibilizadas no perfil oficial de atletas, no Twitter, comunicando a fonte à audiência.

(E) Usar imagens de arquivo pertencentes ao veículo de comunicação.

87. Considere o seguinte: a narração do locutor é a espinha dorsal do _____ radiofônico-padrão, cujo tema é o futebol. Os dados apresentados serão ampliados ou contra-argumentados pela narração dos entrevistados (que aparecerão como _____). Portanto, a voz do locutor que narra poderá ser usada em _____.

Assinale a alternativa que preenche, correta e respectivamente, as lacunas do texto.

(A) documentário … fontes … *out of record*

(B) especial … sonoras … *on the record*

(C) especial … sonoras … *pitch*

(D) documentário … sonoras … *off*

(E) boletim … fontes … *play-list*

88. Os diretores e os produtores da área audiovisual devem estar atentos à estrutura interna ideal de um estúdio de gravação de rádio ou de TV. É necessário seguir alguns parâmetros específicos para que a gravação não seja comprometida. Uma das consequências da falta desses cuidados é a produção de um som conhecido por "ruído branco". Assinale a alternativa que apresenta uma fragilidade no estúdio de forma a favorecer a ocorrência do ruído branco.

(A) Paredes revestidas de materiais isolantes.

(B) Porta maciça e com fechamento hermético.

(C) Ausência de janelas com acesso ao exterior.

(D) Piso com carpete ou macio e material absorvente.

(E) Condicionador de ar comum, do tipo residencial.

89. A primeira narração radiofônica detalhada de uma partida de futebol no Brasil coube a um locutor que ficou conhecido como "*speaker* metralhadora". A transmissão ocorreu durante um jogo entre as seleções de São Paulo e do Paraná. Os nomes do locutor e da emissora de rádio onde ocorreu o fato mencionado são, respectivamente:

(A) Fiori Gigliotti; Rádio Bandeirantes.

(B) Nicolau Tuma; Rádio Sociedade Educadora Paulista.

(C) José Geraldo de Almeida; Rádio Record.

(D) Ary Barroso; Rádio Cruzeiro do Sul.

(E) Osmar Santos; Rádio Globo.

90. A Corrida Internacional de São Silvestre é a prova de rua mais importante do Brasil e integra o calendário oficial de corridas de rua da Associação Internacional das Federações de Atletismo. O crescimento da importância da São Silvestre passa, também, por uma medida adotada por um veículo de comunicação em 1948, em São Paulo, quando

(A) a TV Globo começou a transmitir a corrida para todo o Brasil e conseguiu o aumento imediato na audiência.

(B) a Rádio Bandeirantes sorteou aparelhos de rádio para o vencedor da prova e para o segundo colocado.

(C) a Rádio Gazeta adquiriu uma viatura para reportagem equipada com radiotransmissores em frequência modulada para transmitir ao vivo a prova.

(D) o jornal O Estado de S. Paulo publicou uma matéria sobre a corrida e que denunciava os perigos de se disputar aquela prova.

(E) a Revista Placar publicou uma série de reportagens ilustradas sobre os corredores internacionais que disputariam a corrida.

91. Assinale a alternativa que está em desacordo com os seguintes formatos radiofônicos que aparecem frequentemente durante transmissões de programas esportivos pelo rádio.

(A) Notícia.

(B) Reportagem.

(C) Nota.

(D) Rádio-conselho.

(E) Entrevista.

92. Assinale a alternativa que está em desacordo com os conceitos e com a prática do jornalismo esportivo no Brasil.

(A) O(a) jornalista esportivo(a) divulga e incentiva as modalidades do esporte que são menos conhecidas e, para isso, utiliza os meios de comunicação.

(B) O jornalismo esportivo é uma área especializada do jornalismo que tem interfaces com o esporte, o lazer, a saúde, entre outras.

(C) O jornalismo esportivo deve divulgar os acontecimentos do esporte: desde o conceito de esporte como ferramenta de inclusão social até as notícias especializadas de modalidades esportivas de alto rendimento.

(D) Ao produzir o conteúdo, o(a) jornalista esportivo(a) deve ter em mente que está lidando com a paixão que o esporte desperta no público.

(E) O jornalismo esportivo deve atribuir mais importância ao futebol, esporte da massa no país, e não se preocupar com as demais modalidades esportivas.

93. Quando se aborda a locução esportiva em emissoras de rádio, é correto afirmar que há algumas regras para que o(a) locutor(a) seja um instrumento de ligação mais efetivo entre o ouvinte e a emissora. Baseando-se neste princípio, analise proposições a seguir:

I. Uma das qualidades de um(a) locutor(a) consiste na máxima naturalidade de sua voz que, porém, ela deve ser treinada.

II. A modulação da voz deve ser dominada pelo(a) profissional e aplicada corretamente durante a narração de uma competição esportiva.

III. A intensidade da voz durante a narração de um gol, em um jogo de futebol, tende a ser fraquíssima.

Assinale a alternativa correta.

(A) Estão corretas apenas as afirmações I e II.

(B) Estão corretas apenas as afirmações I e III.

(C) Estão corretas apenas as afirmações II e III.

(D) Está correta apenas a afirmação I.

(E) Está correta apenas a afirmação II.

94. É aconselhável que o narrador esportivo se mantenha bem informado sobre os temas que envolvem o esporte e, para isso, tem como opção conteúdos especializados no Brasil. Assinale a alternativa que indica uma empresa com sede fora do Brasil.

(A) GE (Globo Esporte).

(B) Revista Placar.

(C) Programa Redação SPORTV.

(D) Olé.

(E) Lance (online).

95. Assinale a alternativa que indica o termo técnico que é usualmente utilizado em roteiros para televisão.

(A) Boneco.

(B) *Clipping*.

(C) GC.

(D) *Hertz*.

(E) *Mailing*.

96. Considere o seguinte cenário: um programa de televisão que veicula entrevistas com personagens do mundo esportivo estreou hoje. Todos os jornalistas e os produtores que participaram dos processos de pré-produção e da entrevista, realizada ao vivo, seguiram alguns procedimentos-padrão, mas um deles cometeu um erro que comprometeu a entrevista. Assinale a alternativa que demonstra o problema ocorrido.

(A) No início da entrevista, o jornalista (entrevistador) fez um rápido *briefing* para o telespectador sobre quem era o seu entrevistado.

(B) A pauta foi redigida e entregue ao jornalista (entrevistador) após o término da entrevista.

(C) Na fase de pré-produção, a vinheta que anunciará sempre o programa foi definida e produzida.

(D) O jornalista (entrevistador) controlou três funções distintas durante a entrevista: o direcionamento, as perguntas suplementares ou de improviso e o tempo.

(E) O jornalista (entrevistador) realizou a entrevista com o objetivo de revelar aspectos da personalidade do entrevistado.

97. Em janeiro de 2023, a ministra do Esporte no governo federal, Ana Moser, concedeu uma entrevista ao portal UOL e provocou polêmica que repercutiu nas mídias, como o rádio e a TV. A ministra afirmou que eSport não é esporte 'raiz' e que o ministério não investiria neste segmento que, segundo Ana Moser, é um entretenimento. Independentemente da polêmica em torno do conceito sobre eSport, é correto afirmar que

(A) a imprensa esportiva brasileira não realiza cobertura olímpica que envolva o eSport.

(B) o eSport é prioridade na cobertura dos esportes comunitários das principais emissoras de tv do país.

(C) o jornalismo esportivo nas emissoras de rádio do Brasil privilegia a cobertura do eSport.

(D) o eSport, enquanto modalidade paralímpica, recebe atenção da mídia brasileira.

(E) os conceitos de entretenimento e esporte são os mesmos.

98. O tipo – também denominado formato – de programa de rádio constituído pela opinião de convidados ou participantes que se aprofundam em temas da atualidade, debatendo-os, é definido como:

(A) Mesa Lateral.

(B) Mesa Complexa.

(C) Mesa Redonda.

(D) Mesa Triangular.

(E) Mesa de Amigos.

99. O narrador esportivo deve dominar amplamente as técnicas de locução e expressão vocal pelo fato de que mistura informação e emoção e descreve um evento esportivo em detalhes. O narrador esportivo mexe com a _____ do ouvinte e fornece a ele uma visão do que acontece.

Assinale a alternativa que preenche corretamente a lacuna e melhor se adequa ao conceito sobre as características do rádio enquanto meio de comunicação.

(A) coragem.

(B) atitude.

(C) oralidade.

(D) sensorialidade.

(E) fome.

100. Considerando a legislação básica do radialista no Brasil, a função do profissional responsável pela produção e pela transmissão dos programas e eventos esportivos é a de

(A) Diretor de eventos.

(B) Diretor artístico.

(C) Diretor musical.

(D) Diretor de dublagem.

(E) Diretor esportivo.